かけ算 6

◎ 4のだん の 九九

1

日にち：　　月　　日

名まえ

クローバーの はは 何まい？	しきを かきましょう	となえ方
	し いち が し 4 × 1 = 4	しいち が **し**
	し に が はち 4 × 2 = 8	しに が **はち**
	4 × 3 =	しさん **じゅうに**
	4 × 4 =	ししじゅうろく
	4 × 5 =	しご **にじゅう**
	4 × 6 =	しろく **にじゅうし**
	4 × 7 =	ししち **にじゅうはち**
	4 × 8 =	しは **さんじゅうに**
	4 × 9 =	しく **さんじゅうろく**

① 例題

すらすらぷりんと

かけ算 6

◎ 4のだん の 九九

2

日にち：　　月　　日

名まえ

クローバーの はは 何まい ？	しきを かきましょう	となえ方
	➡ 4 × 1 ＝ 4	しいち が し
	4 × 2 ＝	しに が はち
		しさん じゅうに
		ししじゅうろく
		しご にじゅう
		しろく にじゅうし
		ししち にじゅうはち
		しは さんじゅうに
		しく さんじゅうろく

すらすらぷりんと

かけ算 6

◎ 4のだん の 九九

3

日にち：　　月　　日

名まえ

ぜんぶで いくつ でしょう？									しきを かきましょう	となえ方
4									4 × 1 = 4	しいち が し
4	4								4 × 2 =	しに が はち
4	4	4							4 × 3 =	しさん じゅうに
4	4	4	4						4 × 4 =	ししじゅうろく
4	4	4	4	4					4 × 5 =	しごにじゅう
4	4	4	4	4	4				4 × 6 =	しろくにじゅうし
4	4	4	4	4	4	4			4 × 7 =	ししちにじゅうはち
4	4	4	4	4	4	4	4		4 × 8 =	しはさんじゅうに
4	4	4	4	4	4	4	4	4	4 × 9 =	しくさんじゅうろく

すらすらぷりんと

かけ算 6

◎ 4のだん の 九九 4

日にち：　　月　　日

名まえ

ぜんぶで いくつ でしょう？									しきを かきましょう	となえ方
4									➡ 4 × 1 ＝ 4	しいち が し
4	4								4 × 2 ＝	しに が はち
4	4	4								しさん じゅうに
4	4	4	4							ししじゅうろく
4	4	4	4	4						しごにじゅう
4	4	4	4	4	4					しろくにじゅうし
4	4	4	4	4	4	4				ししちにじゅうはち
4	4	4	4	4	4	4	4			しはさんじゅうに
4	4	4	4	4	4	4	4	4		しくさんじゅうろく

すらすらぷりんと



かけ算 6

◎ 4のだん の 九九

5

日にち：　　月　　日

名まえ

1. 九九を こえに だして 読みながら しきを 書こう

しいち が し ➡	4 × 1 = 4（し いち が し）
しに が はち	4 × 2 = 8（し に が はち）
しさん じゅうに	4 × 3 =
ししじゅうろく	4 × 4 =
しご にじゅう	4 × 5 =
しろく にじゅうし	4 × 6 =
ししち にじゅうはち	4 × 7 =
しは さんじゅうに	4 × 8 =
しく さんじゅうろく	4 × 9 =

2. つぎの □ に あてはまる 数を 書こう

4 → 8 → 12 → □ → 20 → 24 → □ → □ → 36

すらすらぷりんと



かけ算 6

◎ 4のだん の 九九

6

日にち：　　月　　日

名まえ

1. 九九を こえに だして 読みながら しきを 書こう

しいち が し ➡	4 × 1 = 4
しに が はち	4 × 2 =
しさん じゅうに	
ししじゅうろく	
しご にじゅう	
しろく にじゅうし	
ししち にじゅうはち	
しは さんじゅうに	
しく さんじゅうろく	

2. つぎの □ に あてはまる 数を 書こう

4 → 8 → 12 → □ → 20 → □ → □ → □ → 36

すらすらぷりんと



かけ算 6

◎ 4のだん の 九九

7

日にち：　　月　　日

名まえ

1. 九九を こえに だして 読みながら しきを 書こう

しいち が し	➡ 4 × 1 =
しに が はち	
しさん じゅうに	
ししじゅうろく	
しご にじゅう	
しろく にじゅうし	
ししち にじゅうはち	
しは さんじゅうに	
しく さんじゅうろく	

2. つぎの けいさんを しましょう

① 4 × 1 =

② 4 × 3 =

③ 4 × 5 =

④ 4 × 7 =

3. 4×3は 4×2よりも いくつ大きいですか

答え：

すらすらぷりんと

かけ算 6

◎ 4のだん の 九九

8

日にち：　　月　　日

名まえ

1. 九九を こえに だして 読みながら しきを 書こう

しいち が し	➡ 4 × 1 =
しに が はち	
しさん じゅうに	
ししじゅうろく	
しご にじゅう	
しろく にじゅうし	
ししち にじゅうはち	
しは さんじゅうに	
しく さんじゅうろく	

2. つぎの けいさんを しましょう

① 4 × 2 =

② 4 × 4 =

③ 4 × 6 =

④ 4 × 8 =

3. 4×5は 4×4よりも いくつ大きいですか

答え：

すらすらぷりんと



かけ算 6

◎ 4のだん の 九九

9

日にち：　　月　　日

名まえ

1. 九九を こえに だして 読みながら しきを 書こう

しいち が し ➡	
しに が はち	
しさん じゅうに	
ししじゅうろく	
しご にじゅう	
しろく にじゅうし	
ししち にじゅうはち	
しは さんじゅうに	
しく さんじゅうろく	

2. つぎの けいさんを しましょう

① 4 × 3 ＝

② 4 × 6 ＝

③ 4 × 2 ＝

④ 4 × 9 ＝

3. 4×9は 4×8よりも いくつ大きいですか

答え：

すらすらぷりんと



かけ算 6

◎ 4のだん の 九九

10

日にち：　　月　　日

名まえ

1. つぎの □ に あてはまる 数を 書こう

4 → 8 → □ → □ → 20 → □ → □ → □ → □



2. つぎの けいさんを しましょう

① 4 × 5 ＝

② 4 × 7 ＝

③ 4 × 3 ＝

④ 4 × 9 ＝

⑤ 4 × 4 ＝

すらすらぷりんと

かけ算 6

◎ 4のだん の 九九

日にち：　　月　　日

名まえ

1. つぎの □ に あてはまる 数を 書こう

4 → 8 → □ → □ → □ → 24 → □ → □ → □



2. つぎの けいさんを しましょう

① 4 × 8 ＝

② 4 × 2 ＝

③ 4 × 5 ＝

④ 4 × 7 ＝

⑤ 4 × 6 ＝

すらすらぷりんと



かけ算 6

◎ 4のだん の 九九

12

日にち：　　月　　日

名まえ

1. つぎの □ に あてはまる 数を 書こう

4 → 8 → □ → □ → □ → 28 → □ → □



2. つぎの けいさんを しましょう

① 4 × 4 ＝

② 4 × 9 ＝

③ 4 × 1 ＝

④ 4 × 3 ＝

⑤ 4 × 7 ＝

すらすらぷりんと



かけ算 6

◎ 4のだん の 九九

13

日にち：　　月　　日

名まえ

1. つぎの □ に あてはまる 数を 書こう

4 → □ → 12 → □

□ → □ → □ → □

□



2. つぎの けいさんを しましょう

① 4 × 2 ＝

② 4 × 5 ＝

③ 4 × 8 ＝

④ 4 × 9 ＝

⑤ 4 × 4 ＝

すらすらぷりんと



かけ算 6

◎ 4のだん の 九九

14

日にち：　　月　　日

名まえ

1. つぎの □ に あてはまる 数を 書こう

4 → □ → □ → 16 → □ → □ → □ → □ → □



2. つぎの けいさんを しましょう

① 4 × 7 ＝

② 4 × 6 ＝

③ 4 × 2 ＝

④ 4 × 5 ＝

⑤ 4 × 3 ＝

すらすらぷりんと

かけ算 6

◎ 4のだん の 九九

15

日にち：　　月　　日

名まえ

てん

1. つぎの □ に あてはまる 数を 書こう

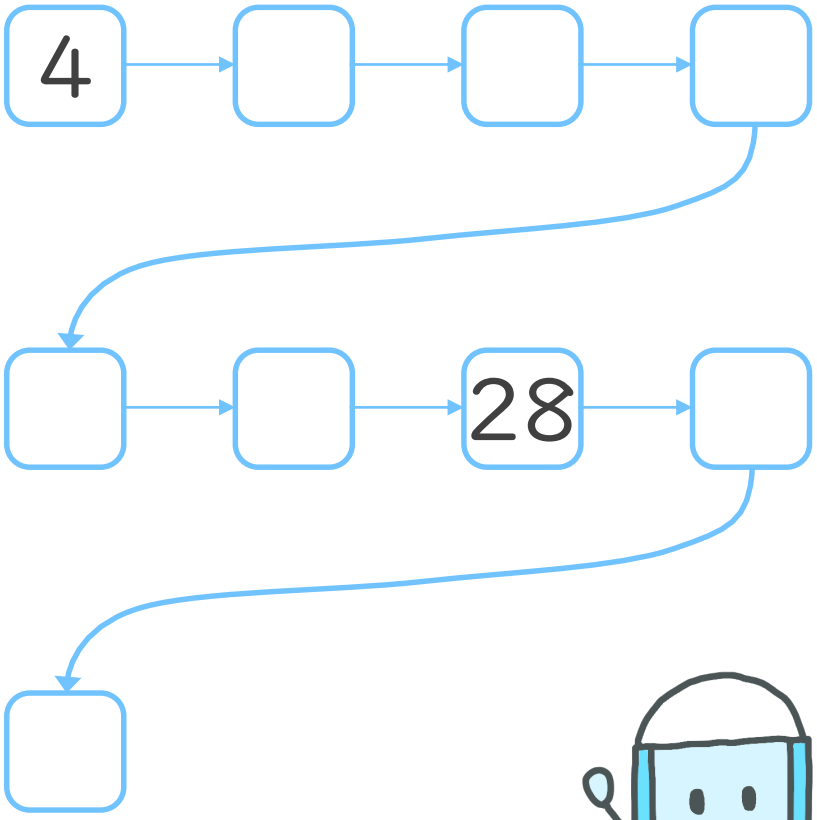



2. つぎの けいさんを しましょう

① 4 × 8 ＝

② 4 × 2 ＝

③ 4 × 5 ＝

④ 4 × 6 ＝

⑤ 4 × 9 ＝

すらすらぷりんと

かけ算 6

◎ 4のだん の 九九

16

日にち：　　月　　日

名まえ

てん

1. つぎの □ に あてはまる 数を 書こう

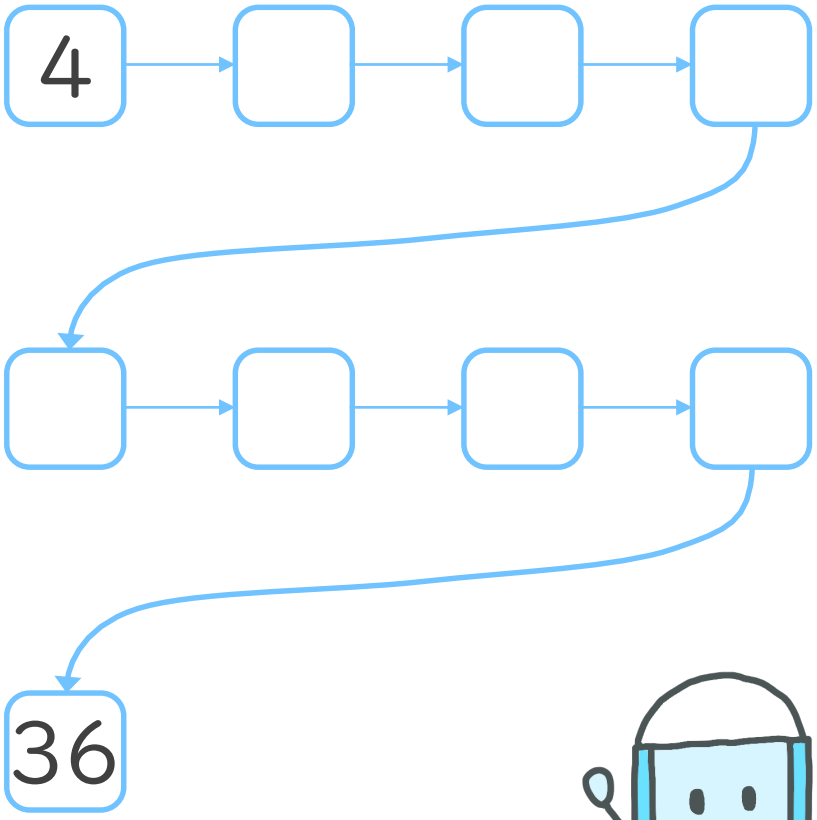



2. つぎの けいさんを しましょう

① 4 × 3 ＝

② 4 × 8 ＝

③ 4 × 4 ＝

④ 4 × 7 ＝

⑤ 4 × 2 ＝

すらすらぷりんと

かけ算 6

◎ 4のだん の 九九

1

日にち：　　月　　日

名まえ

クローバーの はは 何まい ？	しきを かきましょう	となえ方
	4（し） × 1（いち） ＝ 4（し）	しいち が し
	4（し） × 2（に） ＝ 8（はち）	しに が はち
	4 × 3 ＝ 12	しさん じゅうに
	4 × 4 ＝ 16	ししじゅうろく
	4 × 5 ＝ 20	しごにじゅう
	4 × 6 ＝ 24	しろくにじゅうし
	4 × 7 ＝ 28	ししちにじゅうはち
	4 × 8 ＝ 32	しはさんじゅうに
	4 × 9 ＝ 36	しくさんじゅうろく

① 例題 答え

すらすらぷりんと

かけ算 6

◎ 4のだん の 九九

2

日にち：　　月　　日

名まえ

クローバーの はは 何まい ？	しきを かきましょう	となえ方
	4 × 1 ＝ 4	しいち が し
	4 × 2 ＝ 8	しに が はち
	4 × 3 ＝ 12	しさん じゅうに
	4 × 4 ＝ 16	ししじゅうろく
	4 × 5 ＝ 20	しごにじゅう
	4 × 6 ＝ 24	しろくにじゅうし
	4 × 7 ＝ 28	ししちにじゅうはち
	4 × 8 ＝ 32	しはさんじゅうに
	4 × 9 ＝ 36	しくさんじゅうろく

すらすらぷりんと

かけ算 6

◎ 4のだん の 九九

3

日にち：　　月　　日

名まえ

ぜんぶで いくつ でしょう？	しきを かきましょう	となえ方
4	4 × 1 = 4	しいち が し
4 4	4 × 2 = 8	しに が はち
4 4 4	4 × 3 = 12	しさん じゅうに
4 4 4 4	4 × 4 = 16	ししじゅうろく
4 4 4 4 4	4 × 5 = 20	しごにじゅう
4 4 4 4 4 4	4 × 6 = 24	しろくにじゅうし
4 4 4 4 4 4 4	4 × 7 = 28	ししちにじゅうはち
4 4 4 4 4 4 4 4	4 × 8 = 32	しはさんじゅうに
4 4 4 4 4 4 4 4 4	4 × 9 = 36	しくさんじゅうろく

すらすらぷりんと

かけ算 6

◎ 4のだん の 九九 4

日にち：　　月　　日

名まえ

ぜんぶで いくつ でしょう？									しきを かきましょう	となえ方
4									➡ 4 × 1 ＝ 4	しいち が し
4	4								4 × 2 ＝ 8	しに が はち
4	4	4							4 × 3 ＝ 12	しさん じゅうに
4	4	4	4						4 × 4 ＝ 16	ししじゅうろく
4	4	4	4	4					4 × 5 ＝ 20	しごにじゅう
4	4	4	4	4	4				4 × 6 ＝ 24	しろくにじゅうし
4	4	4	4	4	4	4			4 × 7 ＝ 28	ししちにじゅうはち
4	4	4	4	4	4	4	4		4 × 8 ＝ 32	しはさんじゅうに
4	4	4	4	4	4	4	4	4	4 × 9 ＝ 36	しくさんじゅうろく

すらすらぷりんと



かけ算 6

◎ 4のだん の 九九

5

日にち：　　月　　日

名まえ

1. 九九を こえに だして 読みながら しきを 書こう

しいち が し ➡	4（し） × 1（いち） = 4（し）
しに が はち	4（し） × 2（に） = 8（はち）
しさん じゅうに	4 × 3 = 12
ししじゅうろく	4 × 4 = 16
しご にじゅう	4 × 5 = 20
しろく にじゅうし	4 × 6 = 24
ししち にじゅうはち	4 × 7 = 28
しは さんじゅうに	4 × 8 = 32
しく さんじゅうろく	4 × 9 = 36

2. つぎの □ に あてはまる 数を 書こう

4 → 8 → 12 → 16 → 20 → 24 → 28 → 32 → 36

すらすらぷりんと



かけ算 6

◎ 4のだん の 九九

6

日にち：　　月　　日

名まえ

1. 九九を こえに だして 読みながら しきを 書こう

しいち が し ➡	4 × 1 = 4
しに が はち	4 × 2 = 8
しさん じゅうに	4 × 3 = 12
ししじゅうろく	4 × 4 = 16
しご にじゅう	4 × 5 = 20
しろく にじゅうし	4 × 6 = 24
ししち にじゅうはち	4 × 7 = 28
しは さんじゅうに	4 × 8 = 32
しく さんじゅうろく	4 × 9 = 36

2. つぎの □ に あてはまる 数を 書こう

4 → 8 → 12 → 16 → 20 → 24 → 28 → 32 → 36

すらすらぷりんと

かけ算 6

◎ 4のだん の 九九

7

日にち：　　月　　日

名まえ

1. 九九を こえに だして 読みながら しきを 書こう

しいち が し	4 × 1 = 4
しに が はち	4 × 2 = 8
しさん じゅうに	4 × 3 = 12
ししじゅうろく	4 × 4 = 16
しご にじゅう	4 × 5 = 20
しろく にじゅうし	4 × 6 = 24
ししち にじゅうはち	4 × 7 = 28
しは さんじゅうに	4 × 8 = 32
しく さんじゅうろく	4 × 9 = 36

2. つぎの けいさんを しましょう

① 4 × 1 = 4

② 4 × 3 = 12

③ 4 × 5 = 20

④ 4 × 7 = 28

3. 4×3は 4×2よりも いくつ大きいですか

答え：　4

すらすらぷりんと

かけ算 6

◎ 4のだん の 九九

8

日にち：　　月　　日

名まえ

1. 九九を こえに だして 読みながら しきを 書こう

しいち が し	4 × 1 = 4
しに が はち	4 × 2 = 8
しさん じゅうに	4 × 3 = 12
ししじゅうろく	4 × 4 = 16
しご にじゅう	4 × 5 = 20
しろく にじゅうし	4 × 6 = 24
ししち にじゅうはち	4 × 7 = 28
しは さんじゅうに	4 × 8 = 32
しく さんじゅうろく	4 × 9 = 36

2. つぎの けいさんを しましょう

① 4 × 2 = 8

② 4 × 4 = 16

③ 4 × 6 = 24

④ 4 × 8 = 32

3. 4×5は 4×4よりも いくつ大きいですか

答え：　4

すらすらぷりんと

かけ算 6

◎ 4のだん の 九九

9

日にち：　　月　　日

名まえ

1. 九九を こえに だして 読みながら しきを 書こう

しいち が し	4 × 1 = 4
しに が はち	4 × 2 = 8
しさん じゅうに	4 × 3 = 12
ししじゅうろく	4 × 4 = 16
しご にじゅう	4 × 5 = 20
しろく にじゅうし	4 × 6 = 24
ししち にじゅうはち	4 × 7 = 28
しは さんじゅうに	4 × 8 = 32
しく さんじゅうろく	4 × 9 = 36

2. つぎの けいさんを しましょう

① 4 × 3 = 12

② 4 × 6 = 24

③ 4 × 2 = 8

④ 4 × 9 = 36

3. 4×9は 4×8よりも いくつ大きいですか

答え：　4

すらすらぷりんと

かけ算 6

◎ 4のだん の 九九　10

日にち：　　月　　日

名まえ

1. つぎの □ に あてはまる 数を 書こう

4 → 8 → 12 → 16 → 20 → 24 → 28 → 32 → 36



2. つぎの けいさんを しましょう

① 4 × 5 ＝ 20

② 4 × 7 ＝ 28

③ 4 × 3 ＝ 12

④ 4 × 9 ＝ 36

⑤ 4 × 4 ＝ 16

すらすらぷりんと



かけ算 6

◎ 4のだん の 九九

日にち：　　月　　日

名まえ

1. つぎの □ に あてはまる 数を 書こう

4 → 8 → 12 → 16 → 20 → 24 → 28 → 32 → 36



2. つぎの けいさんを しましょう

① 4 × 8 ＝ 32

② 4 × 2 ＝ 8

③ 4 × 5 ＝ 20

④ 4 × 7 ＝ 28

⑤ 4 × 6 ＝ 24

すらすらぷりんと



かけ算 6

◎ 4のだん の 九九

12

日にち：　　月　　日

名まえ

1. つぎの □ に あてはまる 数を 書こう

4 → 8 → 12 → 16 → 20 → 24 → 28 → 32 → 36



2. つぎの けいさんを しましょう

① 4 × 4 ＝ 16

② 4 × 9 ＝ 36

③ 4 × 1 ＝ 4

④ 4 × 3 ＝ 12

⑤ 4 × 7 ＝ 28

すらすらぷりんと



かけ算 6

◎ 4のだん の 九九

13

日にち：　　月　　日

名まえ

1. つぎの □ に あてはまる 数を 書こう

4 → 8 → 12 → 16 → 20 → 24 → 28 → 32 → 36



2. つぎの けいさんを しましょう

① 4 × 2 ＝ 8

② 4 × 5 ＝ 20

③ 4 × 8 ＝ 32

④ 4 × 9 ＝ 36

⑤ 4 × 4 ＝ 16

すらすらぷりんと



かけ算 6

◎ 4のだん の 九九

14

日にち：　　月　　日

名まえ

1. つぎの □ に あてはまる 数を 書こう

4 → 8 → 12 → 16 → 20 → 24 → 28 → 32 → 36



2. つぎの けいさんを しましょう

① 4 × 7 ＝ 28

② 4 × 6 ＝ 24

③ 4 × 2 ＝ 8

④ 4 × 5 ＝ 20

⑤ 4 × 3 ＝ 12

すらすらぷりんと



かけ算 6

◎ 4のだん の 九九

15

日にち：　　月　　日

名まえ

てん

1. つぎの □ に あてはまる 数を 書こう

4 → 8 → 12 → 16 → 20 → 24 → 28 → 32 → 36



2. つぎの けいさんを しましょう

① 4 × 8 ＝ 32

② 4 × 2 ＝ 8

③ 4 × 5 ＝ 20

④ 4 × 6 ＝ 24

⑤ 4 × 9 ＝ 36

すらすらぷりんと



かけ算 6

◎ 4のだん の 九九

16

日にち：　　月　　日

名まえ

てん

1. つぎの □ に あてはまる 数を 書こう

4 → 8 → 12 → 16 → 20 → 24 → 28 → 32 → 36



2. つぎの けいさんを しましょう

① 4 × 3 ＝ 12

② 4 × 8 ＝ 32

③ 4 × 4 ＝ 16

④ 4 × 7 ＝ 28

⑤ 4 × 2 ＝ 8

すらすらぷりんと