たし算のひっ算 6

◎ タイルで数える
（くり上がりのじゅんび）

1

日にち：　　月　　日

名まえ

・つぎの計算を ひっ算で しましょう。(うすい字はなぞりましょう。)

35 ＋ 29

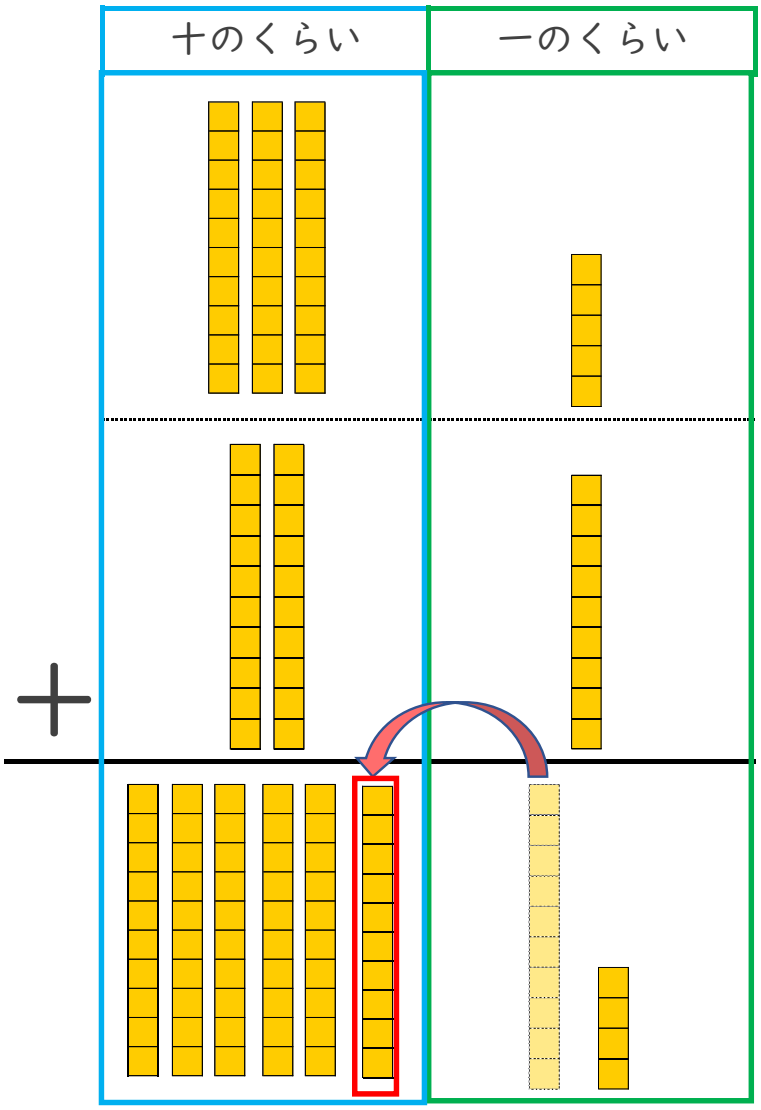

①一のくらいから計算
5+9＝14
☆十のくらいに１くり上げる。

	1	
	3	5
＋	2	9
	6	4

②十のくらいの計算
1+3+2＝6
☆くり上げた１も たそう！

一のくらいの計算が10をこえるときは
十のくらいに１くり上げるよ！

すらすらぷりんと

たし算のひっ算 6

◎ タイルで数える
（くり上がりのじゅんび）

2

日にち：　　月　　日

名まえ

・つぎの計算を ひっ算で しましょう。(うすい字はなぞりましょう。)

17 ＋ 16

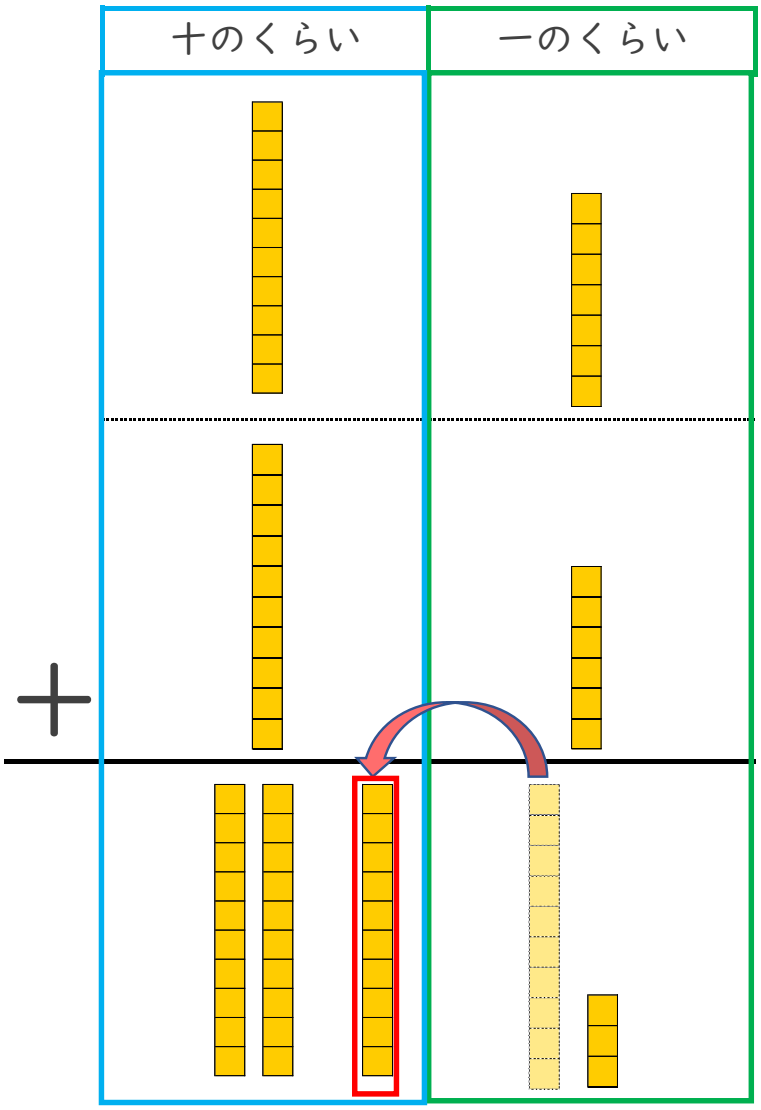

①一のくらいから計算
7+6＝？
☆十のくらいに１くり上げる。

	1	7
＋	1	6

②十のくらいの計算
1＋1＋1＝？
☆くり上げた１ も たそう！

一のくらいの計算が10をこえるときは
十のくらいに１くり上げるよ！

すらすらぷりんと

たし算のひっ算 6

◎ タイルで数える
（くり上がりのじゅんび）

3

日にち：　　月　　日

名まえ

・つぎの計算を ひっ算で しましょう。(うすい字はなぞりましょう。)

① 35 ＋ 18

1くりあげよう！

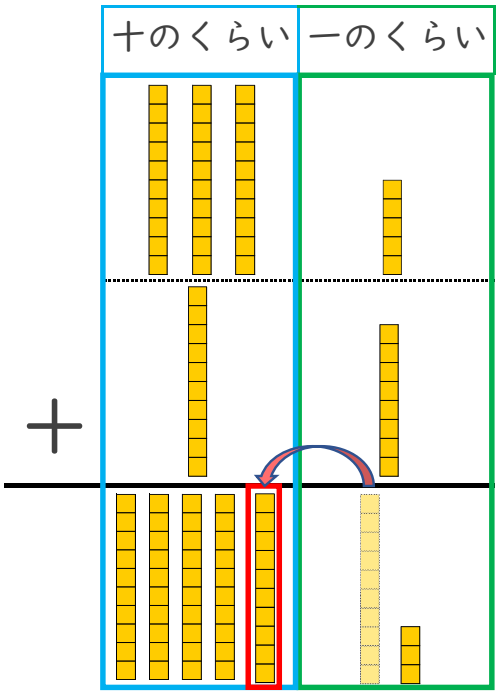

	1	
	3	5
＋	1	8

② 27 ＋ 14

1くりあげよう！

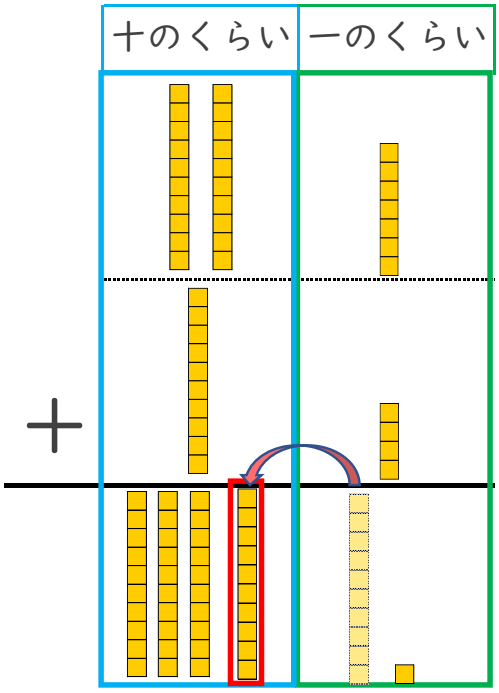

	2	7
＋		

すらすらぷりんと

たし算のひっ算 6

◎ タイルで数える
（くり上がりのじゅんび）

4

日にち：　　月　　日

名まえ

・つぎの計算を ひっ算で しましょう。（うすい字はなぞりましょう。）

① 19 ＋ 13

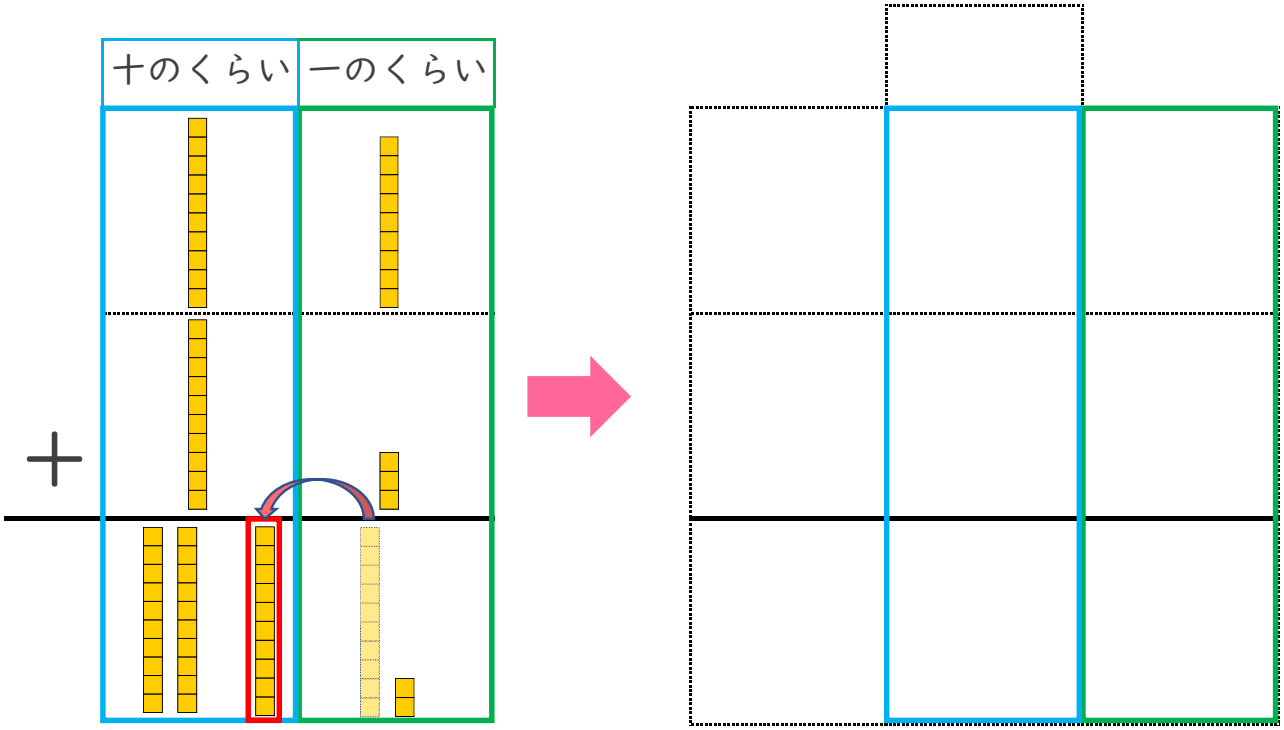

② 16 ＋ 28

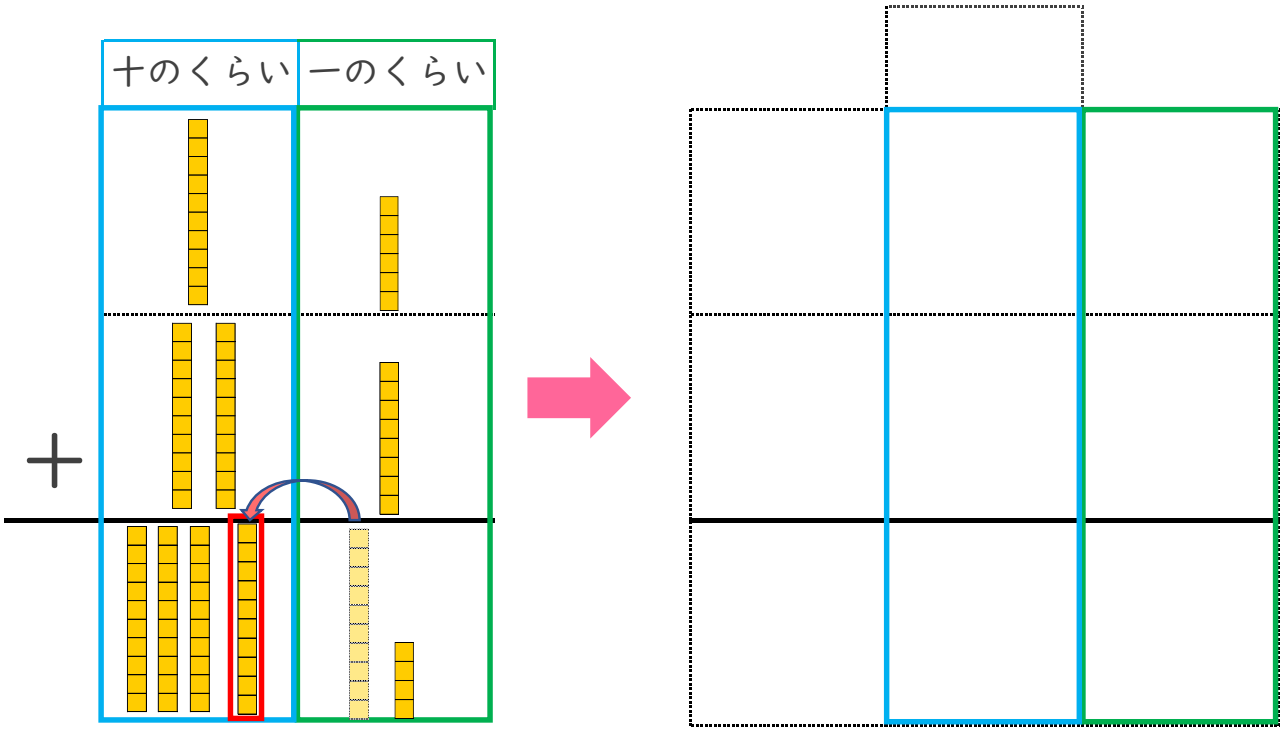

すらすらぷりんと

たし算のひっ算 6

◎ タイルで数える
（くり上がりのじゅんび）

1

日にち：　　月　　日

名まえ

・つぎの計算を ひっ算で しましょう。(うすい字はなぞりましょう。)

35 ＋ 29

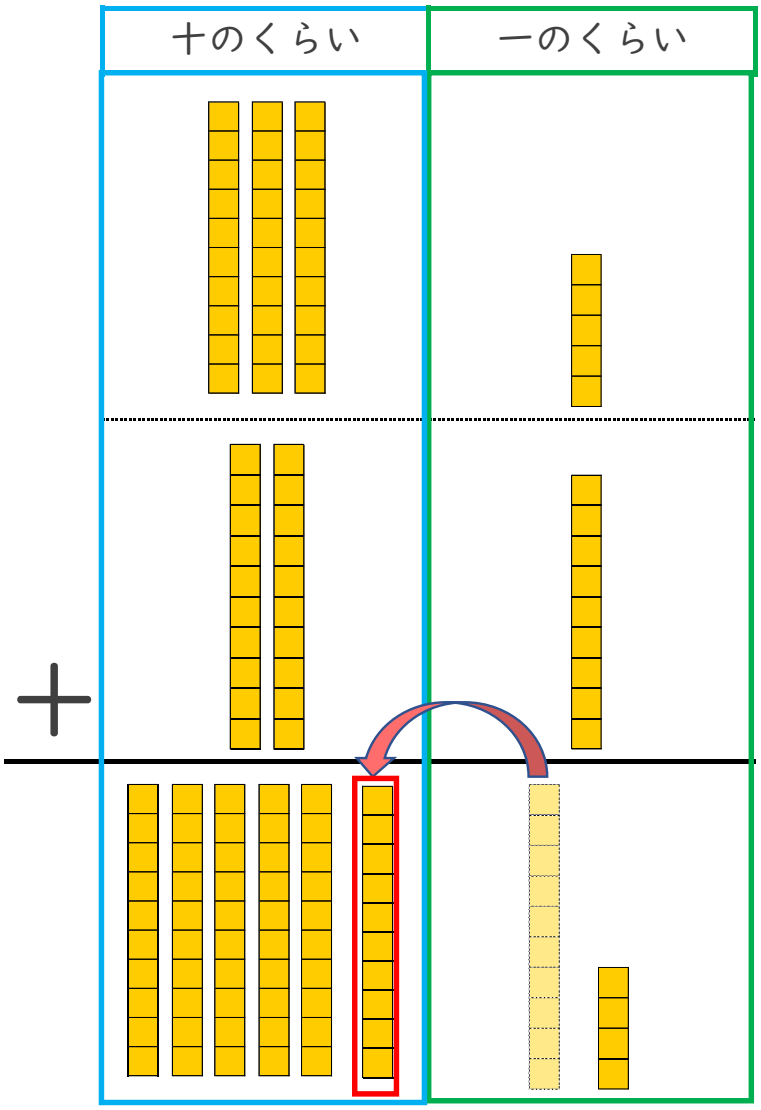

①一のくらいから計算
5+9＝14
☆十のくらいに１くり上げる。

	1	
	3	5
＋	2	9
	6	4

②十のくらいの計算
1+3+2＝6
☆くり上げた１も たそう！

一のくらいの計算が10をこえるときは
十のくらいに１くり上げるよ！

すらすらぷりんと

たし算のひっ算 6

◎ タイルで数える
（くり上がりのじゅんび）

2

日にち：　　月　　日

名まえ

・つぎの計算を ひっ算で しましょう。(うすい字はなぞりましょう。)

17 ＋ 16

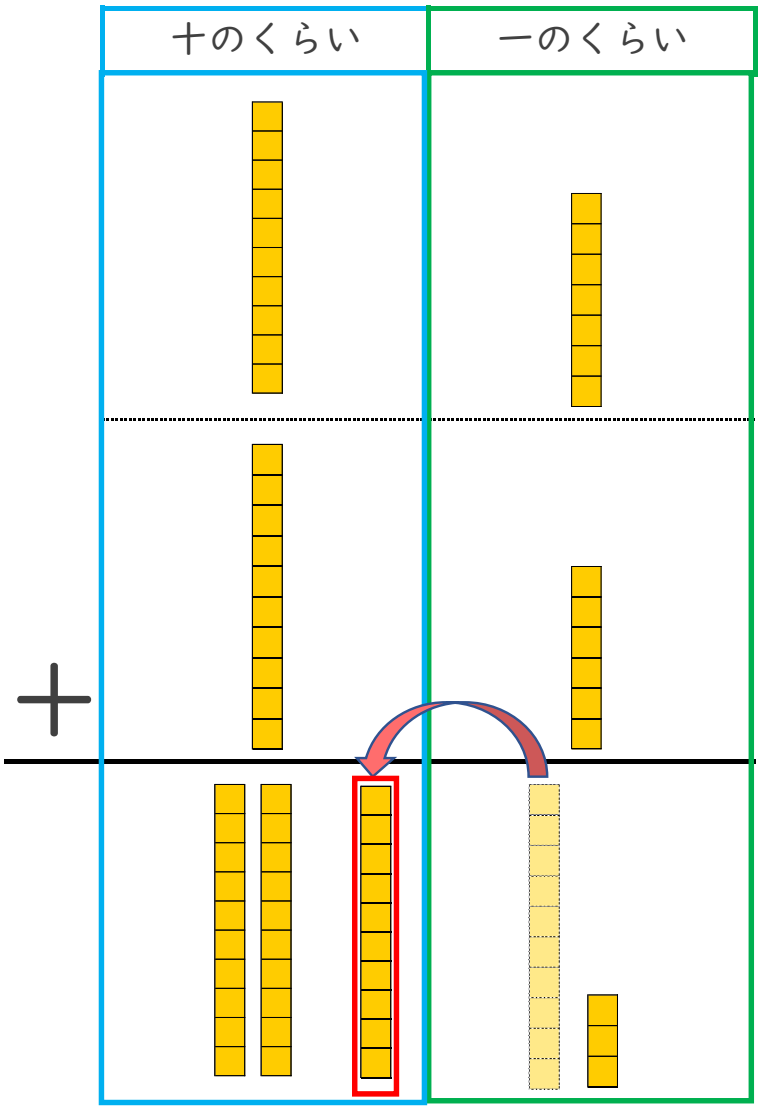

①一のくらいから計算
7+6＝？
☆十のくらいに１くり上げる。

	1	
	1	7
＋	1	6
	3	3

②十のくらいの計算
1＋1＋1＝？
☆くり上げた１ も たそう！

一のくらいの計算が10をこえるときは
十のくらいに１くり上げるよ！

すらすらぷりんと

たし算のひっ算 6

◎ タイルで数える
（くり上がりのじゅんび）

3

日にち：　　月　　日

名まえ

・つぎの計算を ひっ算で しましょう。（うすい字はなぞりましょう。）

① 35 ＋ 18

1 くりあげよう！

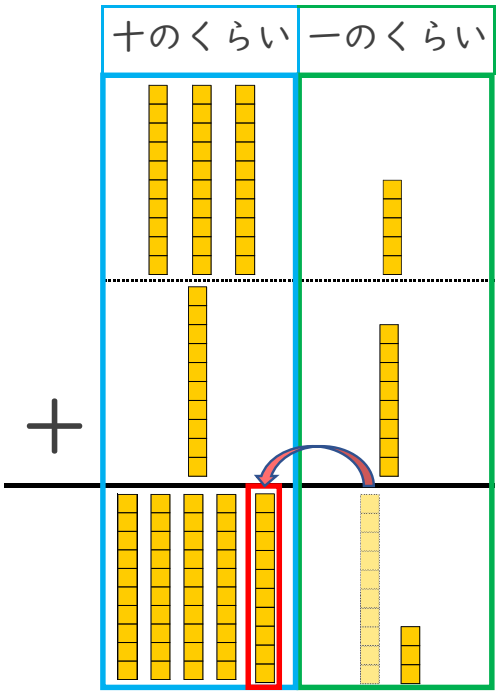

	1	
	3	5
＋	1	8
	5	3

② 27 ＋ 14

1 くりあげよう！

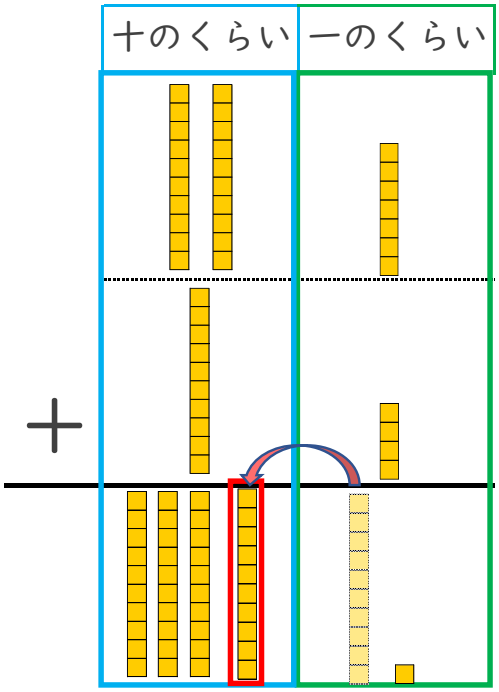

	1	
	2	7
＋	1	4
	4	1

③ 確認　答え

すらすらぷりんと

たし算のひっ算 6

◎ タイルで数える
（くり上がりのじゅんび）

4

日にち：　　月　　日

名まえ

・つぎの計算を ひっ算で しましょう。（うすい字はなぞりましょう。）

① 19 ＋ 13

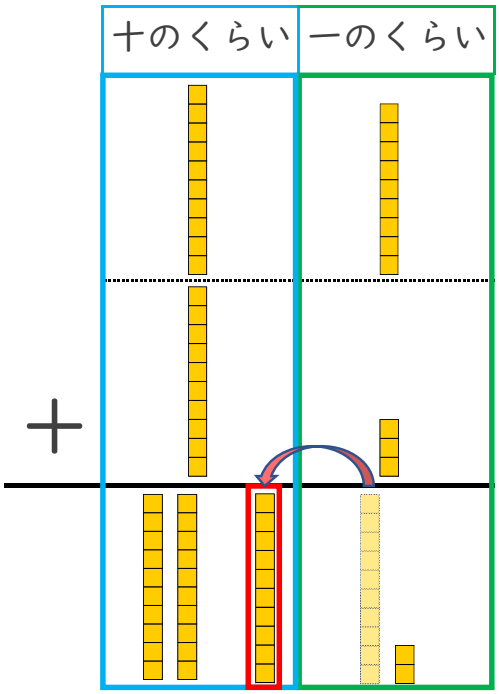

	1	
	1	9
＋	1	3
	3	2

② 16 ＋ 28

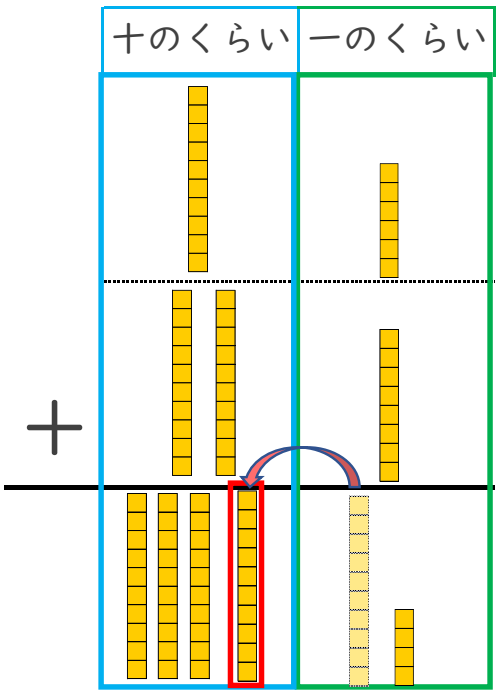

	1	
	1	6
＋	2	8
	4	4

④ 確認　答え

すらすらぷりんと