長さのたんい 8

◎ 直線の長さをはかる（mm）

1

日にち：　　月　　日

名まえ

・線の 長さを ものさしで はかりましょう。

① 答え（ 3 cm 5 mm ）

② 答え（ cm ）

③ 答え（ cm mm ）

④ 答え（ cm mm ）

⑤ 答え（ cm mm ）

① 例題

すらすらぷりんと

長さのたんい 8

◎ 直線の長さをはかる（mm）

2

日にち：　　月　　日

名まえ

・線の 長さを ものさしで はかりましょう。

① 答え（　4 cm　）

② 答え（　　cm　）

③ 答え（　　cm　　mm）

④ 答え（　　cm　　mm）

⑤ 答え（　　cm　　mm）

すらすらぷりんと

長さのたんい 8

◎ 直線の長さをはかる（mm）

3

日にち：　　月　　日

名まえ

・線の 長さを ものさしで はかりましょう。

①

答え（ 4 cm 5 mm ）

②

答え（　　）

③

答え（　　）

④

答え（　　）

⑤

答え（　　）

すらすらぷりんと

長さのたんい 8

◎ 直線の長さをはかる（mm）

4

日にち：　　月　　日

名まえ

・線の 長さを ものさしで はかりましょう。

①

答え（ 5 cm 5 mm ）

②

答え（　　）

③

答え（　　）

④

答え（　　）

⑤

答え（　　）

すらすらぷりんと

長さのたんい 8

◎ 直線の長さをはかる（mm）

5

日にち：　　月　　日

名まえ

・線の 長さを ものさしで はかりましょう。

① 答え（　　）

② 答え（　　）

③ 答え（　　）

④ 答え（　　）

⑤ 答え（　　）

すらすらぷりんと

長さのたんい 8

◎ 直線の長さをはかる（mm）

6

日にち：　　月　　日

名まえ

・線の 長さを ものさしで はかりましょう。

①

答え（　　）

②

答え（　　）

③

答え（　　）

④

答え（　　）

⑤

答え（　　）

すらすらぷりんと

長さのたんい 8

◎ 直線の長さをはかる（mm）

7

日にち：　　月　　日

名まえ

・線の 長さを ものさしで はかりましょう。

①

答え（　　）

②

答え（　　）

③

答え（　　）

④

答え（　　）

⑤

答え（　　）

すらすらぷりんと

長さのたんい 8

◎ 直線の長さをはかる（mm）

8

日にち：　　月　　日

名まえ

・線の 長さを ものさしで はかりましょう。

①

答え（　　）

②

答え（　　）

③

答え（　　）

④

答え（　　）

⑤

答え（　　）

すらすらぷりんと

長さのたんい 8

◎ 直線の長さをはかる（mm）

9

日にち：　　月　　日

名まえ

・線の 長さを ものさしで はかりましょう。

①

答え（　　）

②

答え（　　）

③

答え（　　）

④

答え（　　）

⑤

答え（　　）

すらすらぷりんと

長さのたんい 8

◎ 直線の長さをはかる（mm）

10

日にち：　　月　　日

名まえ

1　線の 長さを ものさしで はかりましょう。

①

答え（　　）

②

答え（　　）

③

答え（　　）

2　線の 長さは どれだけですか。

①

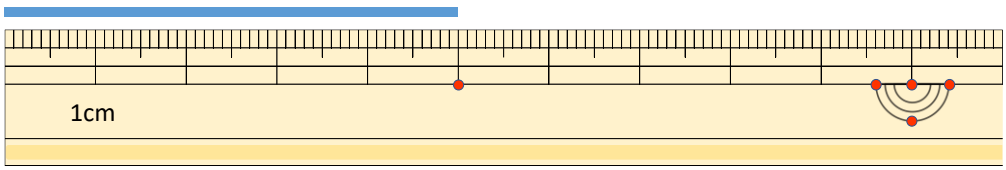

答え（　　）

②

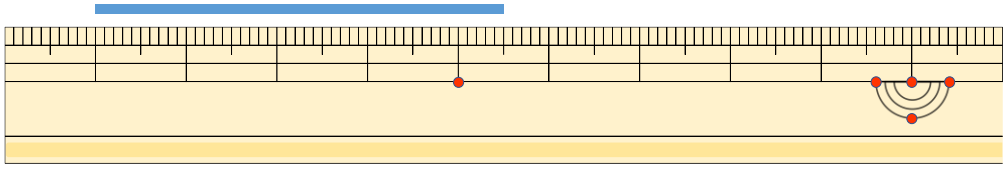

答え（　　）

すらすらぷりんと

長さのたんい 8

◎ 直線の長さをはかる（mm）

日にち：　　月　　日

名まえ

1　線の 長さを ものさしで はかりましょう。

①

答え（　　）

②

答え（　　）

③

答え（　　）

2　線の 長さは どれだけですか。

①

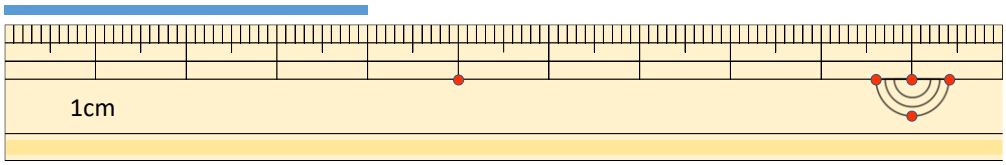

答え（　　）

②

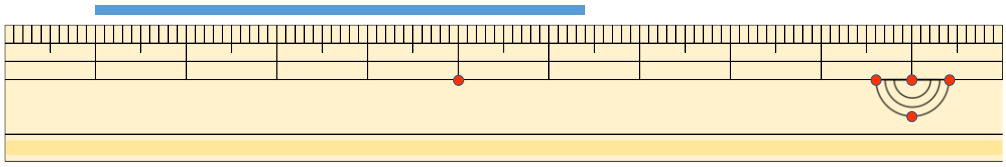

答え（　　）

すらすらぷりんと

長さのたんい 8

◎ 直線の長さをはかる（mm）

12

日にち：　　月　　日

名まえ

1　線の 長さを ものさしで はかりましょう。

①

答え（　　）

②

答え（　　）

③

答え（　　）

2　線の 長さは どれだけですか。

①

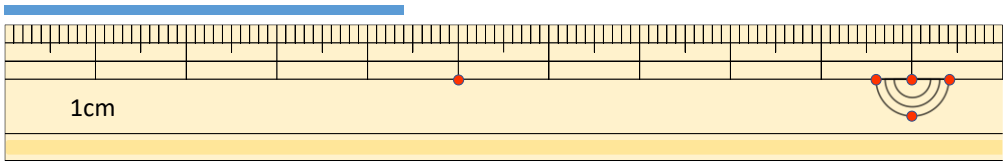

答え（　　）

②

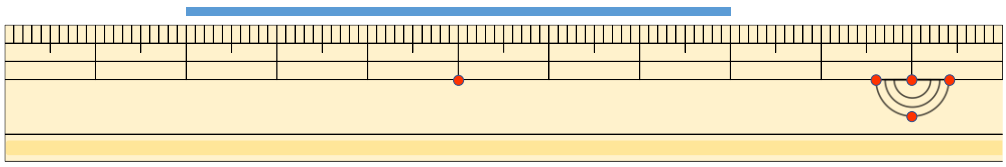

答え（　　）

すらすらぷりんと

長さのたんい 8

◎ 直線の長さをはかる（mm）

13

日にち：　　月　　日

名まえ

1　線の 長さを ものさしで はかりましょう。

①

答え（　　）

②

答え（　　）

③

答え（　　）

2　線の 長さは どれだけですか。

①

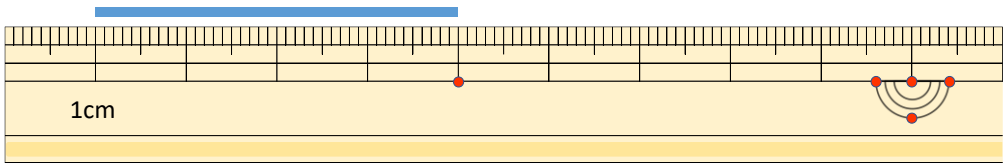

答え（　　）

②

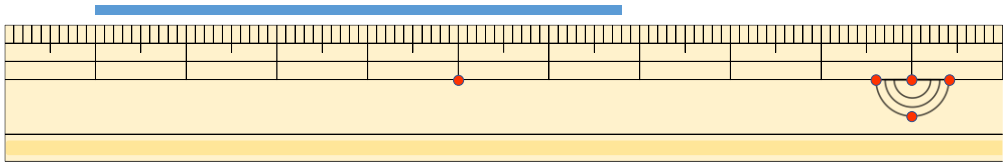

答え（　　）

すらすらぷりんと

長さのたんい 8

◎ 直線の長さをはかる（mm）

14

日にち：　　月　　日

名まえ

1　線の 長さを ものさしで はかりましょう。

①

答え（　　）

②

答え（　　）

③

答え（　　）

2　線の 長さは どれだけですか。

①

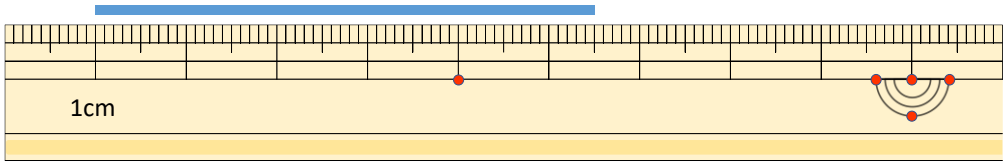

答え（　　）

②

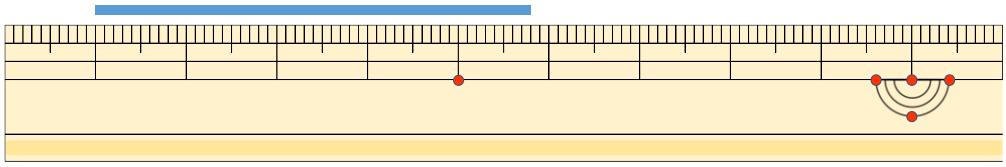

答え（　　）

すらすらぷりんと

長さのたんい 8

◎ 直線の長さをはかる（mm）

15

めざせ80点！　　てん

名まえ

1　線の 長さを ものさしで はかりましょう。（各20点）

①

答え（　　）

②

答え（　　）

③

答え（　　）

2　線の 長さは どれだけですか。（各20点）

①

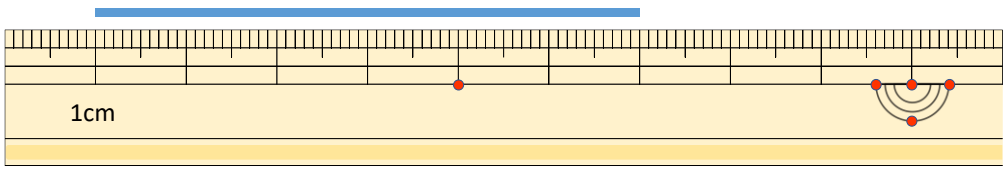

答え（　　）

②

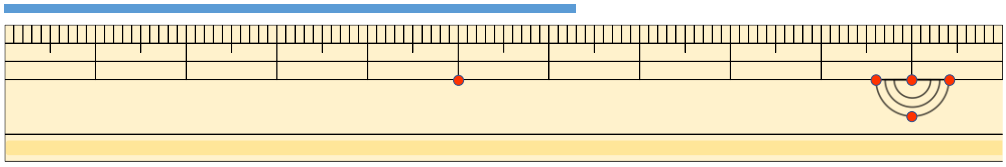

答え（　　）

すらすらぷりんと

長さのたんい 8

◎ 直線の長さをはかる（mm）

16

めざせ80点！　　てん

名まえ

1　線の 長さを ものさしで はかりましょう。（各20点）

①

答え（　　）

②

答え（　　）

③

答え（　　）

2　線の 長さは どれだけですか。（各20点）

①

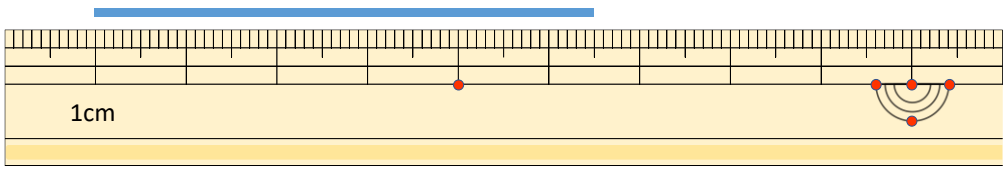

答え（　　）

②

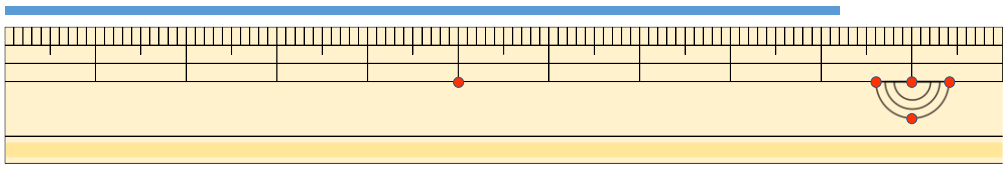

答え（　　）

すらすらぷりんと

長さのたんい 8

◎ 直線の長さをはかる（mm）

1

日にち：　　月　　日

名まえ

・線の 長さを ものさしで はかりましょう。

①

答え（ 3 cm 5 mm ）

②

答え（ 6 cm ）

③

答え（ 5 cm 2 mm ）

④

答え（ 2 cm 5 mm ）

⑤

答え（ 6 cm 5 mm ）

① 例題 答え

すらすらぷりんと

長さのたんい 8

◎ 直線の長さをはかる（mm）

2

日にち：　　月　　日

名まえ

・線の 長さを ものさしで はかりましょう。

① 答え（ 4 cm ）

② 答え（ 4 cm 7 mm ）

③ 答え（ 6 cm 8 mm ）

④ 答え（ 4 cm ）

⑤ 答え（ 5 cm 5 mm ）

すらすらぷりんと

長さのたんい 8

◎ 直線の長さをはかる（mm）

3

日にち：　　月　　日

名まえ

・線の 長さを ものさしで はかりましょう。

①

答え（ 4 cm 5 mm ）

②

答え（ 5 cm 6 mm ）

③

答え（ 6 cm 3 mm ）

④

答え（ 4 cm 5 mm ）

⑤

答え（ 7 cm ）

すらすらぷりんと

長さのたんい 8

◎ 直線の長さをはかる（mm）

4

日にち：　　月　　日

名まえ

・線の 長さを ものさしで はかりましょう。

①

答え（ 5 cm 5 mm ）

②

答え（ 3 cm 6 mm ）

③

答え（ 7 cm 2 mm ）

④

答え（ 2 cm 5 mm ）

⑤

答え（ 6 cm ）

すらすらぷりんと

長さのたんい 8

◎ 直線の長さをはかる（mm）

5

日にち：　　月　　日

名まえ

・線の 長さを ものさしで はかりましょう。

①

答え（ 4 cm 5 mm ）

②

答え（ 4 cm ）

③

答え（ 5 cm 8 mm ）

④

答え（ 3 cm 5 mm ）

⑤

答え（ 6 cm 7 mm ）

すらすらぷりんと

長さのたんい 8

◎ 直線の長さをはかる（mm）

6

日にち：　　月　　日

名まえ

・線の 長さを ものさしで はかりましょう。

①

答え（ 6 cm 5 mm ）

②

答え（ 4 cm 7 mm ）

③

答え（ 5 cm 5 mm ）

④

答え（ 3 cm ）

⑤

答え（ 4 cm 3 mm ）

すらすらぷりんと

長さのたんい 8

◎ 直線の長さをはかる（mm）

7

日にち：　　月　　日

名まえ

・線の 長さを ものさしで はかりましょう。

①

答え（ 5 cm 3 mm ）

②

答え（ 7 cm 2 mm ）

③

答え（ 5 cm ）

④

答え（ 3 cm 5 mm ）

⑤

答え（ 4 cm 8 mm ）

すらすらぷりんと

長さのたんい 8

◎ 直線の長さをはかる（mm）

8

日にち：　　月　　日

名まえ

・線の 長さを ものさしで はかりましょう。

①

答え（ 5 cm 3 mm ）

②

答え（ 7 cm 2 mm ）

③

答え（ 5 cm ）

④

答え（ 3 cm 5 mm ）

⑤

答え（ 4 cm 8 mm ）

すらすらぷりんと

長さのたんい 8

◎ 直線の長さをはかる（mm）

9

日にち：　　月　　日

名まえ

・線の 長さを ものさしで はかりましょう。

①

答え（ 6 cm 3 mm ）

②

答え（ 5 cm 4 mm ）

③

答え（ 3 cm ）

④

答え（ 7 cm ）

⑤

答え（ 4 cm 5 mm ）

すらすらぷりんと

長さのたんい 8

◎ 直線の長さをはかる（mm）

10

日にち：　　月　　日

名まえ

1　線の 長さを ものさしで はかりましょう。

①

答え（ 4 cm 5 mm ）

②

答え（ 4 cm ）

③

答え（ 5 cm 8 mm ）

2　線の 長さは どれだけですか。

①

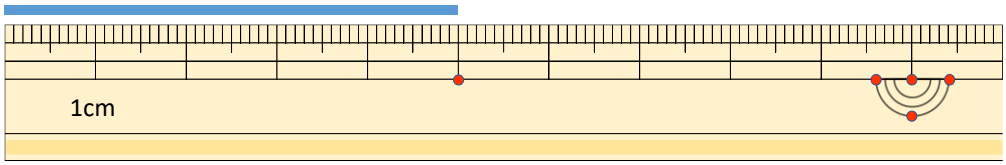

答え（ 5 cm ）

②

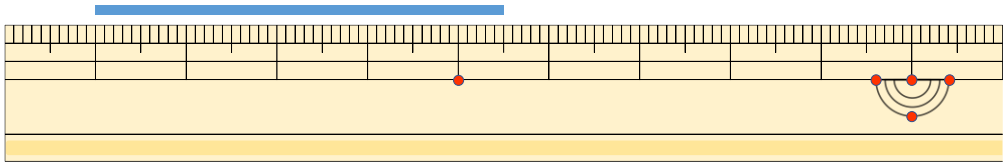

答え（ 4 cm 5 mm ）

すらすらぷりんと

長さのたんい 8

◎ 直線の長さをはかる（mm）

11

日にち：　　月　　日

名まえ

1　線の 長さを ものさしで はかりましょう。

①

答え（ 5 cm 6 mm ）

②

答え（ 5 cm ）

③

答え（ 6 cm 4 mm ）

2　線の 長さは どれだけですか。

①

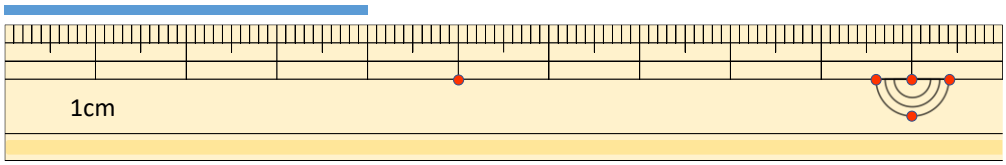

答え（ 4 cm ）

②

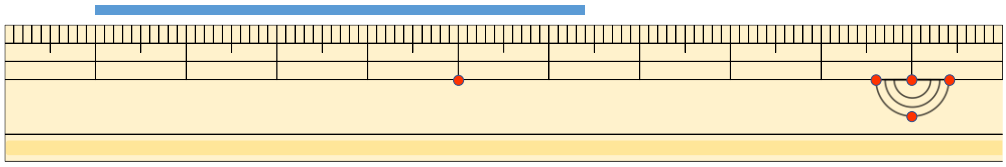

答え（ 5 cm 4 mm ）

すらすらぷりんと

長さのたんい 8

◎ 直線の長さをはかる（mm）

12

日にち：　　月　　日

名まえ

1　線の 長さを ものさしで はかりましょう。

①

答え（ 3 cm 5 mm ）

②

答え（ 4 cm ）

③

答え（ 6 cm 2 mm ）

2　線の 長さは どれだけですか。

①

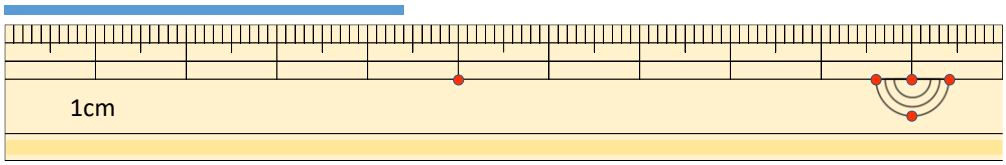

答え（ 4 cm 4 mm ）

②

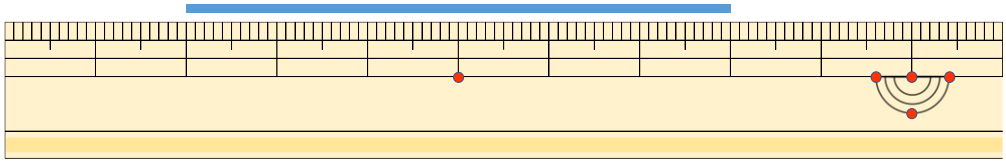

答え（ 6 cm ）

すらすらぷりんと

長さのたんい 8

◎ 直線の長さをはかる（mm）

13

日にち：　　月　　日

名まえ

1　線の 長さを ものさしで はかりましょう。

①

答え（ 4 cm 8 mm ）

②

答え（ 3 cm ）

③

答え（ 6 cm 5 mm ）

2　線の 長さは どれだけですか。

①

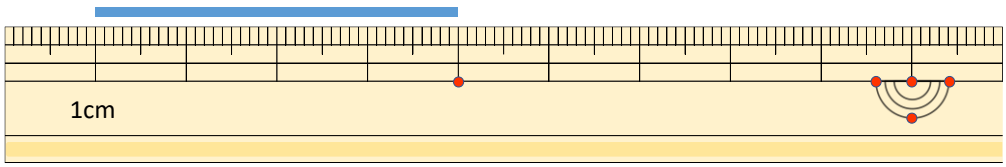

答え（ 4 cm ）

②

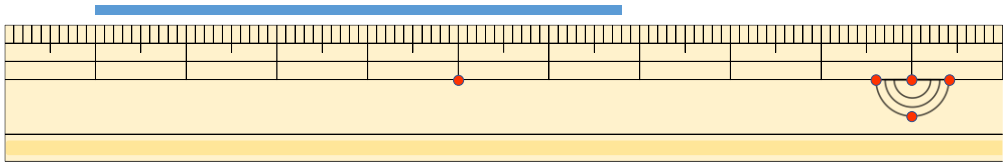

答え（ 5 cm 8 mm ）

すらすらぷりんと

長さのたんい 8

◎ 直線の長さをはかる（mm）

14

日にち：　　月　　日

名まえ

1　線の 長さを ものさしで はかりましょう。

①

答え（ 5 cm 2 mm ）

②

答え（ 4 cm ）

③

答え（ 3 cm 7 mm ）

2　線の 長さは どれだけですか。

①

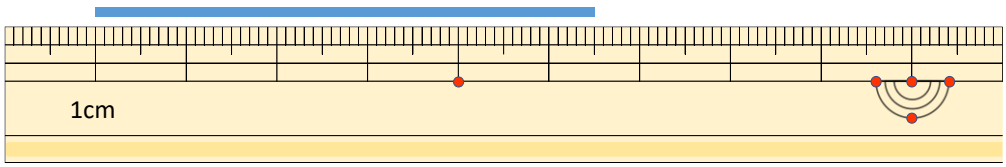

答え（ 5 cm 5 mm ）

②

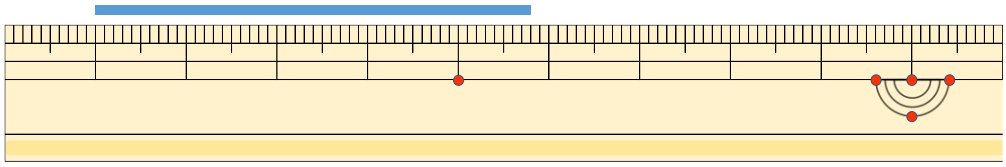

答え（ 4 cm 8 mm ）

すらすらぷりんと

長さのたんい 8

◎ 直線の長さをはかる（mm）

15

めざせ80点！

てん

名まえ

1 線の長さを ものさしで はかりましょう。（各20点）

①

答え（ 5 cm 5 mm ）

②

答え（ 3 cm ）

③

答え（ 5 cm 7 mm ）

2 線の長さは どれだけですか。（各20点）

①

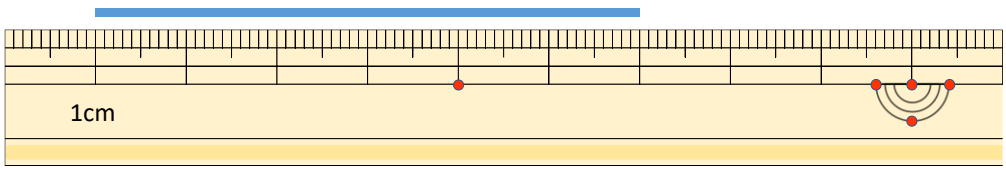

答え（ 6 cm ）

②

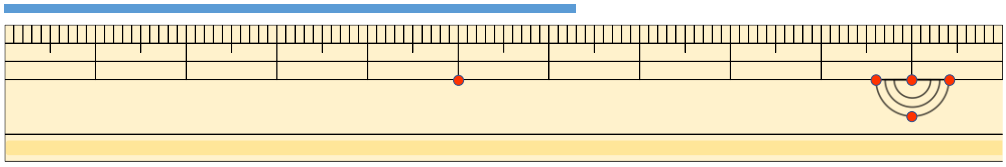

答え（ 6 cm 3 mm ）

すらすらぷりんと

長さのたんい 8

◎ 直線の長さをはかる（mm）

16

めざせ80点！

てん

名まえ

1 線の長さを ものさしで はかりましょう。（各20点）

①

答え（ 4 cm 5 mm ）

②

答え（ 2 cm 8 mm ）

③

答え（ 5 cm ）

2 線の長さは どれだけですか。（各20点）

①

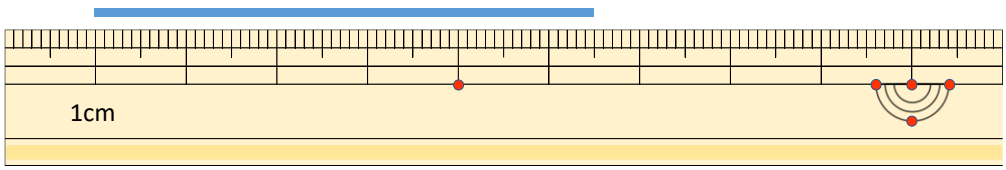

答え（ 5 cm 5 mm ）

②

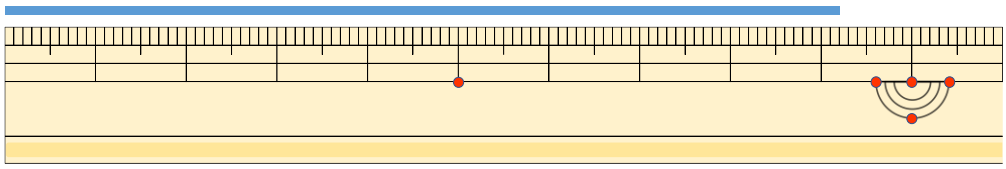

答え（ 9 cm 2 mm ）

すらすらぷりんと