長さのたんい 5 10

◎ ミリメートル

日にち：　　月　　日

名まえ

1　線の 長さは 何cm何mm でしょう。

①

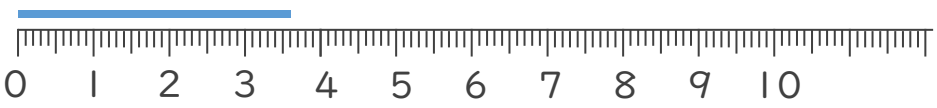

答え（　　）

②

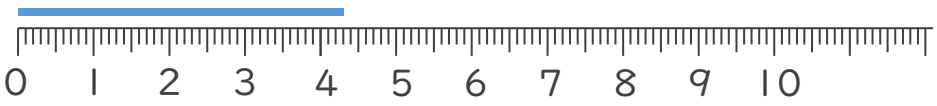

答え（　　）

③

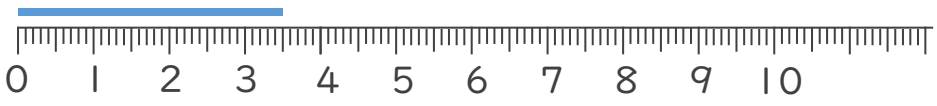

答え（　　）

2　線の 長さを ものさしで はかりましょう。

①

答え（　　）

②

答え（　　）

すらすらぷりんと

長さのたんい 5 10

◎ ミリメートル

日にち：　　月　　日

名まえ

1　線の 長さは 何cm何mm でしょう。

①

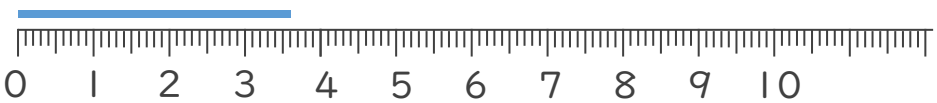

答え（　3 cm 6 mm　）

②

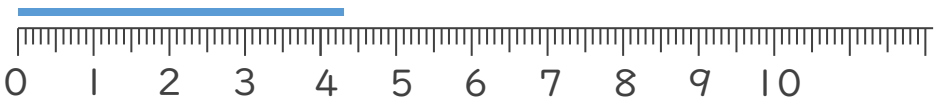

答え（　4 cm 3 mm　）

③

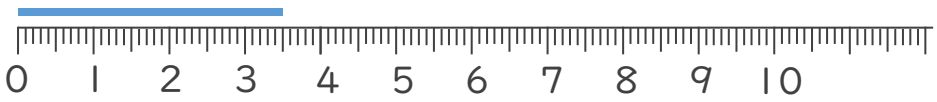

答え（　3 cm 5 mm　）

2　線の 長さを ものさしで はかりましょう。

①

答え（　8 cm　）

②

答え（　4 cm　）

すらすらぷりんと