長さのたんい 7

◎ ものさしではかる（mm）

12

日にち：　　月　　日

名まえ

1 線の 長さは どれだけですか。

①

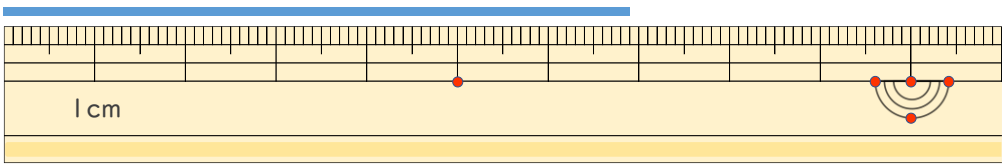

答え（　　）

②

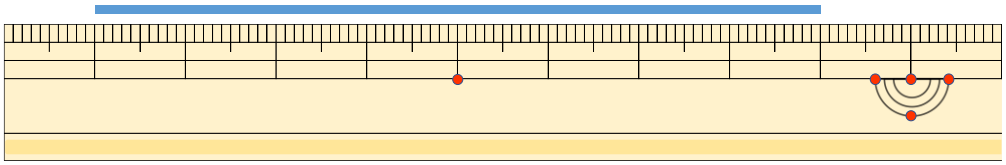

答え（　　）

③

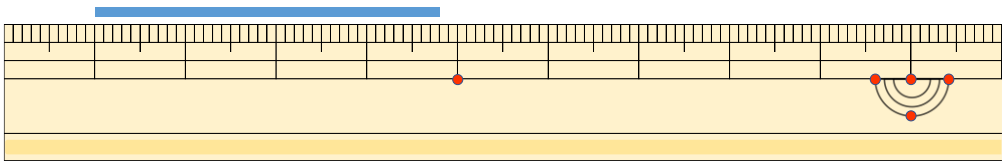

答え（　　）

2 線の 長さを ものさしで はかりましょう。

①

答え（　　）

②

答え（　　）

すらすらぷりんと

長さのたんい 7

◎ ものさしではかる（mm）

12

日にち：　　月　　日

名まえ

1 線の 長さは どれだけですか。

①

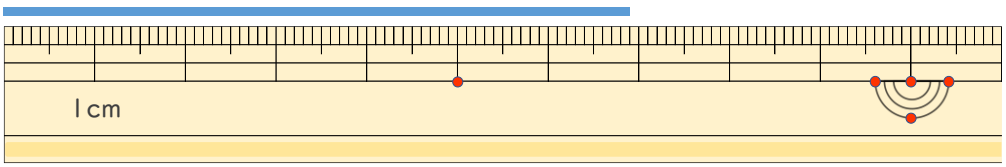

答え（ 6 cm 9 mm ）

②

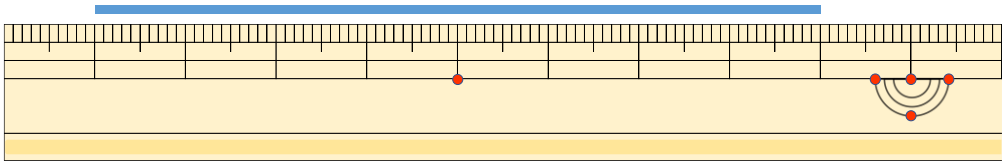

答え（ 8 cm ）

③

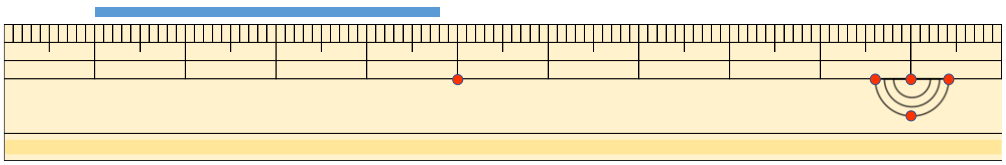

答え（ 3 cm 8 mm ）

2 線の 長さを ものさしで はかりましょう。

①

答え（ 5 cm ）

②

答え（ 7 cm ）

すらすらぷりんと