水のかさ 3

13

◎ リットル

日にち：　　月　　日

名まえ

1 つぎの ペットボトルに 入る 水の かさを しらべましょう。

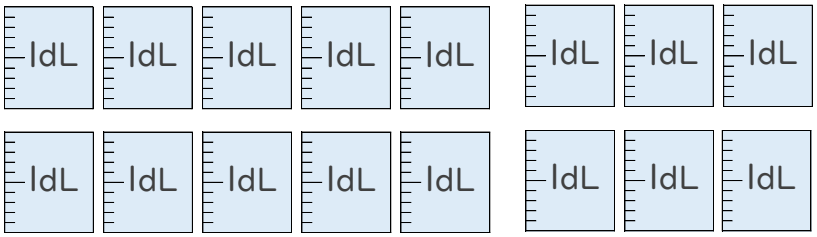

① ペットボトルに 入る 水の かさは、何dLですか。

答え：

② ペットボトルに 入る 水の かさは、何L何dLですか。

答え：

2 つぎの ペットボトルに 入る 水の かさを しらべましょう。

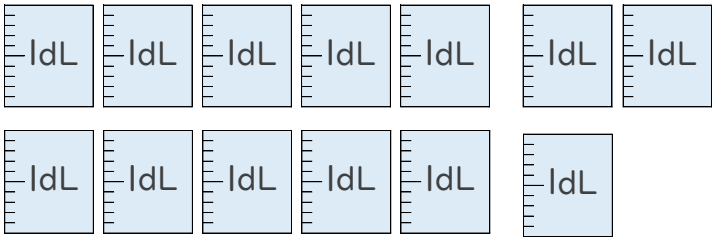

① ペットボトルに 入る 水の かさは、何dLですか。

答え：

② ペットボトルに 入る 水の かさは、何L何dLですか。

答え：

すらすらぷりんと

水のかさ 3

13

◎ リットル

日にち：　　月　　日

名まえ

1 つぎの ペットボトルに 入る 水の かさを しらべましょう。

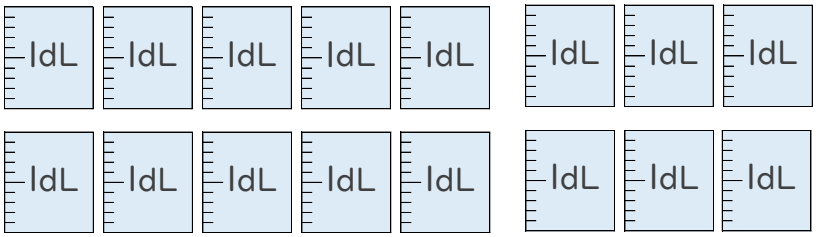

① ペットボトルに 入る 水の かさは、何dLですか。

答え： 16dL

② ペットボトルに 入る 水の かさは、何L何dLですか。

答え： 1L6dL

2 つぎの ペットボトルに 入る 水の かさを しらべましょう。

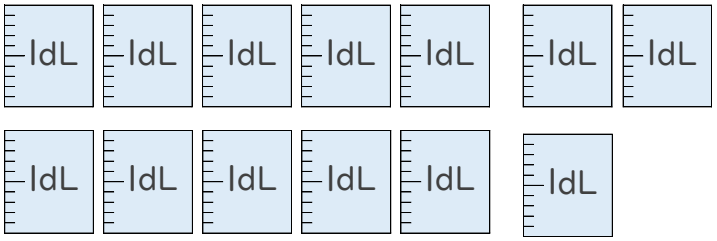

① ペットボトルに 入る 水の かさは、何dLですか。

答え： 13dL

② ペットボトルに 入る 水の かさは、何L何dLですか。

答え： 1L3dL

すらすらぷりんと