長さのたんい 8

◎ 直線の長さをはかる（mm）

14

日にち：　　月　　日

名まえ

1　線の 長さを ものさしで はかりましょう。

①

答え（　　）

②

答え（　　）

③

答え（　　）

2　線の 長さは どれだけですか。

①

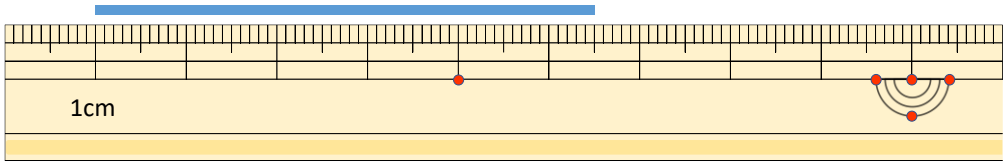

答え（　　）

②

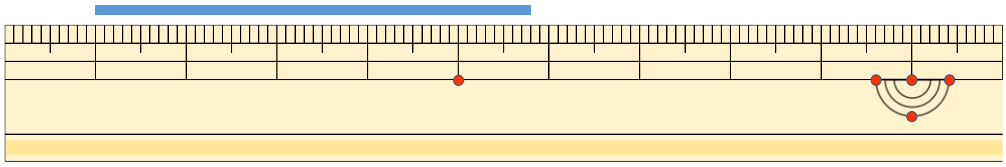

答え（　　）

すらすらぷりんと

長さのたんい 8

◎ 直線の長さをはかる（mm）

14

日にち：　　月　　日

名まえ

1　線の 長さを ものさしで はかりましょう。

①

答え（ 5 cm 2 mm ）

②

答え（ 4 cm ）

③

答え（ 3 cm 7 mm ）

2　線の 長さは どれだけですか。

①

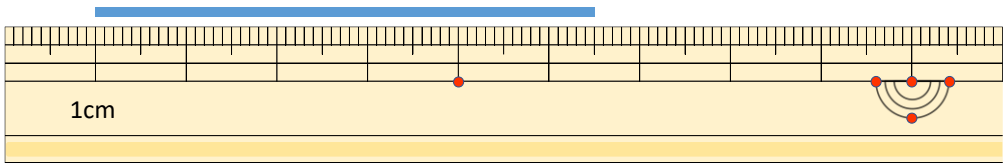

答え（ 5 cm 5 mm ）

②

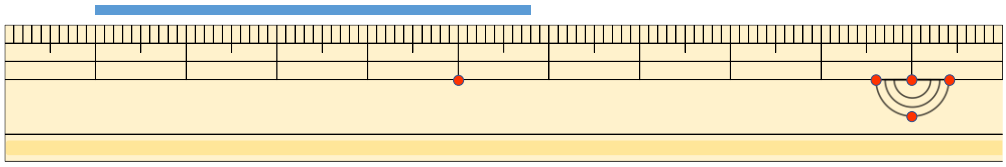

答え（ 4 cm 8 mm ）

すらすらぷりんと