長さのたんい 7

◎ ものさしではかる（mm）

15

めざせ80点！ てん

名まえ

1 線の 長さは どれだけですか。（各20点）

①

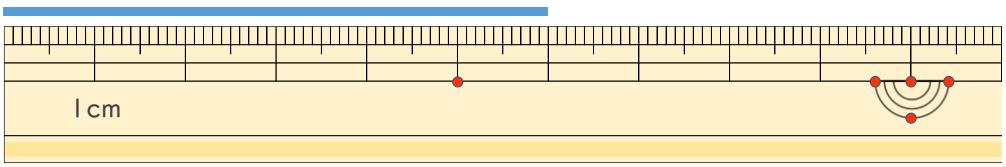

答え（　　）

②

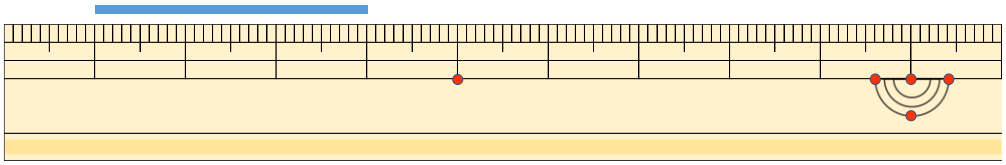

答え（　　）

③

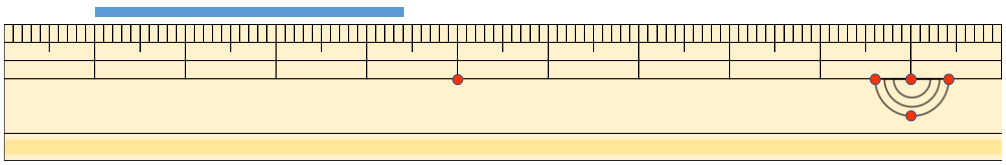

答え（　　）

2 線の 長さを ものさしで はかりましょう。（各20点）

①

答え（　　）

②

答え（　　）

すらすらぷりんと

長さのたんい 7

◎ ものさしではかる（mm）

15

めざせ80点！ てん

名まえ

1 線の 長さは どれだけですか。（各20点）

①

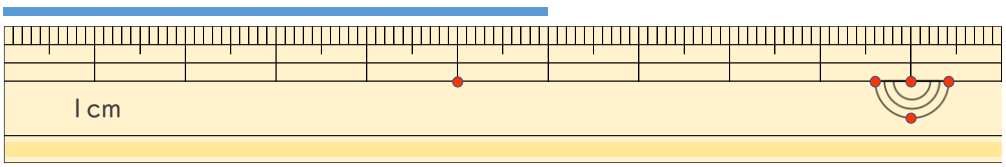

答え（ 6 cm ）

②

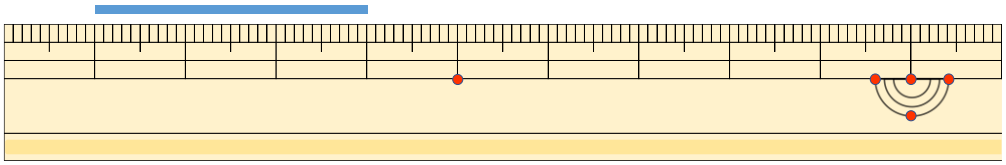

答え（ 3 cm ）

③

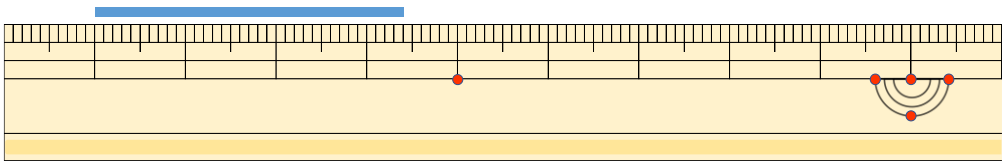

答え（ 3 cm 4 mm ）

2 線の 長さを ものさしで はかりましょう。（各20点）

①

答え（ 7 cm ）

②

答え（ 4 cm ）

すらすらぷりんと