長さのたんい 7

◎ ものさしではかる（mm）

16

めざせ80点！

てん

名まえ

1　線の 長さは どれだけですか。（各20点）

①

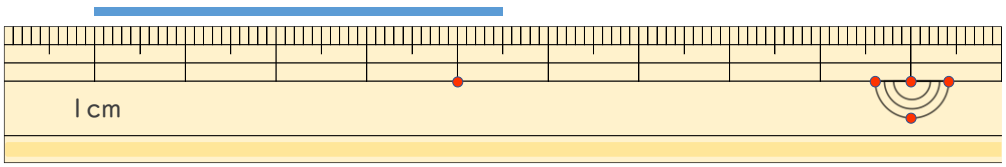

答え（　　）

②

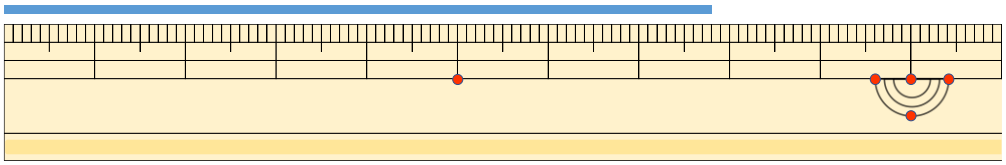

答え（　　）

③

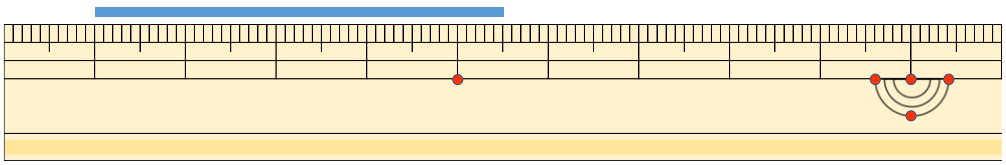

答え（　　）

2　線の 長さを ものさしで はかりましょう。（各20点）

①　　答え（　　）

②　　答え（　　）

すらすらぷりんと

長さのたんい 7

◎ ものさしではかる（mm）

16

めざせ80点！

てん

名まえ

1 線(せん)の 長(なが)さは どれだけですか。（各(かく)20点(てん)）

①

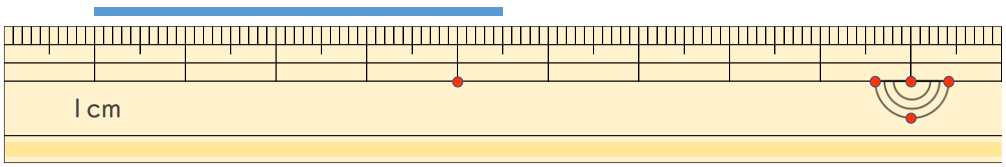

答え（ 4 cm 5 mm ）

②

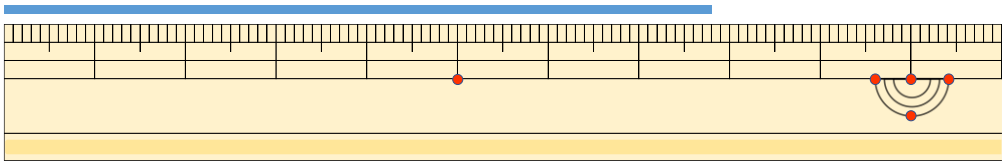

答(こた)え（ 7 cm 8 mm ）

③

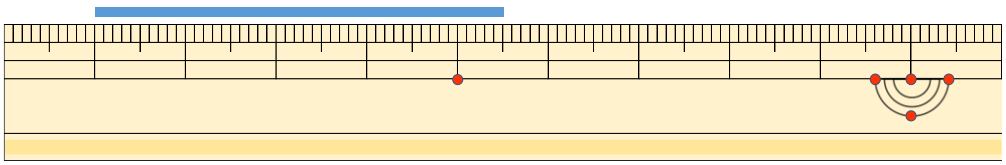

答(こた)え（ 4 cm 5 mm ）

2 線(せん)の 長(なが)さを ものさしで はかりましょう。（各(かく)20点(てん)）

① ―――――――――――――

答(こた)え（ 6 cm ）

② ―――――――――――――――

答(こた)え（ 8 cm ）

すらすらぷりんと