長さのたんい 5 16

◎ ミリメートル

めざせ80点！ てん

名まえ

1 線の 長さは 何cm何mm でしょう。（各20点）

①

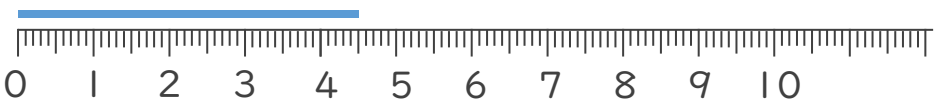

答え（　　）

②

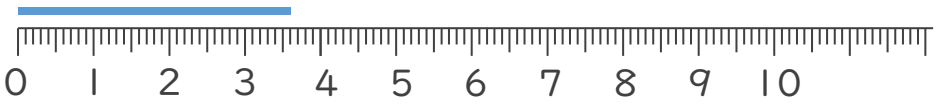

答え（　　）

③

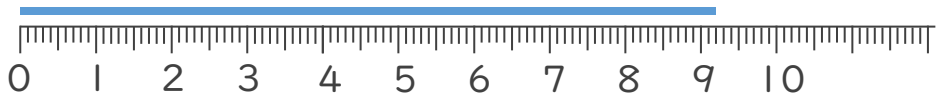

答え（　　）

2 線の 長さを ものさしで はかりましょう。（各20点）

①

答え（　　）

②

答え（　　）

すらすらぷりんと

長さのたんい 5 16

◎ ミリメートル

めざせ80点！ てん

名まえ

1 線の長さは何cm何mmでしょう。（各20点）

①

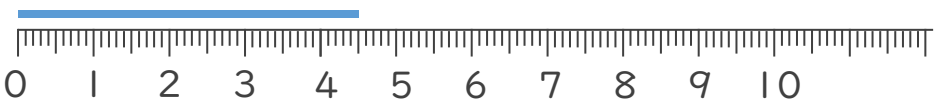

答え（ 4 cm 5 mm ）

②

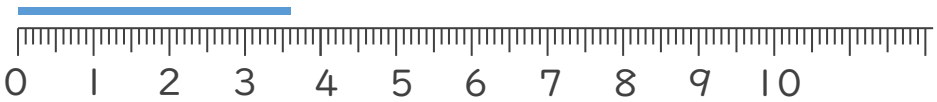

答え（ 3 cm 6 mm ）

③

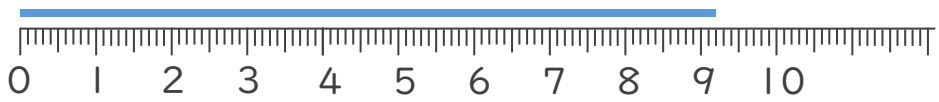

答え（ 9 cm 2 mm ）

2 線の長さをものさしではかりましょう。（各20点）

①

答え（ 4 cm ）

②

答え（ 8 cm ）

すらすらぷりんと