長さのたんい 8

◎ 直線の長さをはかる（mm）

16

めざせ80点！　　てん

名まえ

1　線の 長さを ものさしで はかりましょう。（各20点）

①

答え（　　）

②

答え（　　）

③

答え（　　）

2　線の 長さは どれだけですか。（各20点）

①

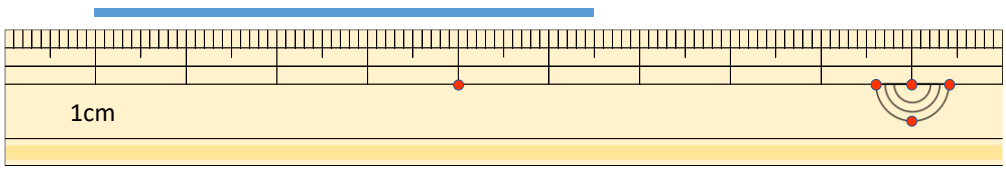

答え（　　）

②

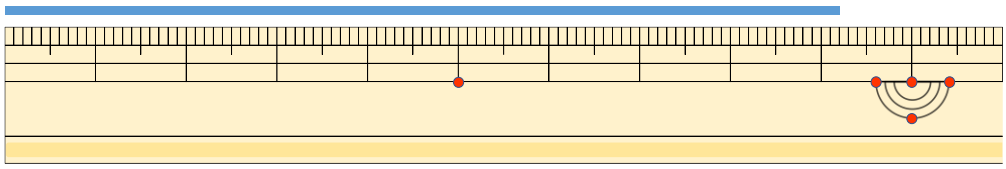

答え（　　）

すらすらぷりんと

長さのたんい 8

◎ 直線の長さをはかる（mm）

16

めざせ80点！

てん

名まえ

1 線の長さを ものさしで はかりましょう。（各20点）

①

答え（ 4 cm 5 mm ）

②

答え（ 2 cm 8 mm ）

③

答え（ 5 cm ）

2 線の長さは どれだけですか。（各20点）

①

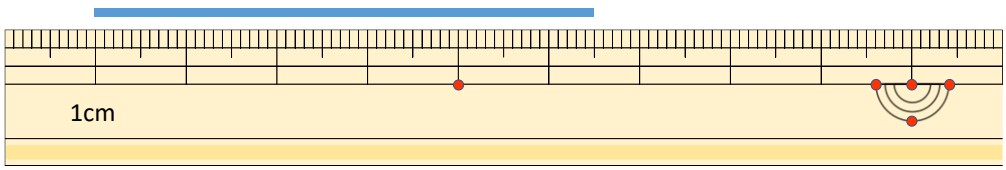

答え（ 5 cm 5 mm ）

②

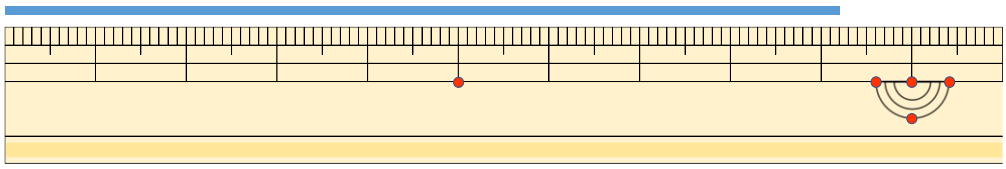

答え（ 9 cm 2 mm ）

すらすらぷりんと