長さのたんい 7

◎ ものさしではかる（mm）

2

日にち：　　月　　日

名まえ

・線の 長さは どれだけですか。（うすい字は なぞりましょう。）

①

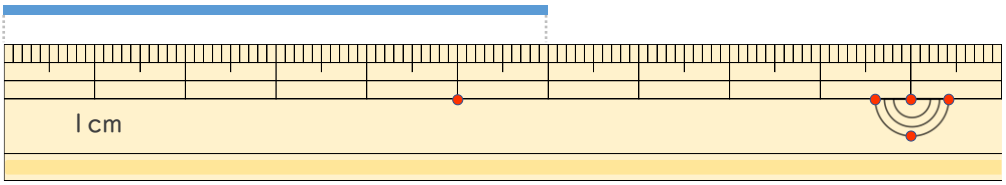

答え（　6 cm　）

②

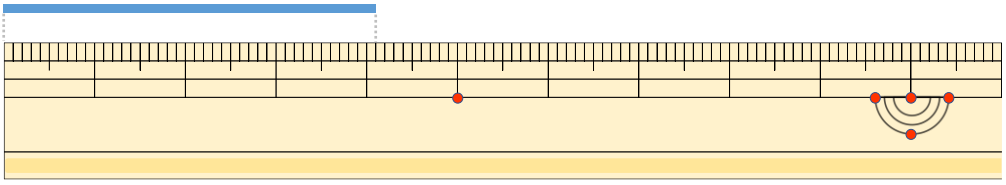

答え（　　）

③

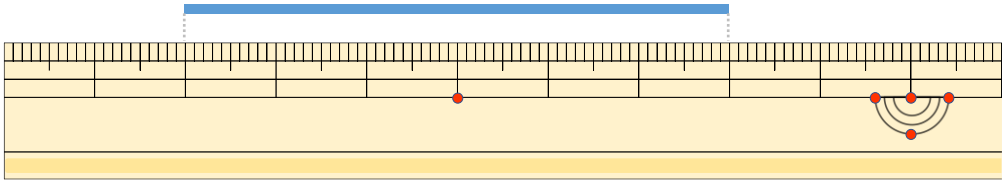

答え（　　）

すらすらぷりんと

長さのたんい 7

◎ ものさしではかる（mm）

2

日にち：　　月　　日

名まえ

・線の 長さは どれだけですか。（うすい字は なぞりましょう。）

①

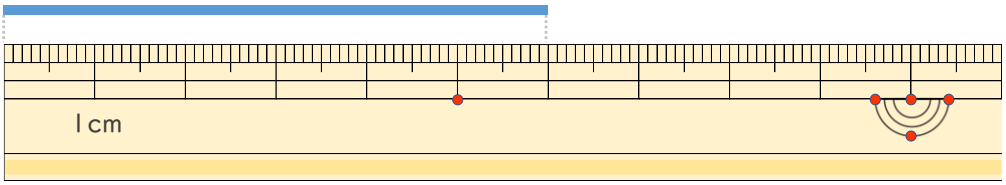

答え（　6 cm　）

②

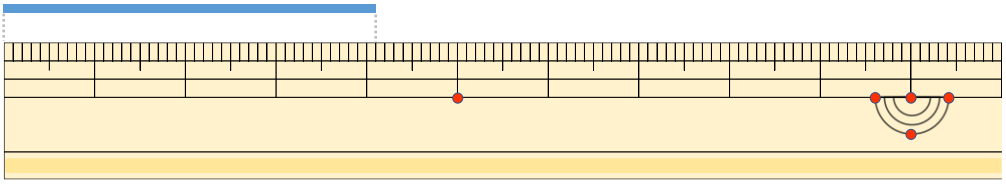

答え（　4 cm 1 mm　）

③

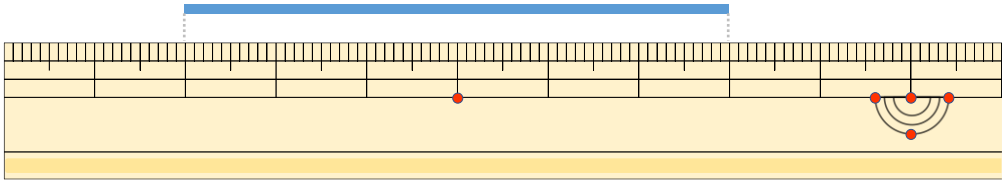

答え（　6 cm　）

すらすらぷりんと