長さのたんい 5 2

◎ ミリメートル

日にち：　　月　　日

名まえ

1　1cmを 同じ 長さに、10に 分けた 1つ分の 長さを 1mm(ミリメートル)と いいます。

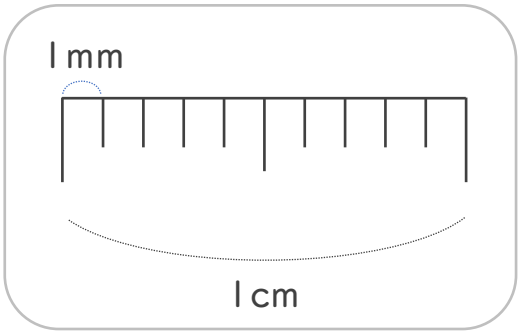

mm（ミリメートル）の 書き方を れんしゅうしましょう。

1mm　1mm

2　線の 長さは 何cm何mm でしょう。（うすい字はなぞりましょう。）

①

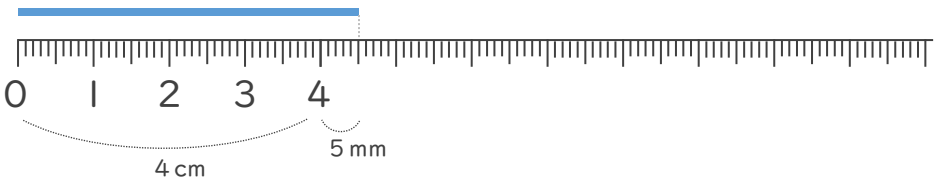

1cmが 4こ分と、
1mmが 5こ分 あるよ

答え（　　cm　　mm）

②

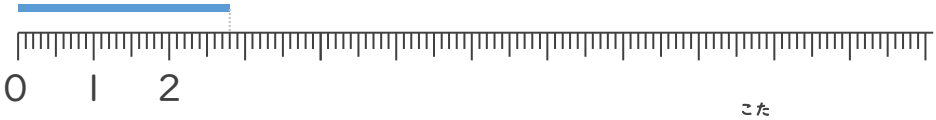

答え（　　cm　　mm）

すらすらぷりんと

長さのたんい 5 ◎ミリメートル 2

日にち：　　月　　日

名まえ

1　1cmを 同じ 長さに、10に 分けた 1つ分の 長さを 1mm(ミリメートル)と いいます。

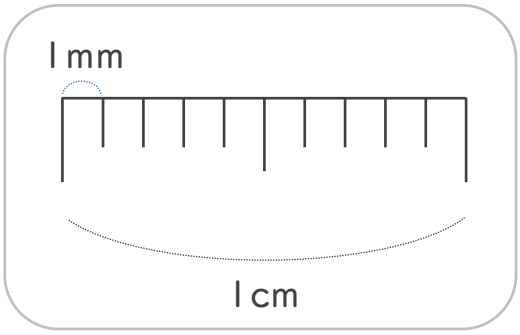

mm（ミリメートル）の 書き方を れんしゅうしましょう。

1mm　1mm　1mm　1mm　1mm

2　線の 長さは 何cm何mm でしょう。（うすい字はなぞりましょう。）

①

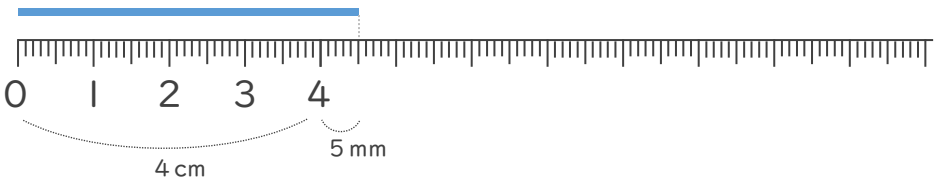

1cmが 4こ分と、
1mmが 5こ分 あるよ

答え（　4cm 5mm　）

②

答え（　2cm 8mm　）

すらすらぷりんと