長さのたんい 7

◎ ものさしではかる（mm）

4

日にち：　　月　　日

名まえ

・線の 長さは どれだけですか。（うすい字は なぞりましょう。）

①

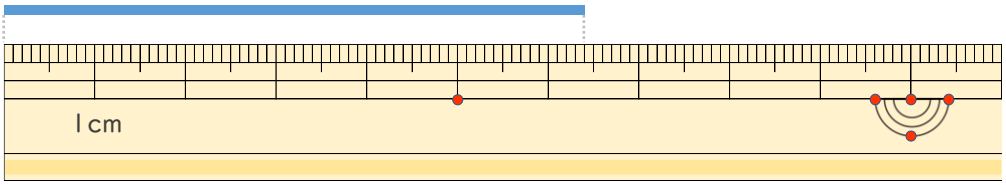

答え（　　）

②

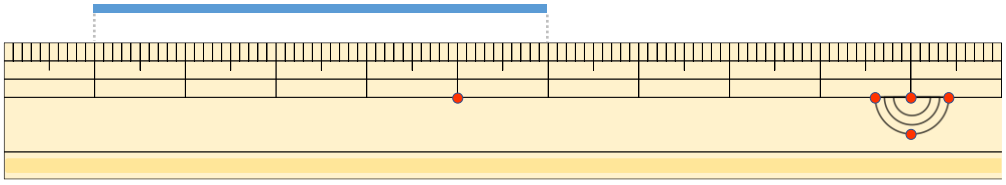

答え（　　）

③

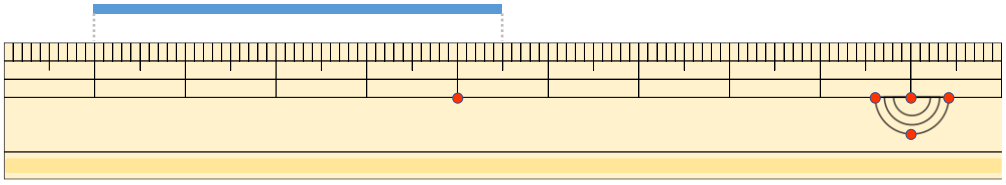

答え（　　）

すらすらぷりんと

長さのたんい 7

◎ ものさしではかる（mm）

4

日にち：　　月　　日

名まえ

・線の 長さは どれだけですか。（うすい字は なぞりましょう。）

①

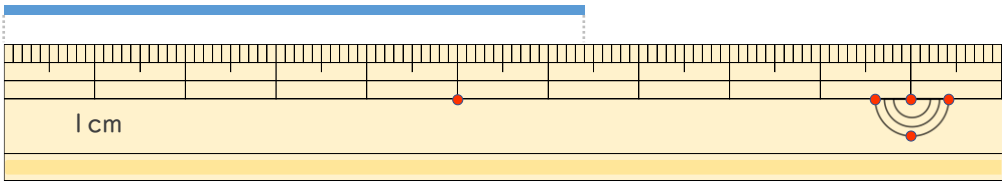

答え（ 6 cm 4 mm ）

②

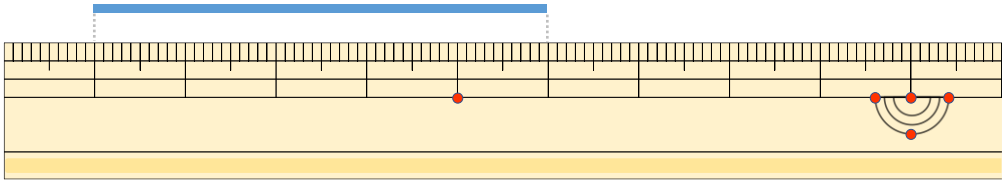

答え（ 5 cm ）

③

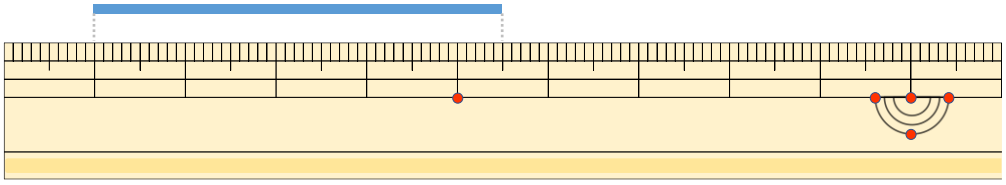

答え（ 4 cm 5 mm ）

すらすらぷりんと