長さのたんい 3

◎ ものさしの見かた（cm）

5

日にち：　　月　　日

名まえ

・線の 長さは 何cmでしょう。（うすい字は なぞりましょう。）

①

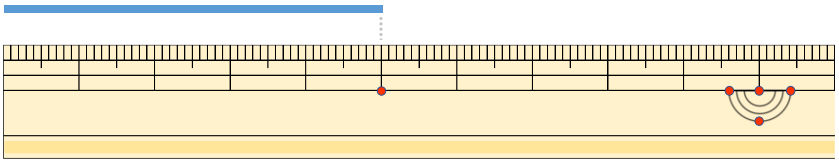

答え（　5 cm　）

②

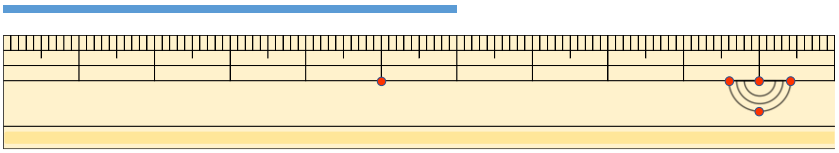

答え（　　）

③

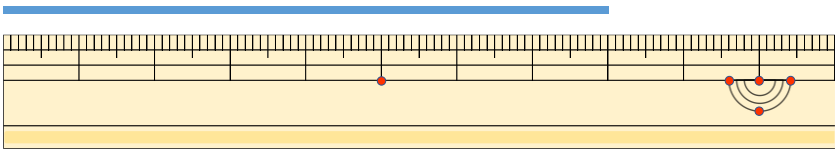

答え（　　）

すらすらぷりんと

長さのたんい 3

◎ ものさしの見かた（cm）

5

日にち：　　月　　日

名まえ

・線の 長さは 何cmでしょう。（うすい字は なぞりましょう。）

①

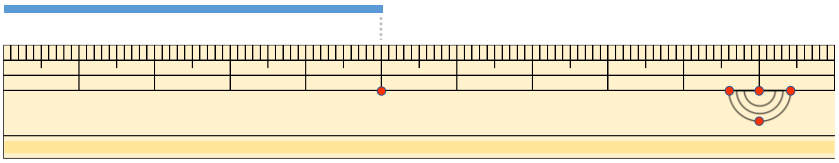

答え（　5 cm　）

②

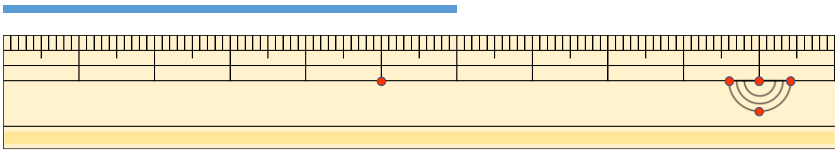

答え（　6 cm　）

③

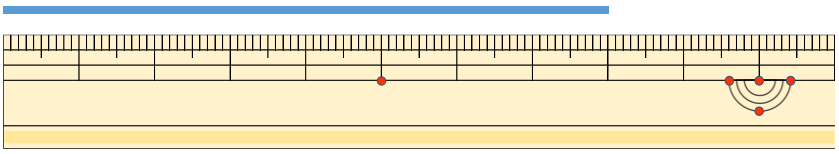

答え（　8 cm　）

すらすらぷりんと