長さのたんい 5 6

◎ ミリメートル

日にち：　　月　　日

名まえ

1　線の長さは何cm何mmでしょう。（うすい字はなぞりましょう。）

①

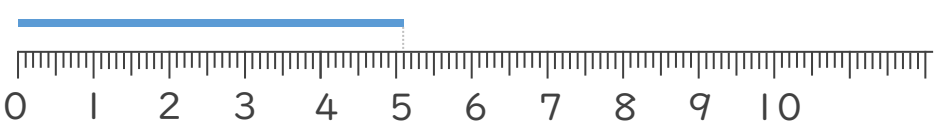

答え（　5cm 1mm　）

②



答え（　　cm　　mm　）

③



答え（　　）

④

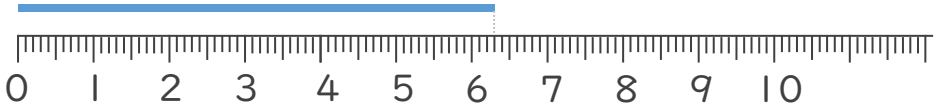

答え（　　）

すらすらぷりんと

長さのたんい 5 6

◎ ミリメートル

日にち：　　月　　日

名まえ

1　線の長さは何cm何mmでしょう。（うすい字はなぞりましょう。）

①

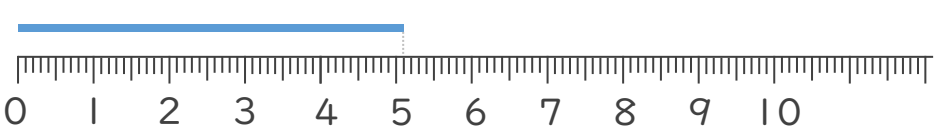

答え（　5 cm 1 mm　）

②



答え（　4 cm 5 mm　）

③



答え（　1 cm 7 mm　）

④

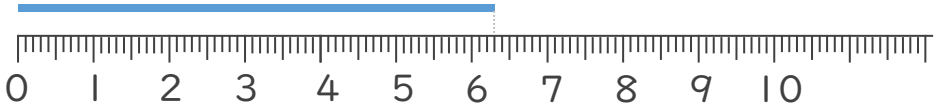

答え（　6 cm 3 mm　）

すらすらぷりんと