長さのたんい 7

◎ ものさしではかる（mm）

7

日にち：　　月　　日

名まえ

・線の 長さは どれだけですか。

①

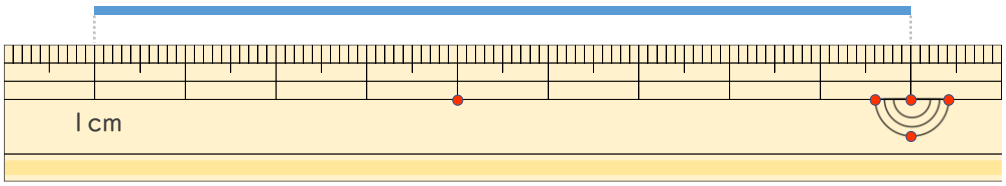

答え（　　）

②

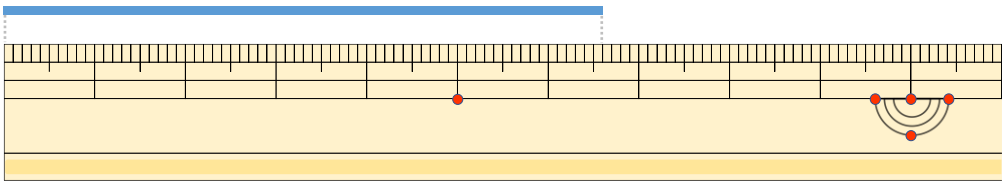

答え（　　）

③

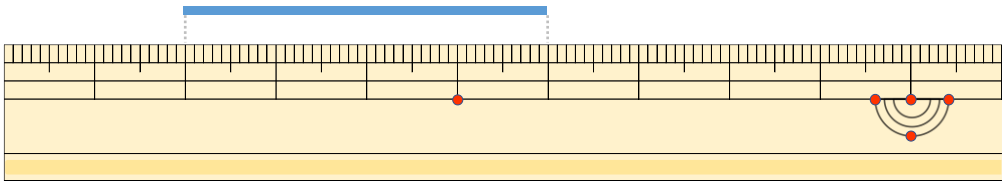

答え（　　）

④

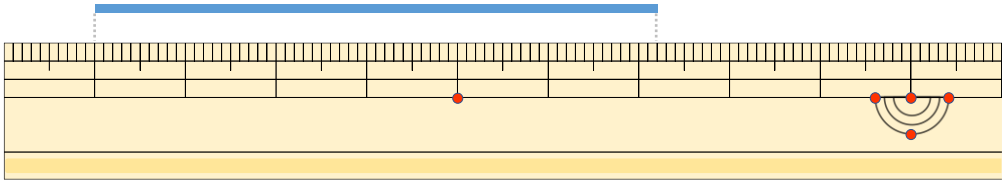

答え（　　）

すらすらぷりんと

長さのたんい 7

◎ ものさしではかる（mm）

7

日にち：　　月　　日

名まえ

・線の 長さは どれだけですか。

①

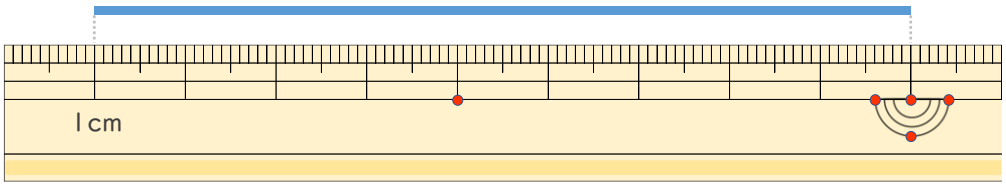

答え（　9 cm　）

②

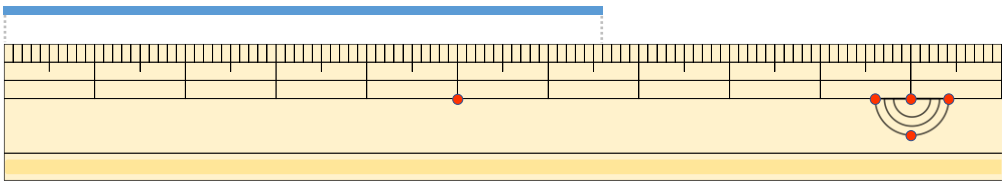

答え（　6 cm 6 mm　）

③

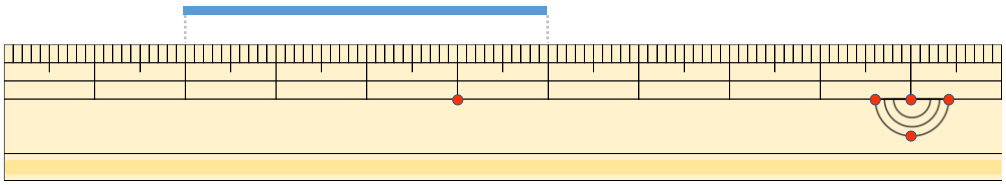

答え（　4 cm　）

④

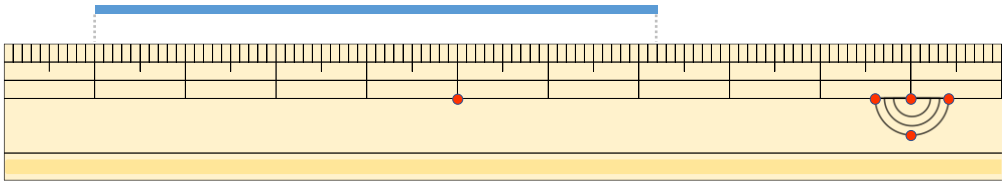

答え（　6 cm 2 mm　）

すらすらぷりんと