長さのたんい 5 ⑦

◎ ミリメートル

日にち：　　月　　日

名まえ

1　線の長さは何cm何mmでしょう。（うすい字はなぞりましょう。）

①

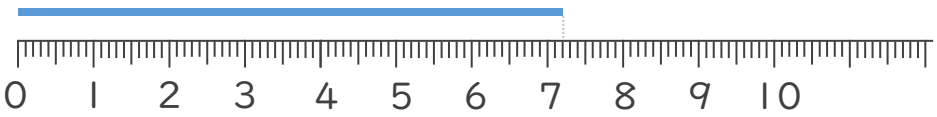

答え（　　cm　　mm）

②



答え（　　）

③

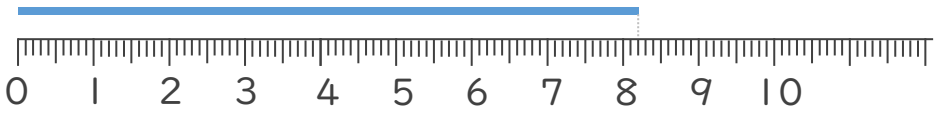

答え（　　）

④



答え（　　）

すらすらぷりんと

長さのたんい 5 ⑦

◎ ミリメートル

日にち：　　月　　日

名まえ

1　線の長さは何cm何mmでしょう。（うすい字はなぞりましょう。）

①

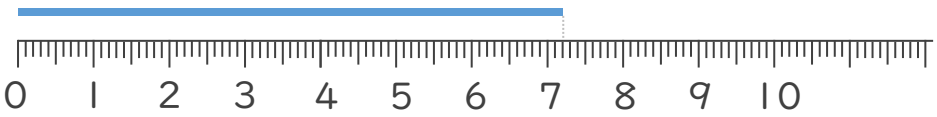

答え（　7 cm 2 mm　）

②



答え（　3 cm 9 mm　）

③

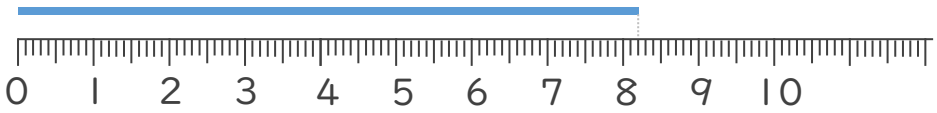

答え（　8 cm 2 mm　）

④



答え（　2 cm 5 mm　）

すらすらぷりんと