長さのたんい 7

◎ ものさしではかる（mm）

8

日にち：　　月　　日

名まえ

・線の 長さは どれだけですか。

①

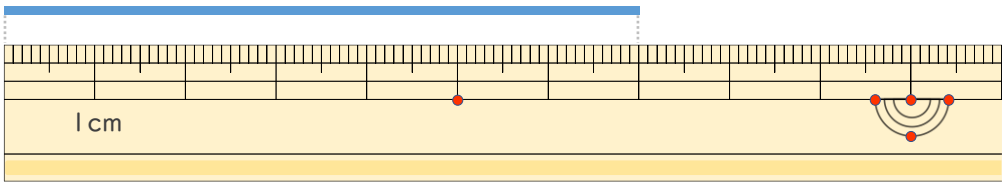

答え（　　）

②

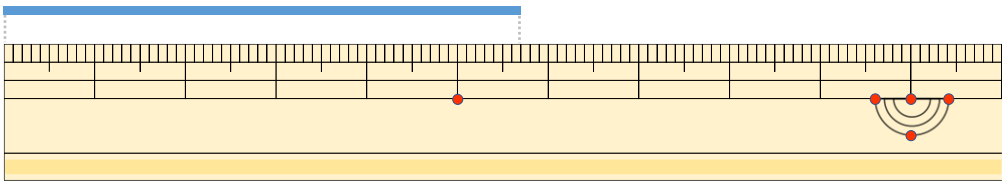

答え（　　）

③

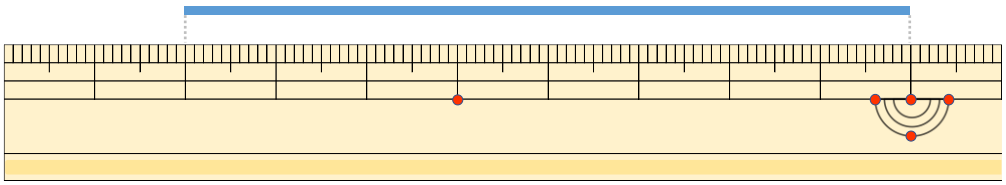

答え（　　）

④

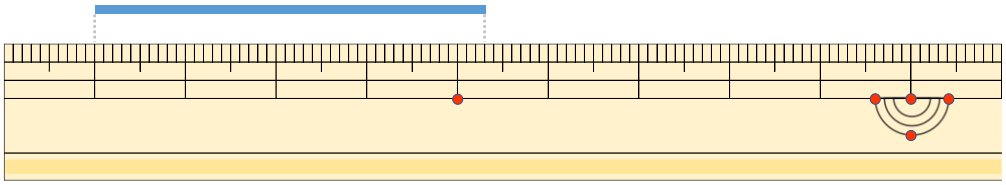

答え（　　）

すらすらぷりんと

長さのたんい 7

◎ ものさしではかる（mm）

8

日にち：　　月　　日

名まえ

・線の 長さは どれだけですか。

①

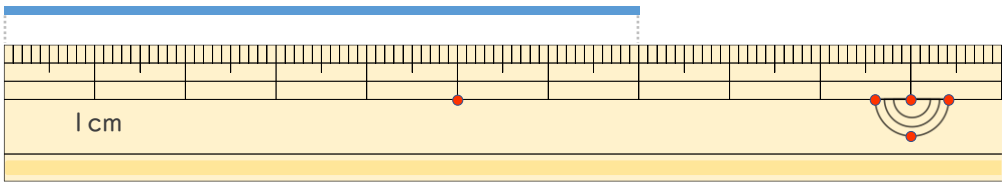

答え（　7 cm　）

②

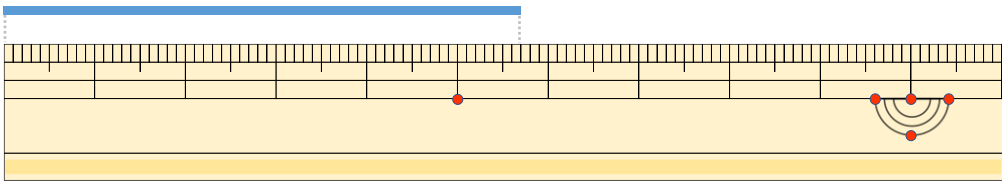

答え（　5 cm 7 mm　）

③

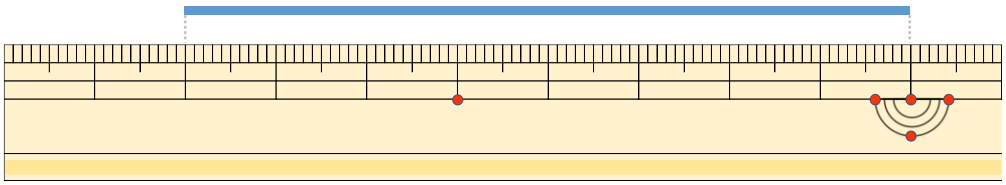

答え（　8 cm　）

④

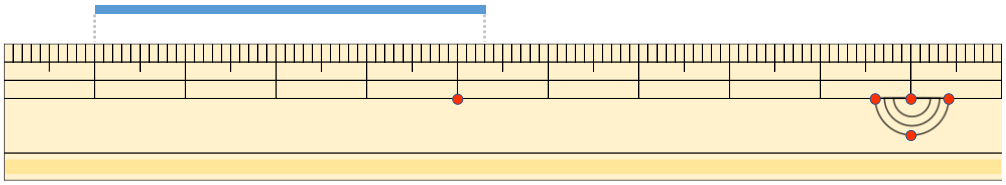

答え（　4 cm 3 mm　）

すらすらぷりんと