長さのたんい 5 ⑧

◎ ミリメートル

日にち：　　月　　日

名まえ

1　線の 長さは 何cm何mm でしょう。

①

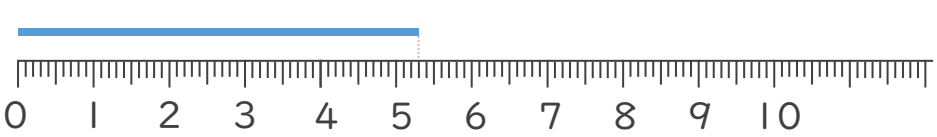

答え（　　）

②

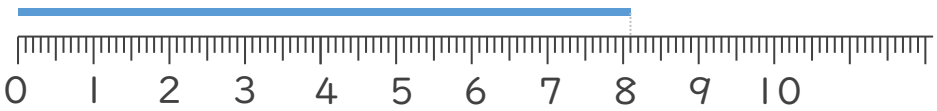

答え（　　）

③



答え（　　）

④



答え（　　）

すらすらぷりんと

長さのたんい 5 ⑧

◎ ミリメートル

日にち：　　月　　日

名まえ

1　線の 長さは 何cm何mm でしょう。

①

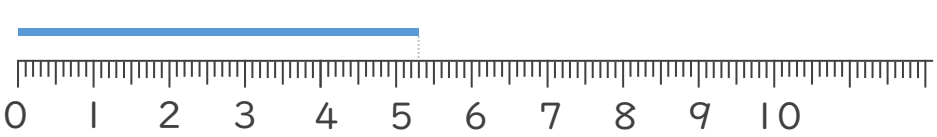

答え（　5 cm 3 mm　）

②

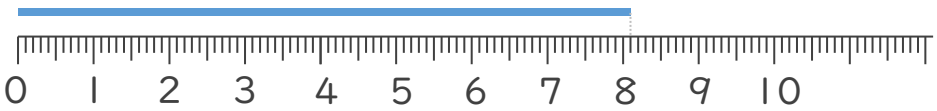

答え（　8 cm 1 mm　）

③



答え（　2 cm 3 mm　）

④



答え（　4 cm 1 mm　）

すらすらぷりんと