# 長さのたんい 7

◎ ものさしではかる（mm）

9

日にち：　　月　　日

名まえ

・線の 長さは どれだけですか。

①

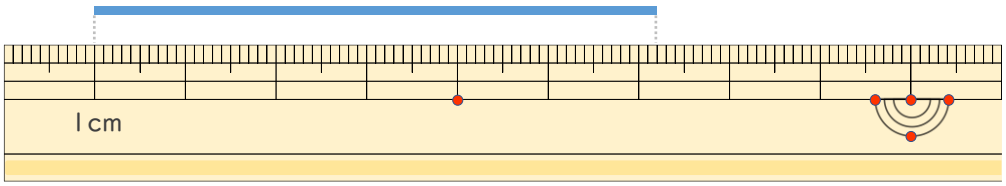


答え（　　）

②

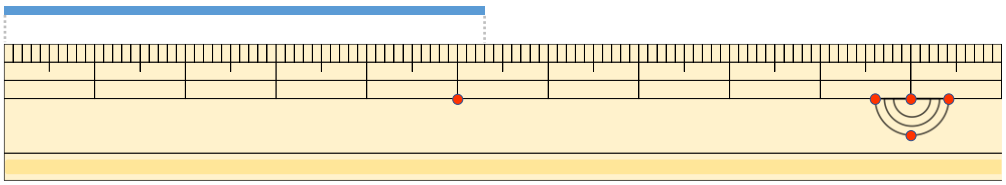

答え（　　）

③

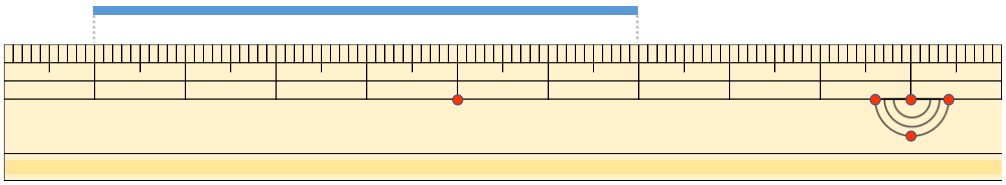

答え（　　）

④

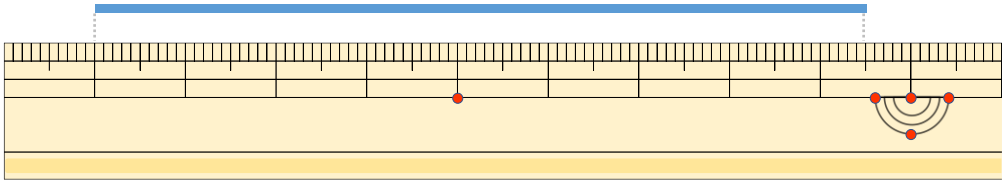

答え（　　）



すらすらぷりんと

# 長さのたんい 7

◎ ものさしではかる（mm）

9

日にち：　　月　　日

名まえ

・線の 長さは どれだけですか。

①

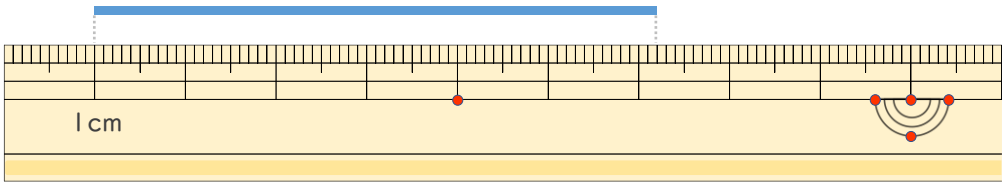


答え（ 6 cm 2 mm ）

②

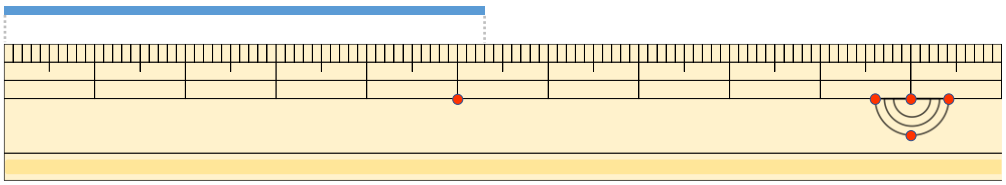

答え（ 5 cm 3 mm ）

③

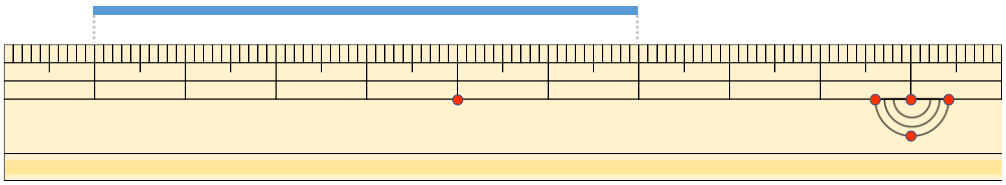

答え（ 6 cm ）

④

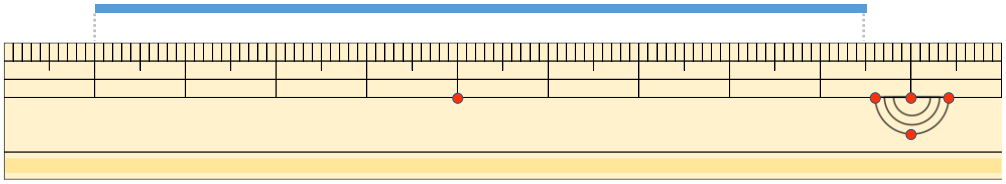

答え（ 8 cm 5 mm ）



すらすらぷりんと