長さのたんい 6

◎ ものさしの見かた（mm）

9

日にち：　　月　　日

名まえ

1　左はしから ↓ までの 長さは 何cm何mm ですか。

①

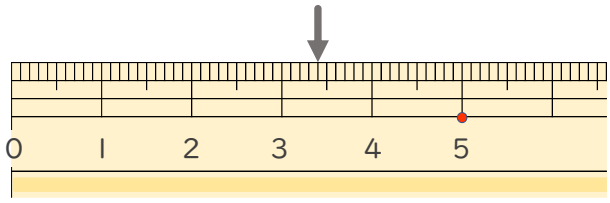

答え（　　）

②

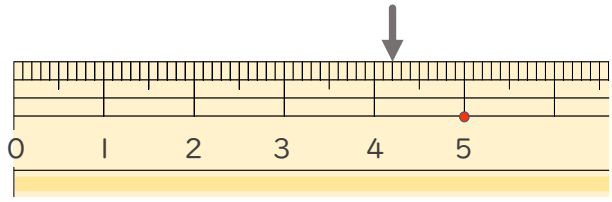

答え（　　）

2　左はしから ア、イ、ウ、までの 長さは それぞれ どれだけですか。

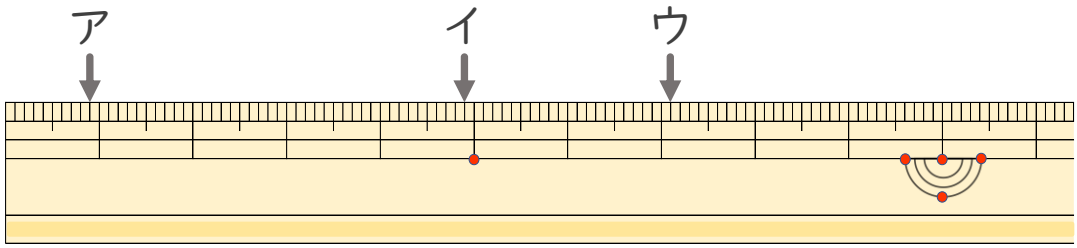

ア（　　）　イ（　　）

ウ（　　）

すらすらぷりんと

長さのたんい 6

◎ ものさしの見かた（mm）

9

日にち：　　月　　日

名まえ

1　左はしから ↓ までの 長さは 何cm何mm ですか。

①

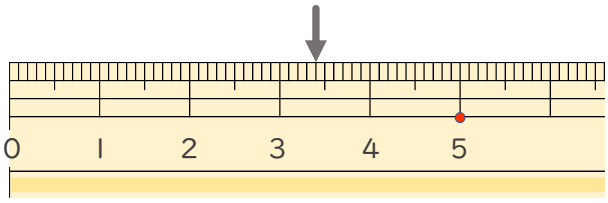

答え（　3 cm 4 mm　）

②

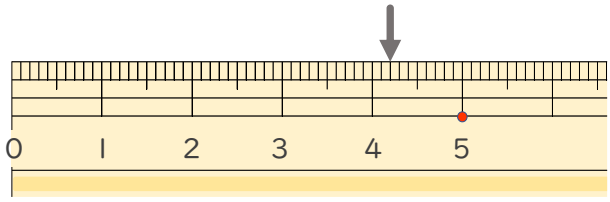

答え（　4 cm 2 mm　）

2　左はしから ア、イ、ウ、までの 長さは それぞれ どれだけですか。

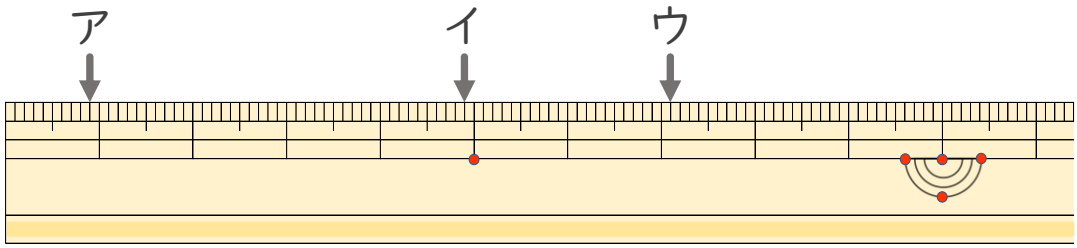

ア（　9 mm　）　イ（　4 cm 9 mm　）

ウ（　7 cm 1 mm　）

すらすらぷりんと