かけ算の筆算 22

◎ 2けた ×2けたの かけ算とは

1

日にち：　　月　　日

名まえ

1 1まい12円の工作用紙を23まい買います。
代金をもとめる式を作りましょう。(うすい字はなぞりましょう)

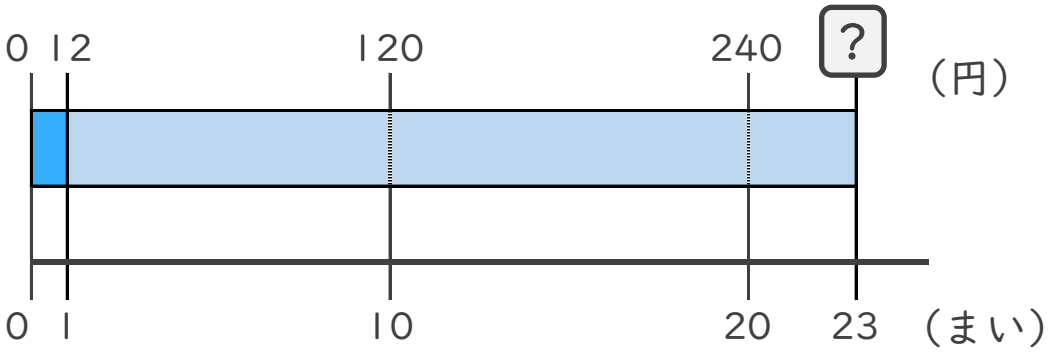

1まいのねだん × 買う数

式： 12 × 23

2 1こ31円のおかしを12こ買います。
代金をもとめる式を作りましょう。

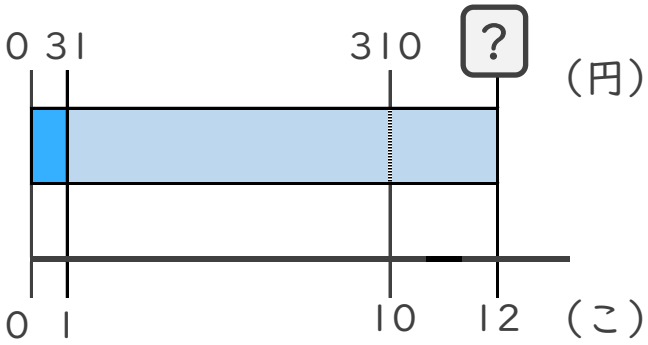

1このねだん × 買う数

式：

① 例題

すらすらぷりんと

かけ算の筆算 22

◎ 2けた ×2けたの かけ算とは

2

日にち：　　月　　日

名まえ

1 1まい13円の工作用紙を22まい買います。
代金をもとめる式を作りましょう。

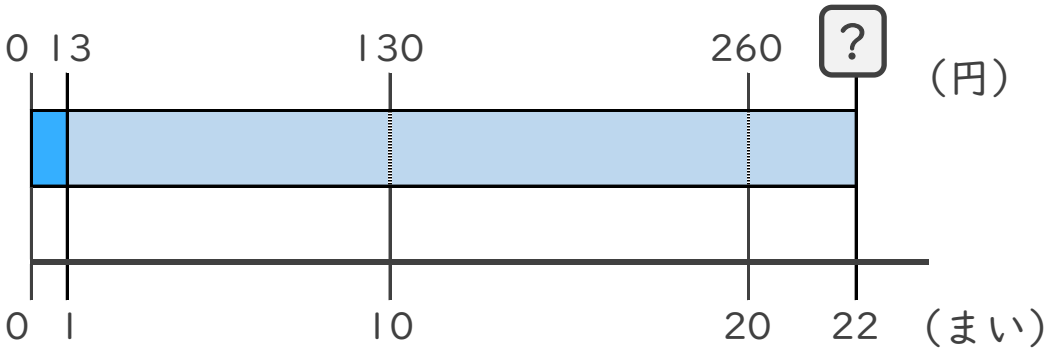

1まいのねだん × 買う数

式：

2 1こ21円のおかしを41こ買います。
代金をもとめる式を作りましょう。

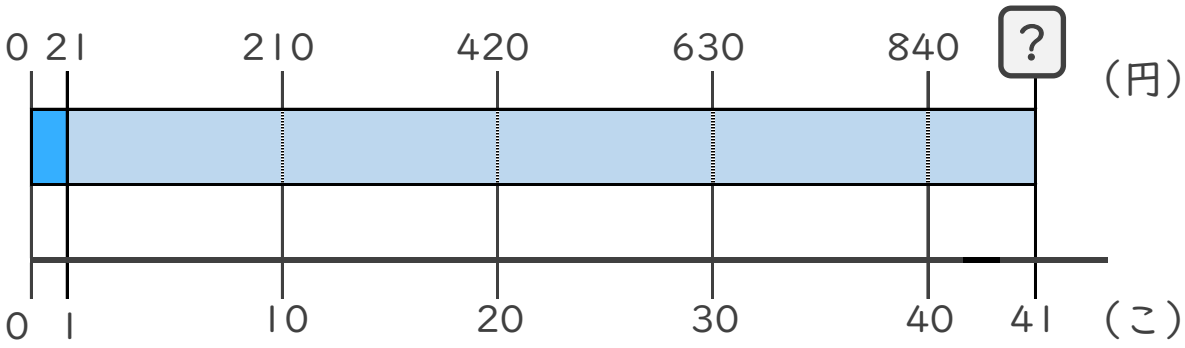

1このねだん × 買う数

式：

すらすらぷりんと

かけ算の筆算 22

◎ 2けた ×2けたの かけ算とは

3

日にち：　　月　　日

名まえ

1 1こ12円のビー玉を32こ買います。
代金をもとめる式を作りましょう。

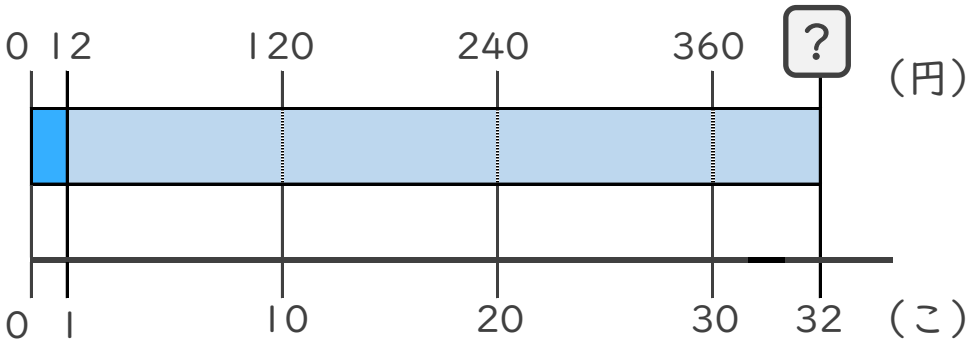

式：

2 1こ22円のおかしを41こ買います。
代金をもとめる式を作りましょう。

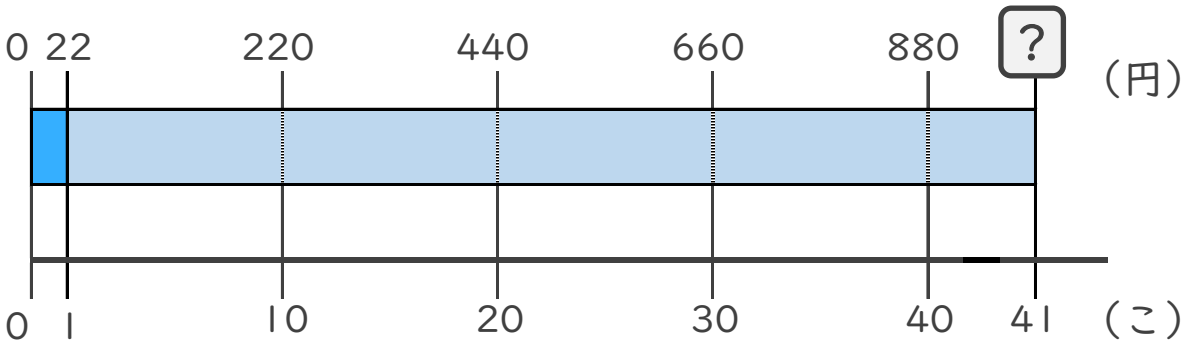

式：

すらすらぷりんと

かけ算の筆算 22

◎ 2けた ×2けたの かけ算とは

4

日にち：　　月　　日

名まえ

1 1本13円のリボンを23本買います。
代金をもとめる式を作りましょう。

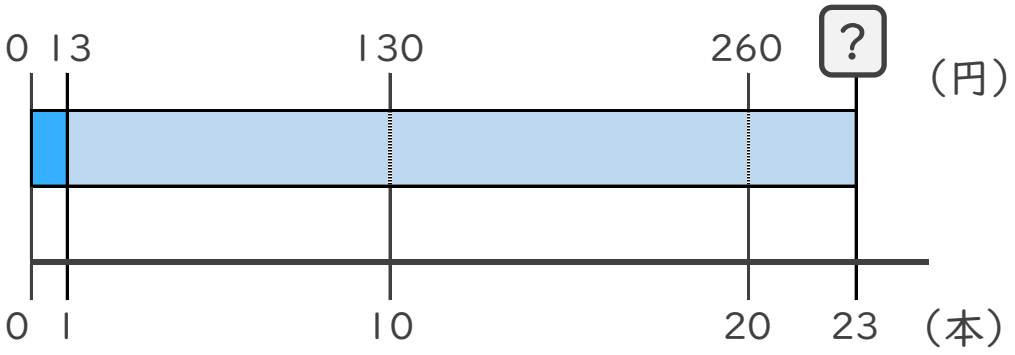

式：

2 1本32円の花を13本買います。
代金をもとめる式を作りましょう。

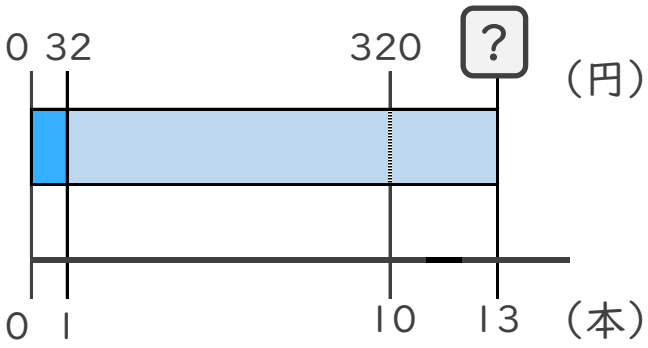

式：

すらすらぷりんと

かけ算の筆算 22

◎ 2けた ×2けたの かけ算とは

1

日にち：　　月　　日

名まえ

1 1まい12円の工作用紙を23まい買います。
代金をもとめる式を作りましょう。(うすい字はなぞりましょう)

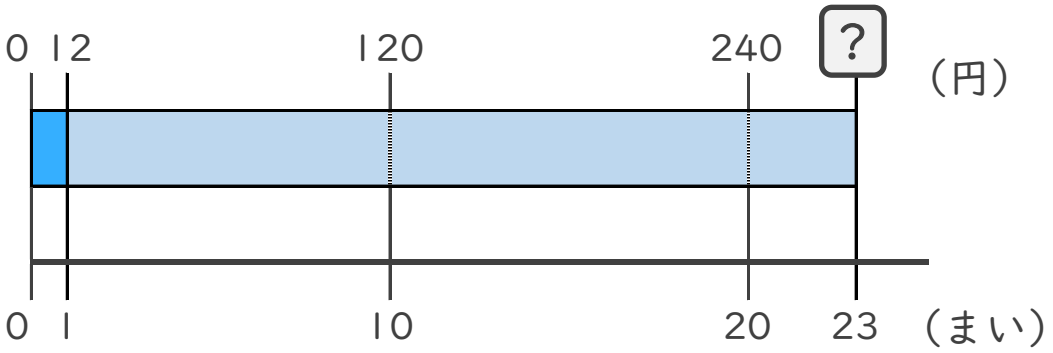

1まいのねだん × 買う数

式： 12 × 23

2 1こ31円のおかしを12こ買います。
代金をもとめる式を作りましょう。

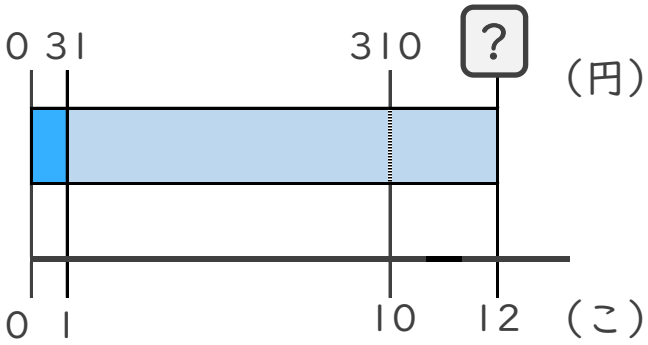

1このねだん × 買う数

式： 31 × 12

① 例題 答え

すらすらぷりんと

かけ算の筆算 22

◎ 2けた ×2けたの かけ算とは

2

日にち：　　月　　日

名まえ

1 1まい13円の工作用紙を22まい買います。
代金をもとめる式を作りましょう。

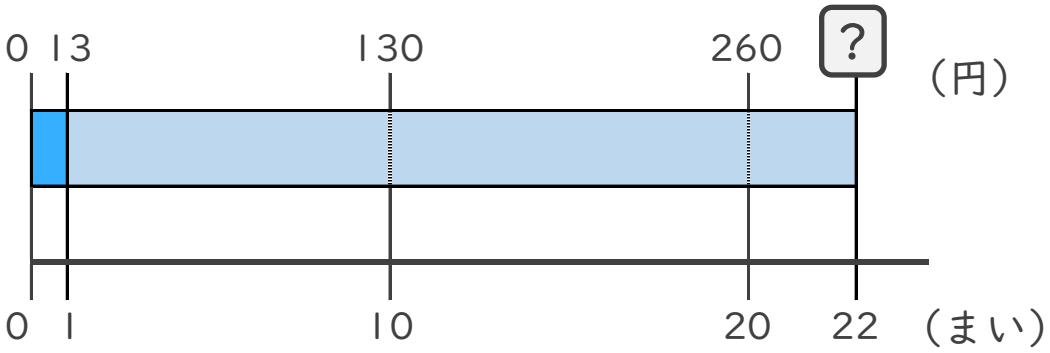

1まいのねだん × 買う数

式： 13 × 22

2 1こ21円のおかしを41こ買います。
代金をもとめる式を作りましょう。

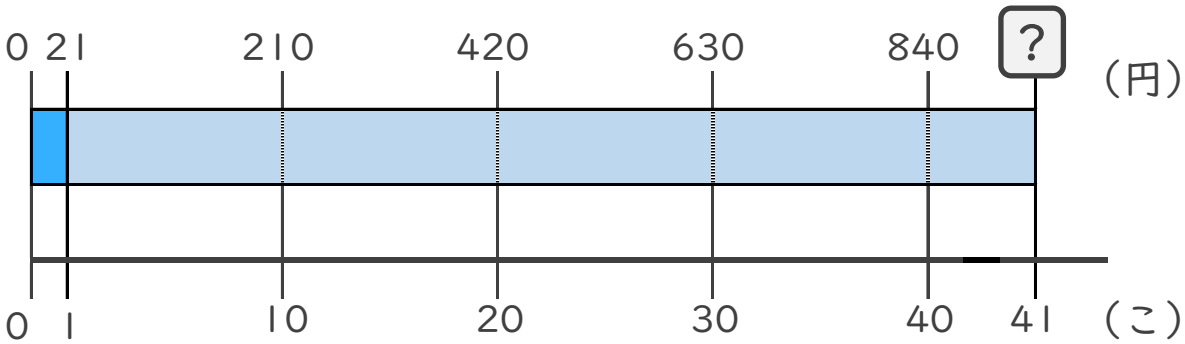

1このねだん × 買う数

式： 21 × 41

すらすらぷりんと

かけ算の筆算 22

◎ 2けた ×2けたの かけ算とは

3

日にち：　　月　　日

名まえ

1 1こ12円のビー玉を32こ買います。
代金をもとめる式を作りましょう。

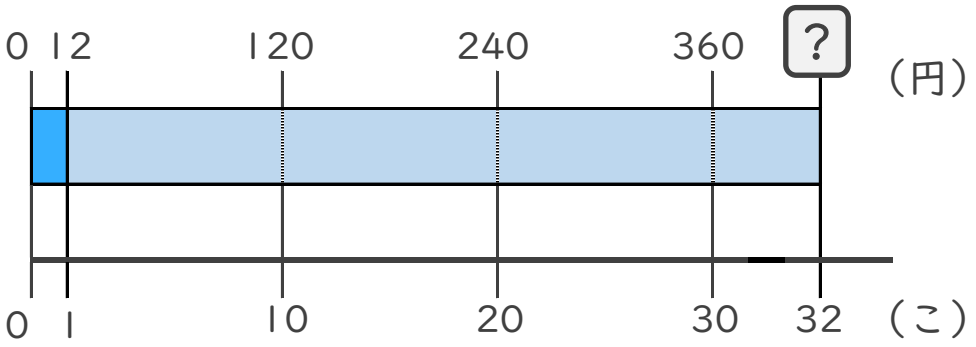

式： 12 × 32

2 1こ22円のおかしを41こ買います。
代金をもとめる式を作りましょう。

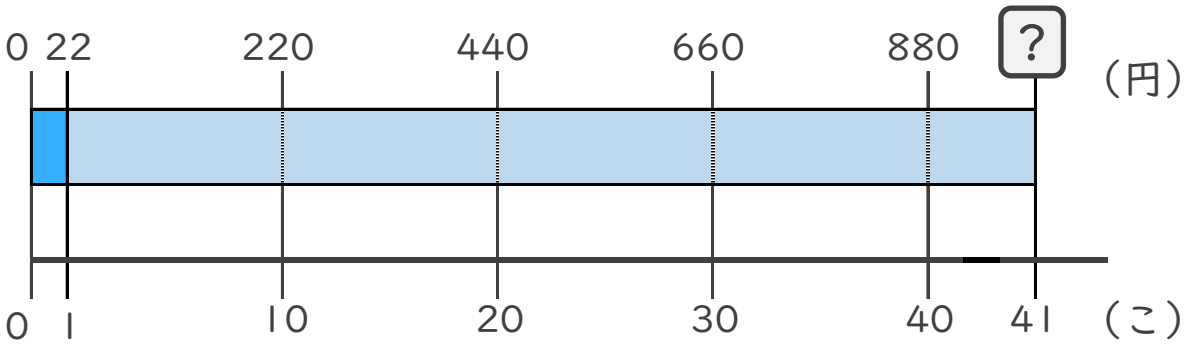

式： 22 × 41

すらすらぷりんと

かけ算の筆算 22

◎ 2けた ×2けたの かけ算とは

4

日にち：　　月　　日

名まえ

1 1本13円のリボンを23本買います。
代金をもとめる式を作りましょう。

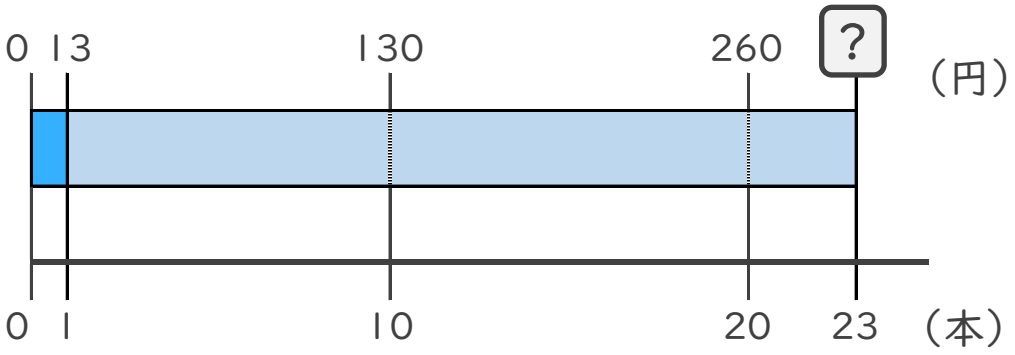

式： 13 × 23

2 1本32円の花を13本買います。
代金をもとめる式を作りましょう。

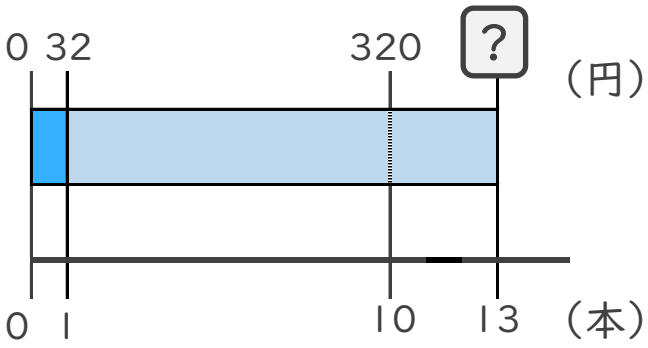

式： 32 × 13

すらすらぷりんと