三角形と角 3

◎ コンパスを使った
二等辺三角形のかき方

1

日にち：　　月　　日

名まえ

・次の二等辺三角形をかきましょう。(うすい線はしっかりなぞろう。)

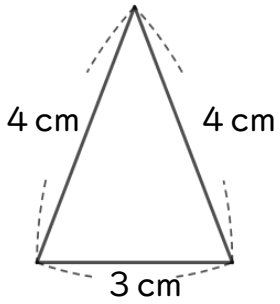

① 3cmの辺を引く。



② コンパスで4cmのところに
しるしをつける。

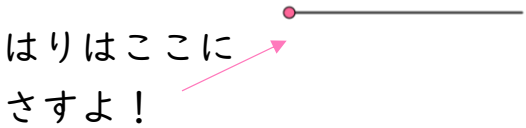

③ 反対がわも4cmのしるしと
交わるようにしるしをつける。

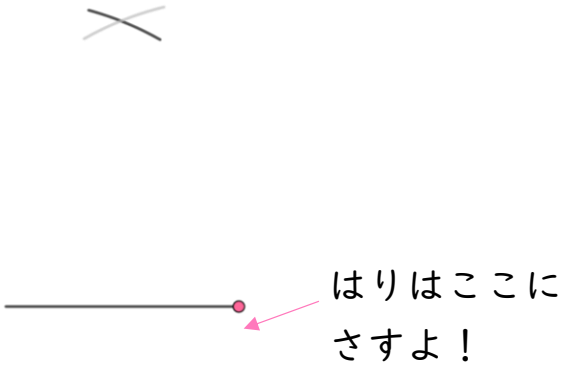

④ 交わったところと辺のはしを
線でむすぶ。

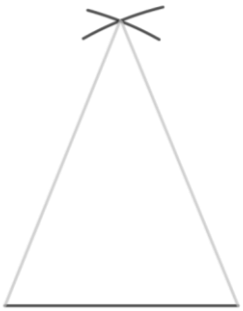

① 例題

すらすらぷりんと

三角形と角 3

◎ コンパスを使った
二等辺三角形のかき方

2

日にち：　　月　　日

名まえ

・次の二等辺三角形をかきましょう。(うすい線はしっかりなぞろう。)

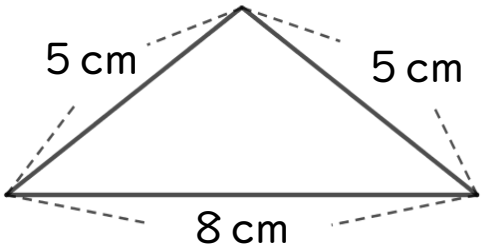

① 8cmの辺を引く。

② コンパスで5cmのところに
しるしをつける。

はりはここに
さすよ！

③ 反対がわも5cmのしるしと
交わるようにしるしをつける。

④ 交わったところと辺のはしを
線でむすぶ。

はりはここに
さすよ！

すらすらぷりんと

三角形と角 3

◎ コンパスを使った
二等辺三角形のかき方

3

日にち：　　月　　日

名まえ

・次の二等辺三角形をかきましょう。(うすい線はしっかりなぞろう。)

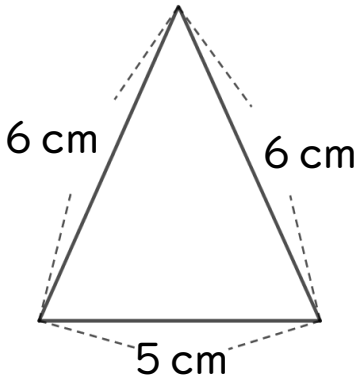

① 5cmの辺を引く。

② コンパスで6cmのところに
しるしをつける。



はりはここに
さすよ！

③ 反対がわも6cmのしるしと
交わるようにしるしをつける。

④ 交わったところと辺のはしを
線でむすぶ。

はりはここに
さすよ！

すらすらぷりんと

三角形と角 3

◎ コンパスを使った
二等辺三角形のかき方

4

日にち：　　月　　日

名まえ

・次の二等辺三角形をかきましょう。(うすい線はしっかりなぞろう。)

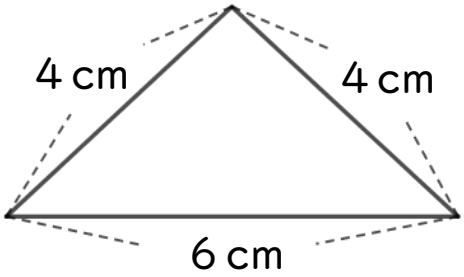

① 6 cmの辺を引く。



② コンパスで4 cmのところに
しるしをつける。



③ 反対がわも4 cmのしるしと
交わるようにしるしをつける。

④ 交わったところと辺のはしを
線でむすぶ。

すらすらぷりんと

三角形と角 3

◎ コンパスを使った
二等辺三角形のかき方

5

日にち：　　月　　日

名まえ

・次の二等辺三角形をかきましょう。(うすい線はしっかりなぞろう。)

①

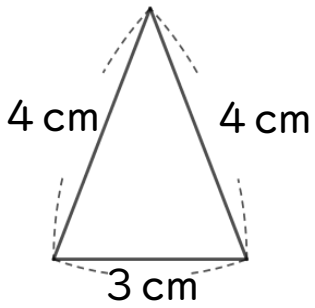

②

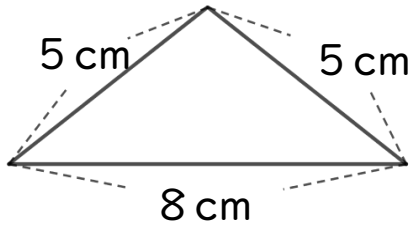

③

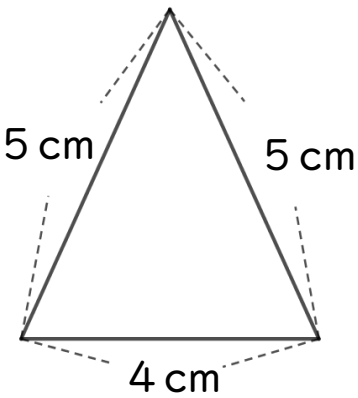

すらすらぷりんと

三角形と角 3

◎ コンパスを使った
二等辺三角形のかき方

6

日にち：　　月　　日

名まえ

・次の二等辺三角形をかきましょう。(うすい線はしっかりなぞろう。)

①

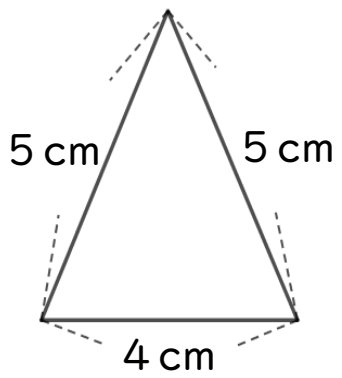

②

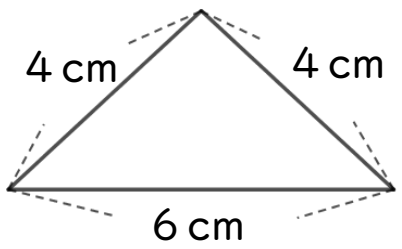

③

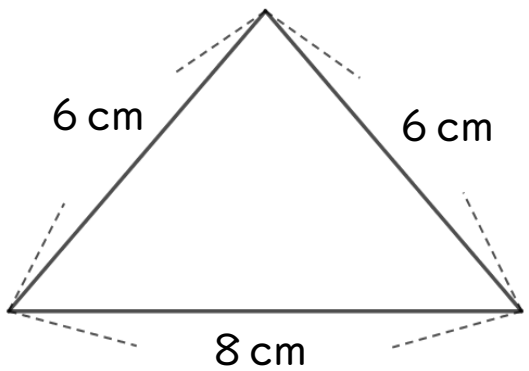

すらすらぷりんと

三角形と角 3

◎ コンパスを使った
二等辺三角形のかき方

7

日にち：　　月　　日

名まえ

・次の二等辺三角形をかきましょう。(うすい線はしっかりなぞろう。)

①

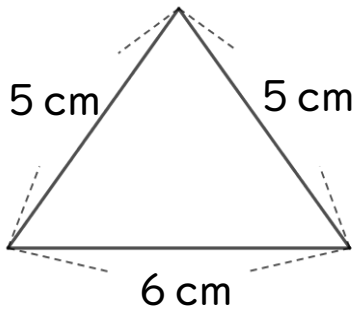

②

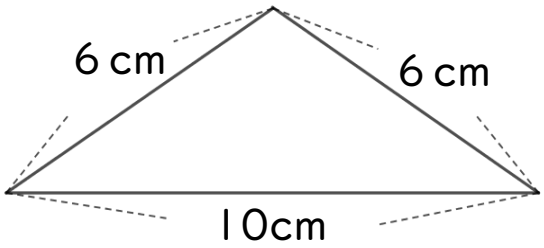

③

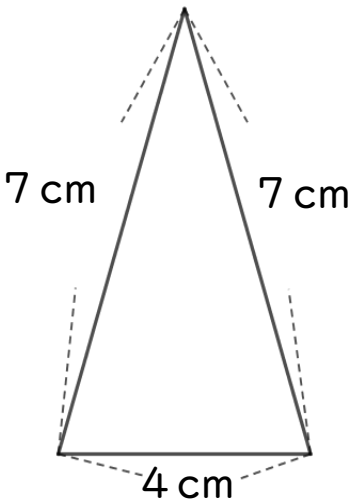

すらすらぷりんと

三角形と角 3

◎ コンパスを使った
二等辺三角形のかき方

8

日にち：　　月　　日

名まえ

・次の二等辺三角形をかきましょう。

①

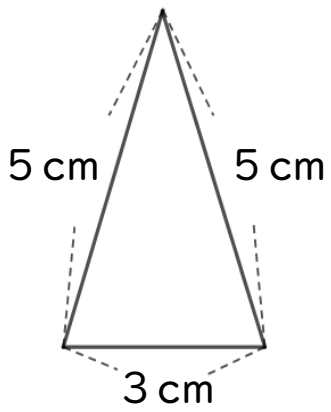

②

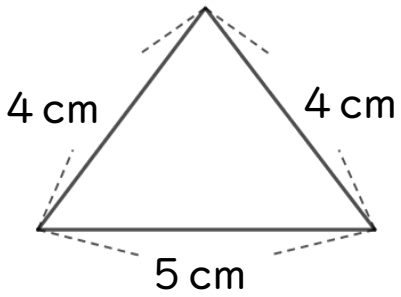

③

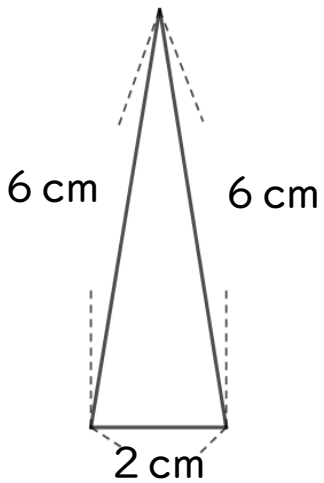

すらすらぷりんと

三角形と角 3

◎ コンパスを使った
二等辺三角形のかき方

9

日にち：　　月　　日

名まえ

・次の二等辺三角形をかきましょう。

①

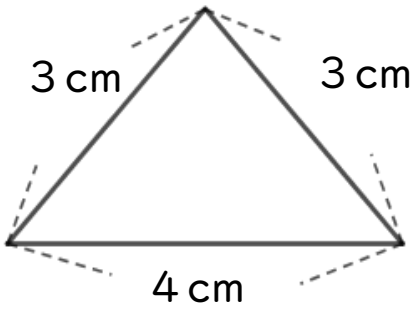

②

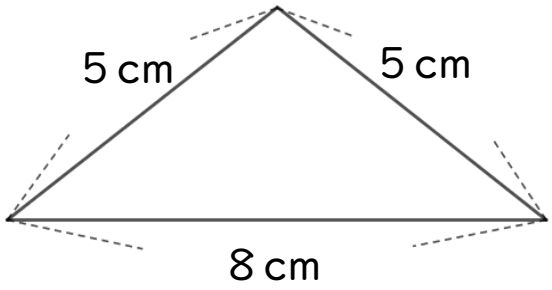

③

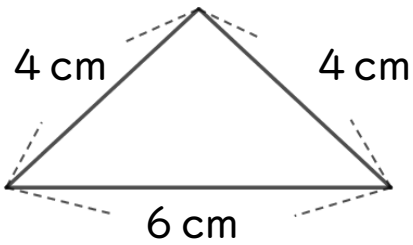

すらすらぷりんと

三角形と角 3

◎ コンパスを使った二等辺三角形のかき方

10

日にち：　　月　　日

名まえ

1 次の二等辺三角形をかきましょう。

①

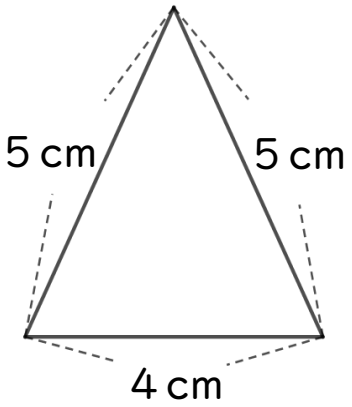

②

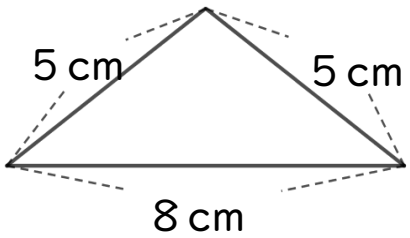

2 下の図で、正三角形と二等辺三角形をえらびましょう。

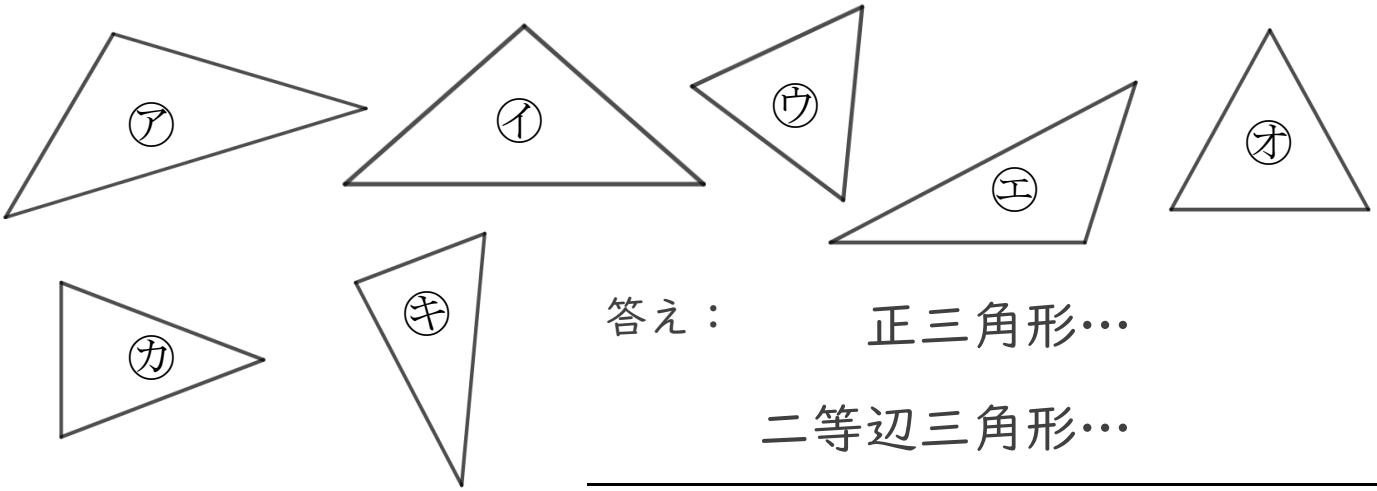

答え：　正三角形…

二等辺三角形…

すらすらぷりんと

三角形と角 3

◎ コンパスを使った
二等辺三角形のかき方

11

日にち：　　月　　日

名まえ

1　次の二等辺三角形をかきましょう。

①

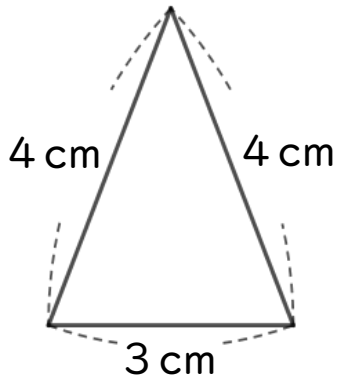

②

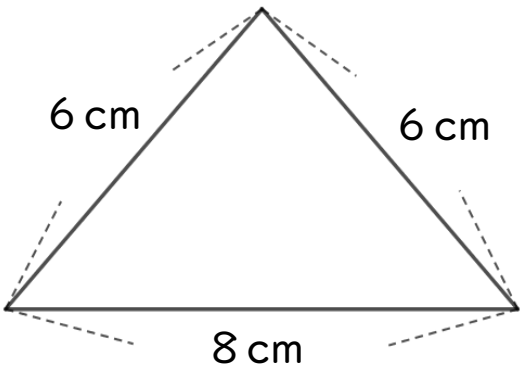

2　下の図で、正三角形と二等辺三角形をえらびましょう。

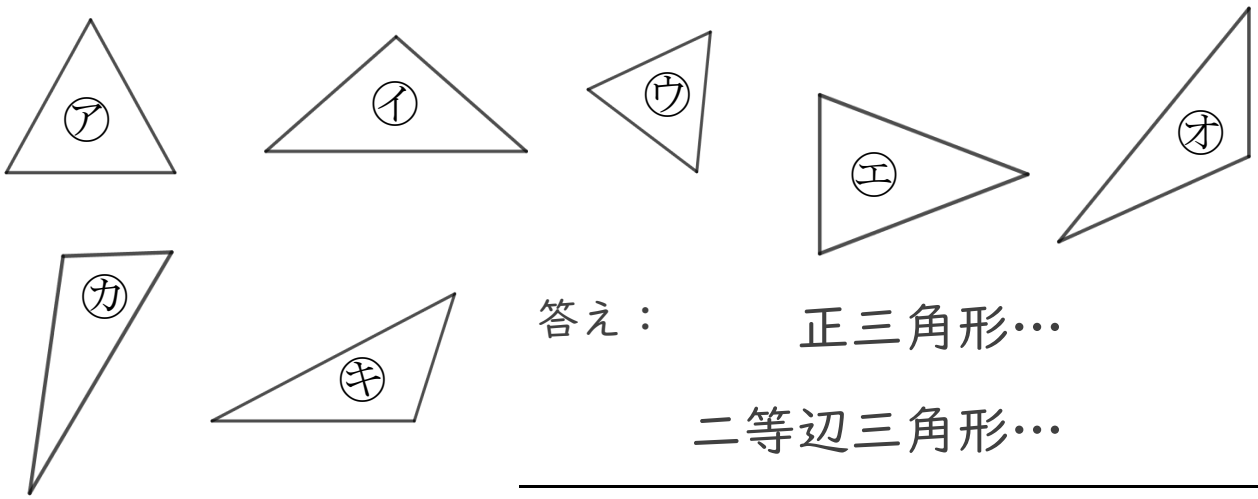

答え：　正三角形…

二等辺三角形…

すらすらぷりんと

三角形と角 3

◎ コンパスを使った二等辺三角形のかき方

12

日にち：　　月　　日

名まえ

1　次の二等辺三角形をかきましょう。

①

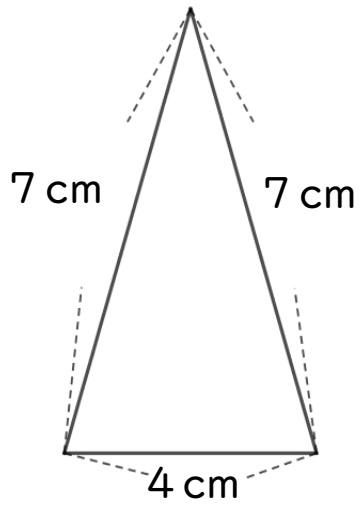

②

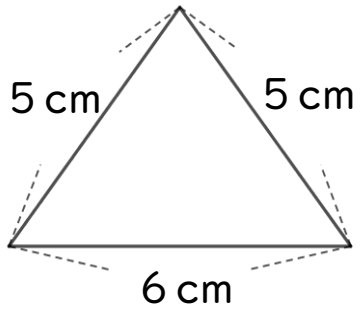

2　下の図で、正三角形と二等辺三角形をえらびましょう。

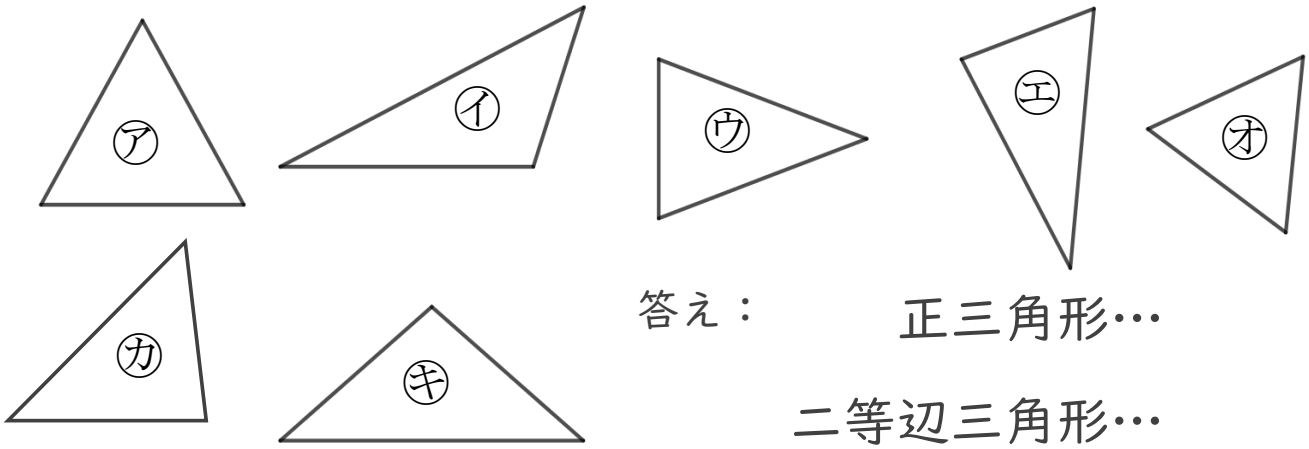

答え：　正三角形…

二等辺三角形…

すらすらぷりんと

三角形と角 3

◎ コンパスを使った二等辺三角形のかき方

13

日にち：　　月　　日

名まえ

1　次の二等辺三角形をかきましょう。

①

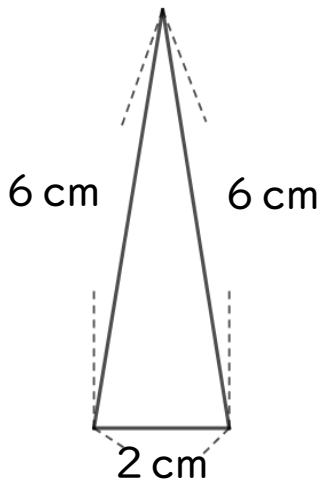

②

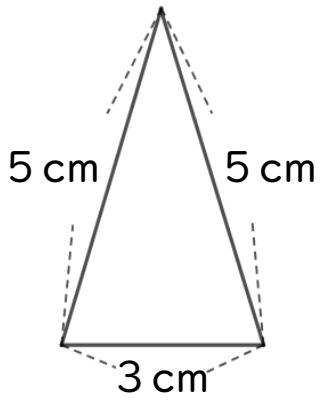

2　下の図で、正三角形と二等辺三角形をえらびましょう。

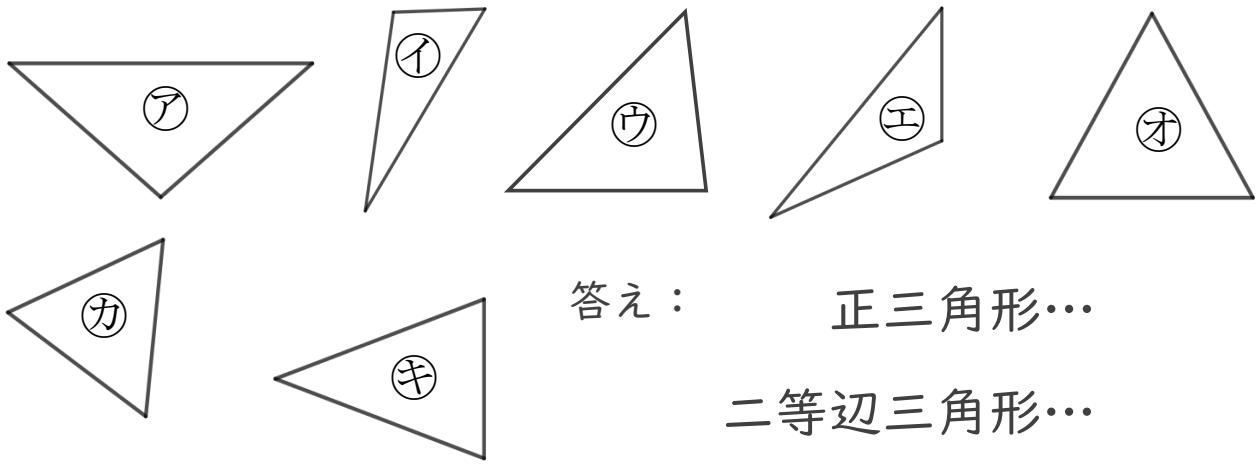

答え：　正三角形…

二等辺三角形…

すらすらぷりんと

三角形と角 3

◎ コンパスを使った二等辺三角形のかき方

14

日にち：　　月　　日

名まえ

1　次の二等辺三角形をかきましょう。

①

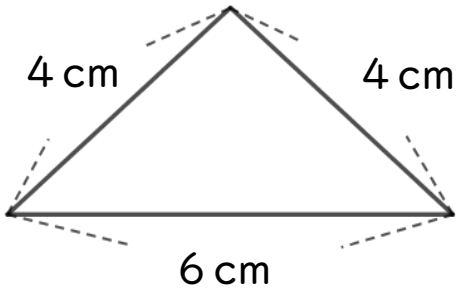

②

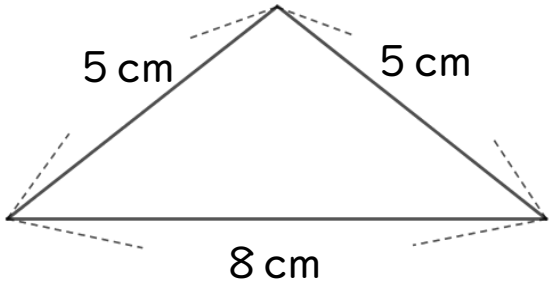

2　下の図で、正三角形と二等辺三角形をえらびましょう。

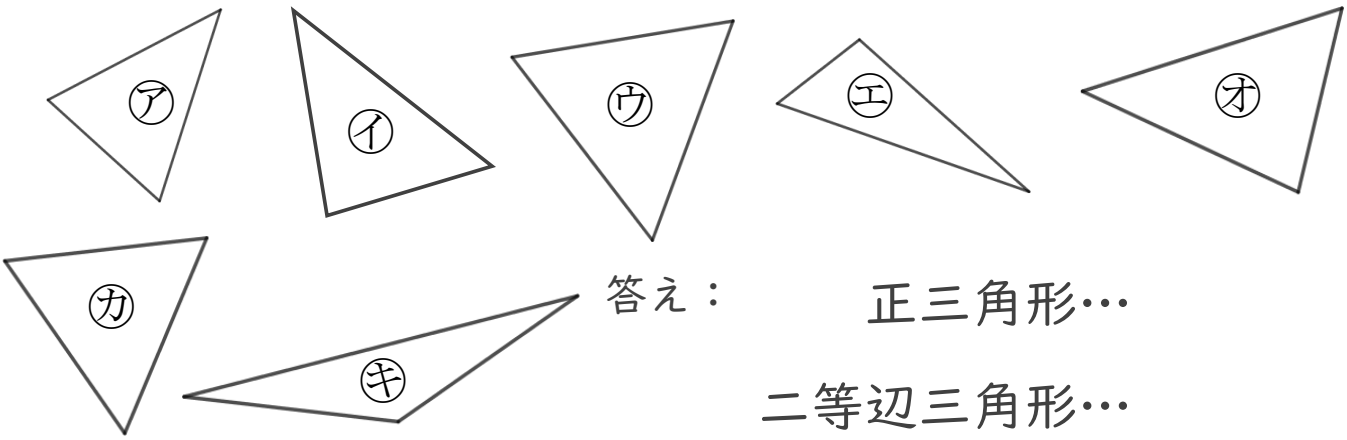

答え：　正三角形…

二等辺三角形…

すらすらぷりんと

三角形と角 3

◎ コンパスを使った二等辺三角形のかき方

15

めざせ70点！

てん

名まえ

1 次の二等辺三角形をかきましょう。(各35点)

①

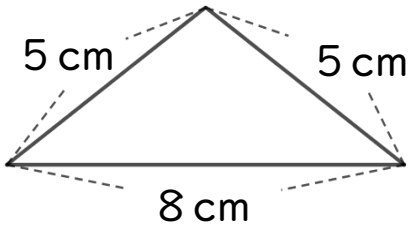

②

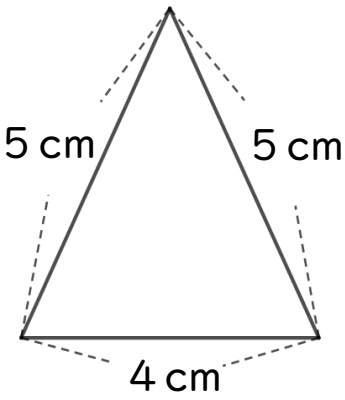

2 下の図で、正三角形と二等辺三角形をえらびましょう。(各30点)

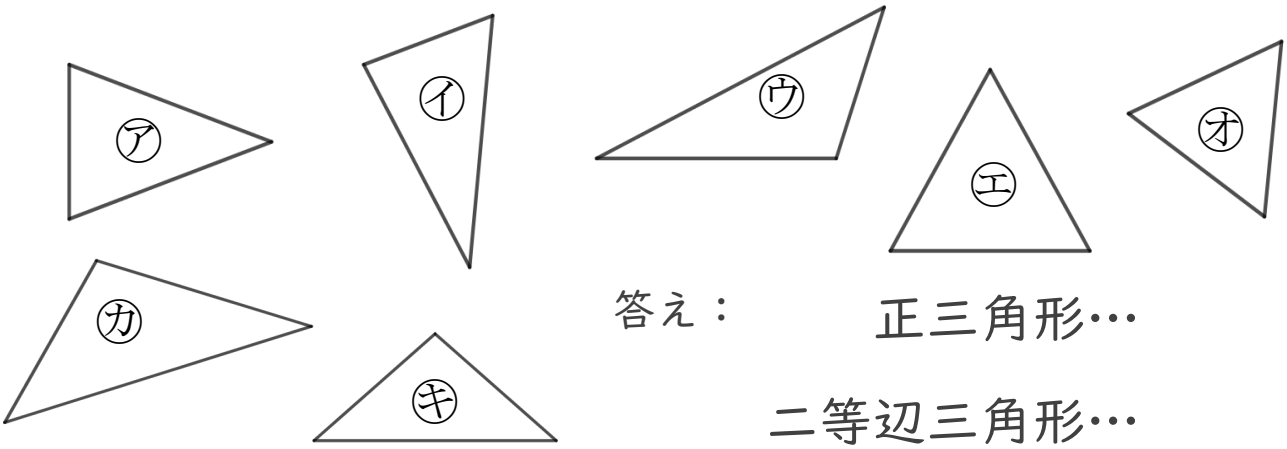

答え：　正三角形…

二等辺三角形…

すらすらぷりんと

三角形と角 3

◎ コンパスを使った二等辺三角形のかき方

16

めざせ70点！

てん

名まえ

1 次の二等辺三角形をかきましょう。(各35点)

①

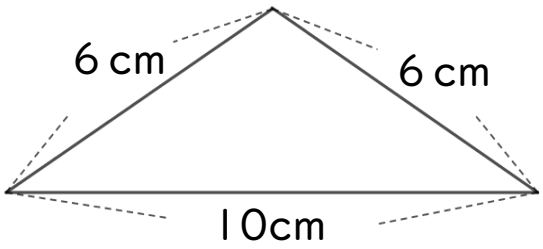

②

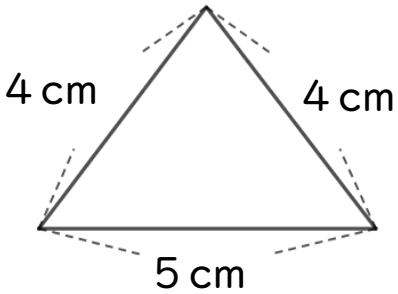

2 下の図で、正三角形と二等辺三角形をえらびましょう。(各30点)

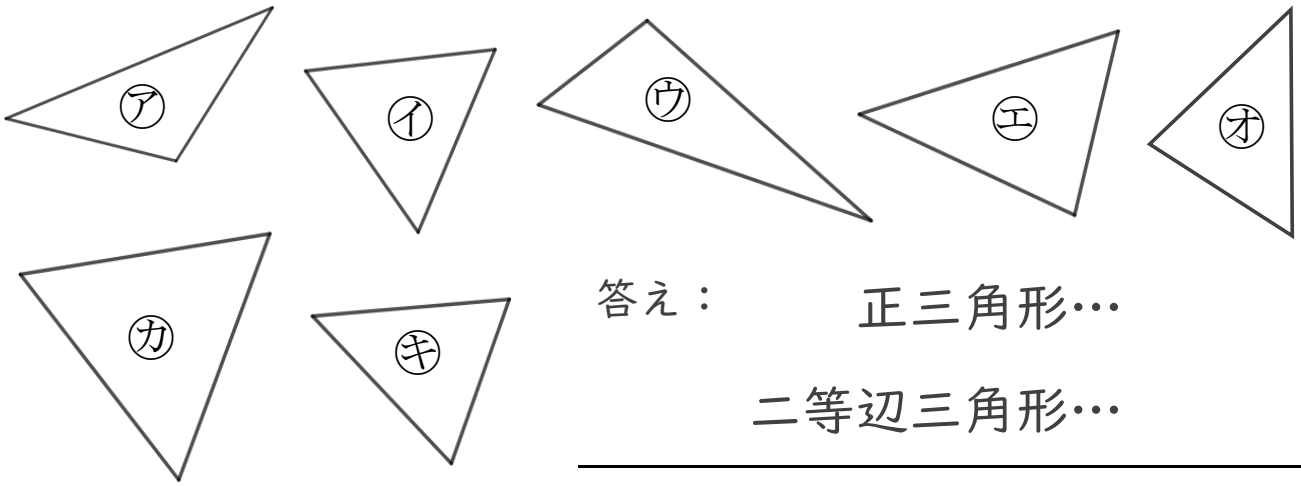

答え：　正三角形…

二等辺三角形…

すらすらぷりんと

三角形と角 3

◎ コンパスを使った
二等辺三角形のかき方

1

日にち：　　月　　日

名まえ

・次の二等辺三角形をかきましょう。(うすい線はしっかりなぞろう。)

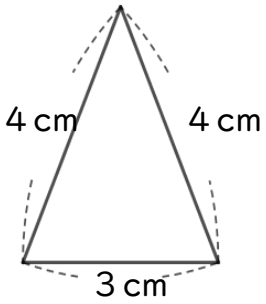

① 3cmの辺を引く。

② コンパスで4cmのところに
しるしをつける。

③ 反対がわも4cmのしるしと
交わるようにしるしをつける。

④ 交わったところと辺のはしを
線でむすぶ。

① 例題　答え

すらすらぷりんと

三角形と角 3

◎ コンパスを使った
二等辺三角形のかき方

2

日にち：　　月　　日

名まえ

・次の二等辺三角形をかきましょう。(うすい線はしっかりなぞろう。)

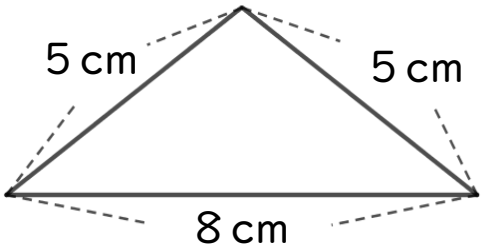

① 8cmの辺を引く。

② コンパスで5cmのところに
しるしをつける。

③ 反対がわも5cmのしるしと
交わるようにしるしをつける。

④ 交わったところと辺のはしを
線でむすぶ。

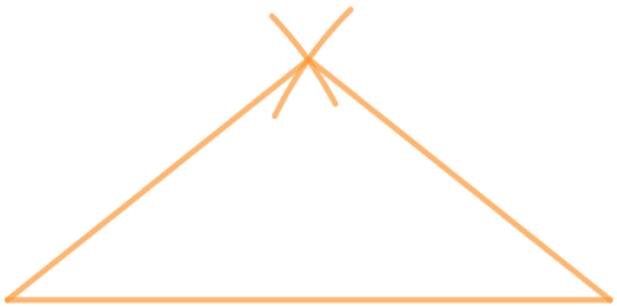

② 確認　答え

すらすらぷりんと

三角形と角 3

◎ コンパスを使った
二等辺三角形のかき方

3

日にち：　　月　　日

名まえ

・次の二等辺三角形をかきましょう。(うすい線はしっかりなぞろう。)

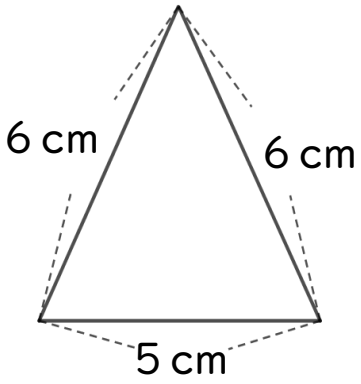

① 6 cmの辺を引く。



② コンパスで7 cmのところに
しるしをつける。



③ 反対がわも7 cmのしるしと
交わるようにしるしをつける。

④ 交わったところと辺のはしを
線でむすぶ。

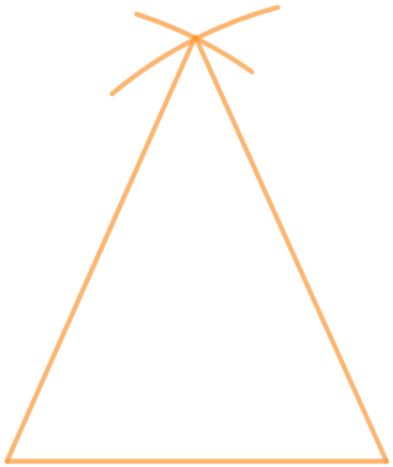

③ 確認　答え

すらすらぷりんと

三角形と角 3

◎ コンパスを使った
二等辺三角形のかき方

4

日にち：　　月　　日

名まえ

・次の二等辺三角形をかきましょう。(うすい線はしっかりなぞろう。)

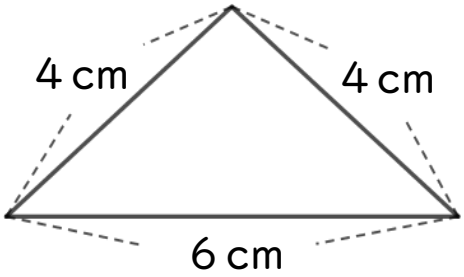

① 6 cmの辺を引く。



② コンパスで4 cmのところに
しるしをつける。



③ 反対がわも4 cmのしるしと
交わるようにしるしをつける。

④ 交わったところと辺のはしを
線でむすぶ。

すらすらぷりんと

三角形と角 3

◎ コンパスを使った
二等辺三角形のかき方

5

日にち：　　月　　日

名まえ

・次の二等辺三角形をかきましょう。(うすい線はしっかりなぞろう。)

①

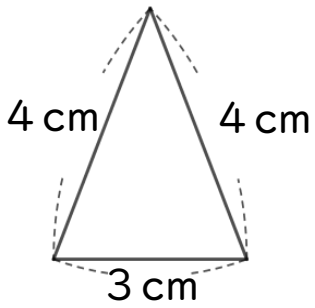

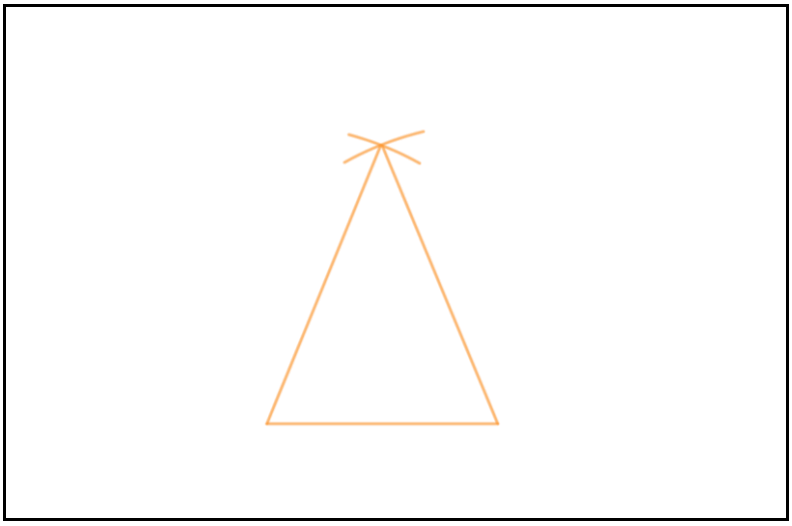

②

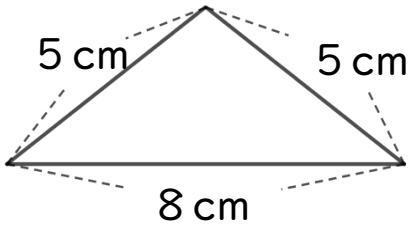

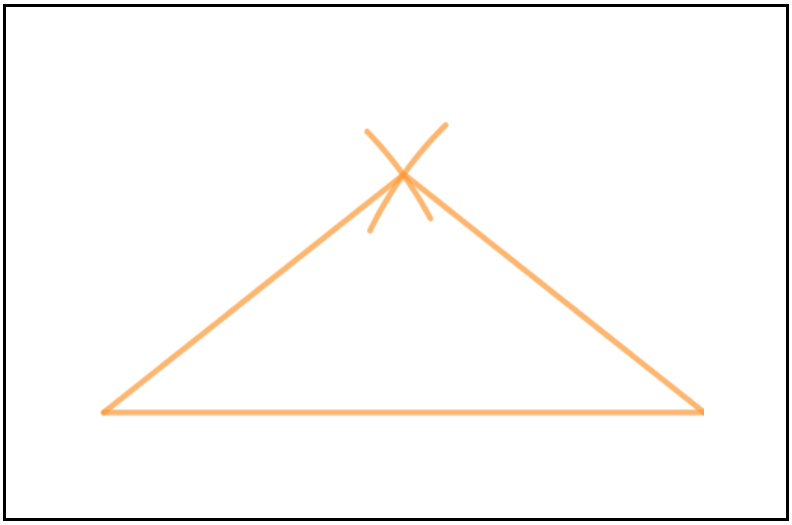

③

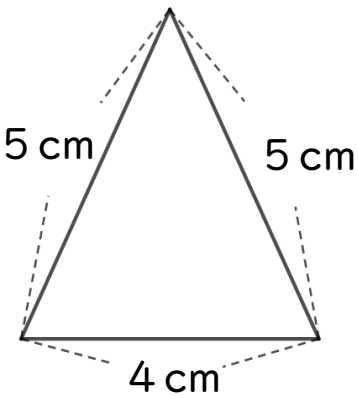

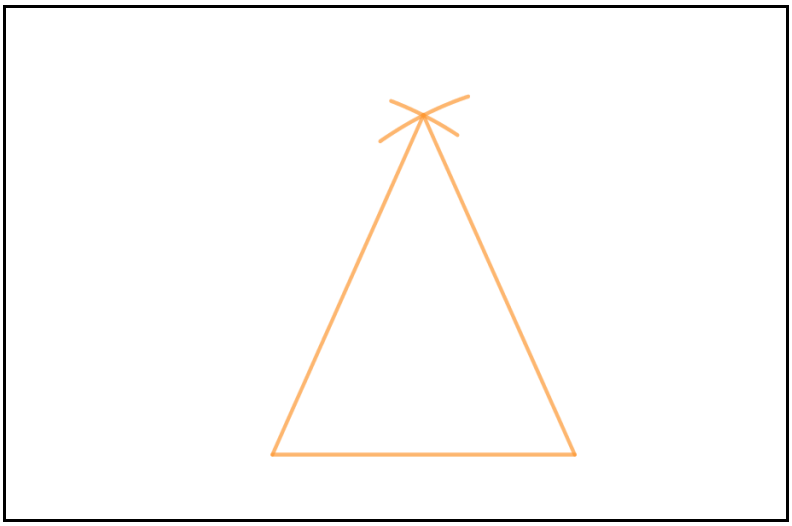

すらすらぷりんと

三角形と角 3

◎ コンパスを使った
二等辺三角形のかき方

6

日にち：　　月　　日

名まえ

・次の二等辺三角形をかきましょう。(うすい線はしっかりなぞろう。)

①

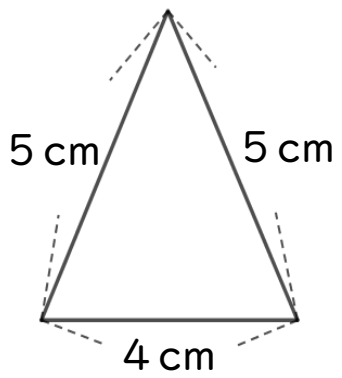

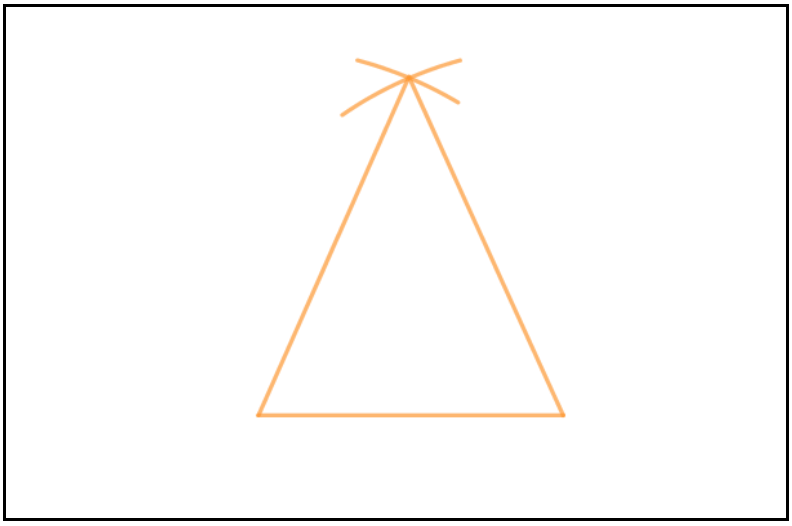

②

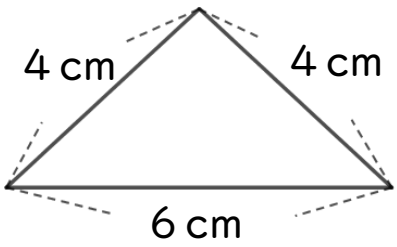

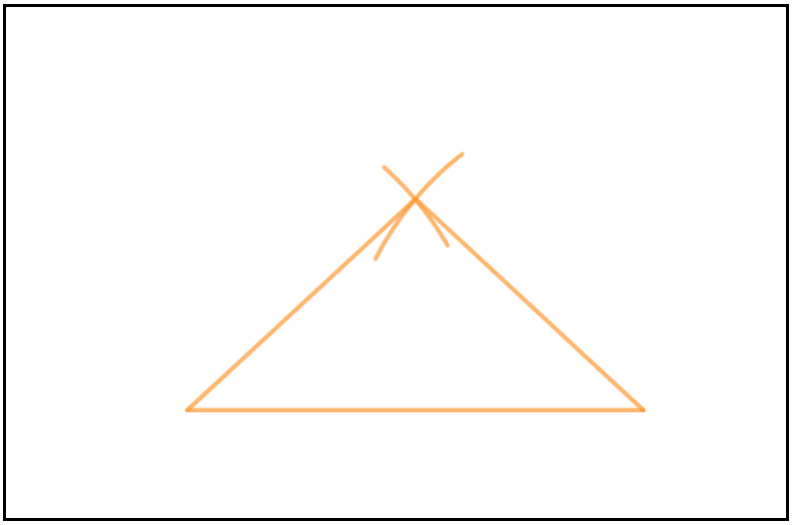

③

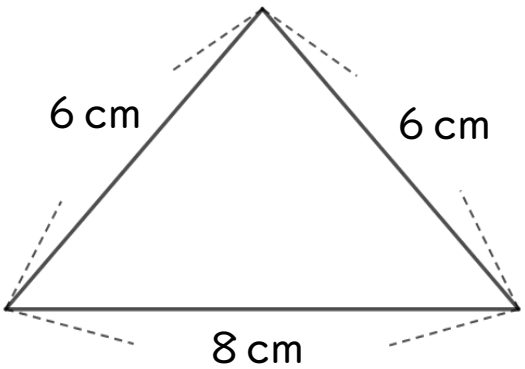

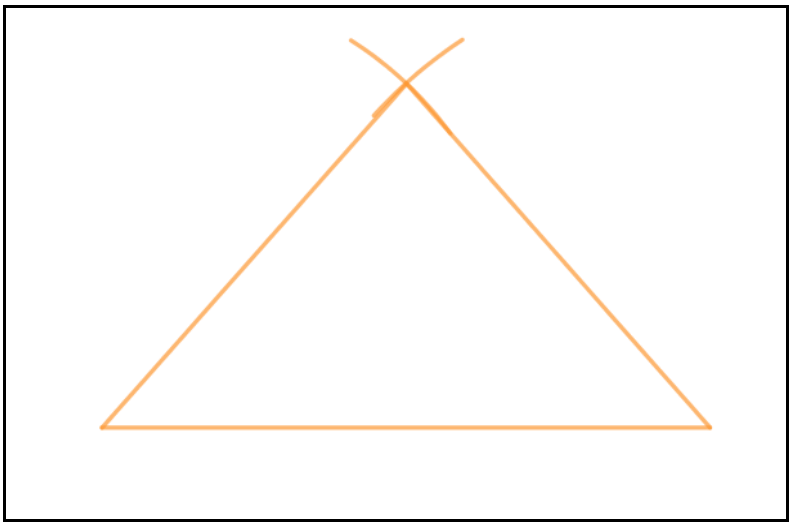

すらすらぷりんと

三角形と角 3

◎ コンパスを使った
二等辺三角形のかき方

7

日にち：　　月　　日

名まえ

・次の二等辺三角形をかきましょう。(うすい線はしっかりなぞろう。)

①

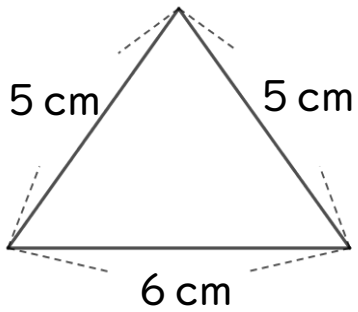

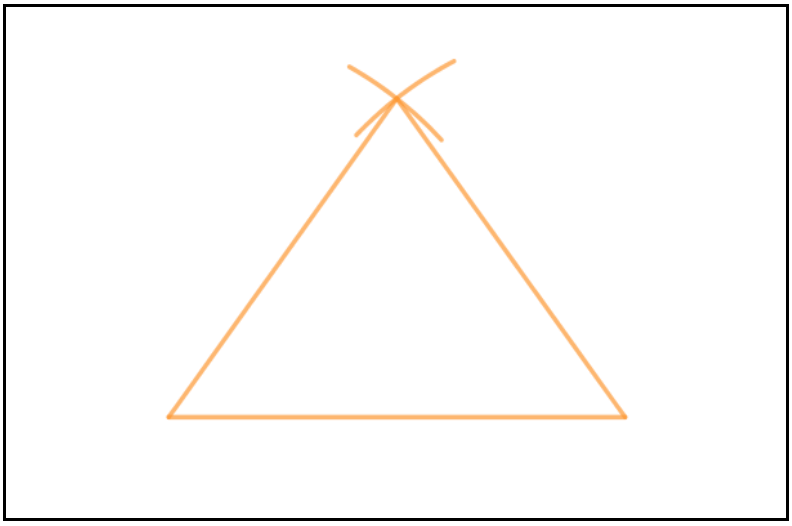

②

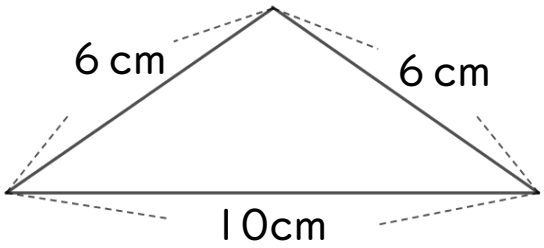

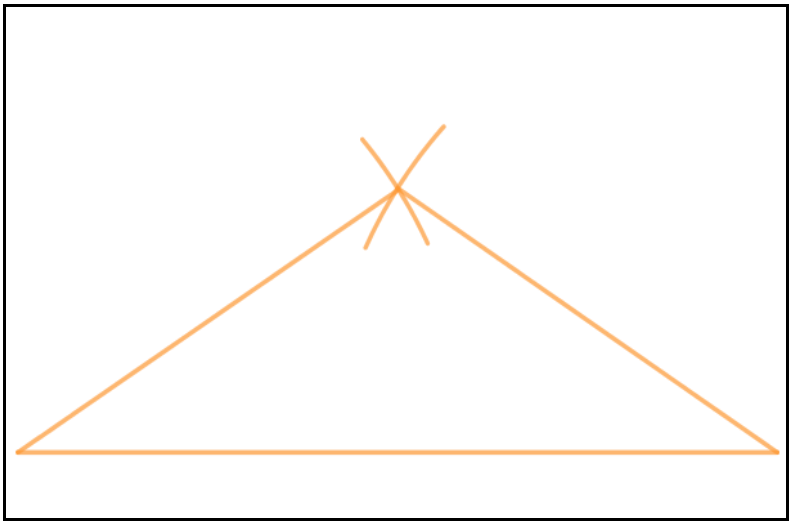

③

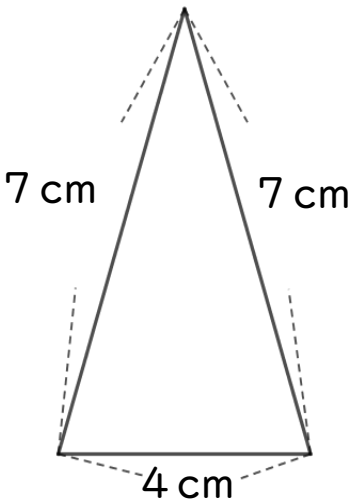

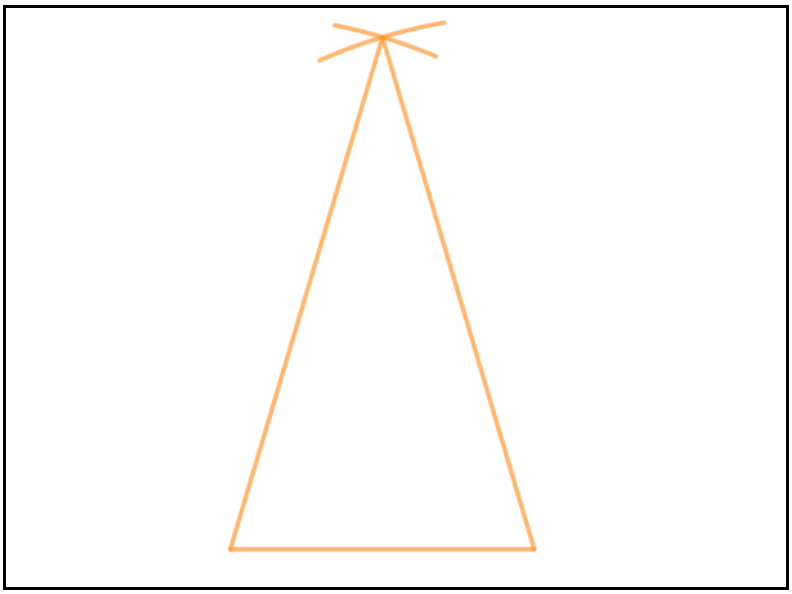

すらすらぷりんと

三角形と角 3

◎ コンパスを使った
二等辺三角形のかき方

8

日にち：　　月　　日

名まえ

・次の二等辺三角形をかきましょう。

①

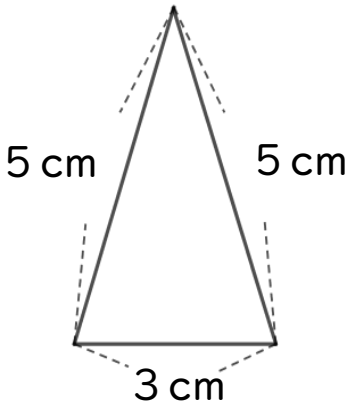

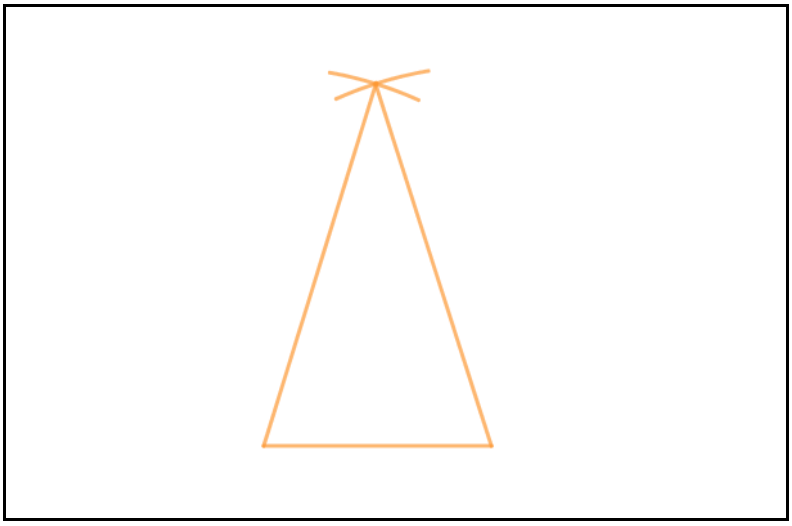

②

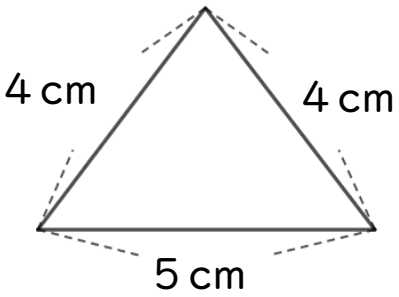

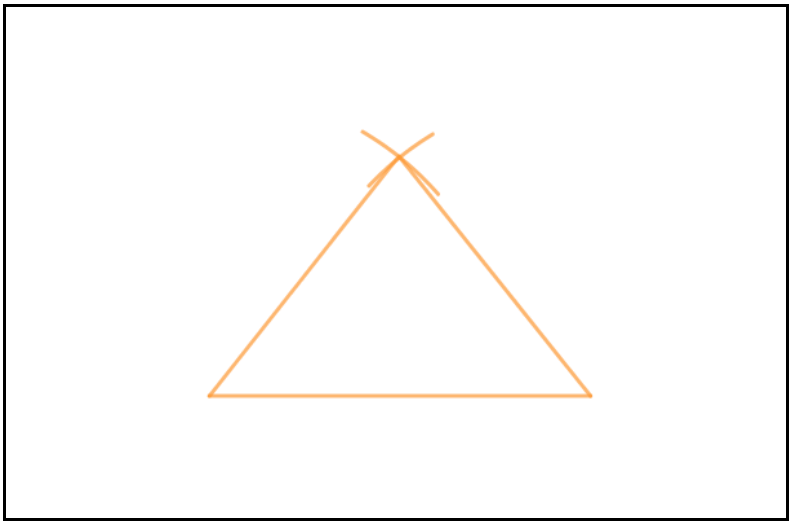

③

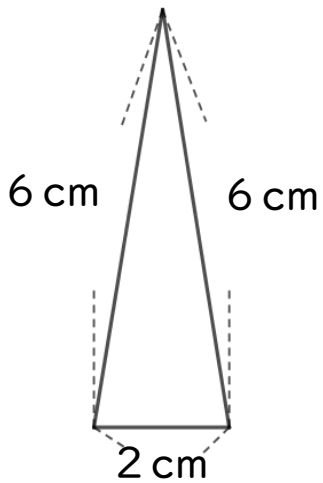

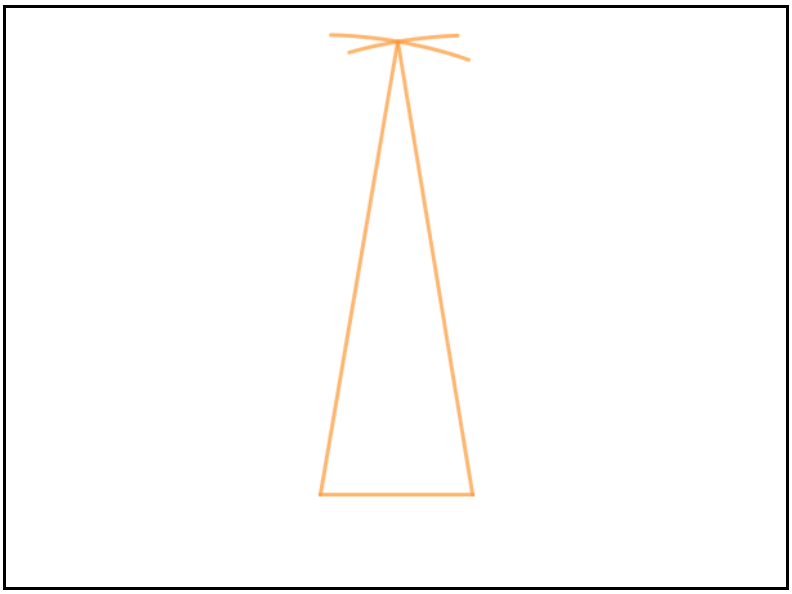

すらすらぷりんと

三角形と角 3

◎ コンパスを使った
二等辺三角形のかき方

9

日にち：　　月　　日

名まえ

・次の二等辺三角形をかきましょう。

①

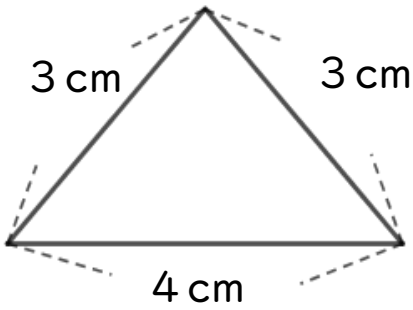

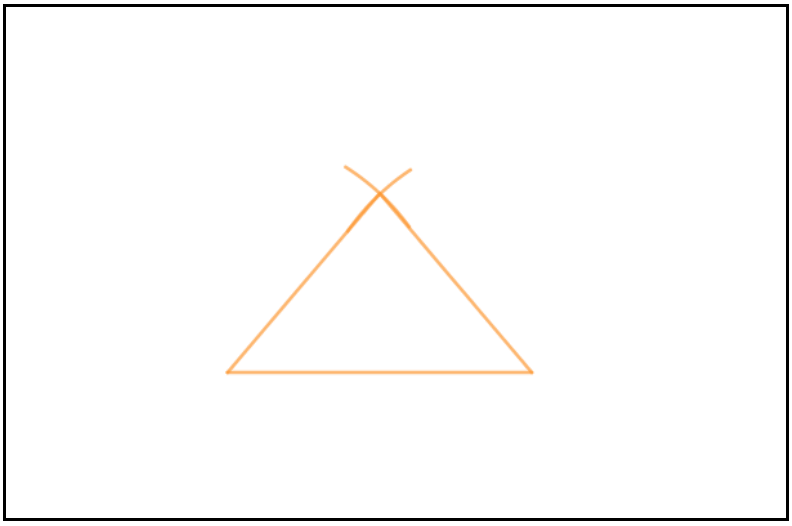

②

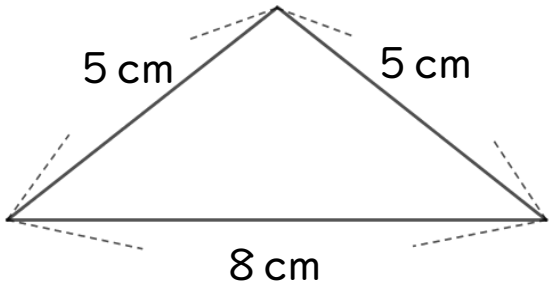

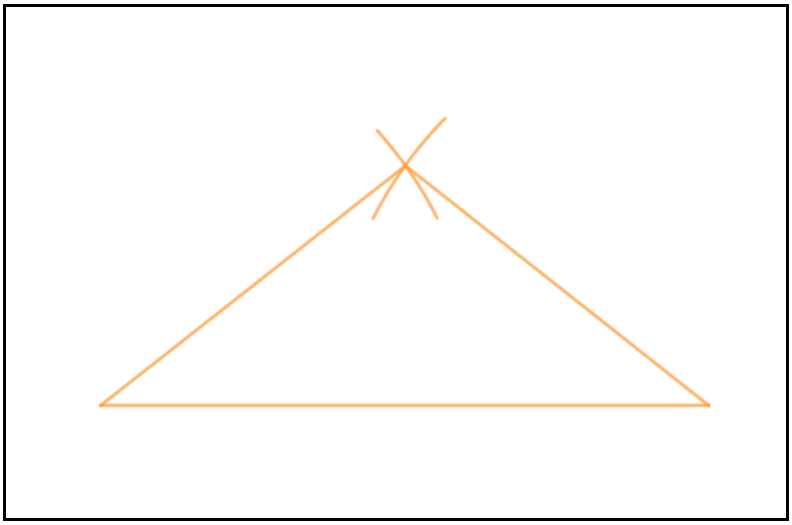

③

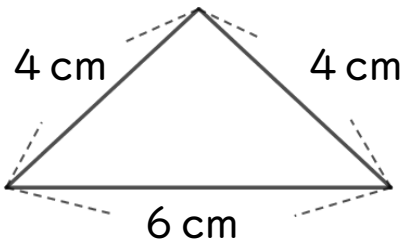

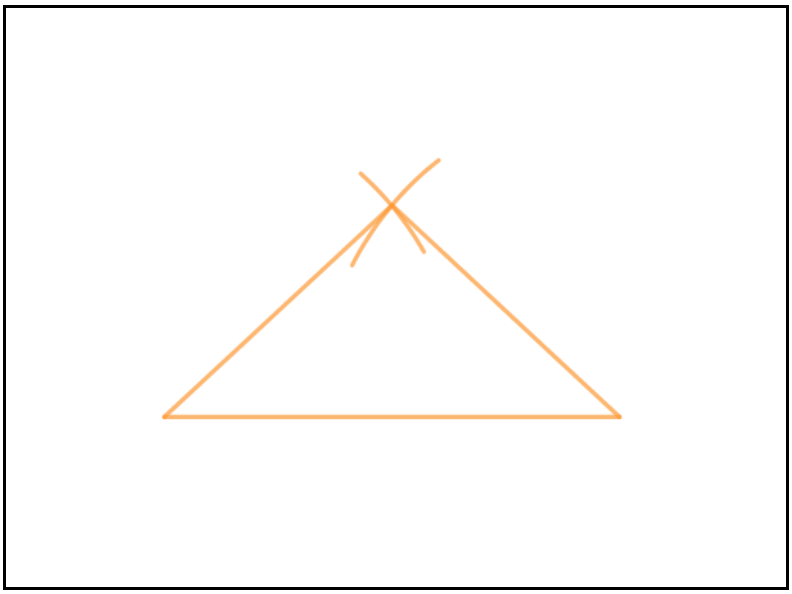

すらすらぷりんと

三角形と角 3

◎ コンパスを使った
二等辺三角形のかき方

10

日にち：　　月　　日

名まえ

1　次の二等辺三角形をかきましょう。

①

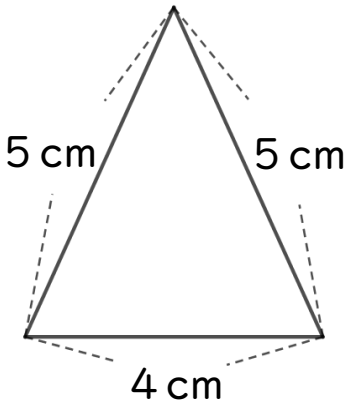

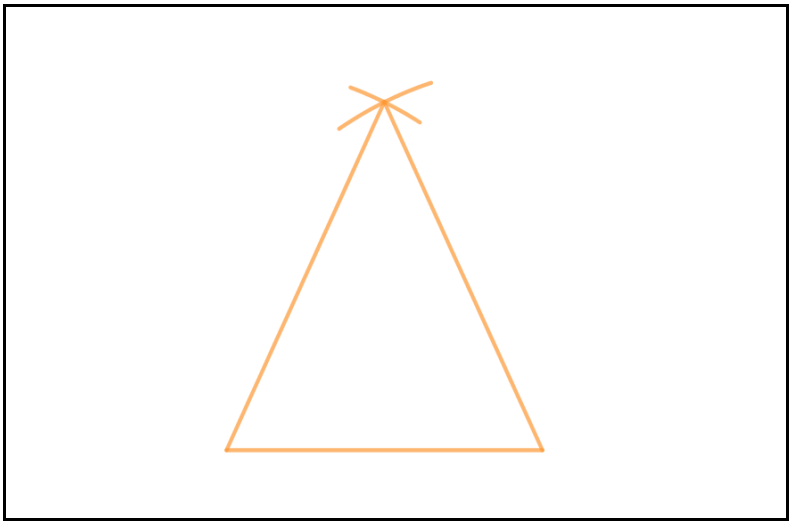

②

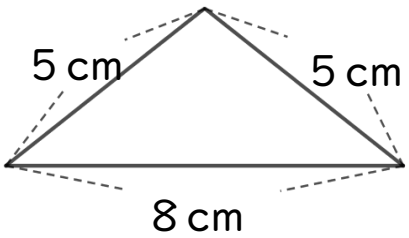

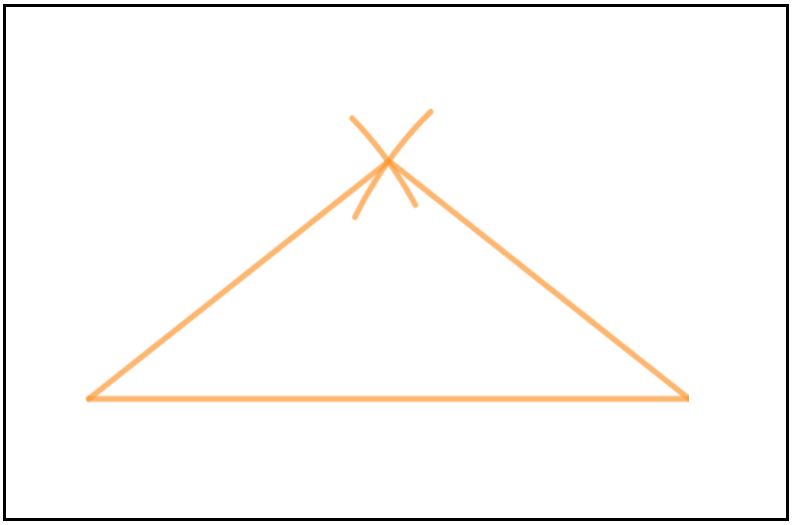

2　下の図で、正三角形と二等辺三角形をえらびましょう。

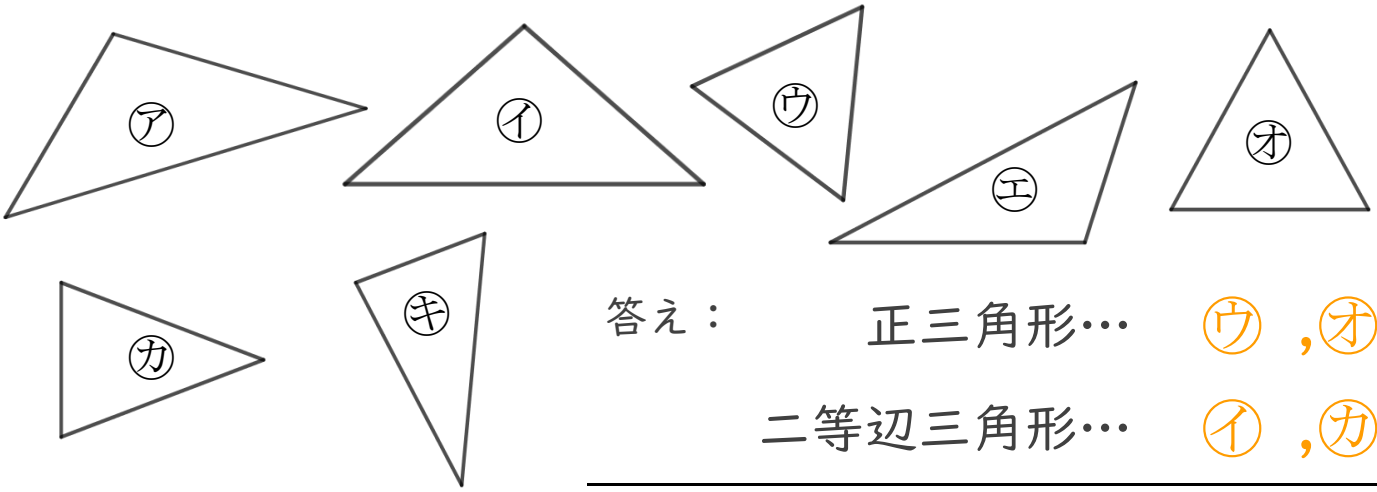

答え：　正三角形…　㋒，㋔

二等辺三角形…　㋑，㋕

すらすらぷりんと

三角形と角 3

◎ コンパスを使った
二等辺三角形のかき方

11

日にち：　　月　　日

名まえ

1　次の二等辺三角形をかきましょう。

①

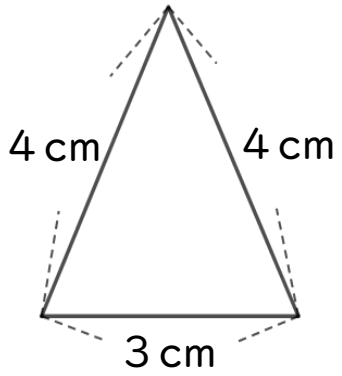

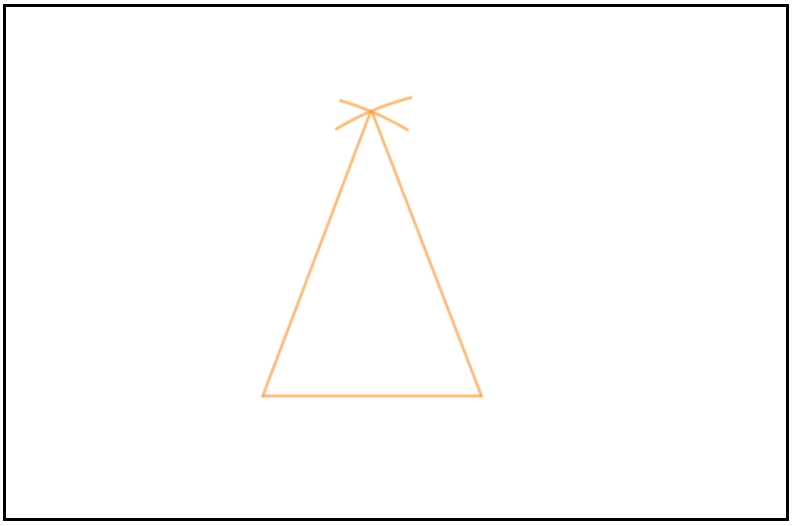

②

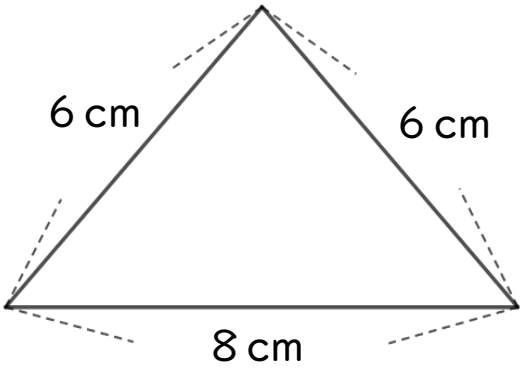

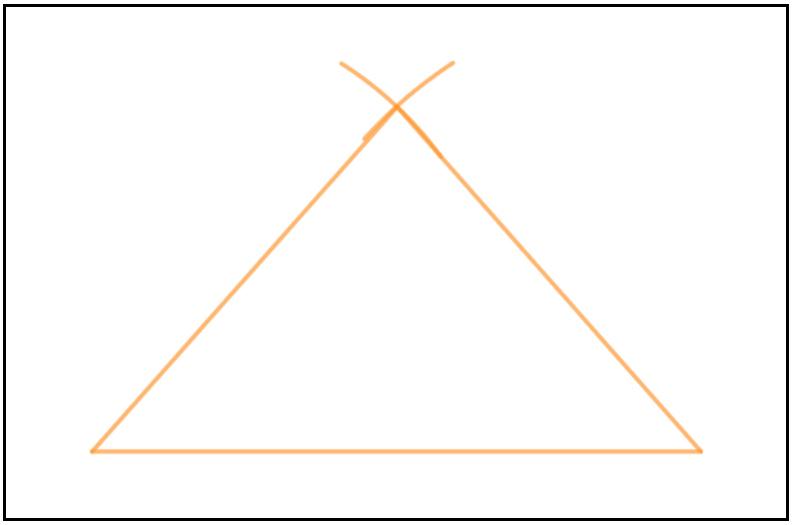

2　下の図で、正三角形と二等辺三角形をえらびましょう。

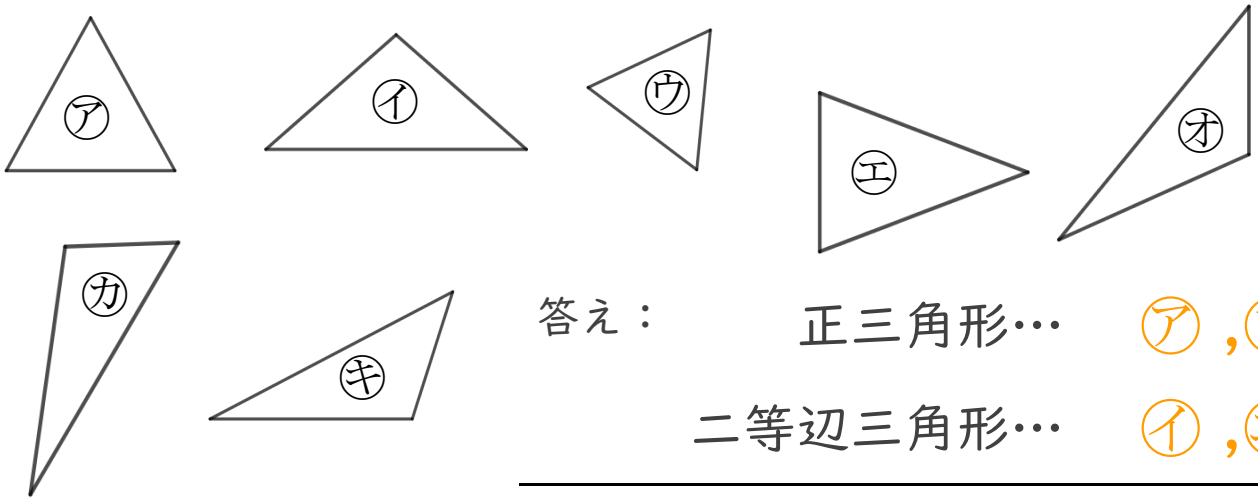

答え：　正三角形…　㋐，㋒

二等辺三角形…　㋑，㋓

すらすらぷりんと

三角形と角 3

◎ コンパスを使った二等辺三角形のかき方

12

日にち：　　月　　日

名まえ

1　次の二等辺三角形をかきましょう。

①

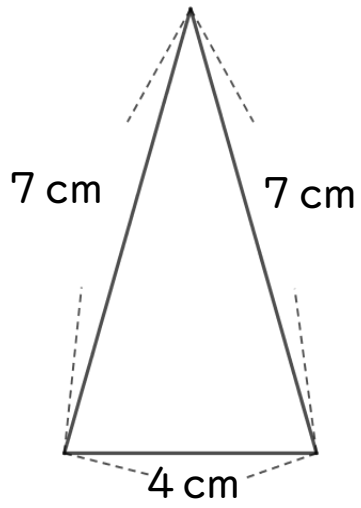

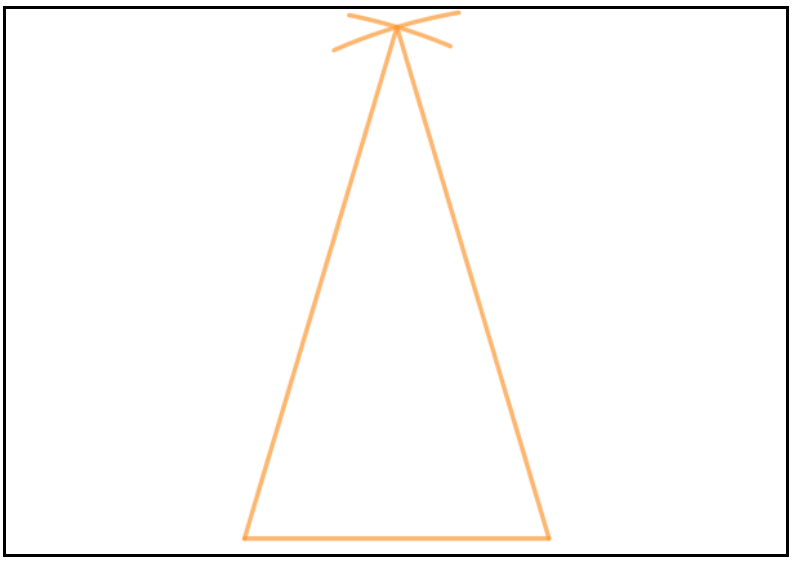

②

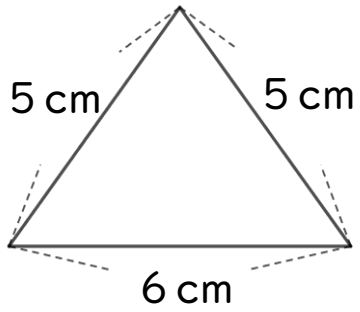

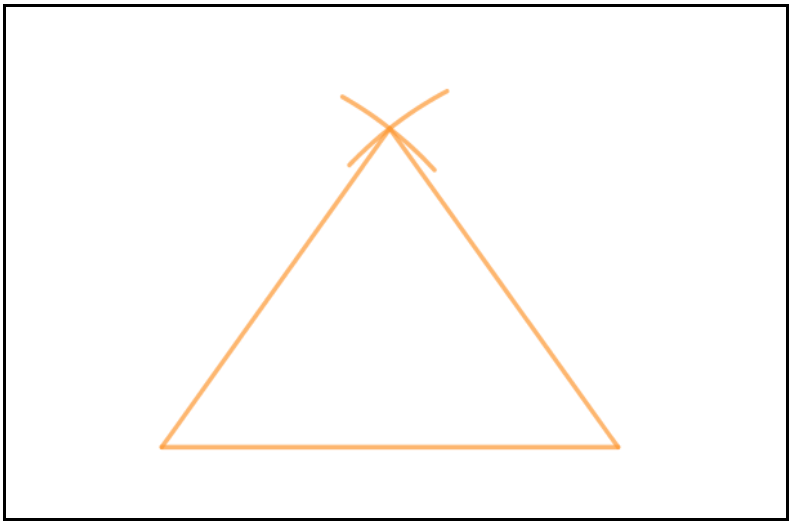

2　下の図で、正三角形と二等辺三角形をえらびましょう。

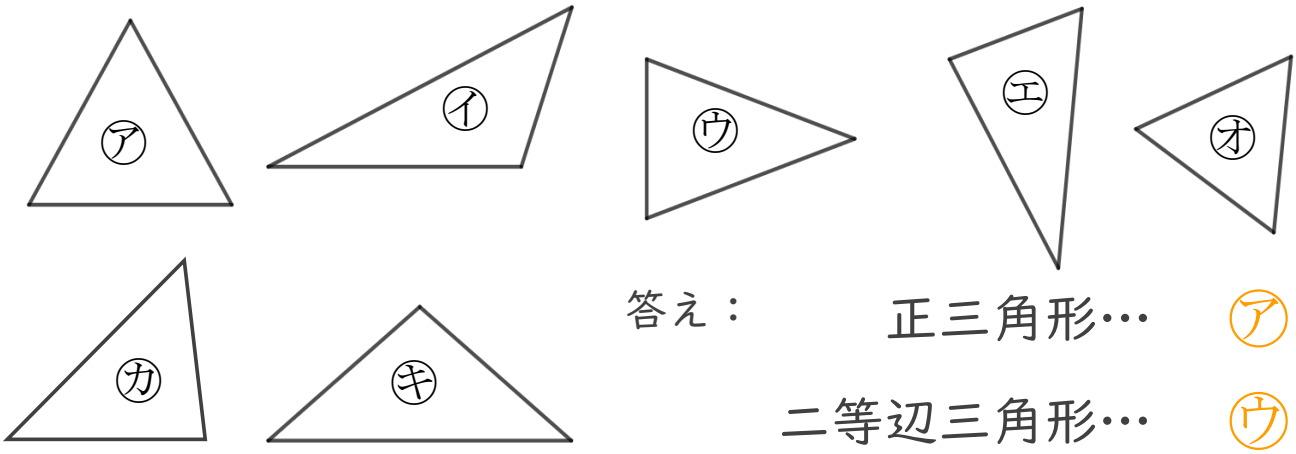

答え：　正三角形…　㋐，㋔

二等辺三角形…　㋒，㋖

すらすらぷりんと

三角形と角 3

◎ コンパスを使った二等辺三角形のかき方

13

日にち：　　月　　日

名まえ

1　次の二等辺三角形をかきましょう。

①

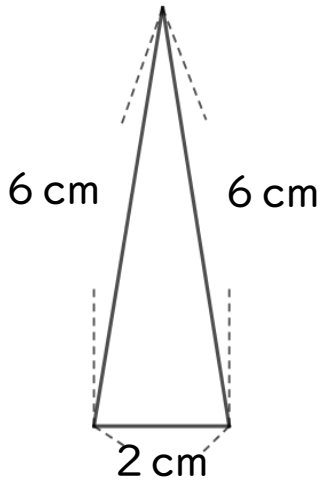

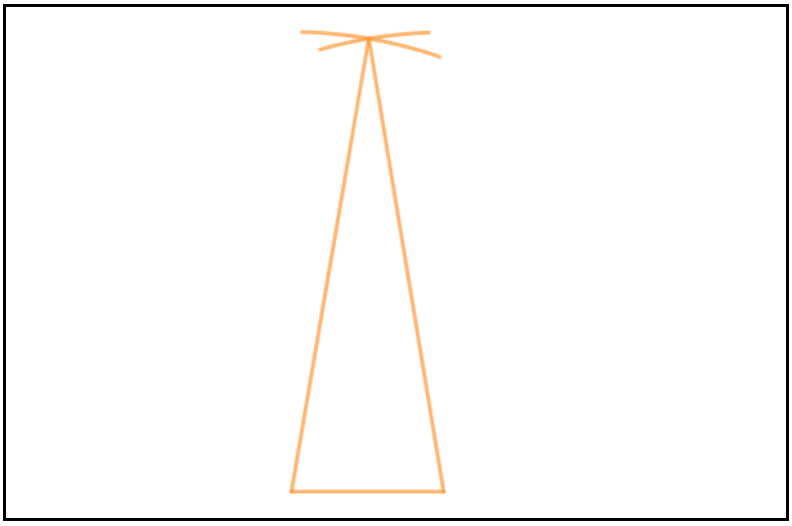

②

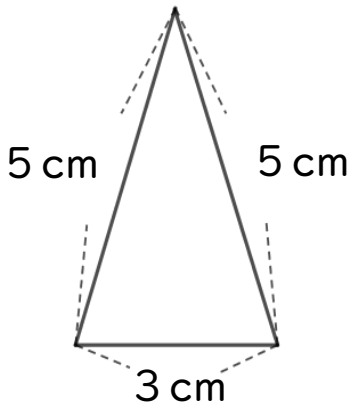

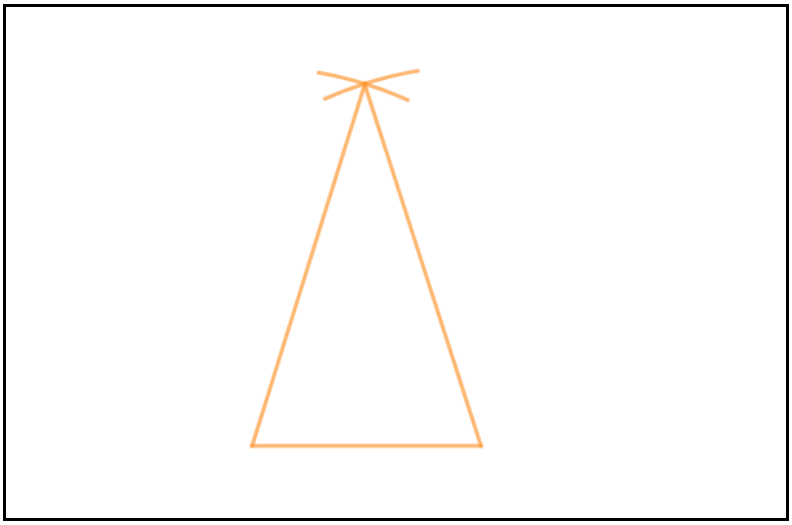

2　下の図で、正三角形と二等辺三角形をえらびましょう。

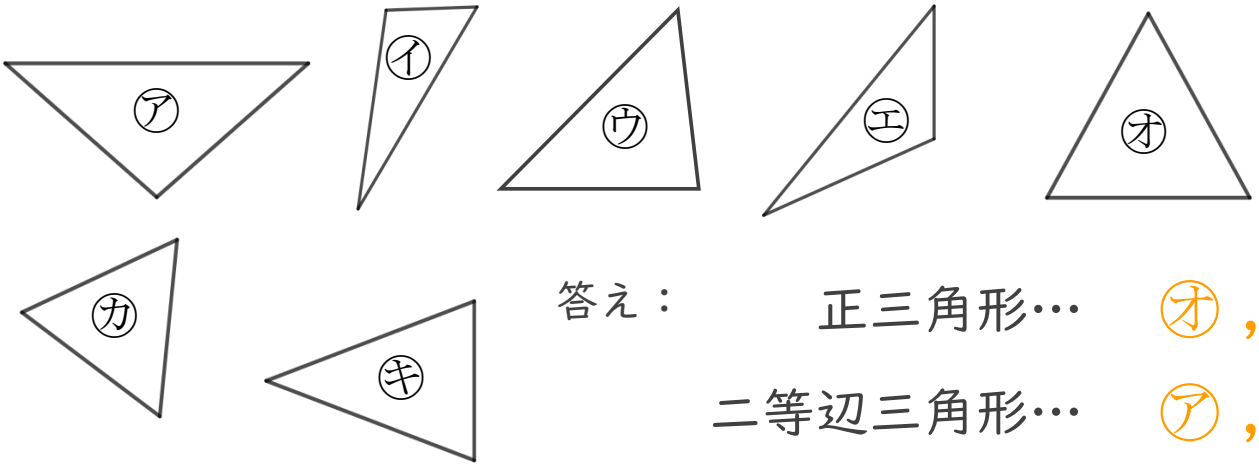

答え：　正三角形…　㋔，㋕

二等辺三角形…　㋐，㋖

すらすらぷりんと

三角形と角 3

◎ コンパスを使った二等辺三角形のかき方

14

日にち：　　月　　日

名まえ

1　次の二等辺三角形をかきましょう。

①

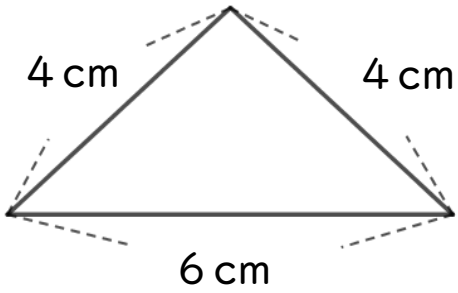

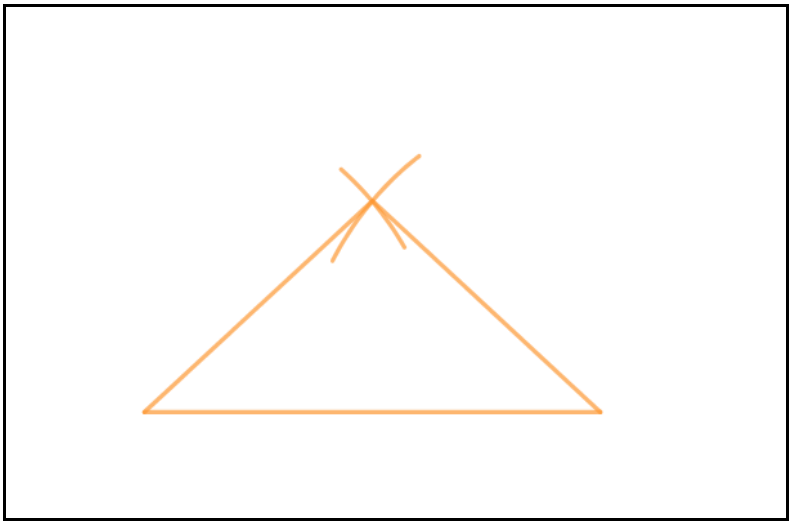

②

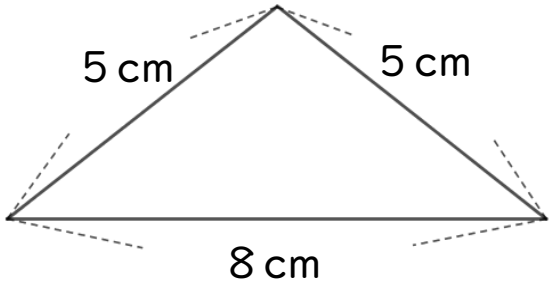

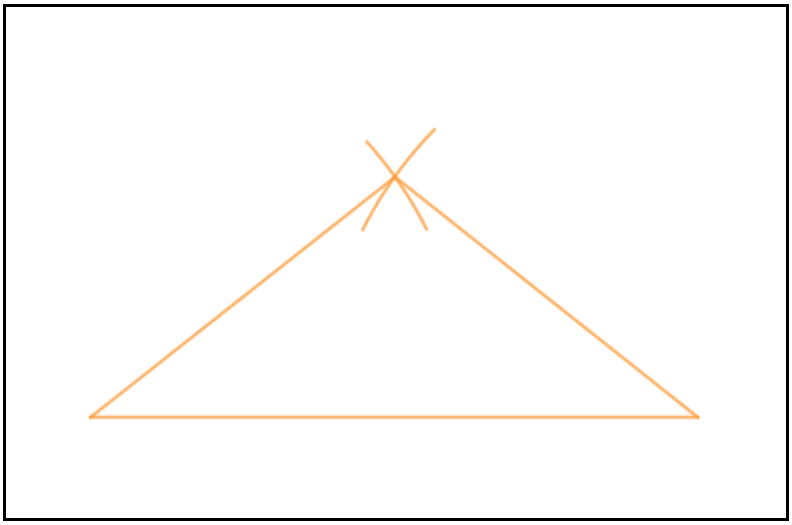

2　下の図で、正三角形と二等辺三角形をえらびましょう。

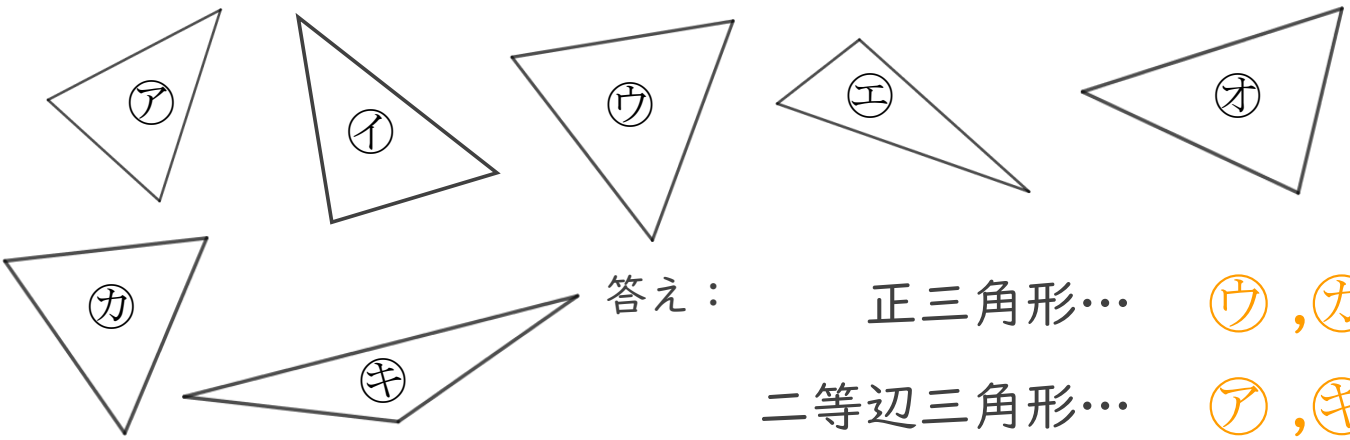

答え：　正三角形…　㋒，㋕

二等辺三角形…　㋐，㋖

すらすらぷりんと

三角形と角 3

◎ コンパスを使った二等辺三角形のかき方

15

めざせ70点！ てん

名まえ

1 次の二等辺三角形をかきましょう。(各35点)

①

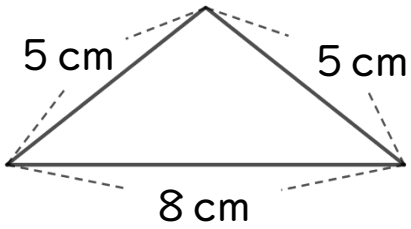

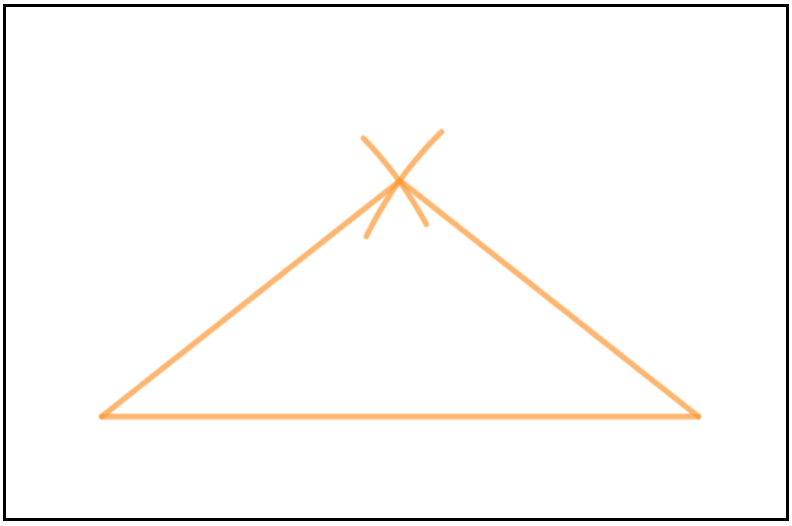

②

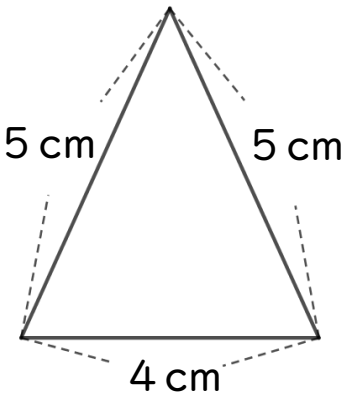

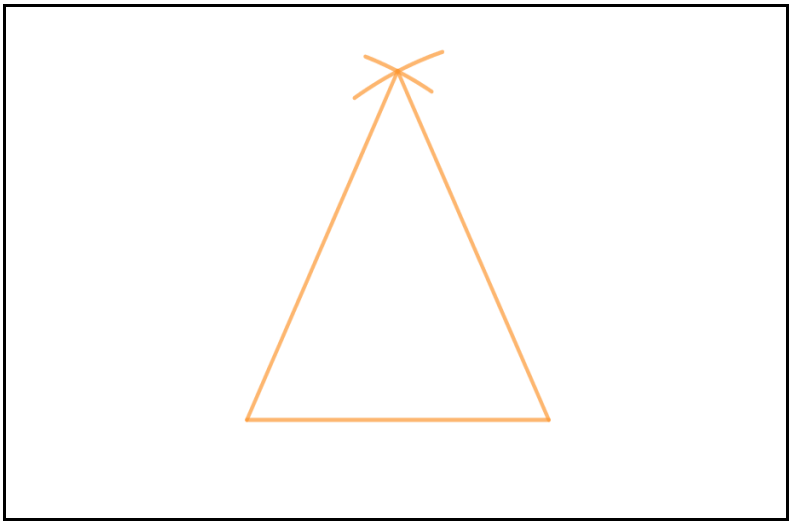

2 下の図で、正三角形と二等辺三角形をえらびましょう。(各30点)

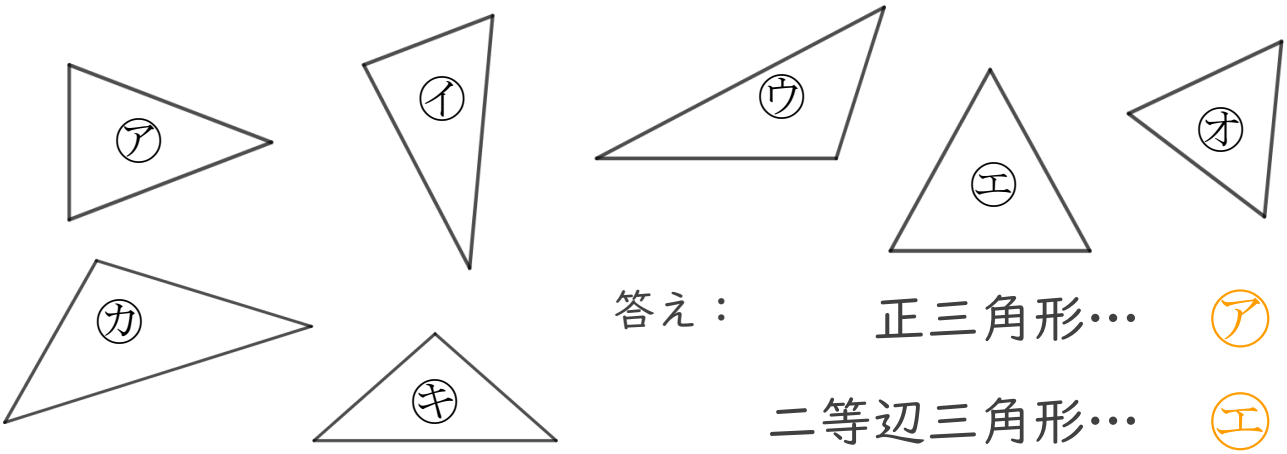

答え：

正三角形… ㋐ ,㋖

二等辺三角形… ㋓ ,㋕

すらすらぷりんと

三角形と角 3

◎ コンパスを使った二等辺三角形のかき方

16

めざせ70点！ てん

名まえ

1 次の二等辺三角形をかきましょう。(各35点)

①

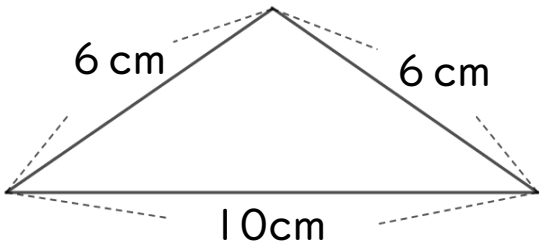

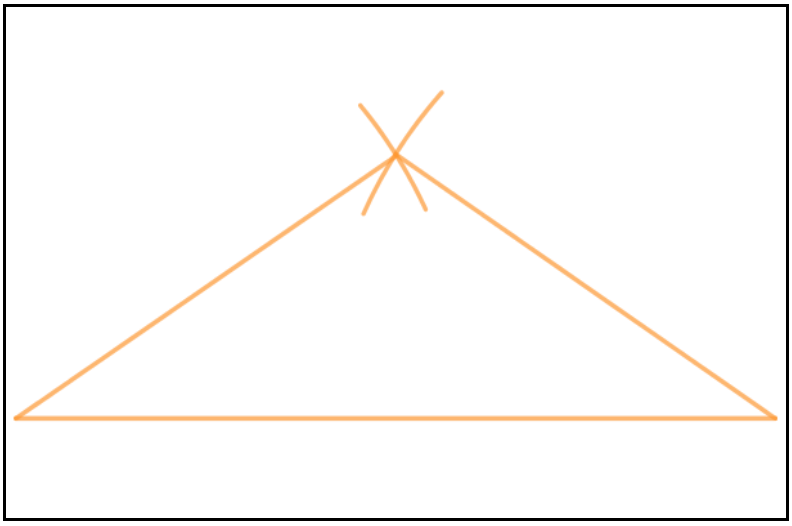

②

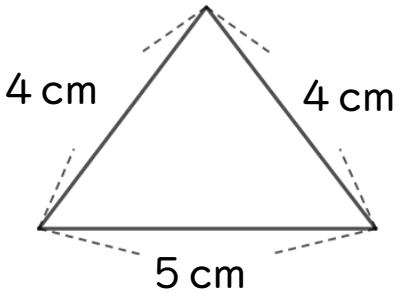

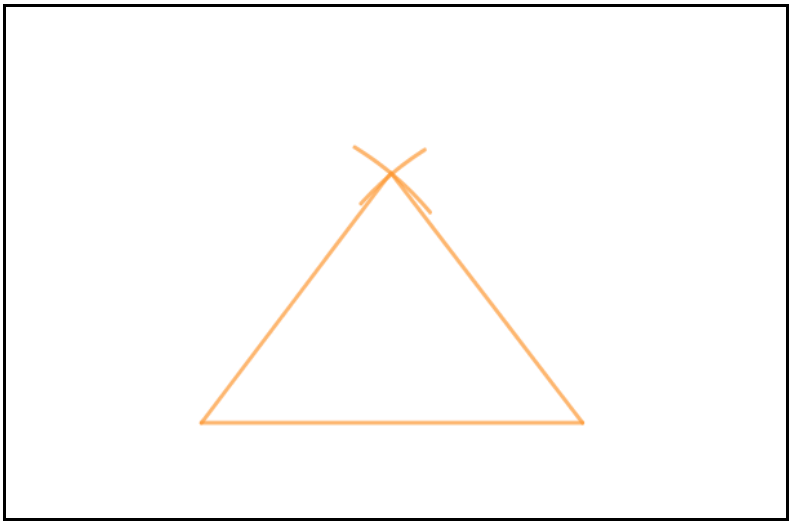

2 下の図で、正三角形と二等辺三角形をえらびましょう。(各30点)

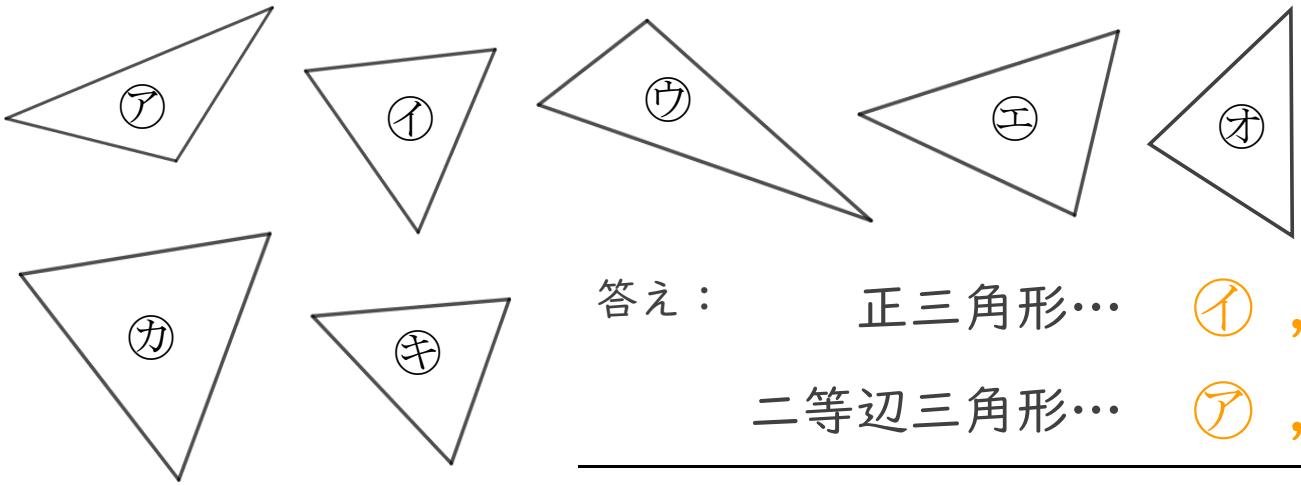

答え：　正三角形…　㋑ ,㋕

二等辺三角形…　㋐ ,㋖

すらすらぷりんと