時こくと時間のもとめかた 8

◎ 正午をはさむ計算

日にち：　　月　　日

名まえ

1 午前８時から午後３時40分までの時間をもとめます。（うすい字はなぞりましょう。）

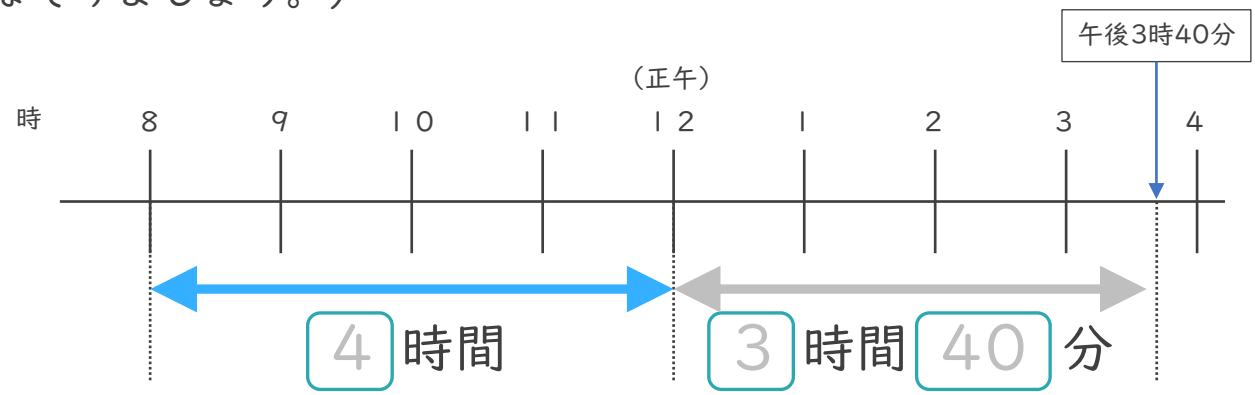

① □にあてはまる数を書きましょう。

② 午前8時から午後3時40分までの時間は何時間何分ですか。

答え（　７時間３０分　）

2 午前９時から午後5時50分までの時間をもとめます。（うすい字はなぞりましょう。）

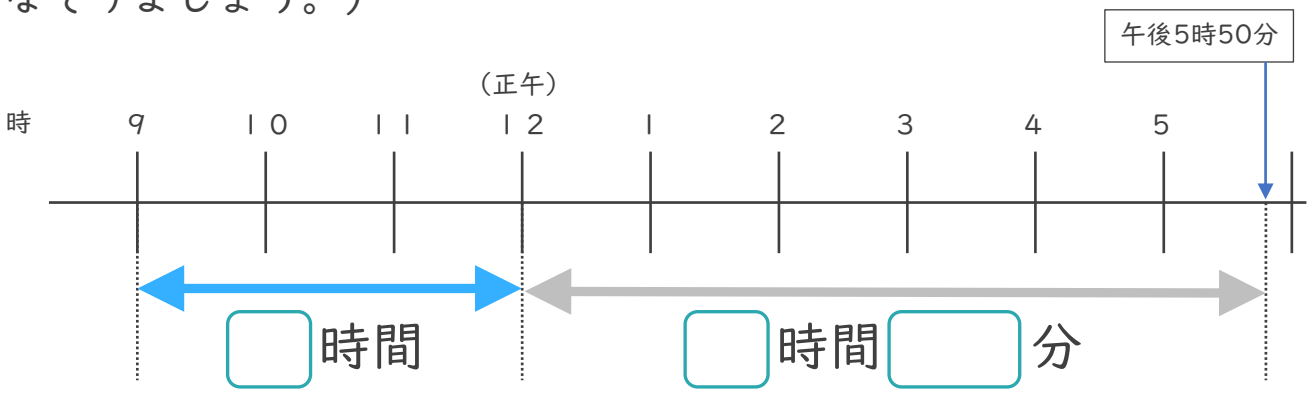

① □にあてはまる数を書きましょう。

② 午前９時から午後５時50分までの時間は何時間何分ですか。

答え（　時間　分　）

① 例題

すらすらぷりんと

時こくと時間のもとめかた 8 2

◎ 正午をはさむ計算

日にち：　　月　　日

名まえ

1 午前８時から午後２時50分までの時間をもとめます。（うすい字はなぞりましょう。）

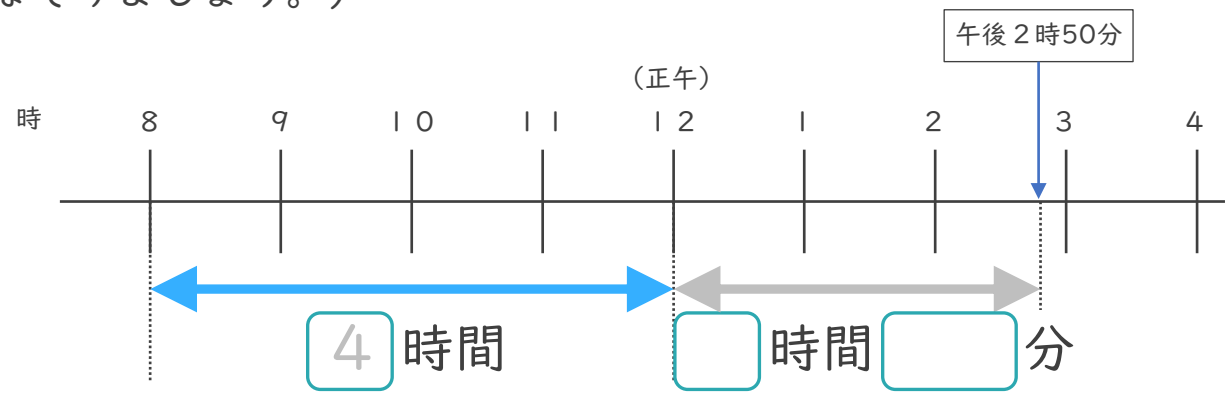

① □にあてはまる数を書きましょう。

② 午前８時から午後２時50分までの時間は何時間何分ですか。

答え（　６時間５０分　）

2 午前９時から午後４時45分までの時間をもとめます。

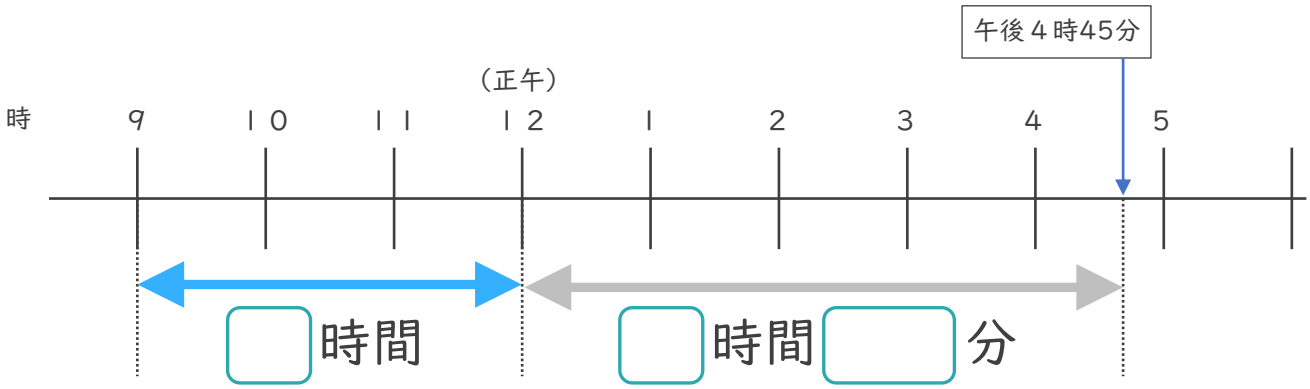

① □にあてはまる数を書きましょう。

② 午前９時から午後４時45分までの時間は何時間何分ですか。

答え（　　）

すらすらぷりんと

時こくと時間のもとめかた 8 3

◎ 正午をはさむ計算

日にち：　　月　　日

名まえ

1 午前９時から午後３時30分までの時間をもとめます。（うすい字はなぞりましょう。）

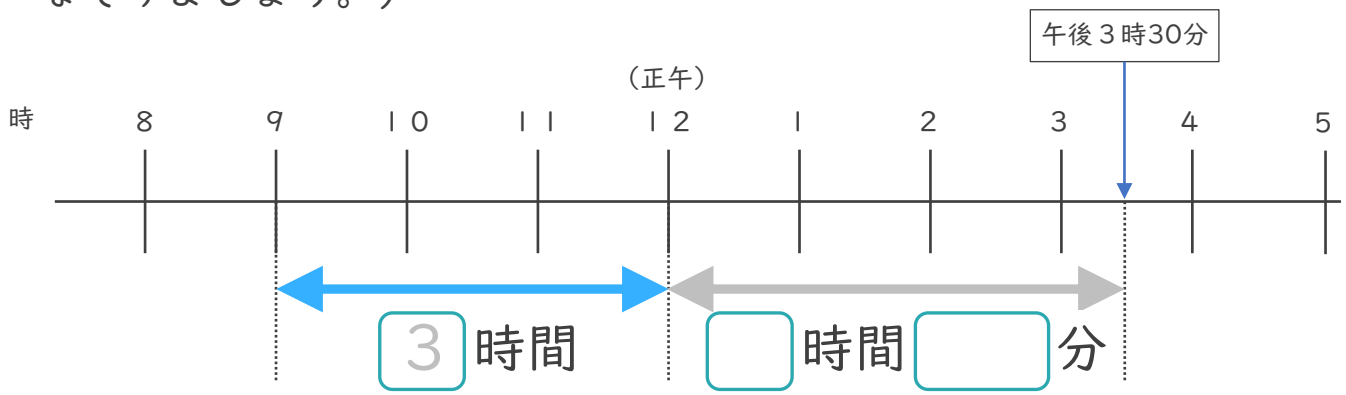

① □にあてはまる数を書きましょう。

② 午前９時から午後３時30分までの時間は何時間何分ですか。

答え（　　時間　　分　　）

2 午前９時から午後４時15分までの時間をもとめます。

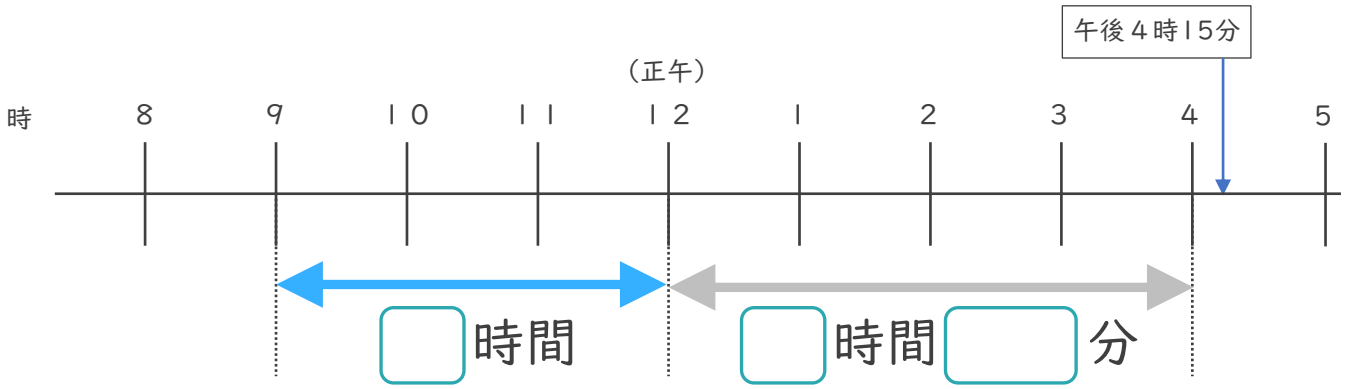

① □にあてはまる数を書きましょう。

② 午前９時から午後４時15分までの時間は何時間何分ですか。

答え（　　）

すらすらぷりんと

時こくと時間のもとめかた 8 4

◎ 正午をはさむ計算

日にち：　　月　　日

名まえ

1 午前10時から午後４時15分までの時間をもとめます。（うすい字はなぞりましょう。）

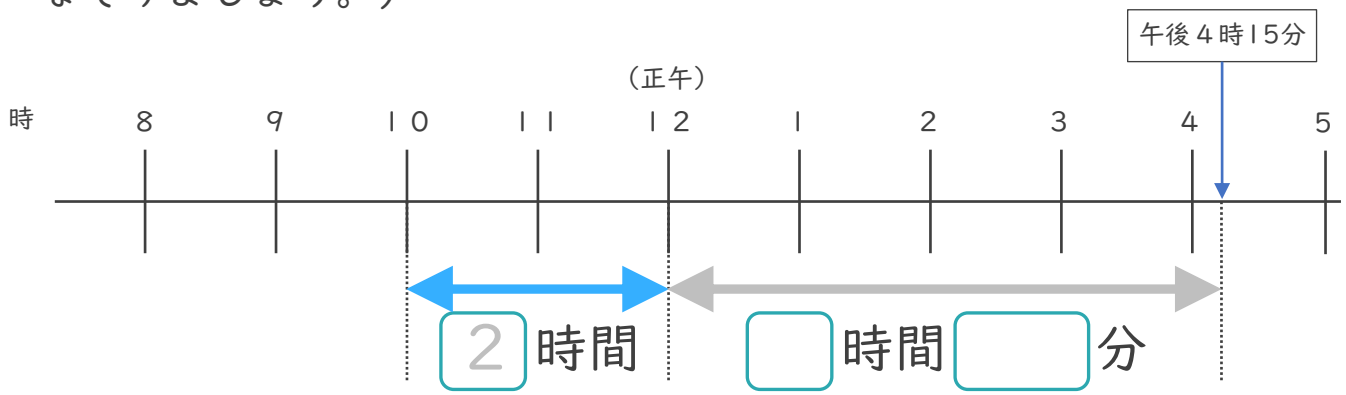

① □にあてはまる数を書きましょう。

② 午前10時から午後４時15分までの時間は何時間何分ですか。

答え（　　時間　　分　　）

2 午前８時から午後２時50分までの時間をもとめます。

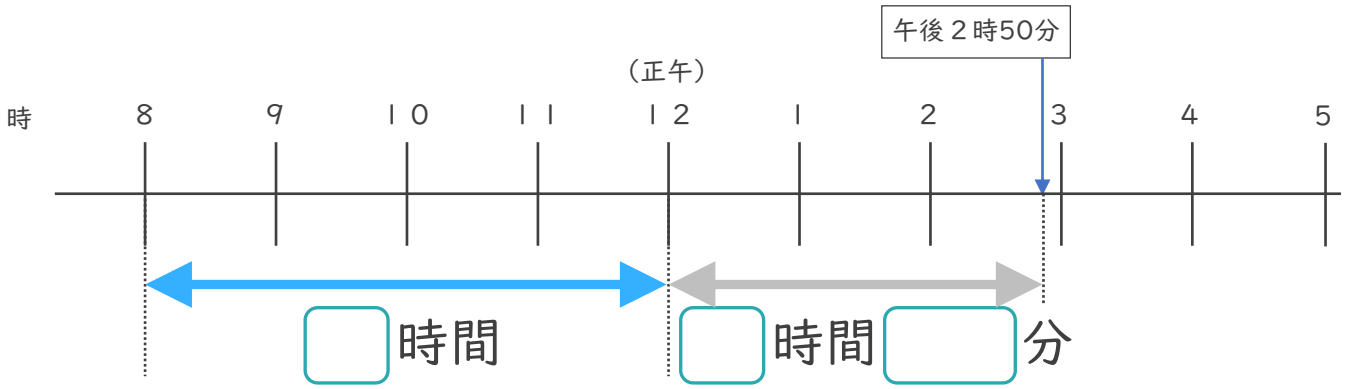

① □にあてはまる数を書きましょう。

② 午前８時から午後２時50分までの時間は何時間何分ですか。

答え（　　）

すらすらぷりんと

時こくと時間のもとめかた 8 5

◎ 正午をはさむ計算

日にち：　　月　　日

名まえ

1 午前８時から午後３時20分までの時間をもとめます。

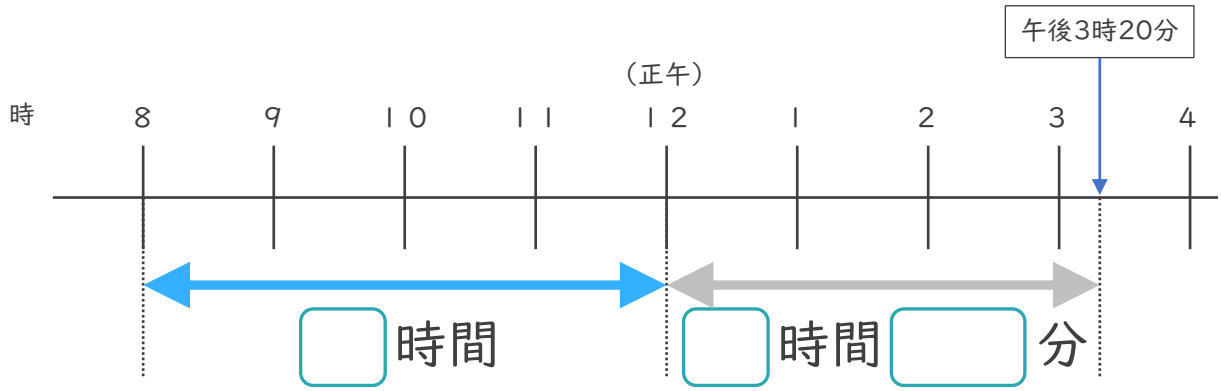

① □にあてはまる数を書きましょう。

② 午前8時から午後3時20分までの時間は何時間何分ですか。

答え（　　）

2 午前９時から午後４時30分までの時間をもとめます。

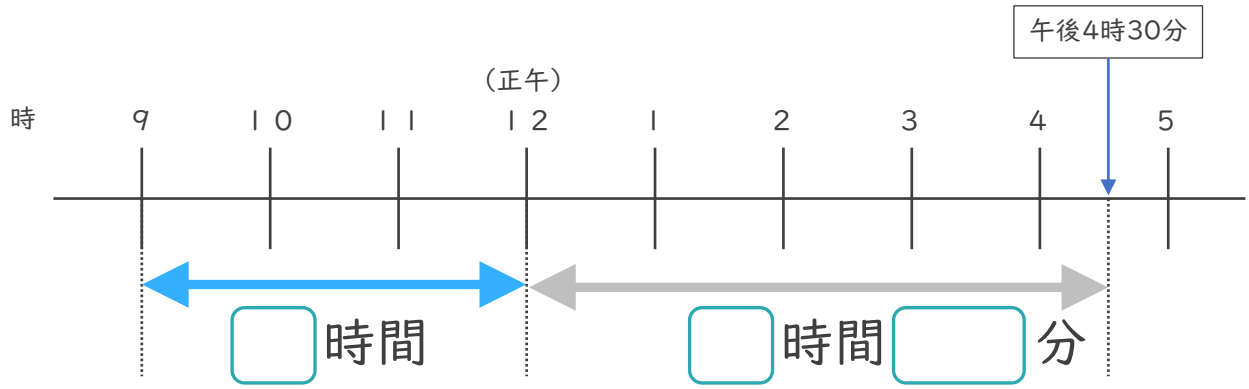

① □にあてはまる数を書きましょう。

② 午前９時から午後５時50分までの時間は何時間何分ですか。

答え（　　）

すらすらぷりんと

時こくと時間のもとめかた 8 6

◎ 正午をはさむ計算

日にち：　　月　　日

名まえ

1 午前９時から午後３時25分までの時間をもとめます。

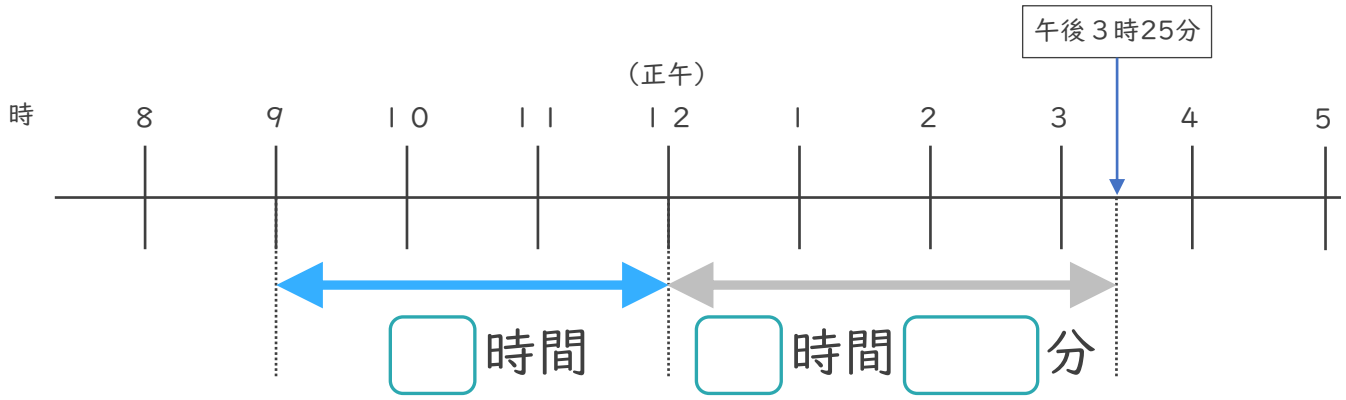

① □にあてはまる数を書きましょう。

② 午前９時から午後３時25分までの時間は何時間何分ですか。

答え（　　）

2 午前10時から午後４時50分までの時間をもとめます。

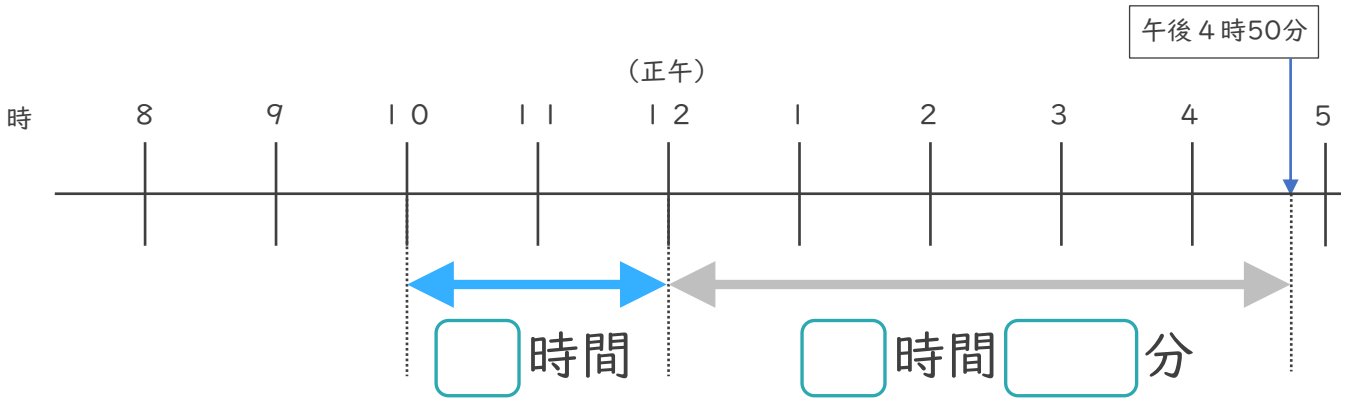

① □にあてはまる数を書きましょう。

② 午前10時から午後４時50分までの時間は何時間何分ですか。

答え（　　）

すらすらぷりんと

時こくと時間のもとめかた 8 7

◎ 正午をはさむ計算

日にち：　　月　　日

名まえ

1 午前10時から午後４時20分までの時間をもとめます。

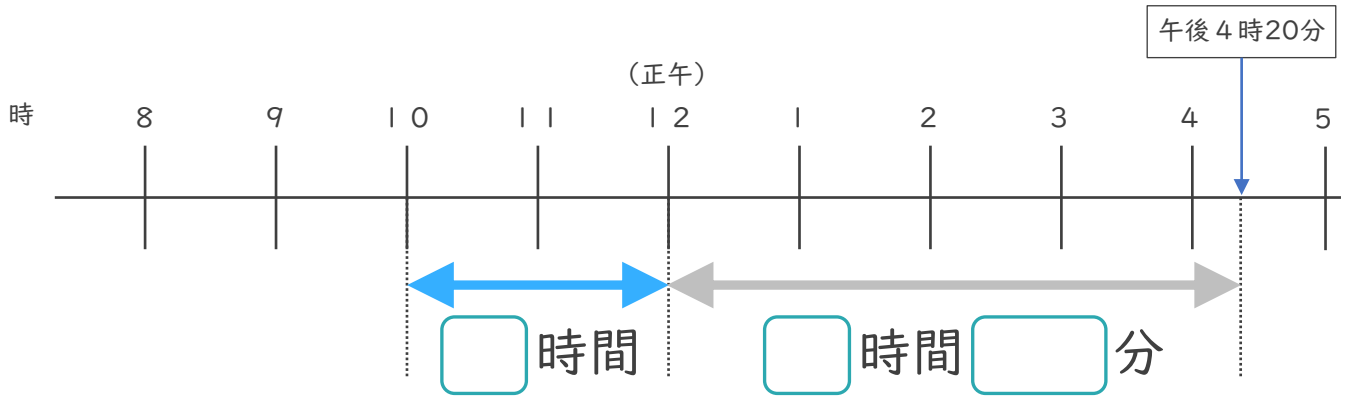

① □にあてはまる数を書きましょう。

② 午前10時から午後４時20分までの時間は何時間何分ですか。

答え（　　）

2 午前９時から午後２時45分までの時間をもとめます。

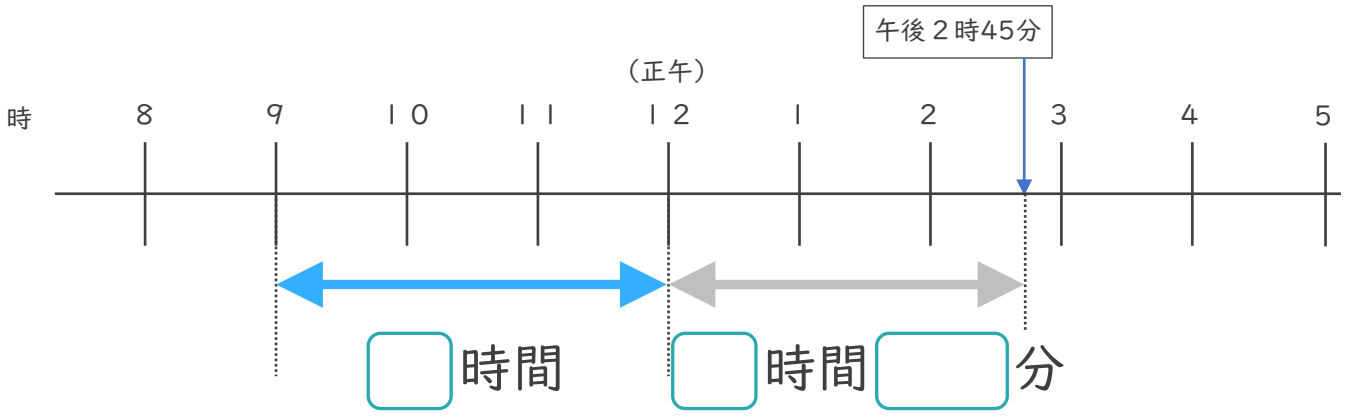

① □にあてはまる数を書きましょう。

② 午前９時から午後２時45分までの時間は何時間何分ですか。

答え（　　）

すらすらぷりんと

時こくと時間のもとめかた 8

◎ 正午をはさむ計算

日にち：　　月　　日

名まえ

1 午前９時から午後４時10分までの時間をもとめます。

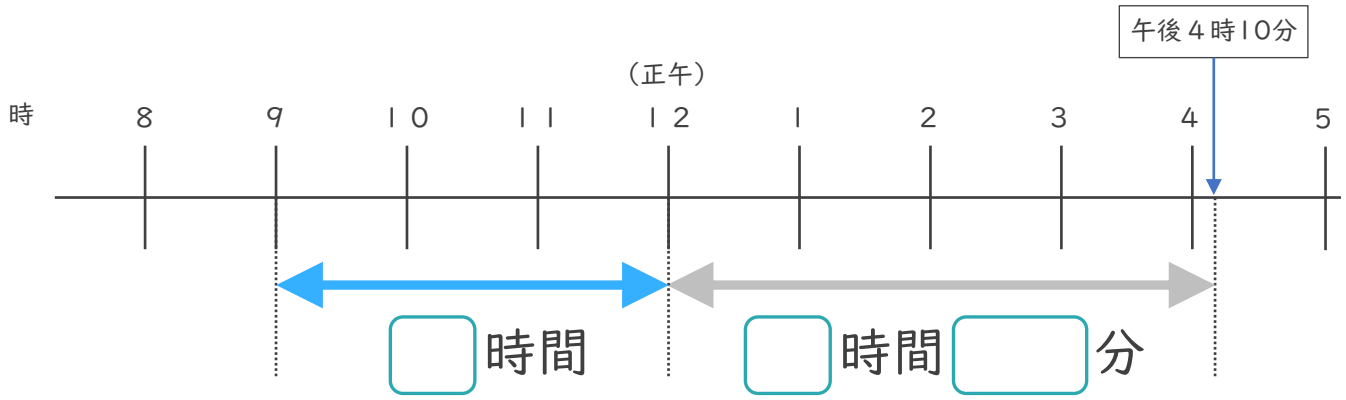

① □にあてはまる数を書きましょう。

② 午前９時から午後４時10分までの時間は何時間何分ですか。

答え（　　）

2 午前８時から午後１時40分までの時間をもとめます。

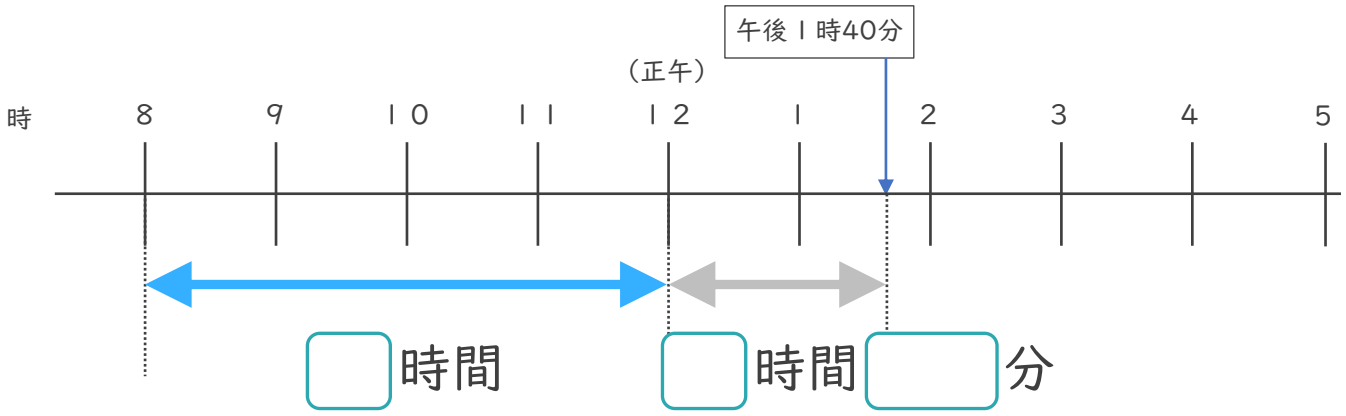

① □にあてはまる数を書きましょう。

② 午前８時から午後１時40分までの時間は何時間何分ですか。

答え（　　）

すらすらぷりんと

時こくと時間のもとめかた 8 9

◎ 正午をはさむ計算

日にち：　　月　　日

名まえ

1 午前10時から午後３時30分までの時間をもとめます。

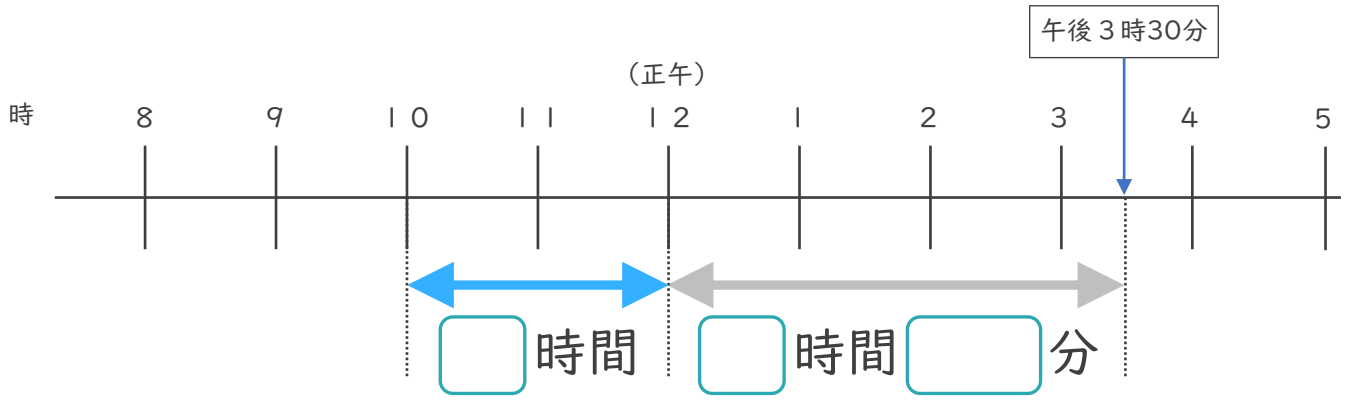

① □にあてはまる数を書きましょう。

② 午前10時から午後３時30分までの時間は何時間何分ですか。

答え（　　）

2 午前９時から午後３時20分までの時間をもとめます。

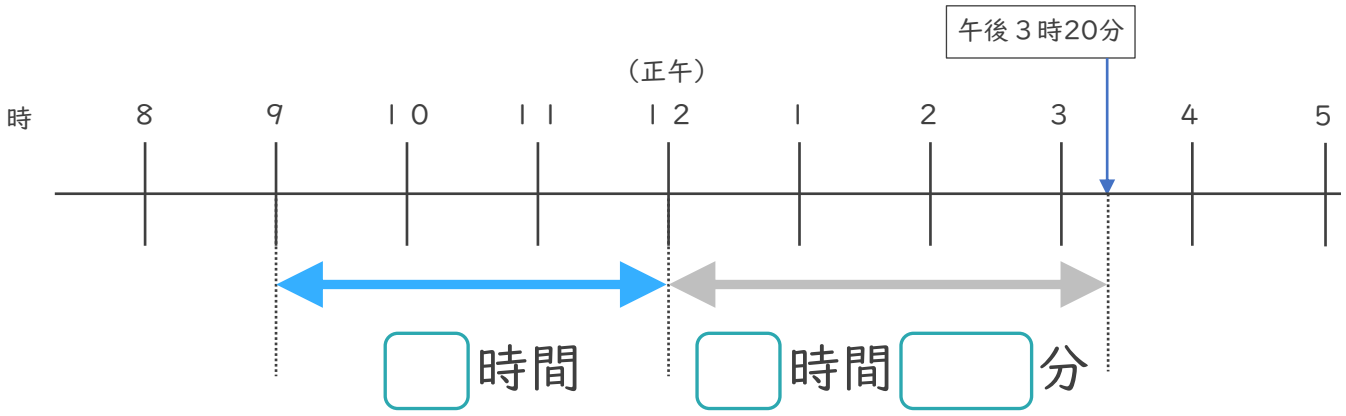

① □にあてはまる数を書きましょう。

② 午前９時から午後３時20分までの時間は何時間何分ですか。

答え（　　）

すらすらぷりんと

時こくと時間のもとめかた 8 10

◎ 正午をはさむ計算

日にち：　　月　　日

名まえ

・次の時間をもとめましょう。

① 午前９時から午後３時15分までの時間

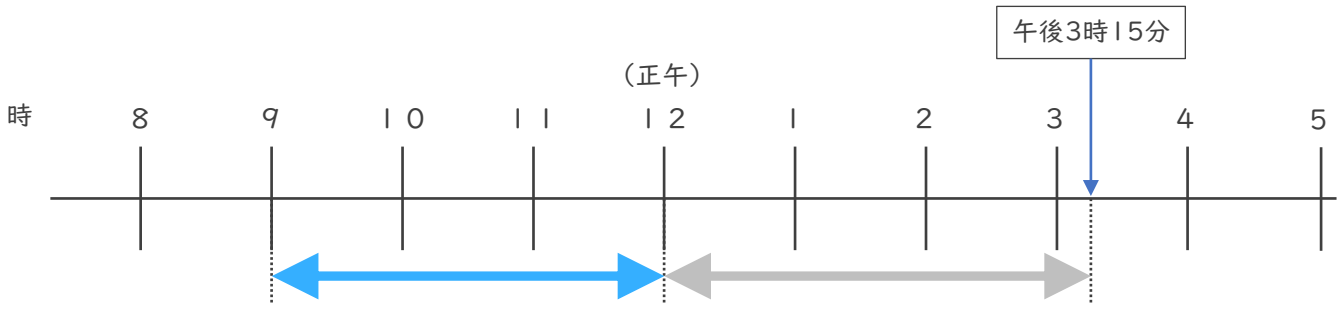

答え（　　）

② 午前８時から午後３時20分までの時間

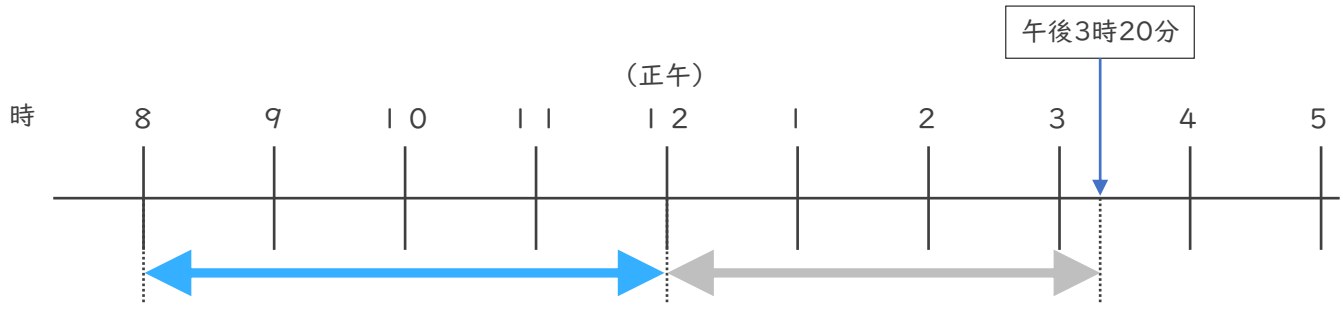

答え（　　）

③ 午後３時50分から午後８時30分までの時間

	~~8~~ 時 ~~3~~ ~~0~~ 分	
−	3 時 5 0 分	
	時　　分	答え（　　）

すらすらぷりんと

時こくと時間のもとめかた 8 11

◎ 正午をはさむ計算

日にち：　　月　　日

名まえ

・次の時間をもとめましょう。

① 午前10時から午後４時55分までの時間

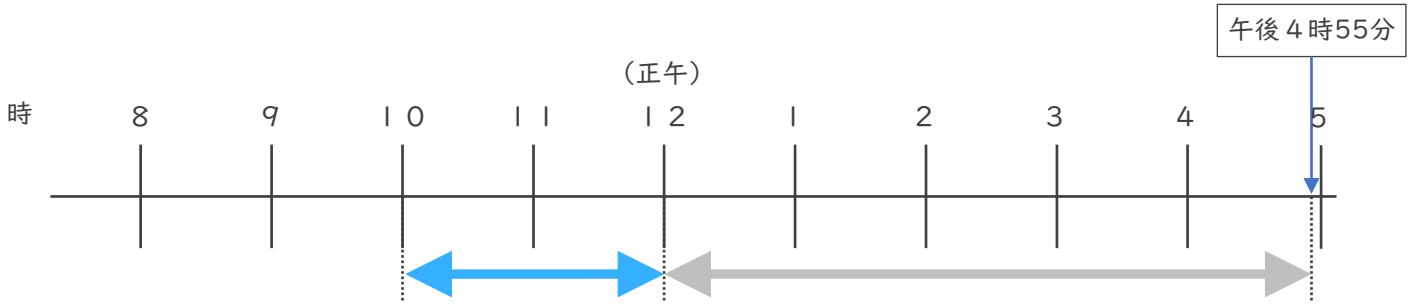

答え（　　）

② 午前８時から午後２時10分までの時間

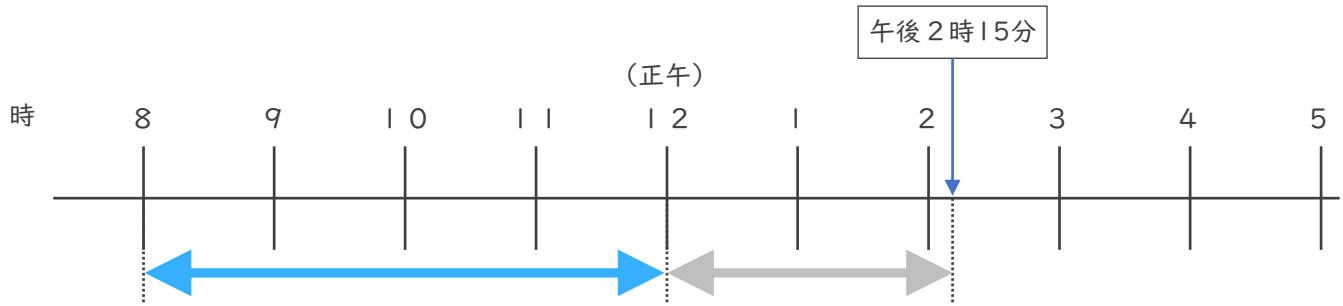

答え（　　）

③ 午後１時45分から午後６時20分までの時間

	６時２０分
－	１時４５分
	時　　分

答え（　　）

すらすらぷりんと

時こくと時間のもとめかた 8 12

◎ 正午をはさむ計算

日にち：　　月　　日

名まえ

・次の時間をもとめましょう。

① 午前９時から午後４時25分までの時間

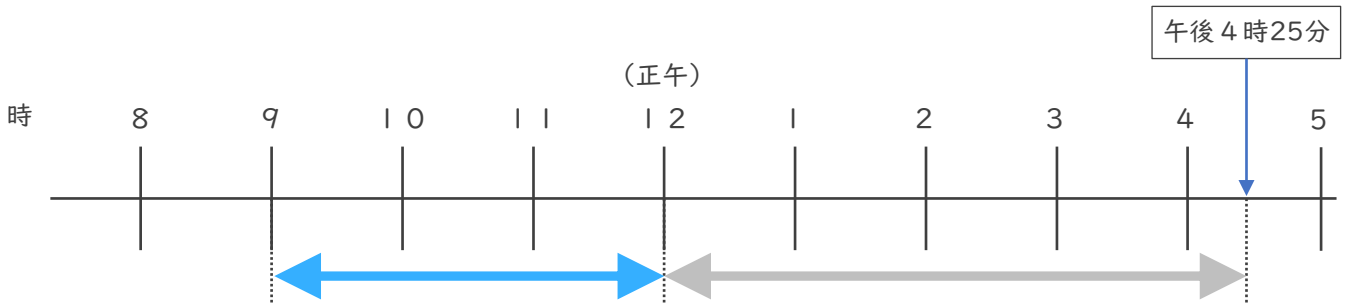

答え（　　）

② 午前11時から午後３時50分までの時間

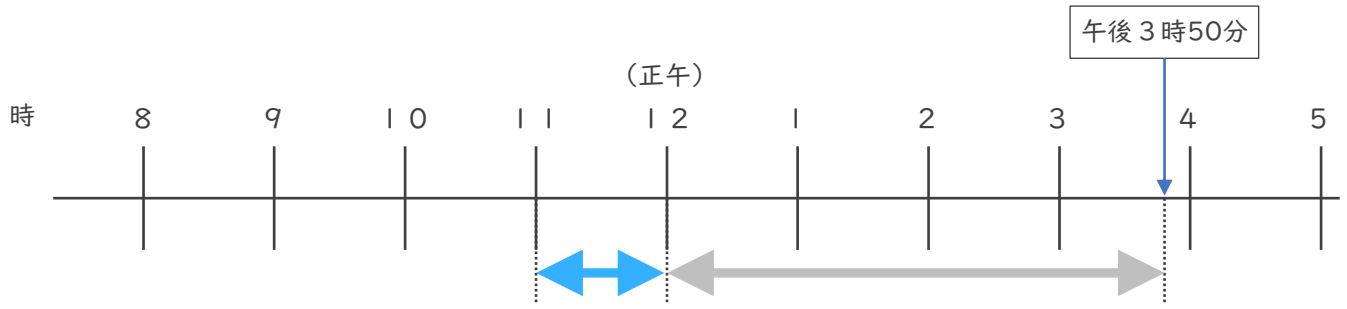

答え（　　）

③ 午後３時25分から午後６時15分までの時間

	時	分
－	時	分
	時	分

答え（　　）

すらすらぷりんと

時こくと時間のもとめかた 8 13

◎ 正午をはさむ計算

日にち：　　月　　日

名まえ

・次の時間をもとめましょう。

① 午前８時から午後１時55分までの時間

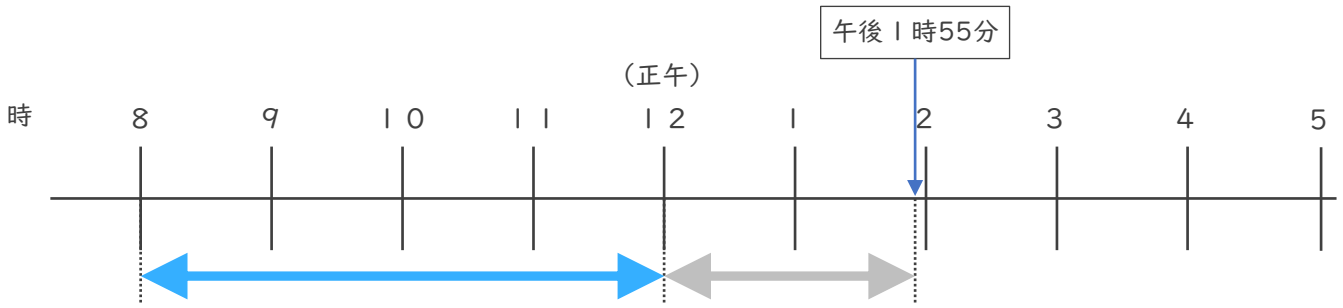

答え（　　）

② 午前10時から午後３時35分までの時間

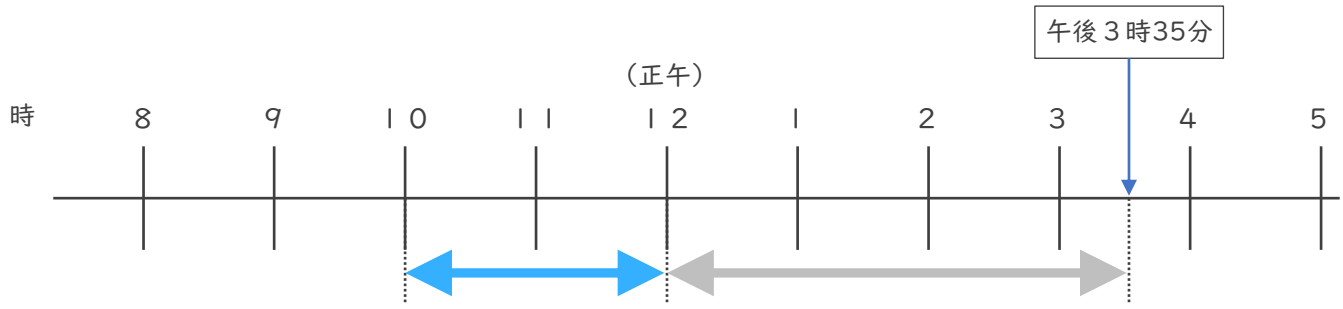

答え（　　）

③ 午前８時25分から午前10時10分までの時間

	時	分
－	時	分
	時	分

答え（　　）

すらすらぷりんと

時こくと時間のもとめかた 8 14

◎ 正午をはさむ計算

日にち：　　月　　日

名まえ

・次の時間をもとめましょう。

① 午前８時から午後４時35分までの時間

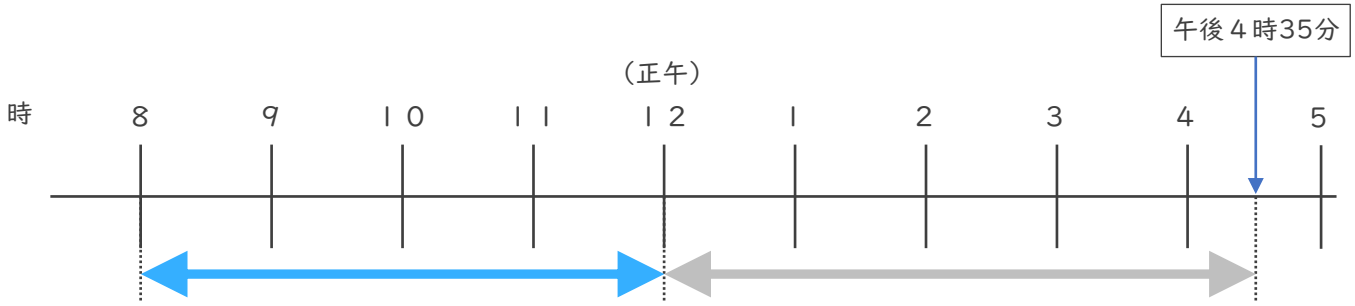

答え（　　）

② 午前９時から午後４時15分までの時間

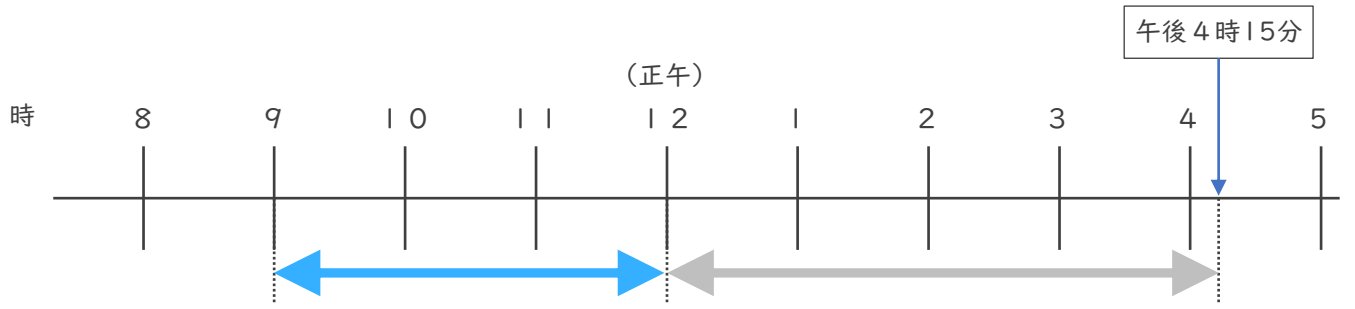

答え（　　）

③ 午前７時45分から午前11時20分までの時間

	時	分
−	時	分
	時	分

答え（　　）

すらすらぷりんと

時こくと時間のもとめかた 8 15

◎ 正午をはさむ計算

めざせ100点！ てん

名まえ

・次の時間をもとめましょう。

① 午前９時から午後２時10分までの時間（35点）

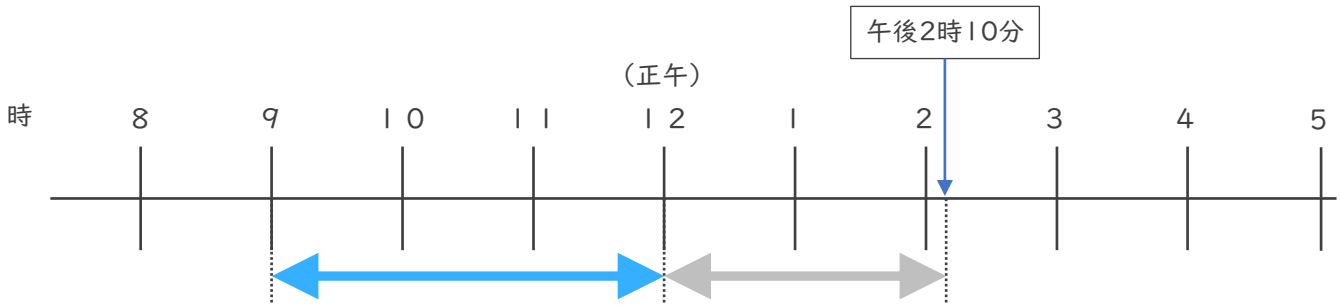

答え（　　）

② 午前８時から午後４時45分までの時間（35点）

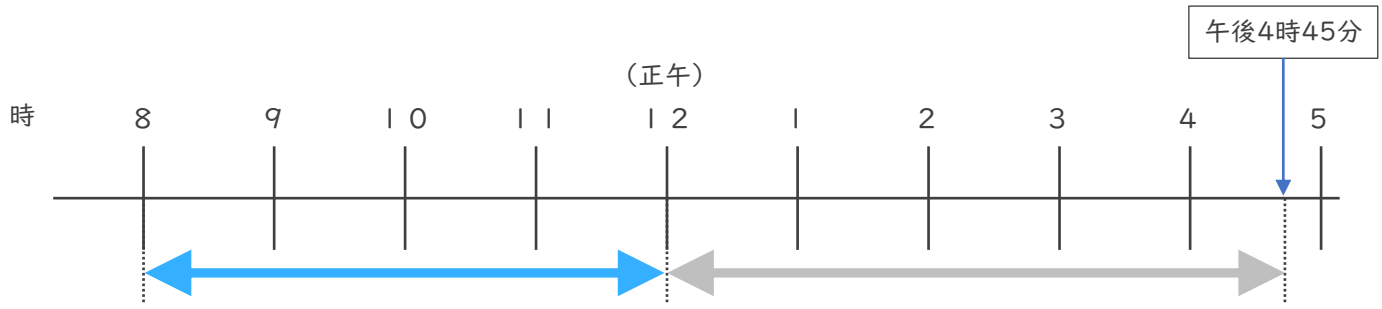

答え（　　）

③ 午前９時50分から午前11時15分までの時間（30点）

	時	分
−	時	分
	時	分

答え（　　）

すらすらぷりんと

時こくと時間のもとめかた 8 16

◎ 正午をはさむ計算

めざせ100点！ てん

名まえ

・次の時間をもとめましょう。

① 午前８時から午後１時55分までの時間（35点）

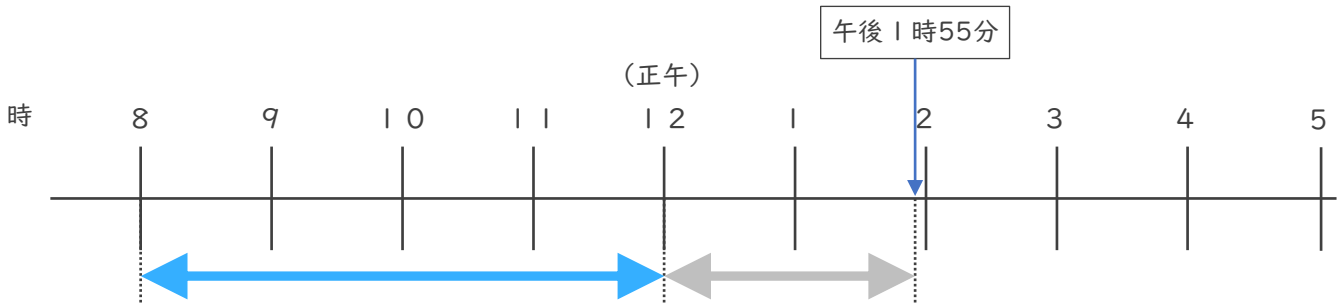

答え（　　）

② 午前11時から午後３時50分までの時間（35点）

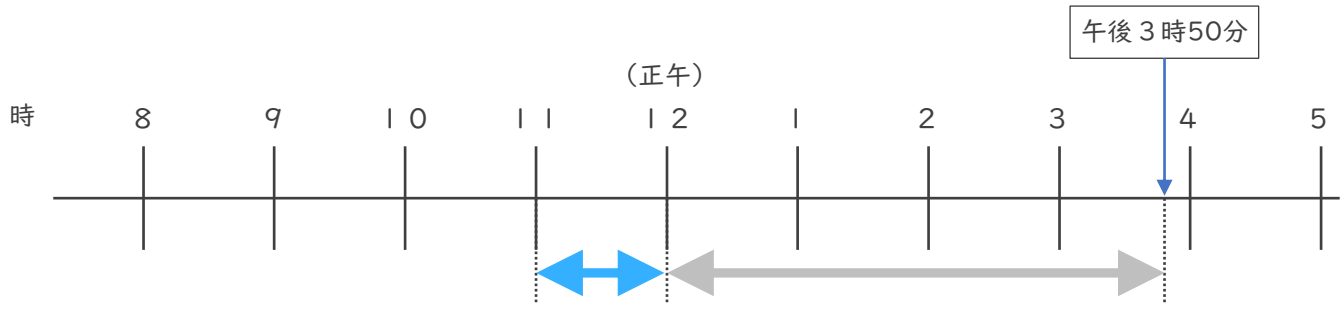

答え（　　）

③ 午前７時45分から午前11時20分までの時間（30点）

	時	分
−	時	分
	時	分

答え（　　）

すらすらぷりんと

時こくと時間のもとめかた 8

◎ 正午をはさむ計算

日にち：　　月　　日

名まえ

1 午前８時から午後３時40分までの時間をもとめます。（うすい字はなぞりましょう。）

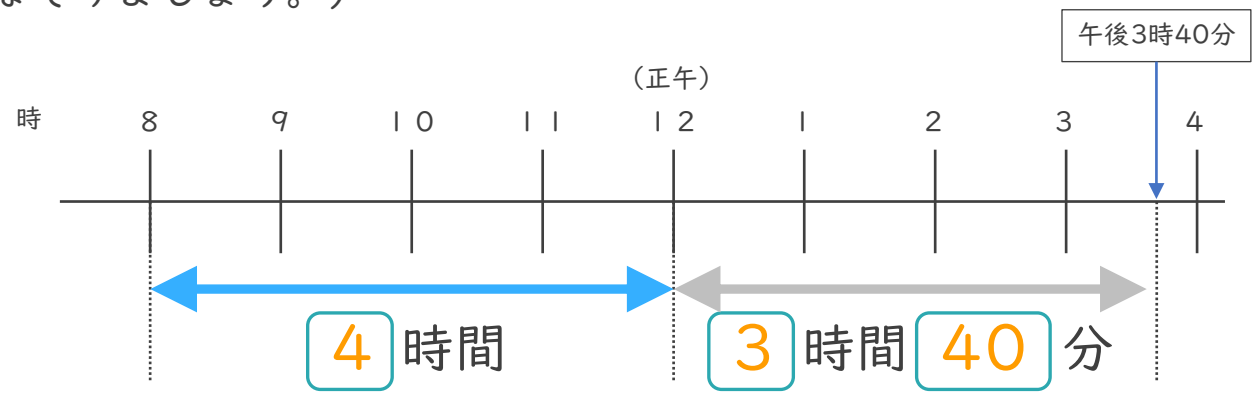

① □にあてはまる数を書きましょう。

② 午前8時から午後3時40分までの時間は何時間何分ですか。

答え（　７時間３０分　）

2 午前９時から午後5時50分までの時間をもとめます。（うすい字はなぞりましょう。）

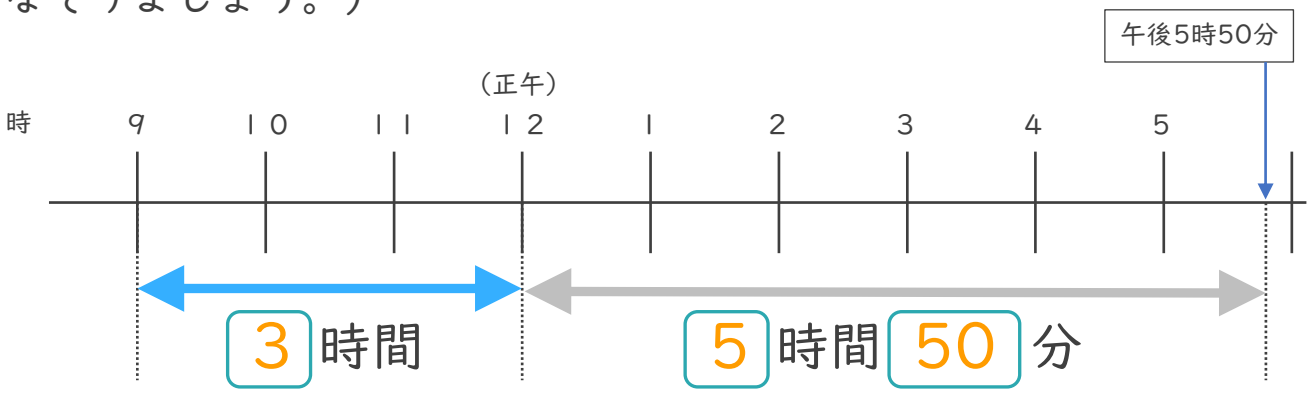

① □にあてはまる数を書きましょう。

② 午前９時から午後５時50分までの時間は何時間何分ですか。

答え（　８時間５０分　）

① 例題 答え

すらすらぷりんと

時こくと時間のもとめかた 8　2

◎ 正午をはさむ計算

日にち：　　月　　日

名まえ

1 午前８時から午後２時50分までの時間をもとめます。（うすい字はなぞりましょう。）

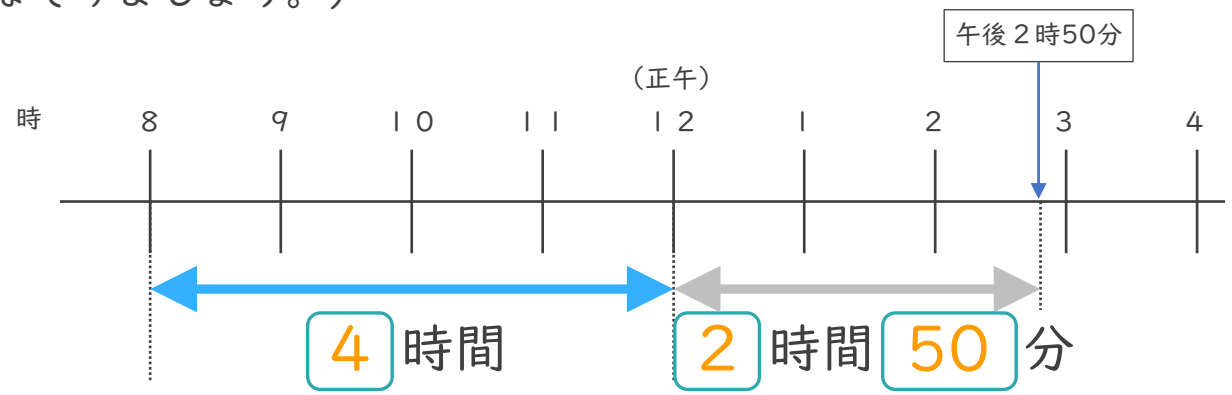

① □にあてはまる数を書きましょう。

② 午前８時から午後２時50分までの時間は何時間何分ですか。

答え（　６時間５０分　）

2 午前９時から午後４時45分までの時間をもとめます。

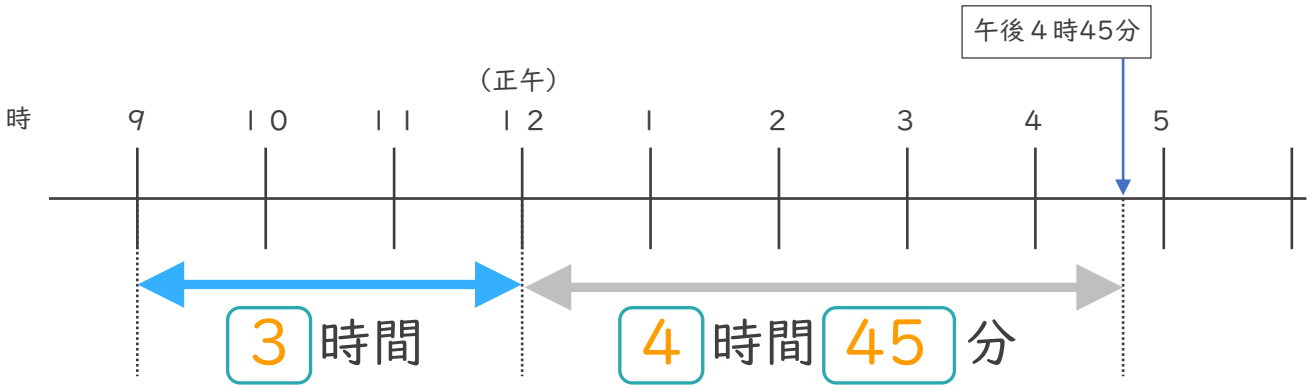

① □にあてはまる数を書きましょう。

② 午前９時から午後４時45分までの時間は何時間何分ですか。

答え（　７時間４５分　）

すらすらぷりんと

時こくと時間のもとめかた 8 3

◎ 正午をはさむ計算

日にち：　　月　　日

名まえ

1 午前９時から午後３時30分までの時間をもとめます。（うすい字はなぞりましょう。）

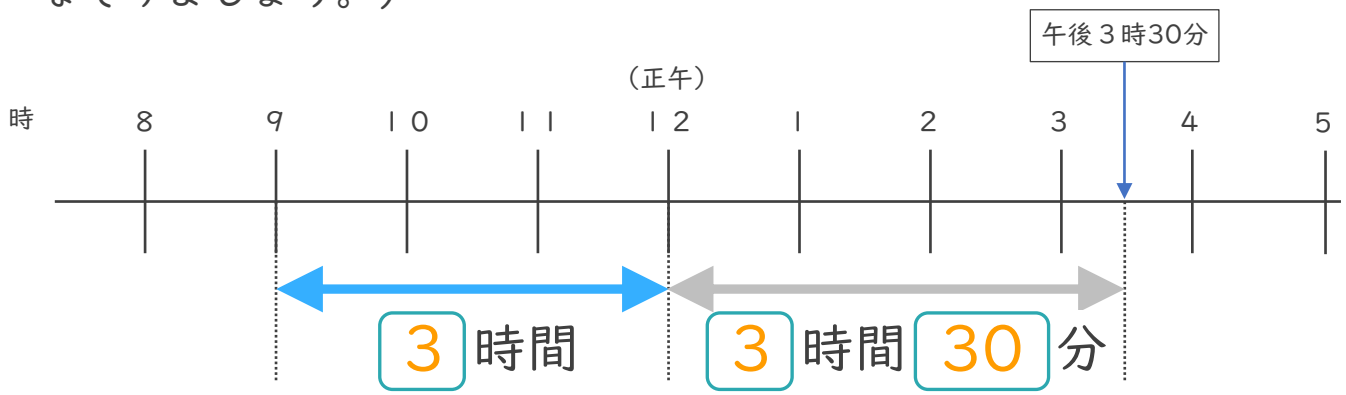

① □にあてはまる数を書きましょう。

② 午前９時から午後３時30分までの時間は何時間何分ですか。

答え（　６時間３０分　）

2 午前９時から午後４時15分までの時間をもとめます。

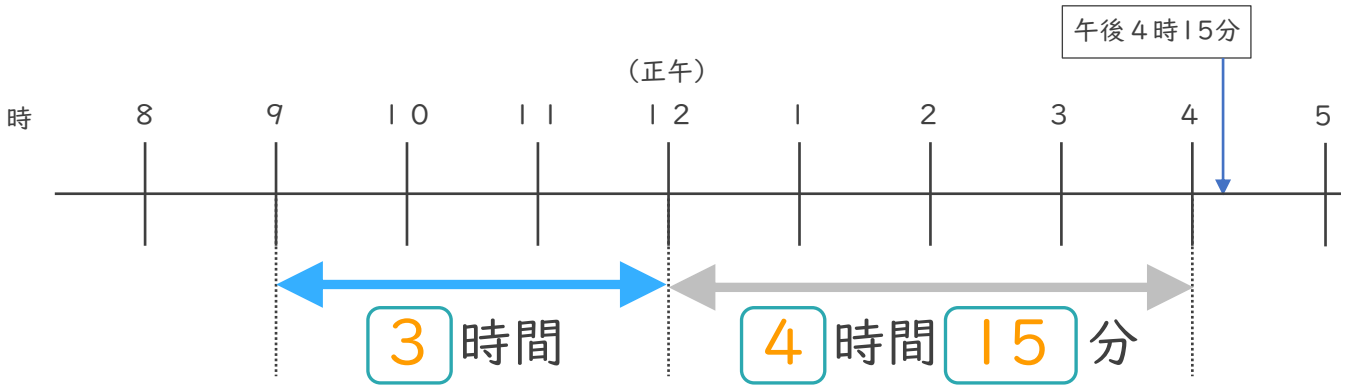

① □にあてはまる数を書きましょう。

② 午前９時から午後４時15分までの時間は何時間何分ですか。

答え（　７時間１５分　）

すらすらぷりんと

時こくと時間のもとめかた 8 4

◎ 正午をはさむ計算

日にち：　　月　　日

名まえ

1 午前10時から午後４時15分までの時間をもとめます。（うすい字はなぞりましょう。）

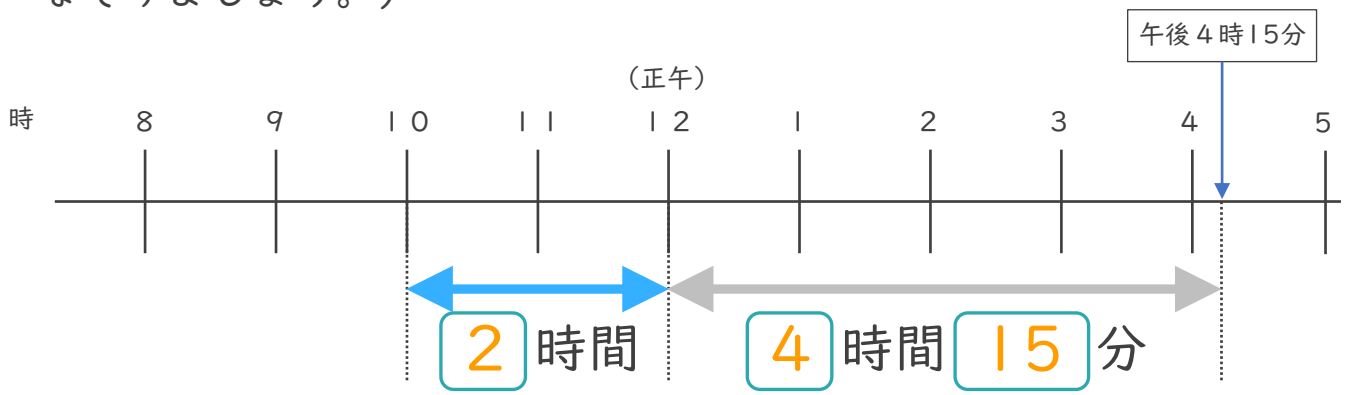

① □にあてはまる数を書きましょう。

② 午前10時から午後４時15分までの時間は何時間何分ですか。

答え（　６時間１５分　）

2 午前８時から午後２時50分までの時間をもとめます。

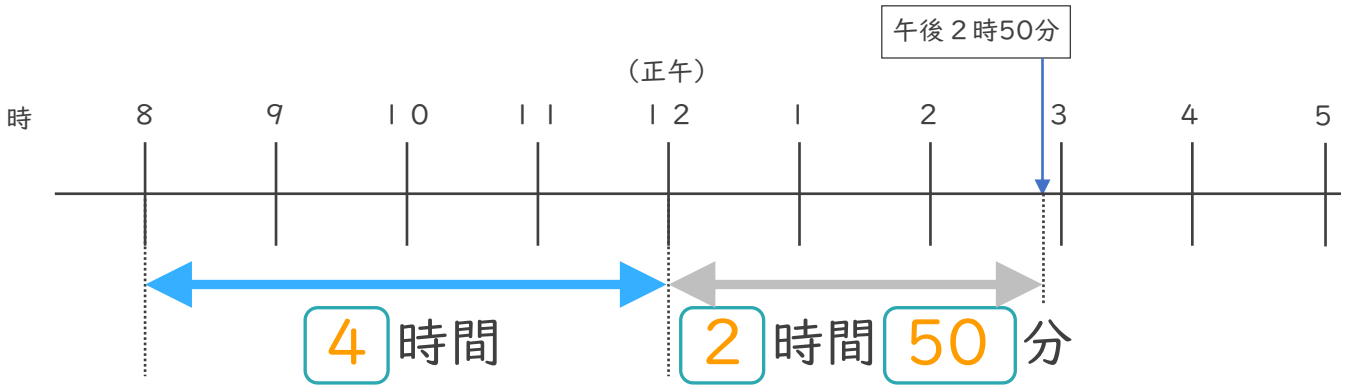

① □にあてはまる数を書きましょう。

② 午前８時から午後２時50分までの時間は何時間何分ですか。

答え（　６時間５０分　）

すらすらぷりんと

時こくと時間のもとめかた 8　5

◎ 正午をはさむ計算

日にち：　　月　　日

名まえ

1 午前８時から午後３時20分までの時間をもとめます。

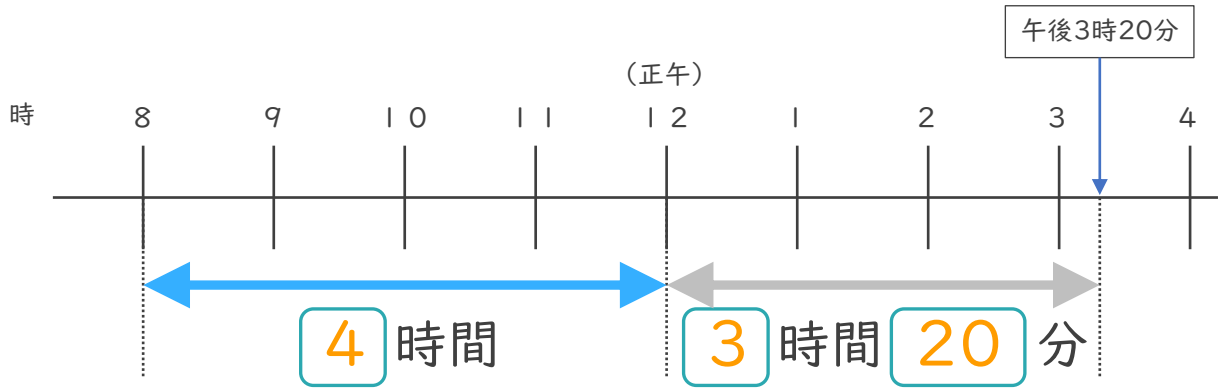

① □にあてはまる数を書きましょう。

② 午前8時から午後3時20分までの時間は何時間何分ですか。

答え（　　７時間２０分　　）

2 午前９時から午後４時30分までの時間をもとめます。

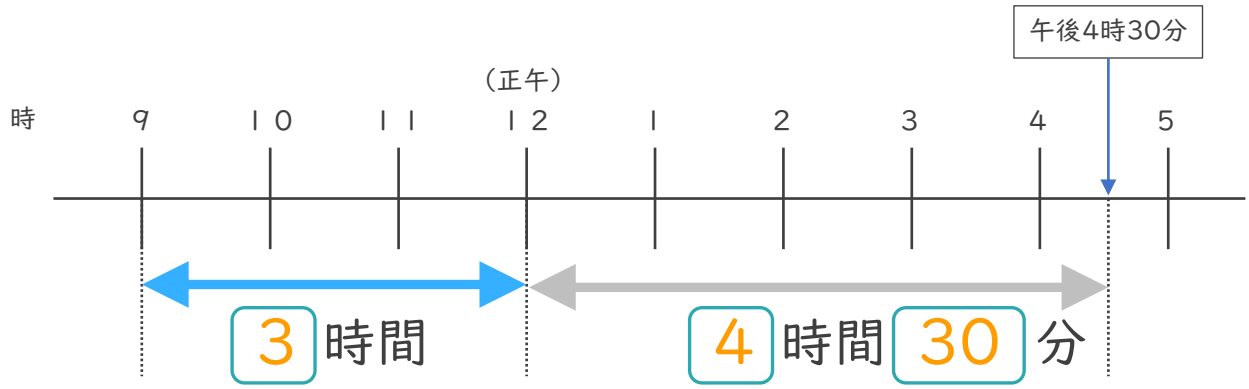

① □にあてはまる数を書きましょう。

② 午前９時から午後５時50分までの時間は何時間何分ですか。

答え（　　７時間３０分　　）

すらすらぷりんと

時こくと時間のもとめかた 8 6

◎ 正午をはさむ計算

日にち：　　月　　日

名まえ

1 午前９時から午後３時25分までの時間をもとめます。

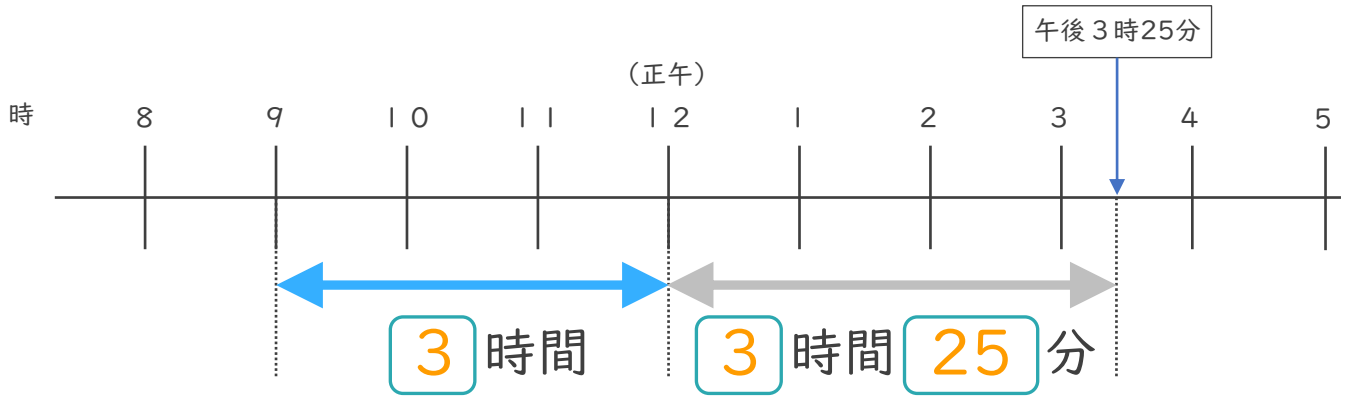

① □にあてはまる数を書きましょう。

② 午前９時から午後３時25分までの時間は何時間何分ですか。

答え（　６時間２５分　）

2 午前10時から午後４時50分までの時間をもとめます。

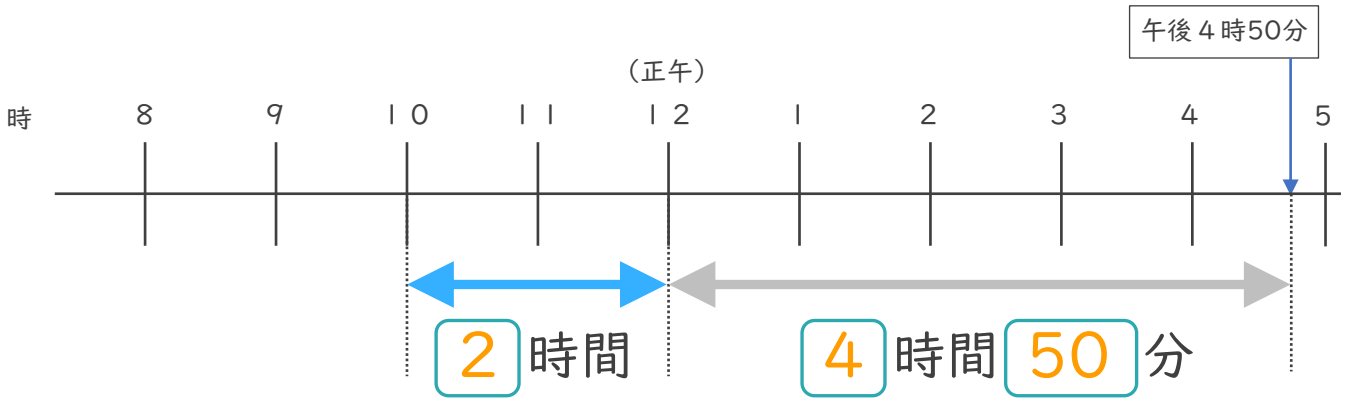

① □にあてはまる数を書きましょう。

② 午前10時から午後４時50分までの時間は何時間何分ですか。

答え（　６時間５０分　）

すらすらぷりんと

時こくと時間のもとめかた 8 7

◎ 正午をはさむ計算

日にち：　　月　　日

名まえ

1 午前10時から午後４時20分までの時間をもとめます。

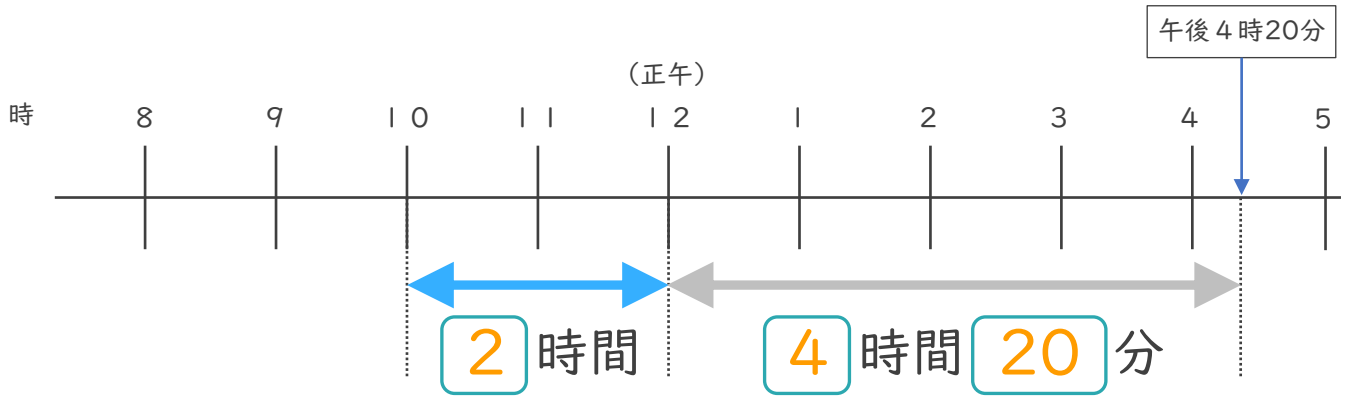

① □にあてはまる数を書きましょう。

② 午前10時から午後４時20分までの時間は何時間何分ですか。

答え（　６時間２０分　）

2 午前９時から午後２時45分までの時間をもとめます。

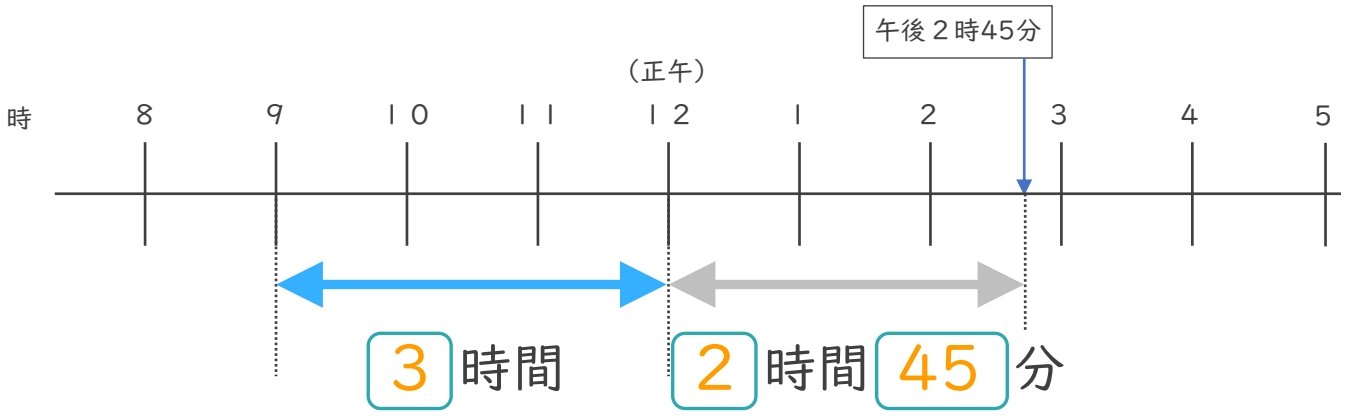

① □にあてはまる数を書きましょう。

② 午前９時から午後２時45分までの時間は何時間何分ですか。

答え（　５時間４５分　）

すらすらぷりんと

時こくと時間のもとめかた 8

◎ 正午をはさむ計算

日にち：　　月　　日

名まえ

1 午前９時から午後４時10分までの時間をもとめます。

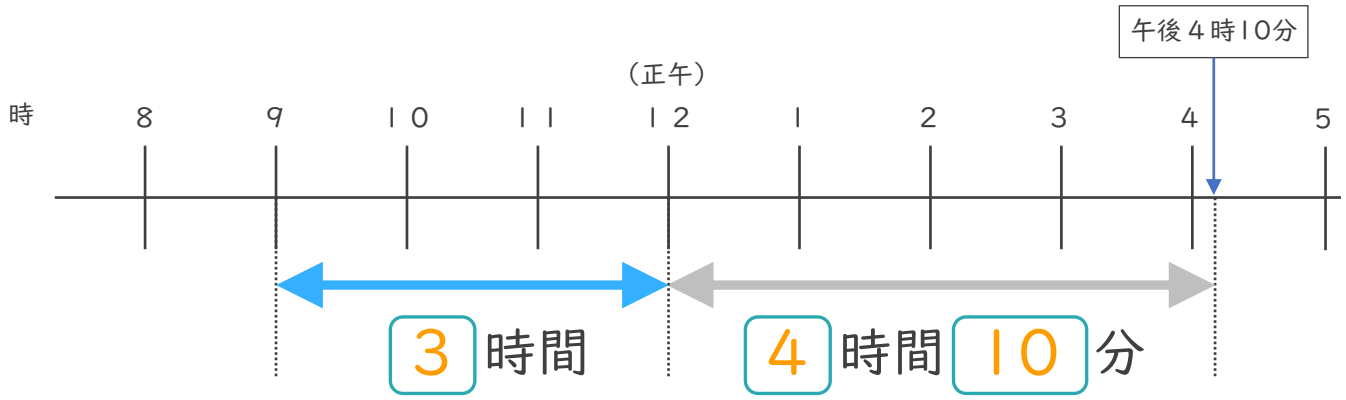

① □にあてはまる数を書きましょう。

② 午前９時から午後４時10分までの時間は何時間何分ですか。

答え（　７時間１０分　）

2 午前８時から午後１時40分までの時間をもとめます。

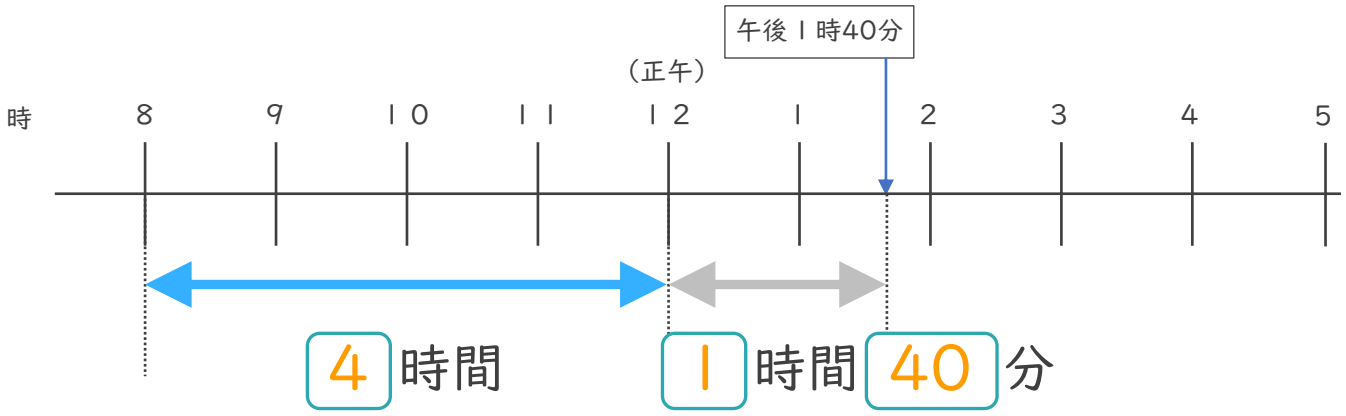

① □にあてはまる数を書きましょう。

② 午前８時から午後１時40分までの時間は何時間何分ですか。

答え（　５時間４０分　）

すらすらぷりんと

時こくと時間のもとめかた 8 9

◎ 正午をはさむ計算

日にち：　　月　　日

名まえ

1 午前10時から午後３時30分までの時間をもとめます。

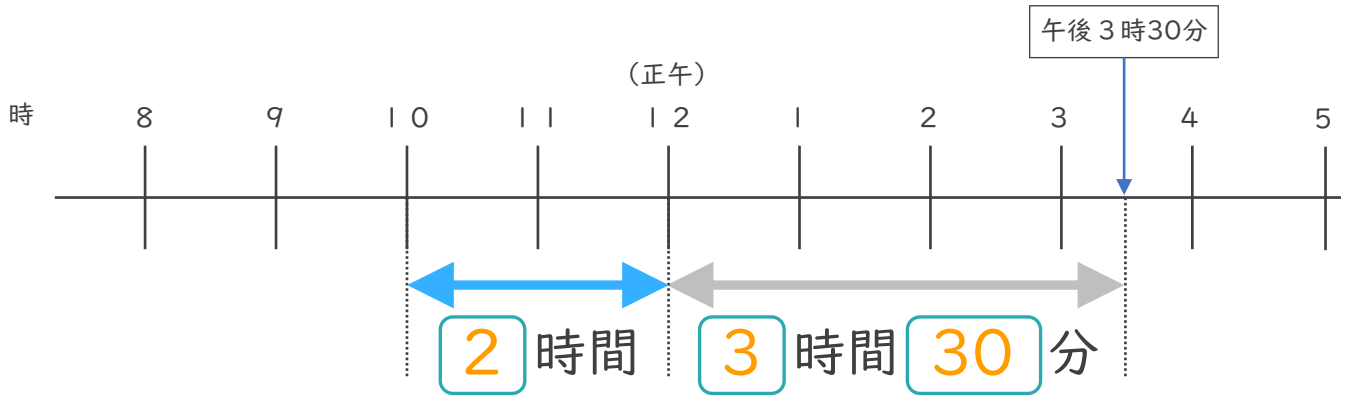

① □にあてはまる数を書きましょう。

② 午前10時から午後３時30分までの時間は何時間何分ですか。

答え（　　５時間３０分　　）

2 午前９時から午後３時20分までの時間をもとめます。

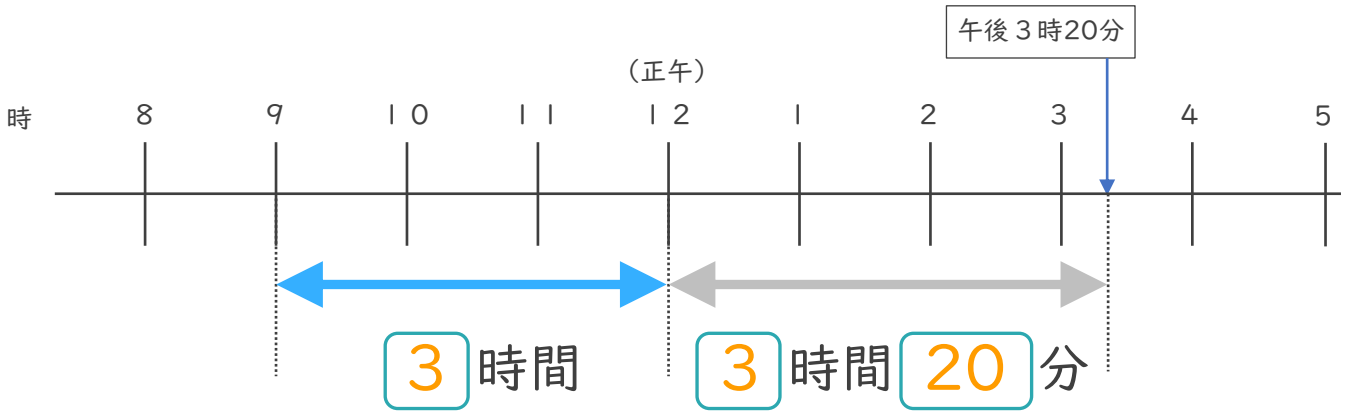

① □にあてはまる数を書きましょう。

② 午前９時から午後３時20分までの時間は何時間何分ですか。

答え（　　６時間２０分　　）

すらすらぷりんと

時こくと時間のもとめかた 8 10

◎ 正午をはさむ計算

日にち：　　月　　日

名まえ

・次の時間をもとめましょう。

① 午前９時から午後３時15分までの時間

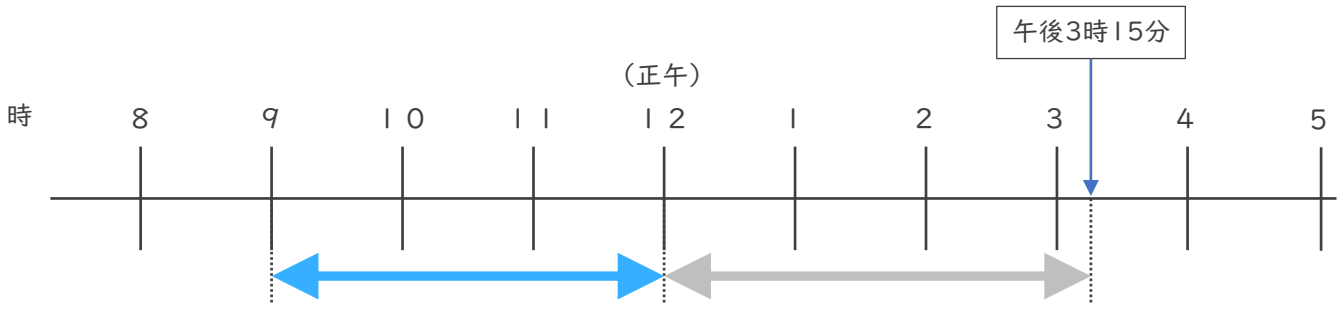

答え（　６時間１５分　）

② 午前８時から午後３時20分までの時間

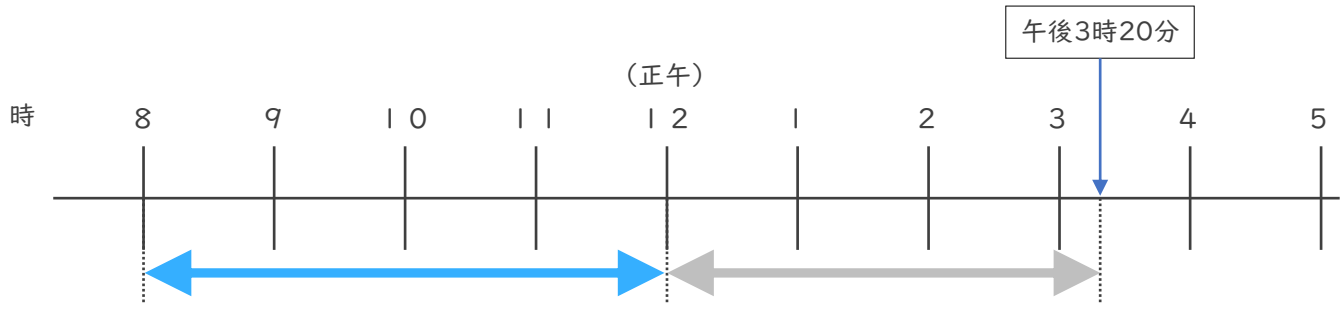

答え（　７時間２０分　）

③ 午後３時50分から午後８時30分までの時間

	~~8~~ 7 時	~~30~~ 90 分	
−	3 時	50 分	
	4 時	40 分	

答え（　４時間４０分　）

すらすらぷりんと

時こくと時間のもとめかた 8 11

◎ 正午をはさむ計算

日にち：　　月　　日

名まえ

・次の時間をもとめましょう。

① 午前10時から午後４時55分までの時間

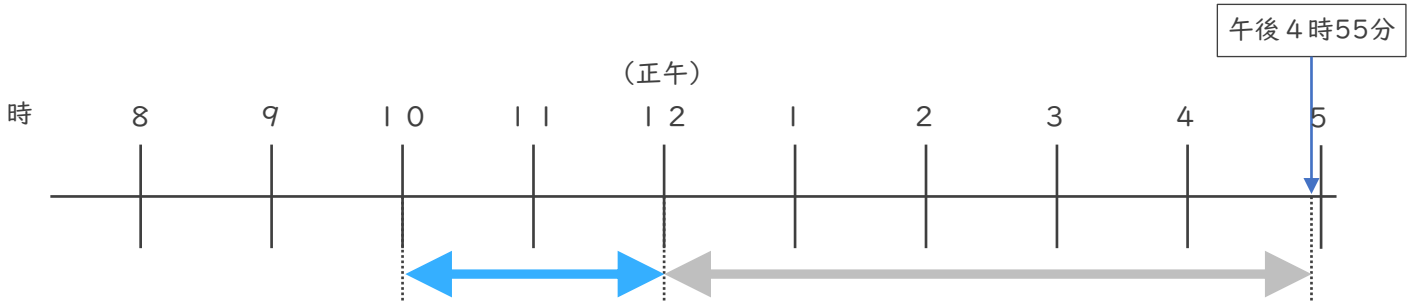

答え（　６時間５５分　）

② 午前８時から午後２時10分までの時間

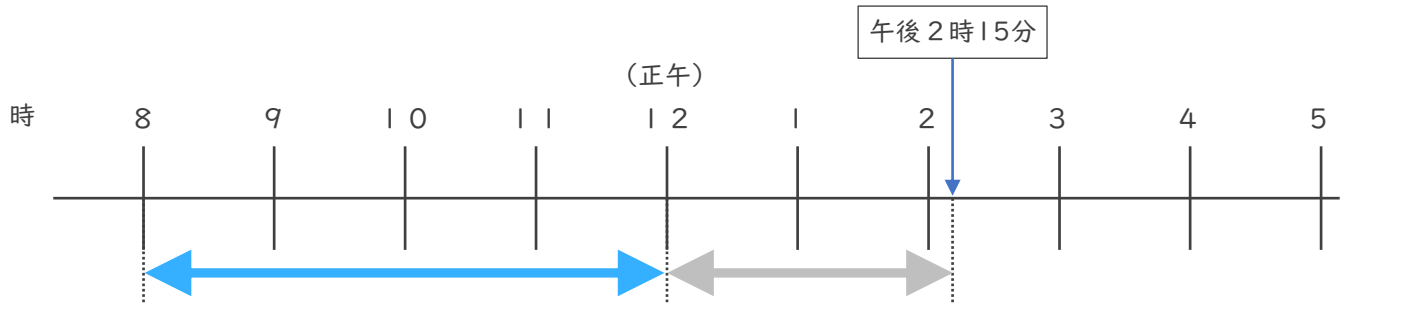

答え（　６時間１５分　）

③ 午後１時45分から午後６時20分までの時間

	5	80	
	~~6~~ 時	~~20~~ 分	
−	1 時	45 分	
	4 時	35 分	

答え（　４時間３５分　）

すらすらぷりんと

時こくと時間のもとめかた 8 12

◎ 正午をはさむ計算

日にち：　　月　　日

名まえ

・次の時間をもとめましょう。

① 午前９時から午後４時25分までの時間

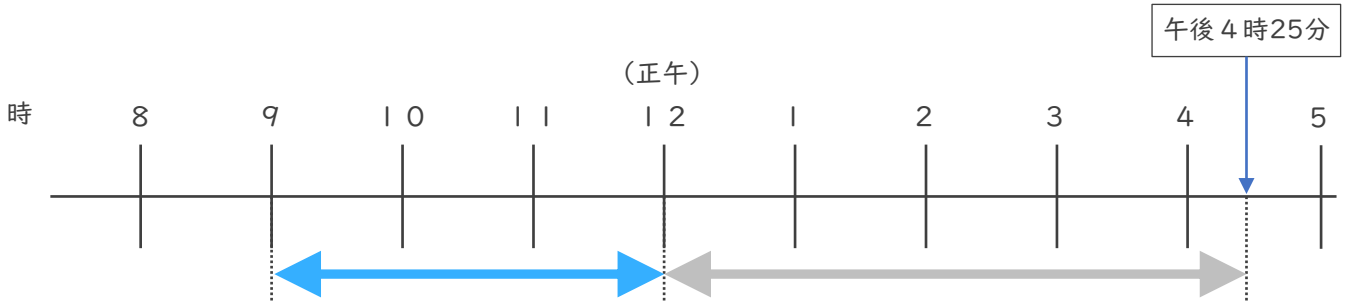

答え（　７時間２５分　）

② 午前11時から午後３時50分までの時間

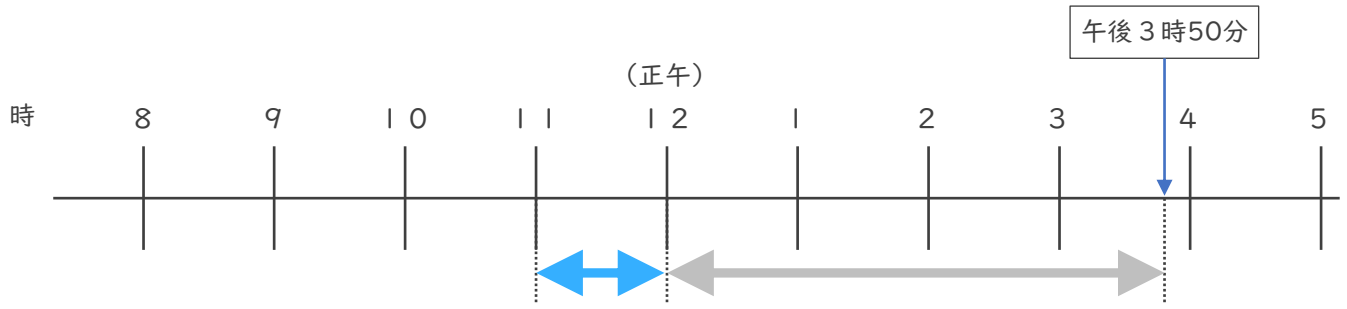

答え（　４時間５０分　）

③ 午後３時25分から午後６時15分までの時間

	~~6~~ 時	~~15~~ 分
−	3 時	25 分
	2 時	50 分

5　75

答え（　２時間５０分　）

すらすらぷりんと

時こくと時間のもとめかた 8 13

◎ 正午をはさむ計算

日にち：　　月　　日

名まえ

・次の時間をもとめましょう。

① 午前８時から午後１時55分までの時間

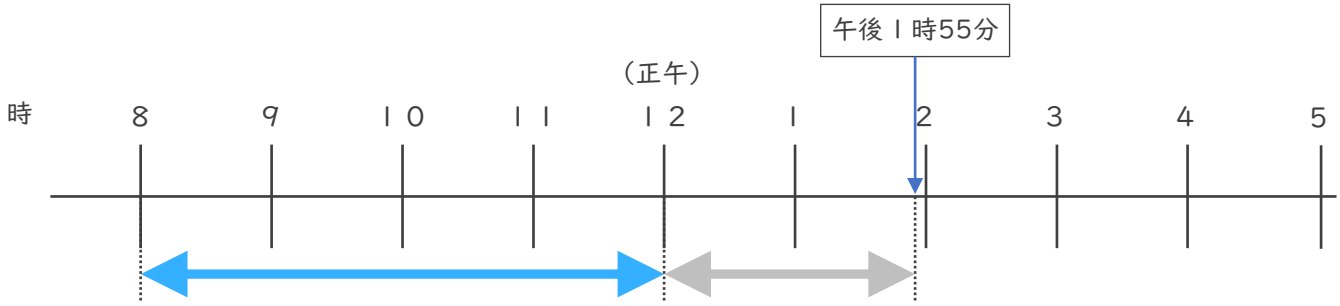

答え（　５時間５５分　）

② 午前10時から午後３時35分までの時間

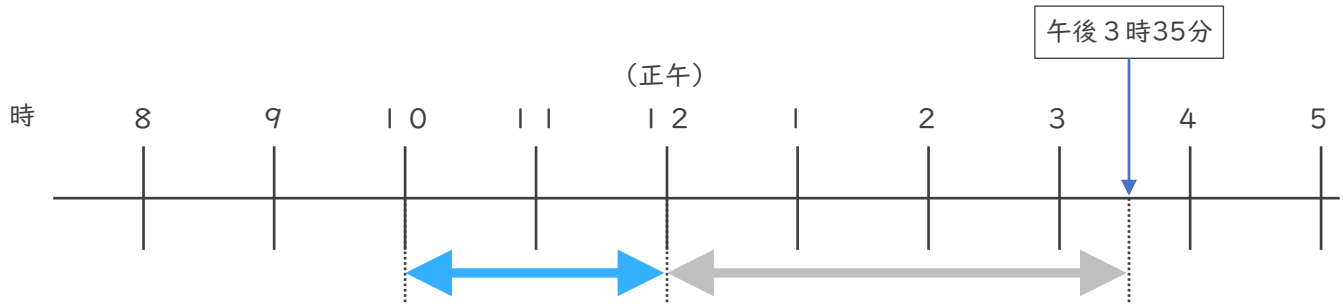

答え（　５時間３５分　）

③ 午前８時25分から午前10時10分までの時間

	~~10~~ 9 時 ~~10~~ 70 分	
−	8 時 25 分	
	1 時 45 分	答え（　１時間４５分　）

すらすらぷりんと

時こくと時間のもとめかた 8 14

◎ 正午をはさむ計算

日にち：　　月　　日

名まえ

・次の時間をもとめましょう。

① 午前８時から午後４時35分までの時間

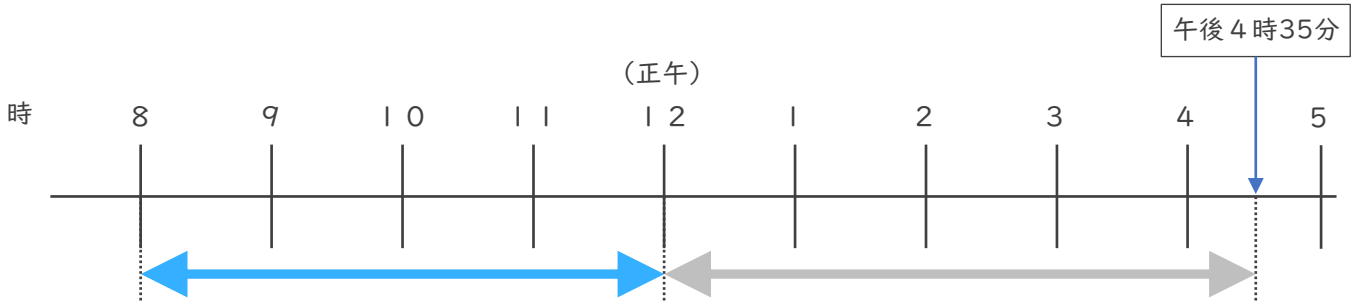

答え（　８時間３５分　）

② 午前９時から午後４時15分までの時間

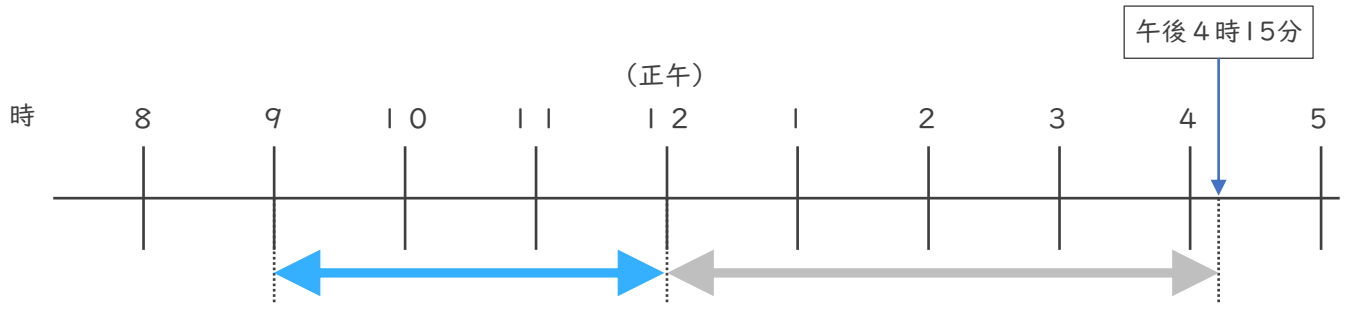

答え（　７時間１５分　）

③ 午前７時45分から午前11時20分までの時間

	10　80	
	~~11~~ 時 ~~20~~ 分	
−	7 時 45 分	
	3 時 35 分	答え（　３時間３５分　）

すらすらぷりんと

時こくと時間のもとめかた 8 15

◎ 正午をはさむ計算

めざせ100点！ てん

名まえ

・次の時間をもとめましょう。

① 午前９時から午後２時10分までの時間（35点）

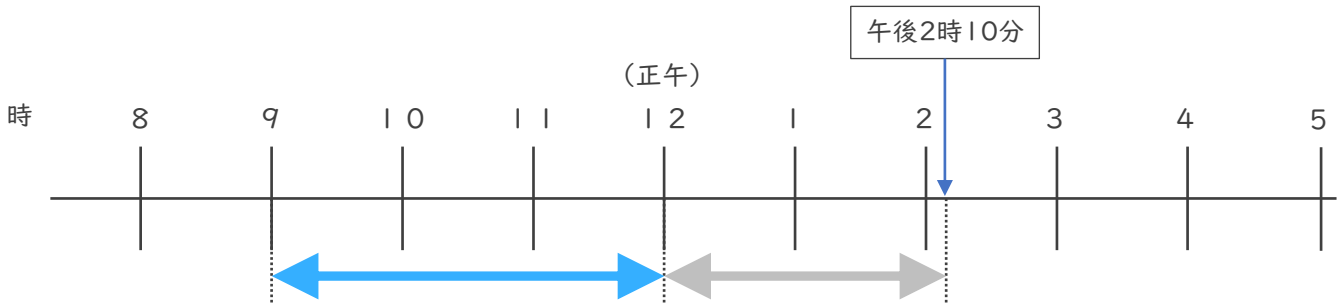

答え（ ５時間１０分 ）

② 午前８時から午後４時45分までの時間（35点）

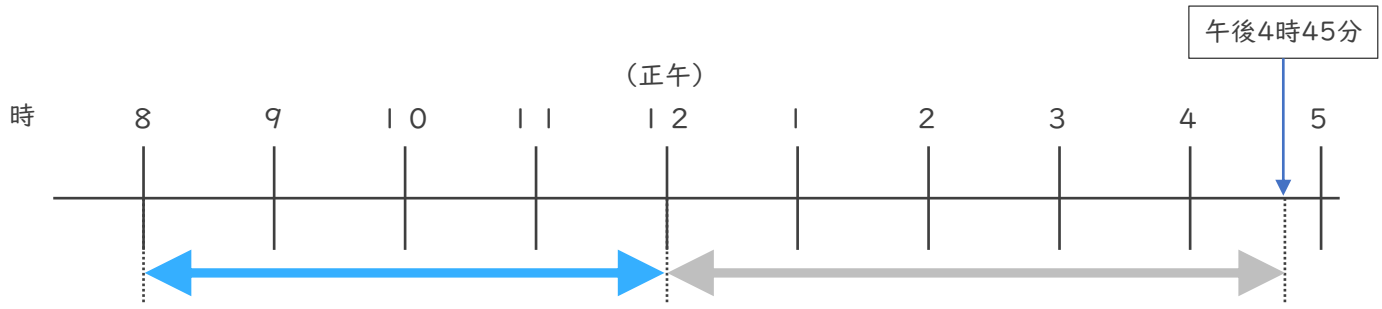

答え（ ８時間４５分 ）

③ 午前９時50分から午前11時15分までの時間（30点）

	１０ ~~１１~~ 時	７５ ~~１５~~ 分
－	９ 時	５０ 分
	１ 時	２５ 分

答え（ １時間２５分 ）

すらすらぷりんと

時こくと時間のもとめかた 8 16

◎ 正午をはさむ計算

めざせ100点！ てん

名まえ

・次の時間をもとめましょう。

① 午前８時から午後１時55分までの時間（35点）

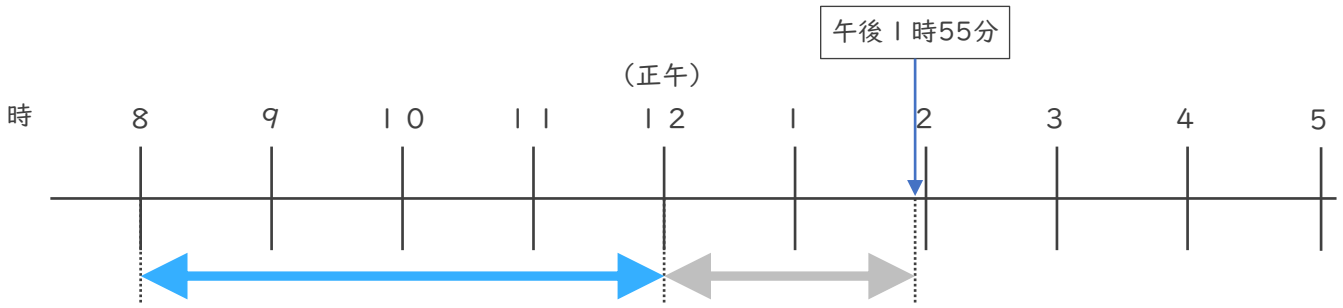

答え（ ５時間５５分 ）

② 午前11時から午後３時50分までの時間（35点）

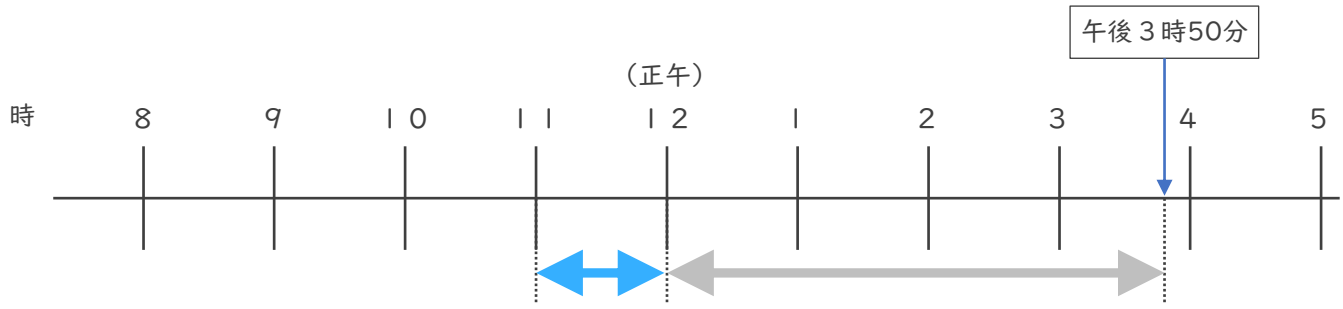

答え（ ４時間５０分 ）

③ 午前７時45分から午前11時20分までの時間（30点）

	10		80	
	~~11~~	時	~~20~~	分
−	7	時	45	分
	3	時	35	分

答え（ ３時間３５分 ）

すらすらぷりんと