時こくと時間のもとめかた 2　10

◉ 時こくをもとめる（数直線）

日にち：　　月　　日

名まえ

1　家を午前10時50分に出て、50分歩くと学校に着きました。

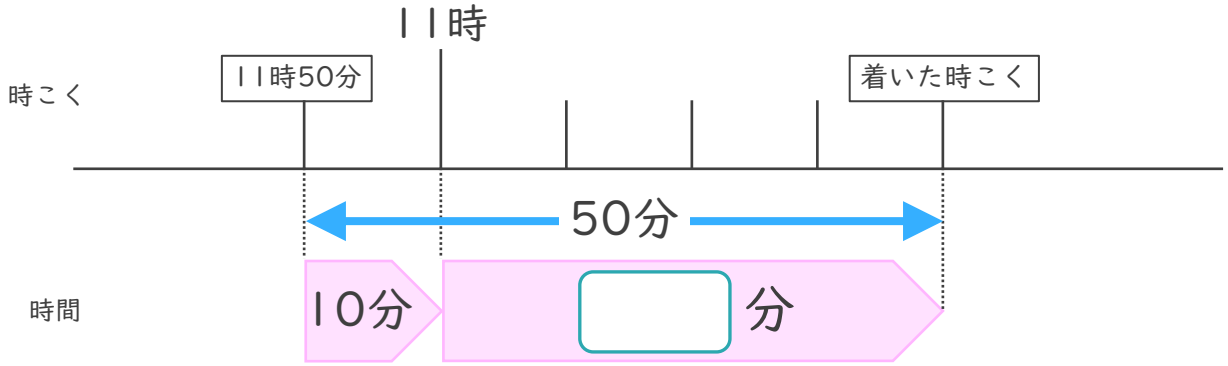

① □にあてはまる数を書きましょう。

② 学校に着いた時こくは何時何分ですか。

答え（　　）

2　家を午前9時40分に出て、40分歩くと公園に着きました。

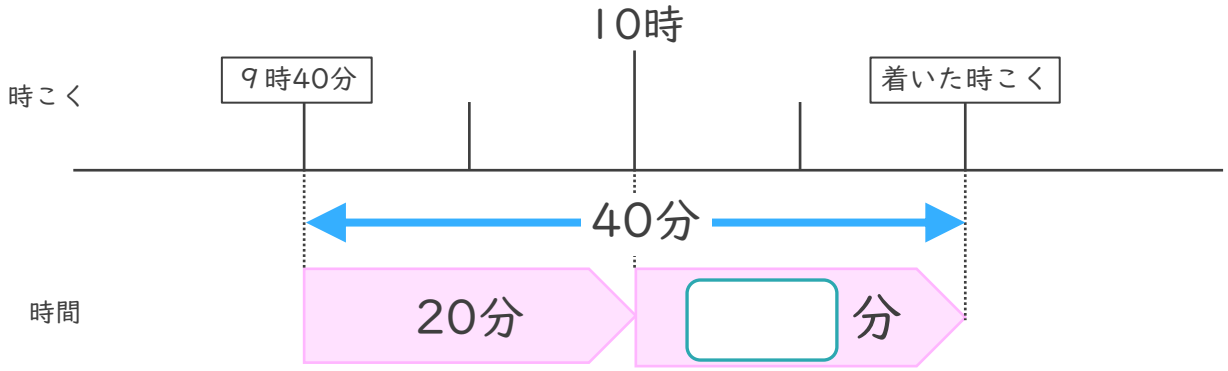

① □にあてはまる数を書きましょう。

② 公園に着いた時こくは何時何分ですか。

答え（　　）

すらすらぷりんと

時こくと時間のもとめかた２ 10

◉ 時こくをもとめる（数直線）

日にち：　　月　　日

名まえ

1 家を午前10時50分に出て、50分歩くと学校に着きました。

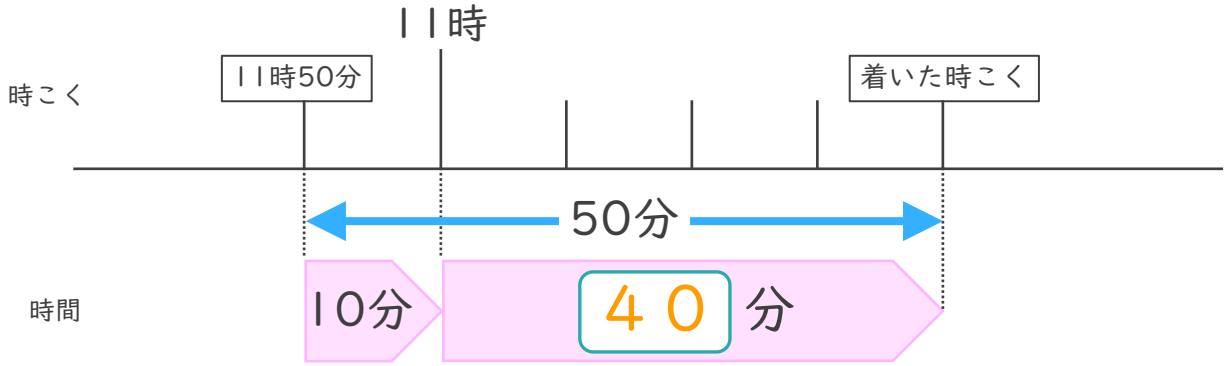

① □にあてはまる数を書きましょう。

② 学校に着いた時こくは何時何分ですか。

答え（　11時40分　）

2 家を午前９時40分に出て、40分歩くと公園に着きました。

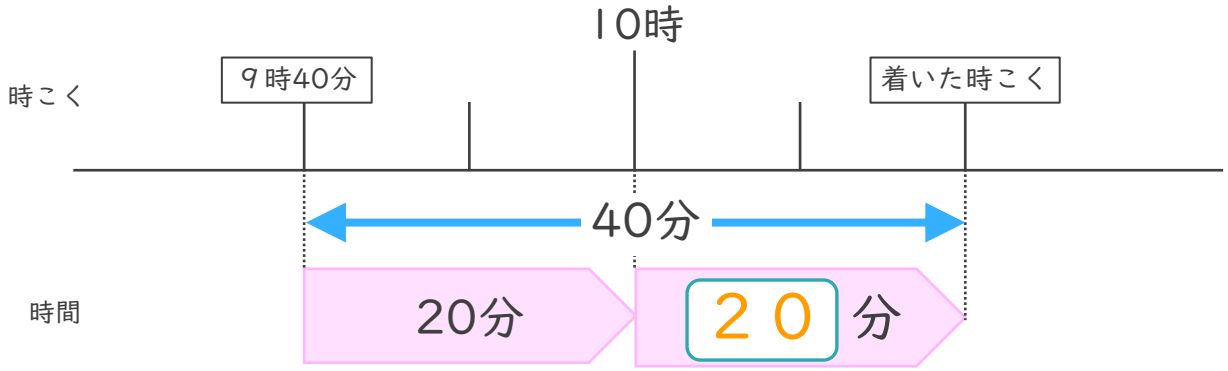

① □にあてはまる数を書きましょう。

② 公園に着いた時こくは何時何分ですか。

答え（　10時20分　）

すらすらぷりんと