時こくと時間のもとめかた 5

◎ かかった時間をもとめる（時計）

4

日にち：　　月　　日

名まえ

① 本屋を10時20分に出て、公園に11時10分に着きました。本屋から公園まで、かかった時間は何分ですか。

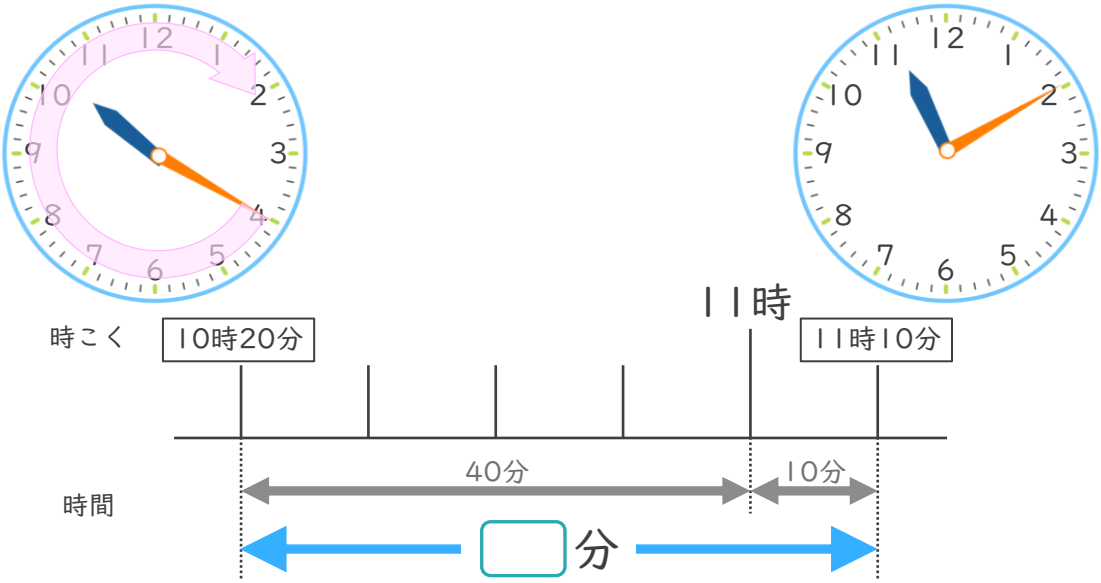

答え（　　）

② 家を３時30分に出て、図書館に４時10分に着きました。家から図書館まで、かかった時間は何分ですか。

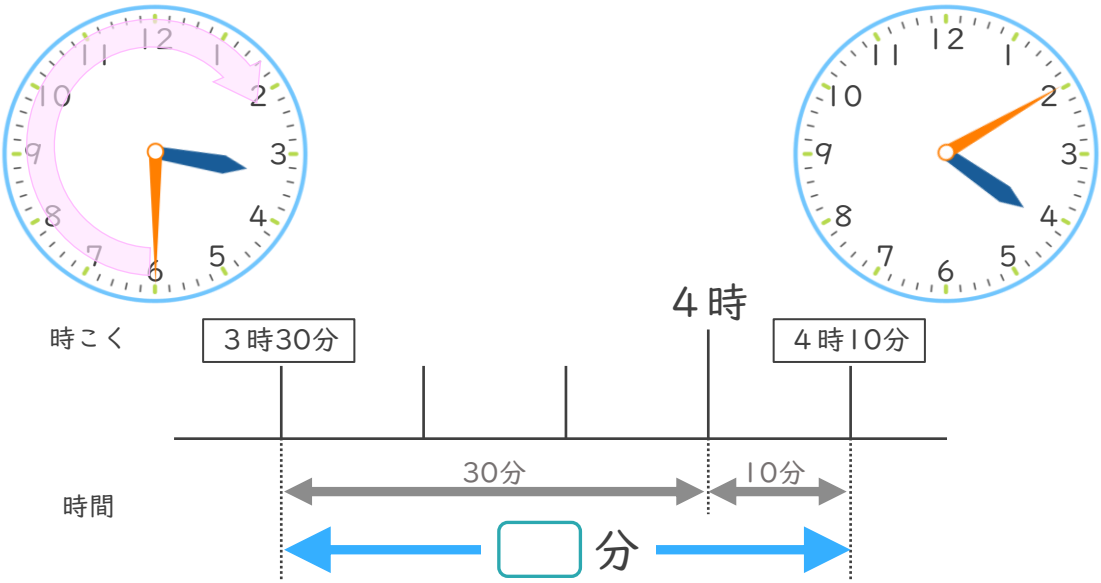

答え（　　）

すらすらぷりんと

時こくと時間のもとめかた 5

◎ かかった時間をもとめる（時計）

4

日にち：　　月　　日

名まえ

① 本屋を10時20分に出て、公園に11時10分に着きました。本屋から公園まで、かかった時間は何分ですか。

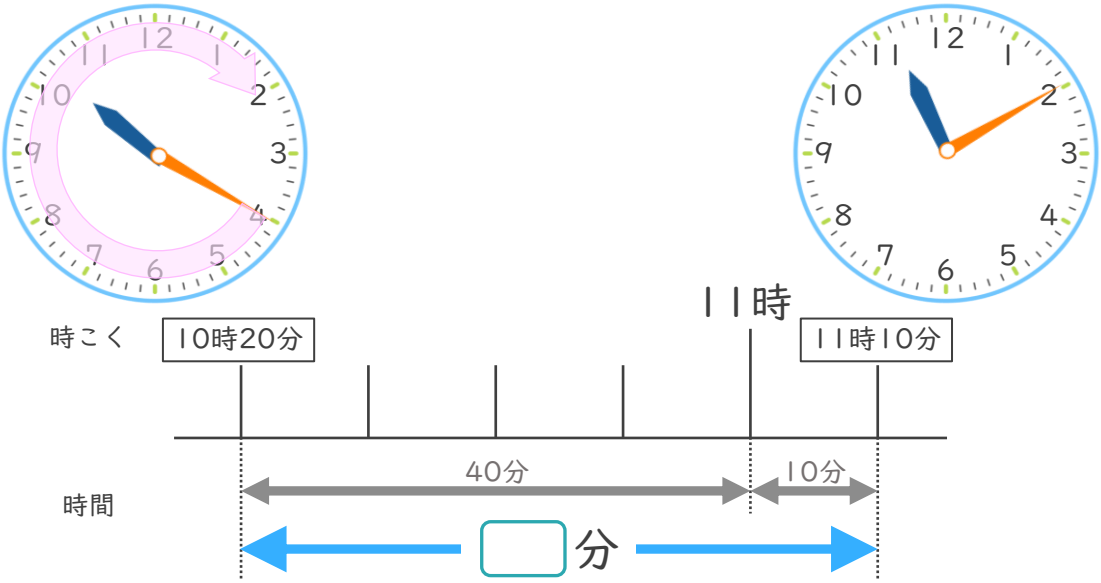

答え（　　５０分　　）

② 家を３時30分に出て、図書館に４時10分に着きました。家から図書館まで、かかった時間は何分ですか。

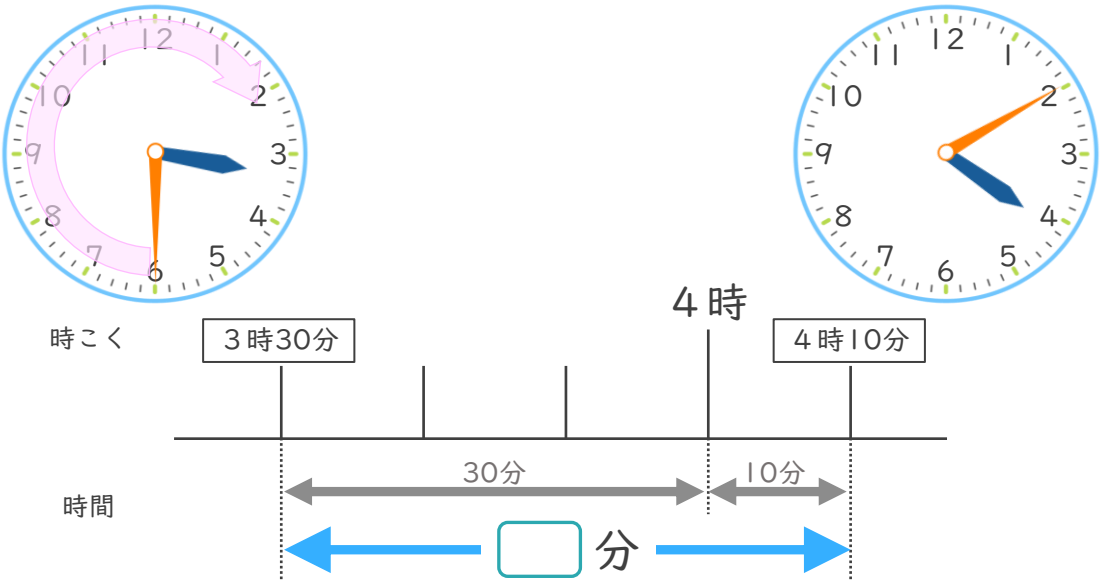

答え（　　４０分　　）

すらすらぷりんと