長いものの長さのはかり方と表し方 2

◎ まきじゃくへの書きこみ

4

日にち：　　月　　日

名まえ

1　次のまきじゃくで、①～③の長さを表す めもりに↓をかきましょう。
（うすい字は なぞりましょう。）

①　６ｍ７３ｃｍ　　②　７ｍ８ｃｍ　　③　７ｍ５２ｃｍ

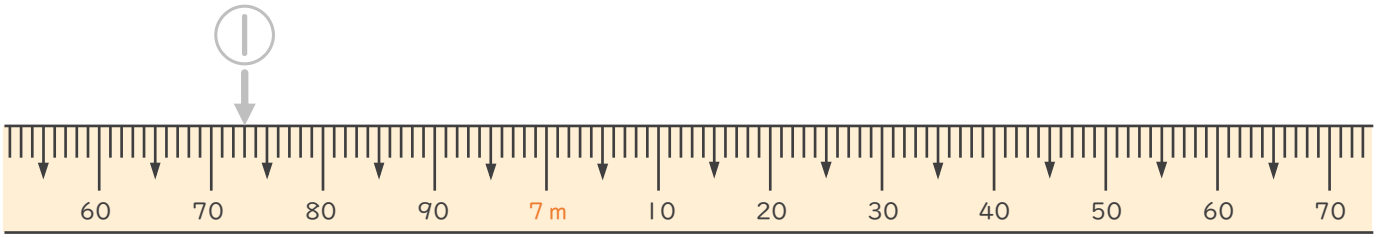

2　次のまきじゃくで、①～③の長さを表す めもりに↓をかきましょう。

①　９５ｃｍ　　②　１ｍ５５ｃｍ　　③　１ｍ９５ｃｍ

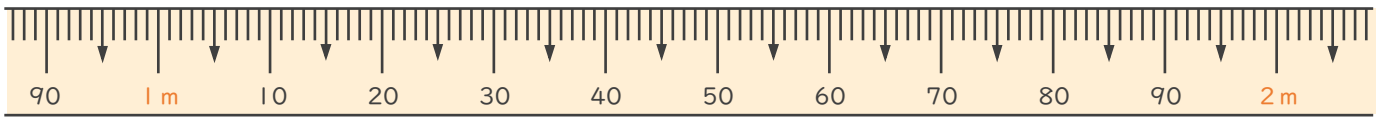

すらすらぷりんと

長いものの長さのはかり方と表し方 2

◎ まきじゃくへの書きこみ

4

日にち：　　月　　日

名まえ

1　次のまきじゃくで、①～③の長さを表す めもりに↓をかきましょう。
（うすい字は なぞりましょう。）

①　6ｍ73ｃｍ　　②　7ｍ8ｃｍ　　③　7ｍ52ｃｍ

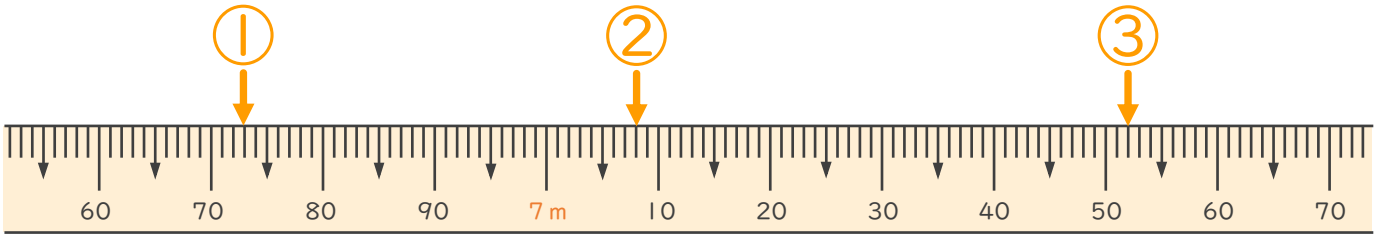

2　次のまきじゃくで、①～③の長さを表す めもりに↓をかきましょう。

①　95ｃｍ　　②　1ｍ55ｃｍ　　③　1ｍ95ｃｍ

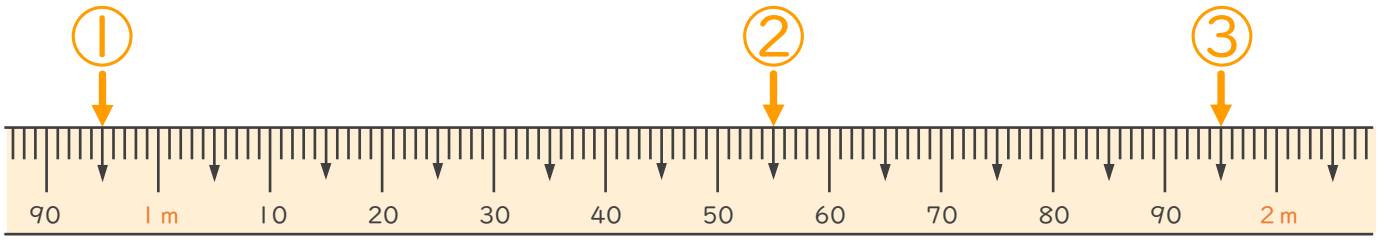

すらすらぷりんと