かけ算の筆算 18 4

◎ 何十倍のかけ算とは

日にち：　　月　　日

名まえ

1 4こずつみかんが入っているふくろが、60ふくろあります。
みかんは全部で何こ ありますか。

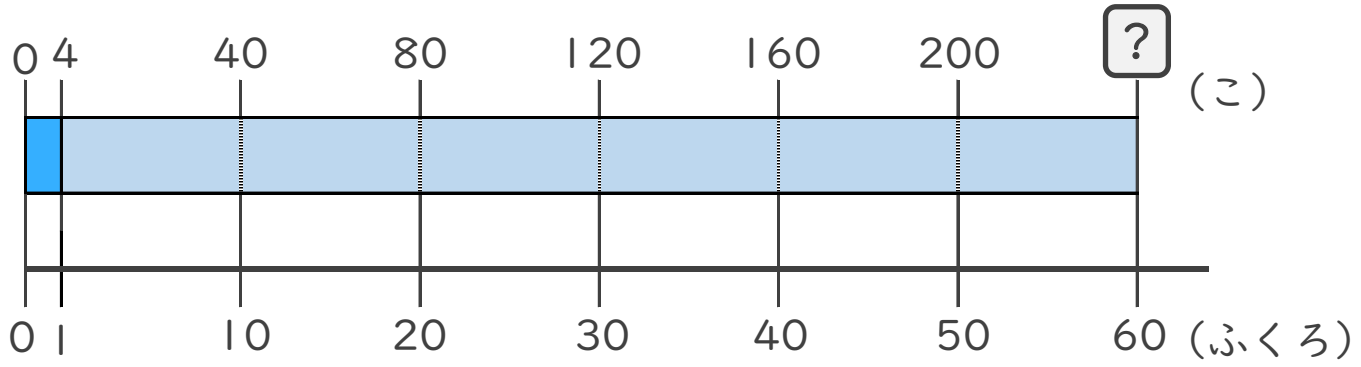

式：

答え：

2 クッキーをひとりに6まいずつ、30人に配ります。
クッキーは全部で何まい ありますか。

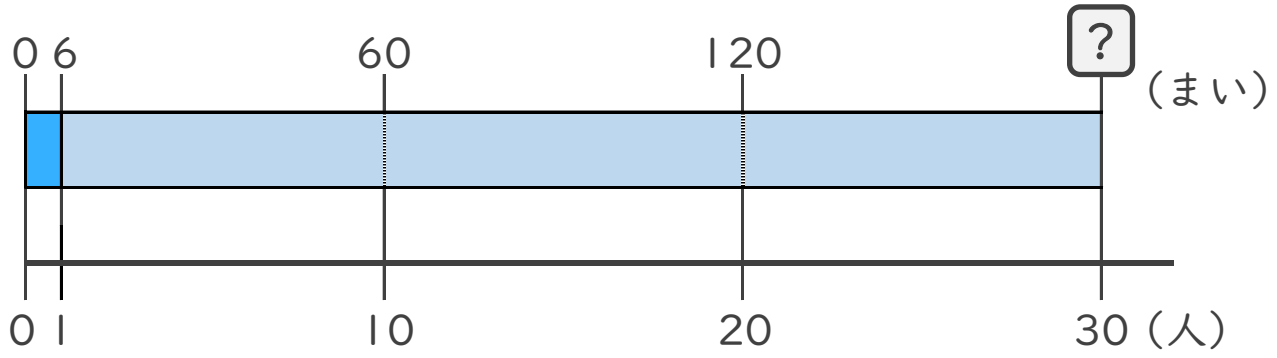

式：

答え：

すらすらぷりんと

かけ算の筆算 18 4

◎ 何十倍のかけ算とは

日にち：　　月　　日

名まえ

1 4こずつみかんが入っているふくろが、60ふくろあります。
みかんは全部で何こ ありますか。

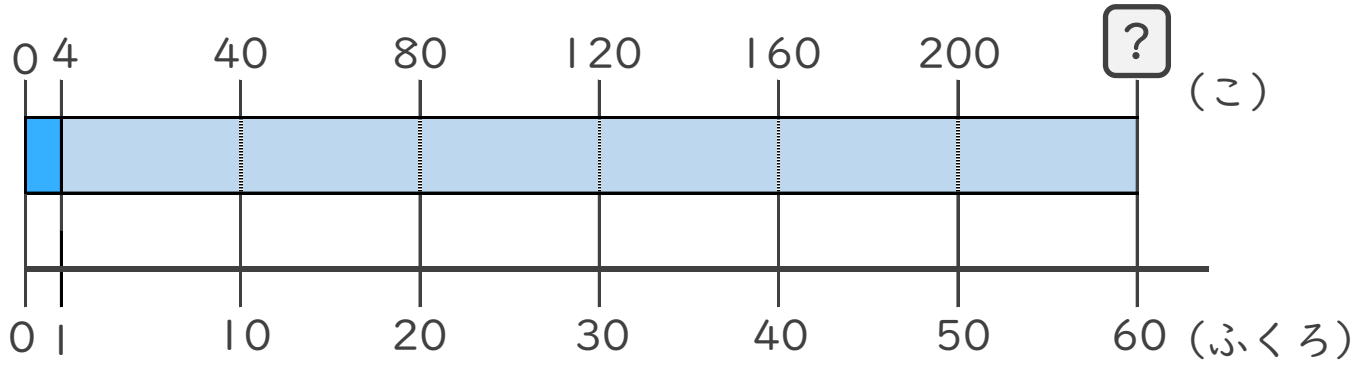

式： 4 × 60 ＝ 240

答え：240 こ

2 クッキーをひとりに6まいずつ、30人に配ります。
クッキーは全部で何まい ありますか。

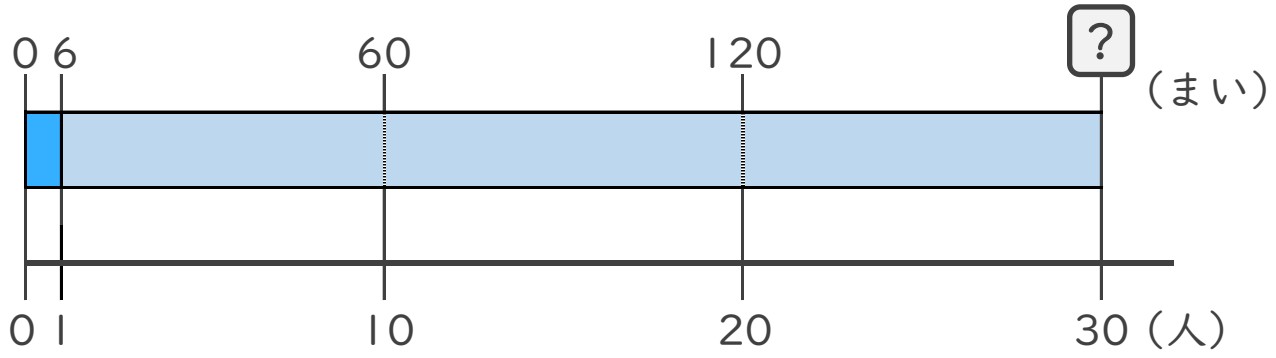

式： 6 × 30 ＝ 180

答え：180まい

すらすらぷりんと