かけ算の筆算 22

◎ 2けた ×2けたの かけ算とは

4

日にち：　　月　　日

名まえ

1 1本13円のリボンを23本買います。
代金をもとめる式を作りましょう。

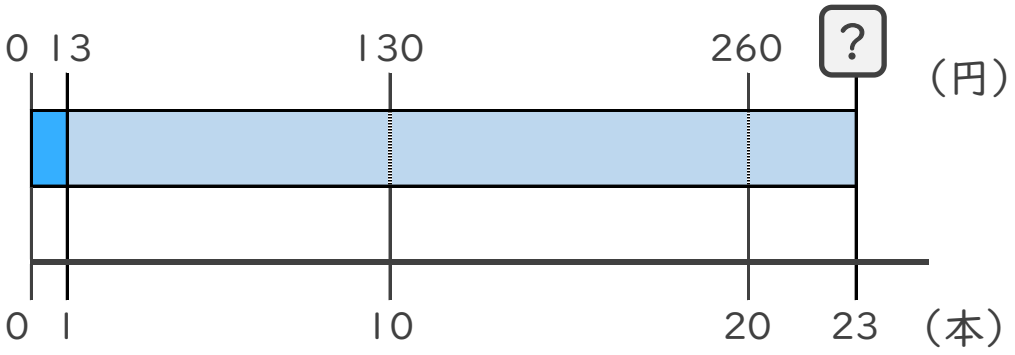

式：

2 1本32円の花を13本買います。
代金をもとめる式を作りましょう。

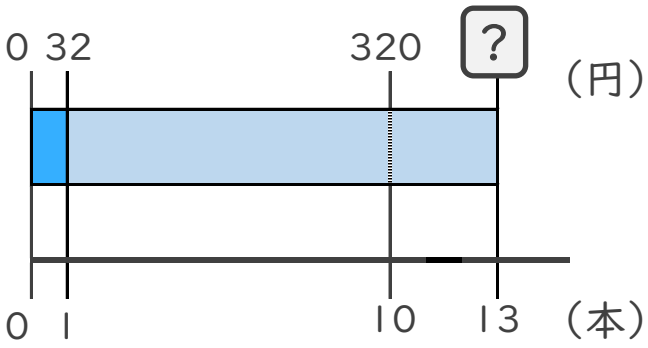

式：

すらすらぷりんと

かけ算の筆算 22

◎ 2けた ×2けたの かけ算とは

4

日にち：　　月　　日

名まえ

1 1本13円のリボンを23本買います。
代金をもとめる式を作りましょう。

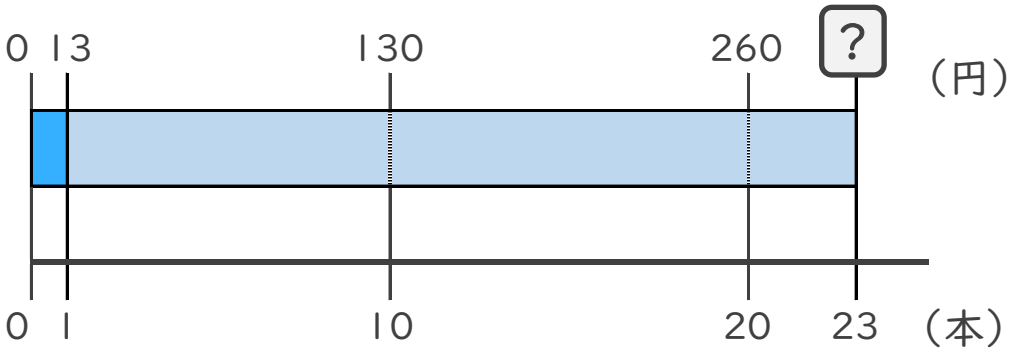

式： 13 × 23

2 1本32円の花を13本買います。
代金をもとめる式を作りましょう。

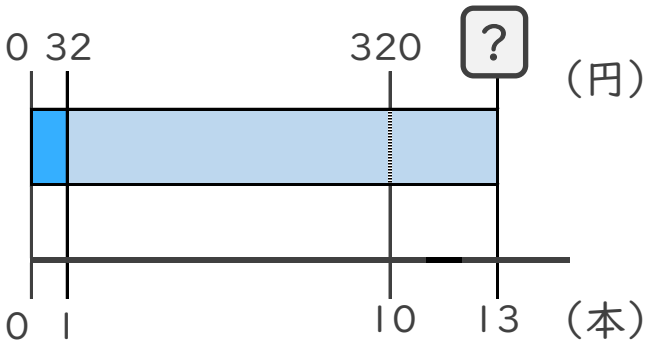

式： 32 × 13

すらすらぷりんと