時こくと時間のもとめかた 8

◎ 正午をはさむ計算

日にち：　　月　　日

名まえ

1 午前９時から午後４時10分までの時間をもとめます。

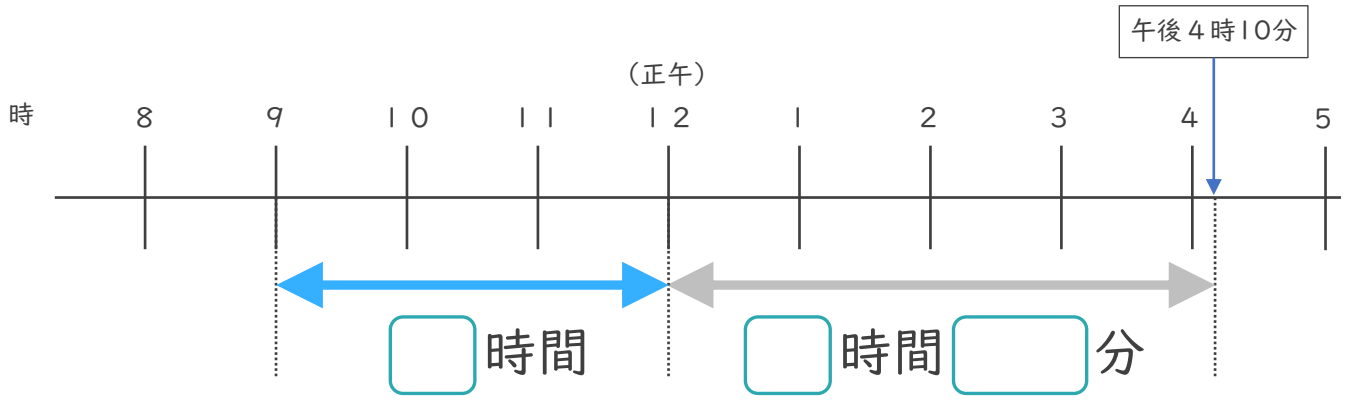

① □にあてはまる数を書きましょう。

② 午前９時から午後４時10分までの時間は何時間何分ですか。

答え（　　）

2 午前８時から午後１時40分までの時間をもとめます。

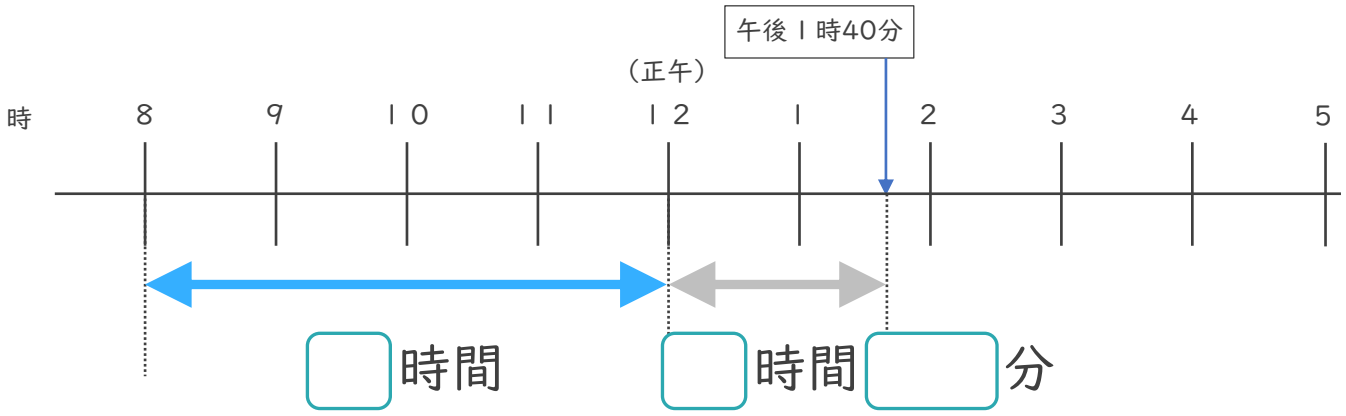

① □にあてはまる数を書きましょう。

② 午前８時から午後１時40分までの時間は何時間何分ですか。

答え（　　）

すらすらぷりんと

時こくと時間のもとめかた 8

◎ 正午をはさむ計算

日にち：　　月　　日

名まえ

1 午前９時から午後４時10分までの時間をもとめます。

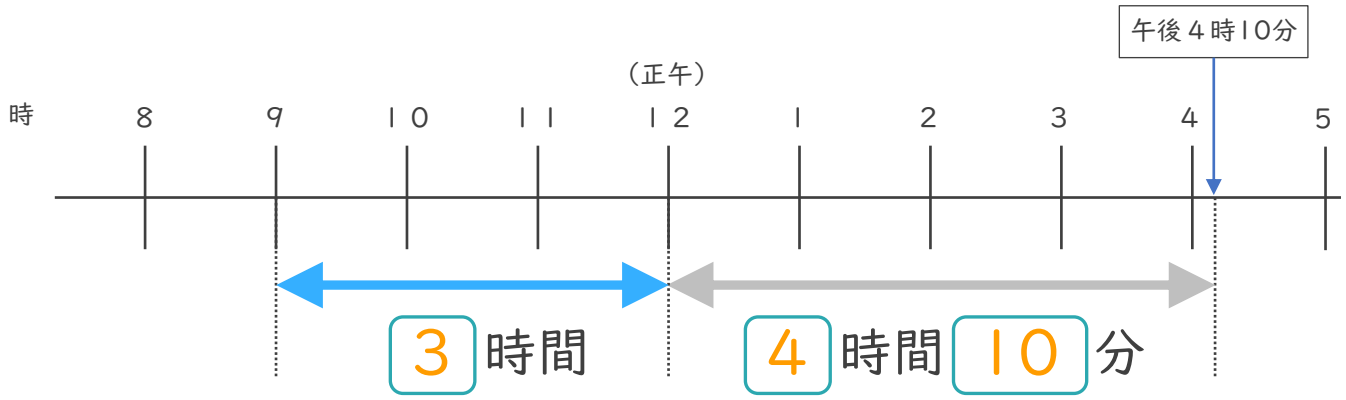

① □にあてはまる数を書きましょう。

② 午前９時から午後４時10分までの時間は何時間何分ですか。

答え（　７時間１０分　）

2 午前８時から午後１時40分までの時間をもとめます。

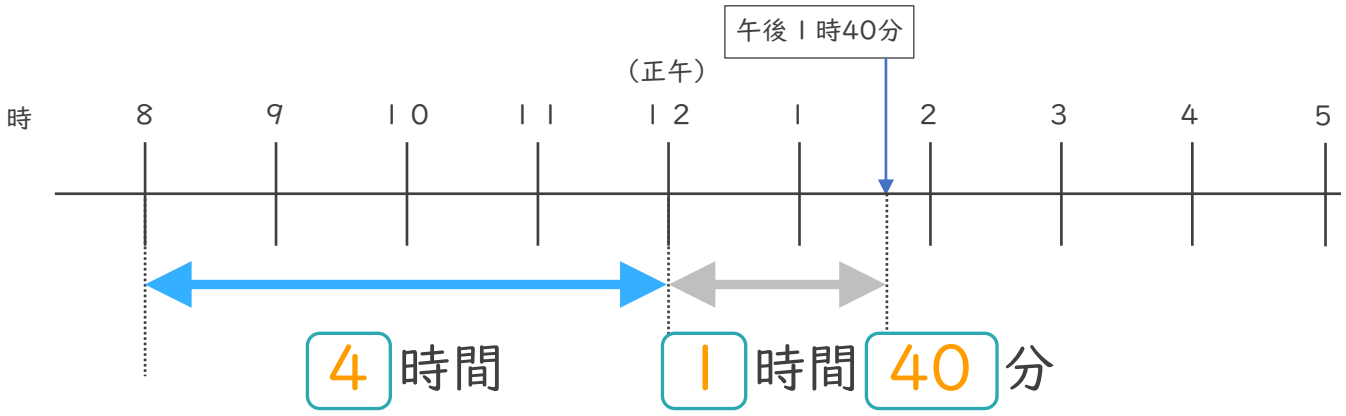

① □にあてはまる数を書きましょう。

② 午前８時から午後１時40分までの時間は何時間何分ですか。

答え（　５時間４０分　）

すらすらぷりんと