時こくと時間のもとめかた 8 9

◎ 正午をはさむ計算

日にち：　　月　　日

名まえ

1 午前10時から午後３時30分までの時間をもとめます。

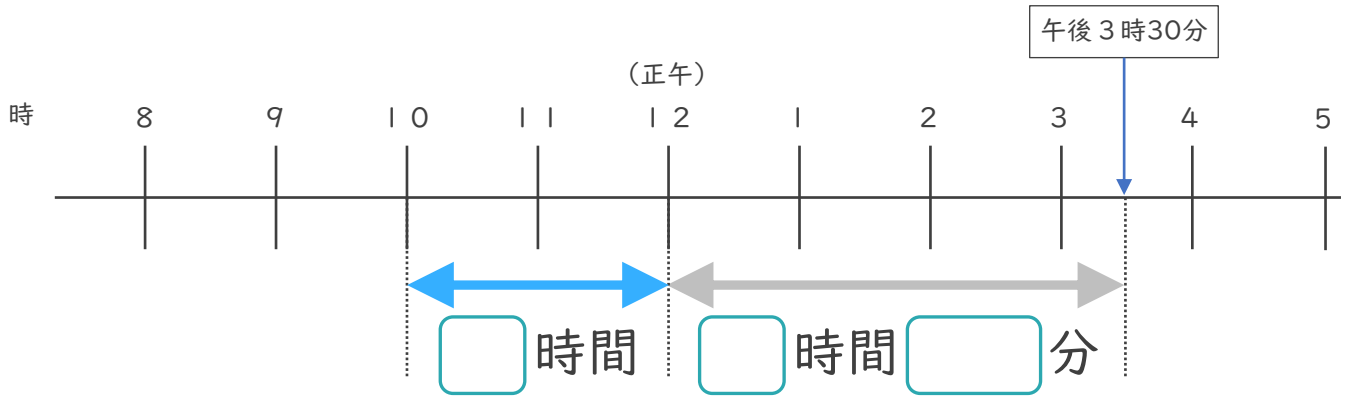

① □にあてはまる数を書きましょう。

② 午前10時から午後３時30分までの時間は何時間何分ですか。

答え（　　）

2 午前９時から午後３時20分までの時間をもとめます。

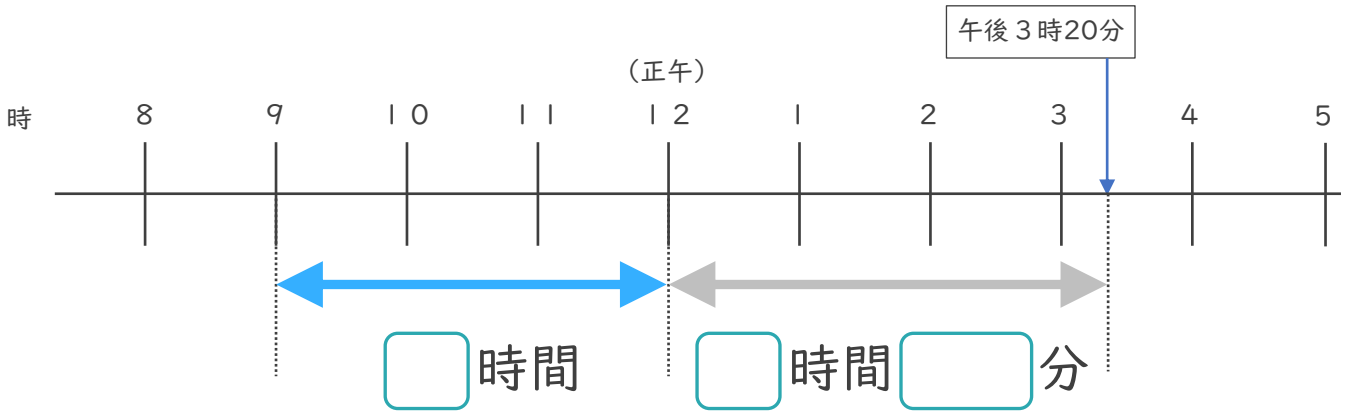

① □にあてはまる数を書きましょう。

② 午前９時から午後３時20分までの時間は何時間何分ですか。

答え（　　）

すらすらぷりんと

時こくと時間のもとめかた 8 9

◎ 正午をはさむ計算

日にち：　　月　　日

名まえ

1 午前10時から午後３時30分までの時間をもとめます。

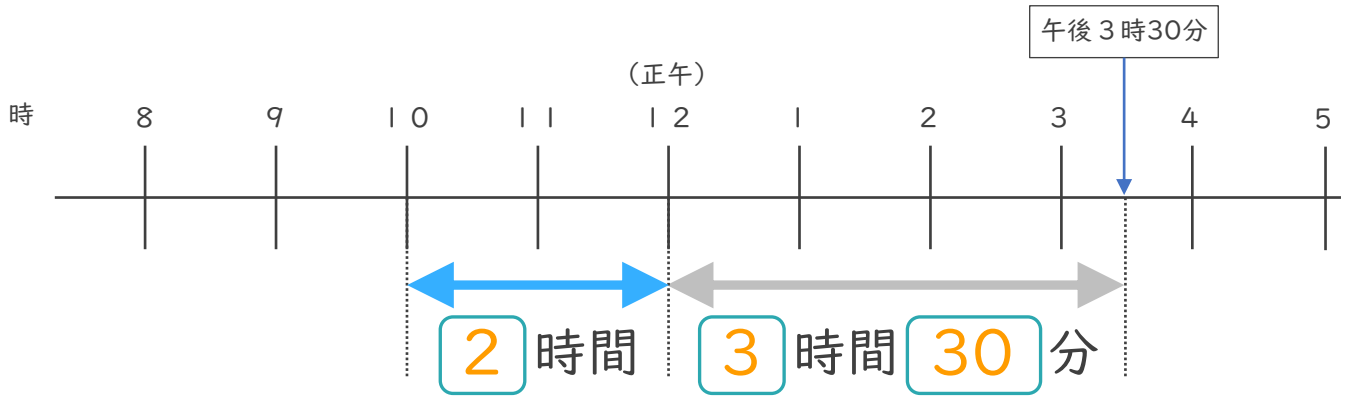

① □にあてはまる数を書きましょう。

② 午前10時から午後３時30分までの時間は何時間何分ですか。

答え（　　５時間３０分　　）

2 午前９時から午後３時20分までの時間をもとめます。

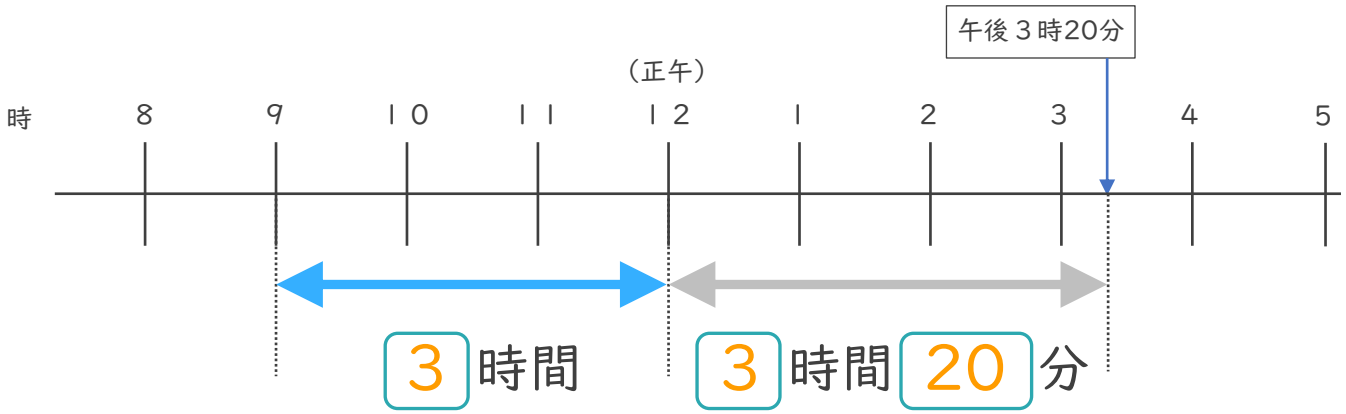

① □にあてはまる数を書きましょう。

② 午前９時から午後３時20分までの時間は何時間何分ですか。

答え（　　６時間２０分　　）

すらすらぷりんと