わり算の筆算 13

◎ 商がたつ位

日にち：　　月　　日

名まえ

1　次のわり算の商は、何の位から たちますか。

（うすい字はなぞりましょう。）

①

7) 6 8 3

［　十　の位　］

②

3) 2 1 9

［　　の位　］

③

5) 6 0 4

［　百　の位　］

2　□には数字が 1 こ入ります。

商が**十の位**からたつのは、□がどんな数字のときですか。

（うすい字はなぞりましょう。）

3) □ 5 4

□ 5
3) 1 5 4

□ 8
3) 2 5 4

1
3) 3 5 4

□が わる数よりも **小さい**数字のときだね！

答え　1　と　2

① 例題

すらすらぷりんと

わり算の筆算 13

◎ 商がたつ位

2

日にち：　　月　　日

名まえ

1 次のわり算の商は、何の位から たちますか。

（うすい字はなぞりましょう。）

①

8) 1 7 4

（　＋　の位　）

②

4) 6 0 2

（　　の位　）

③

6) 7 8 9

（　　の位　）

2 □には数字が 1 こ入ります。

商が**十の位**からたつのは、□がどんな数字のときですか。

3) □ 6 5

□ 5

3) 1 6 5

□ 8

3) 2 6 5

1

3) 3 6 5

□が わる数よりも **小さい**数字のときだね！

答え　　と

すらすらぷりんと

わり算の筆算 13 3

◎ 商がたつ位

日にち：　　月　　日

名まえ

1　次のわり算の商は、何の位から たちますか。

（うすい字はなぞりましょう。）

①

$9\overline{)985}$

（百　の位）

②

$5\overline{)563}$

（　　の位）

③

$7\overline{)562}$

（　　の位）

2　□には数字が１こ入ります。

商が**十の位**からたつのは、□がどんな数字のときですか。

（うすい字はなぞりましょう。）

$2\overline{)\square 76}$

$\boxed{\times}$ 8　　1　　1

$2\overline{)\boxed{1}76}$　　$2\overline{)\boxed{2}76}$　　$2\overline{)\boxed{3}76}$

□が わる数よりも **小さい**数字のときだね！

答え　　1

すらすらぷりんと

わり算の筆算 13 4

◎ 商がたつ位

日にち：　　月　　日

名まえ

1　次のわり算の商は、何の位から たちますか。

（うすい字はなぞりましょう。）

①

$2\overline{)396}$

（　　の位）

②

$6\overline{)103}$

（＋　の位）

③

$8\overline{)673}$

（　　の位）

2 □には数字が１こ入ります。

商が**十の位**からたつのは、□がどんな数字のときですか。

$2\overline{)\square 30}$

$\begin{array}{r} \boxtimes\ 6 \\ 2\overline{)\boxed{1}30} \end{array}$　$\begin{array}{r} 1 \\ 2\overline{)\boxed{2}30} \end{array}$　$\begin{array}{r} 1 \\ 2\overline{)\boxed{3}30} \end{array}$

□が わる数よりも **小さい**数字のときだね！

答え

すらすらぷりんと

わり算の筆算 13

◎ 商がたつ位

5

日にち：　　月　　日

名まえ

1 次のわり算の商は、何の位から たちますか。

（うすい字はなぞりましょう。）

①

8) 7 2 8

［　＋　の位　］

②

4) 5 6 9

［　　の位　］

③

6) 3 3 4

［　　の位　］

2 □には数字が 1 こ入ります。

商が**十の位**からたつのは、□がどんな数字のときですか。

（うすい字はなぞりましょう。）

4) □ 2 3

□が わる数よりも

小さい数字のときだね！

答え　1　と　　と

すらすらぷりんと



わり算の筆算 13

◎ 商がたつ位

6

日にち：　　月　　日

名まえ

1 次のわり算の商は、何の位から たちますか。

①

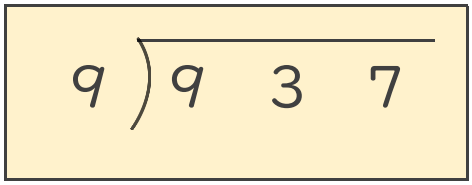

（　　の位）

②

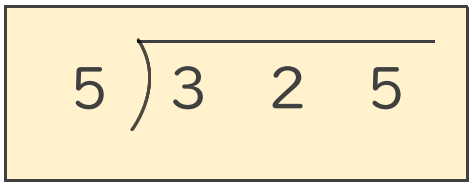

（　　の位）

③

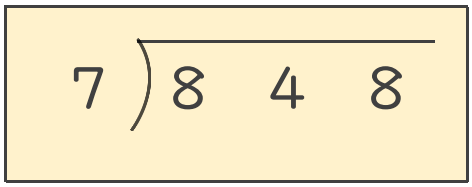

（　　の位）

2 □には数字が 1 こ入ります。

商が**十の位**からたつのは、□がどんな数字のときですか。

（うすい字はなぞりましょう。）

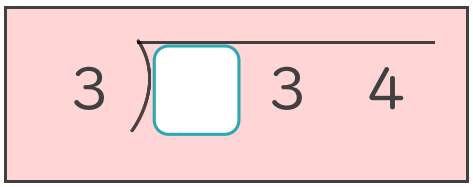

□が わる数よりも

小さい数字のときだね！

答え　　と

すらすらぷりんと

わり算の筆算 13

◎ 商がたつ位

7

日にち：　　月　　日

名まえ

1　次のわり算の商は、何の位から たちますか。

①

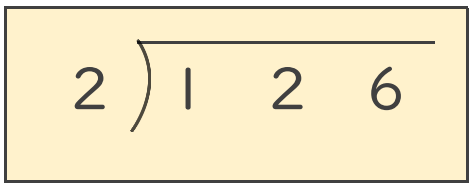

（　　の位）

②

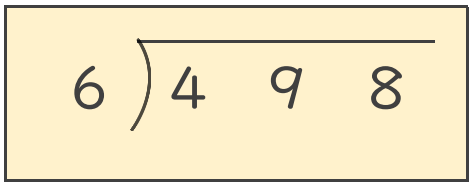

（　　の位）

③

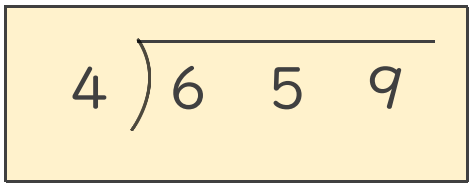

（　　の位）

2　□には数字が 1 こ入ります。
商が**十の位**からたつのは、□がどんな数字のときですか。

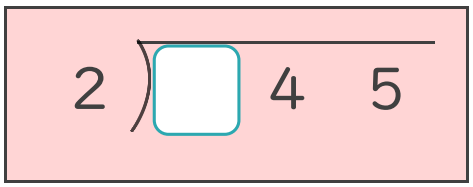

答え

すらすらぷりんと

わり算の筆算 13

◎ 商がたつ位

8

日にち：　　月　　日

名まえ

1　次のわり算の商は、何の位から たちますか。

①

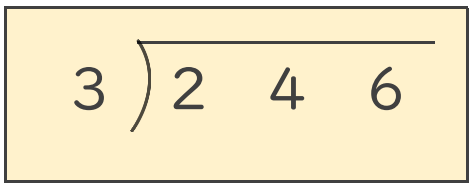

（　　の位）

②

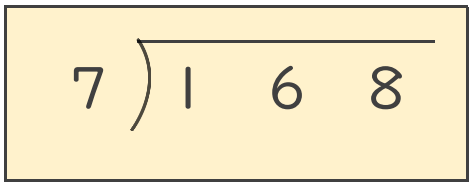

（　　の位）

③

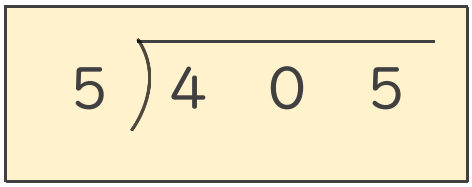

（　　の位）

2　□には数字が1こ入ります。
商が**十の位**からたつのは、□がどんな数字のときですか。

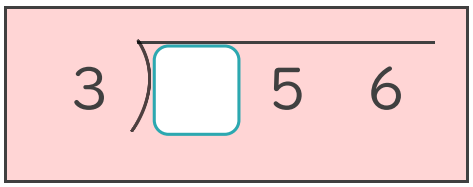

答え　　と

すらすらぷりんと

わり算の筆算 13

◎ 商がたつ位

9

日にち：　　月　　日

名まえ

1　次のわり算の商は、何の位から たちますか。

①

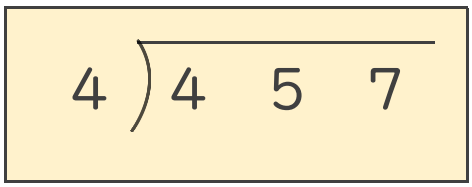

（　　の位）

②

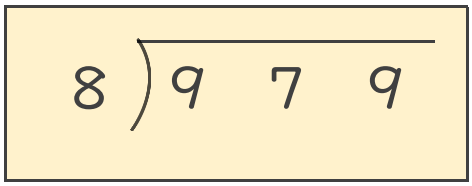

（　　の位）

③

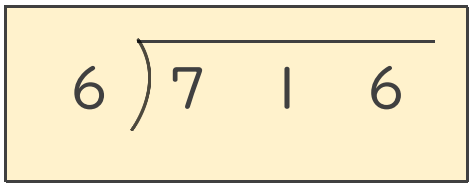

（　　の位）

2　□には数字が1こ入ります。
商が**十の位**からたつのは、□がどんな数字のときですか。

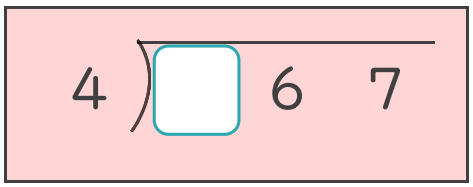

答え　　と　　と

すらすらぷりんと

わり算の筆算 13

◎ 商がたつ位

10

日にち：　　月　　日

名まえ

1 次のわり算の商は、何の位から たちますか。

①

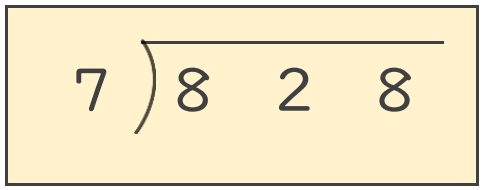

（　　の位）

②

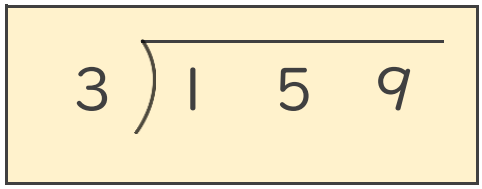

（　　の位）

③

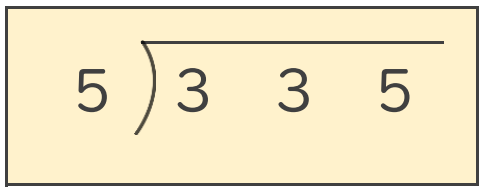

（　　の位）

2 □には数字が1こ入ります。
商が**十の位**からたつのは、□がどんな数字のときですか。

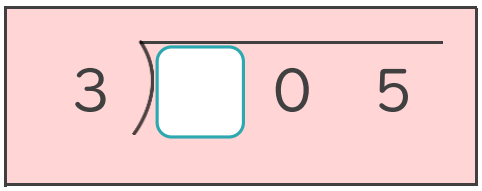

答え　　と

すらすらぷりんと

わり算の筆算 13

◎ 商がたつ位

日にち：　　月　　日

名まえ

1 次のわり算の商は、何の位から たちますか。

①

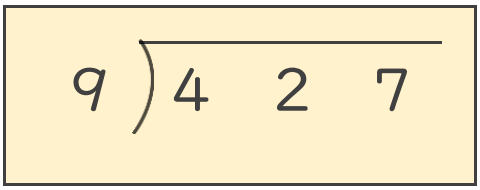

（　　の位）

②

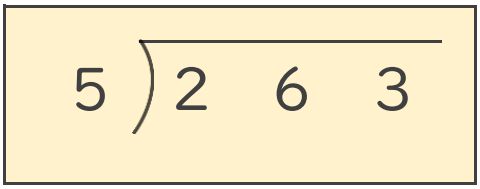

（　　の位）

③

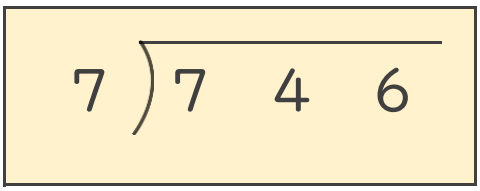

（　　の位）

2 □には数字が1こ入ります。
商が**十の位**からたつのは、□がどんな数字のときですか。

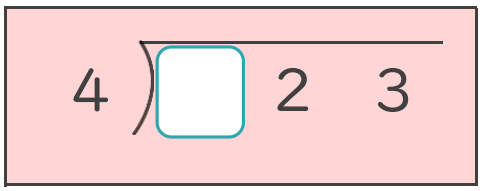

答え　　と　　と

すらすらぷりんと

わり算の筆算 13

◎ 商がたつ位

12

日にち：　　月　　日

名まえ

1 次のわり算の商は、何の位から たちますか。

①

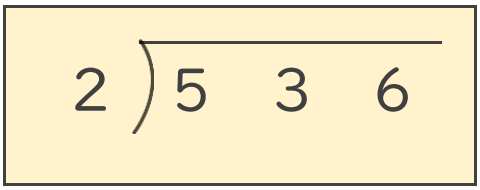

（　　の位）

②

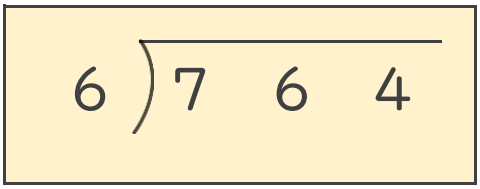

（　　の位）

③

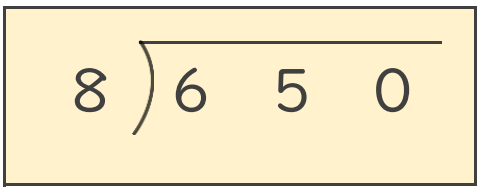

（　　の位）

2 □には数字が1こ入ります。
商が**十の位**からたつのは、□がどんな数字のときですか。

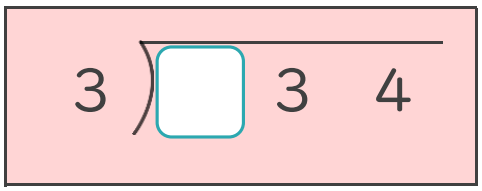

答え　　と

すらすらぷりんと

わり算の筆算 13

◎ 商がたつ位

13

日にち：　　月　　日

名まえ

1 次のわり算の商は、何の位から たちますか。

①

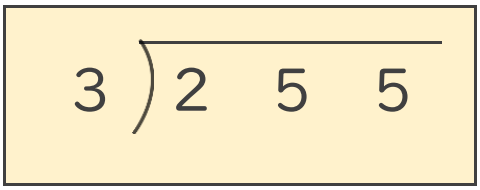

（　　の位）

②

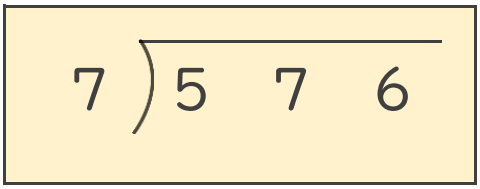

（　　の位）

③

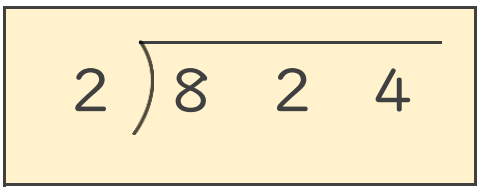

（　　の位）

2 □には数字が1こ入ります。
商が**十の位**からたつのは、□がどんな数字のときですか。

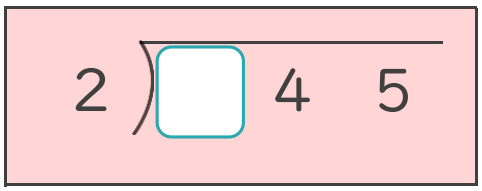

答え

すらすらぷりんと

わり算の筆算 13

◎ 商がたつ位

14

日にち：　　月　　日

名まえ

1 次のわり算の商は、何の位から たちますか。

①

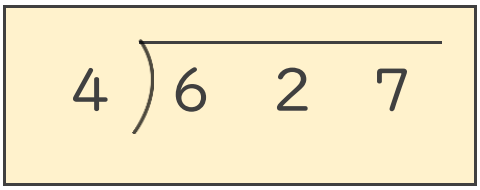

（　　の位）

②

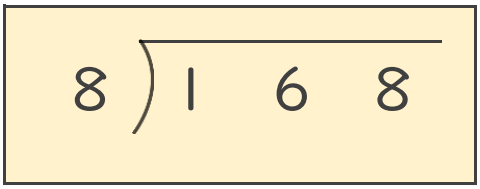

（　　の位）

③

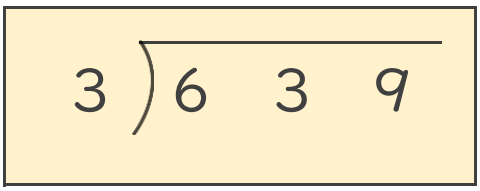

（　　の位）

2 □には数字が1こ入ります。
商が**十の位**からたつのは、□がどんな数字のときですか。

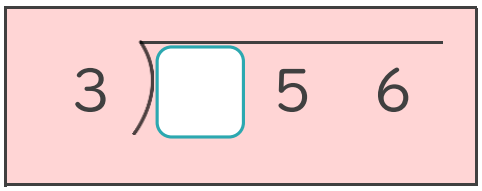

答え　　と

すらすらぷりんと

わり算の筆算 13

◎ 商がたつ位

15

目指せ100点！

てん

名まえ

1 次のわり算の商は、何の位から たちますか。(各25点)

①

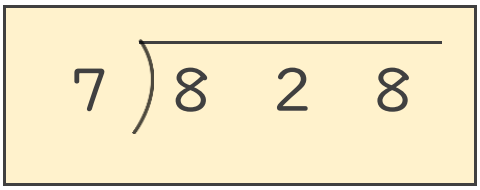

（　　の位）

②

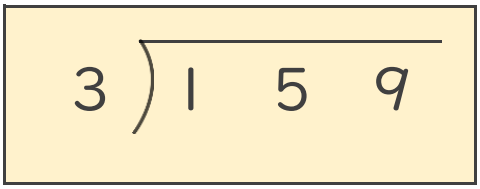

（　　の位）

③

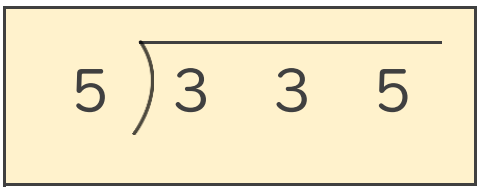

（　　の位）

2 □には数字が1こ入ります。
商が**十の位**からたつのは、□がどんな数字のときですか。(25点)

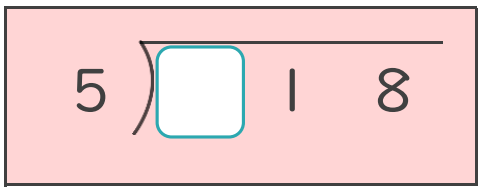

答え　　と　　と　　と

すらすらぷりんと

わり算の筆算 13

◎ 商がたつ位

16

目指せ100点！

てん

名まえ

1 次のわり算の商は、何の位から たちますか。(各25点)

①

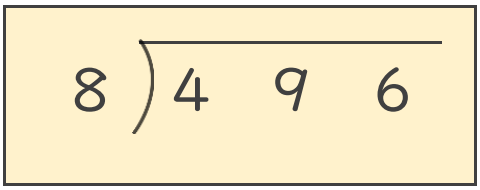

（　　の位）

②

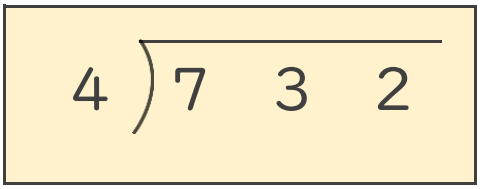

（　　の位）

③

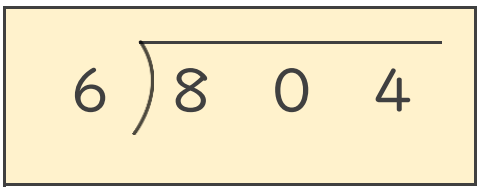

（　　の位）

2 □には数字が1こ入ります。
商が**十の位**からたつのは、□がどんな数字のときですか。(25点)

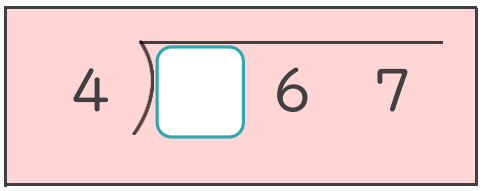

答え　　と　　と

すらすらぷりんと

わり算の筆算 13

◎ 商がたつ位

日にち：　　月　　日

名まえ

1　次のわり算の商は、何の位から たちますか。

（うすい字はなぞりましょう。）

①

7) 6 8 3

［　十　の位　］

②

3) 2 1 9

［　十　の位　］

③

5) 6 0 4

［　百　の位　］

2　□には数字が 1 こ入ります。

商が**十の位**からたつのは、□がどんな数字のときですか。

（うすい字はなぞりましょう。）

3) □ 5 4

□ 5
3) 1 5 4

□ 8
3) 2 5 4

1
3) 3 5 4

□が わる数よりも **小さい**数字のときだね！

答え　1　と　2

① 例題　答え

すらすらぷりんと

わり算の筆算 13 2

◎ 商がたつ位

日にち：　　月　　日

名まえ

1　次のわり算の商は、何の位から たちますか。

（うすい字はなぞりましょう。）

①

$8\overline{)174}$

（十　の位）

②

$4\overline{)602}$

（百　の位）

③

$6\overline{)789}$

（百　の位）

2 □には数字が１こ入ります。

商が**十の位**からたつのは、□がどんな数字のときですか。

（うすい字はなぞりましょう。）

$3\overline{)\square 65}$

$\begin{array}{r} \boxed{\times}\ 5 \\ 3\overline{)\boxed{1}65} \end{array}$　$\begin{array}{r} \boxed{\times}\ 8 \\ 3\overline{)\boxed{2}65} \end{array}$　$\begin{array}{r} 1 \\ 3\overline{)\boxed{3}65} \end{array}$

□が わる数よりも **小さい**数字のときだね！

答え　1　と　2

すらすらぷりんと

わり算の筆算 13

◎ 商がたつ位

3

日にち：　　月　　日

名まえ

1 次のわり算の商は、何の位から たちますか。

（うすい字はなぞりましょう。）

①

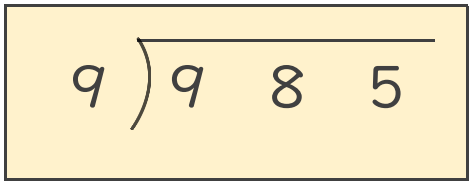

（百　の位）

②

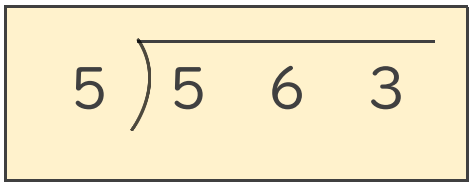

（百　の位）

③

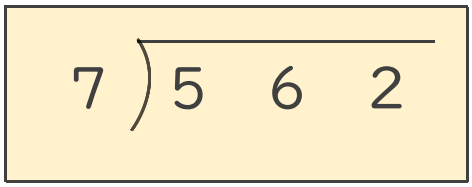

（十　の位）

2 □には数字が 1 こ入ります。

商が**十の位**からたつのは、□がどんな数字のときですか。

（うすい字はなぞりましょう。）

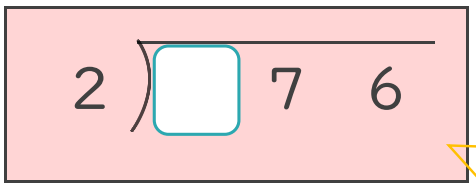

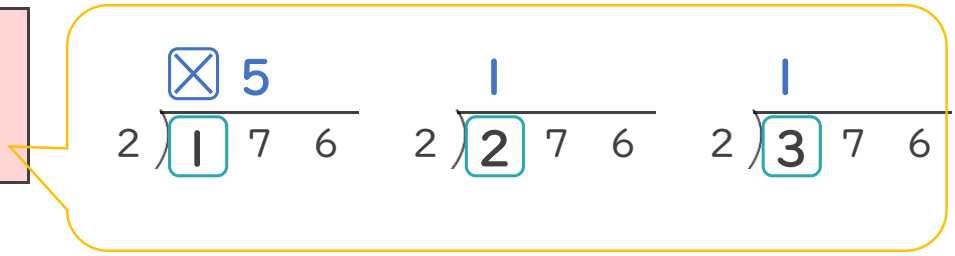

□がわ る数よりも **小さい**数字のときだね！

答え　1

すらすらぷりんと

わり算の筆算 13 4

◎ 商がたつ位

日にち：　　月　　日

名まえ

1　次のわり算の商は、何の位から たちますか。

（うすい字はなぞりましょう。）

①

$2\overline{)396}$

（百　の位）

②

$6\overline{)103}$

（十　の位）

③

$8\overline{)673}$

（十　の位）

2 □には数字が１こ入ります。

商が**十の位**からたつのは、□がどんな数字のときですか。

$2\overline{)\square\ 30}$

$\boxed{\times}\ 6$　　1　　1

$2\overline{)\boxed{1}\ 30}$　　$2\overline{)\boxed{2}\ 30}$　　$2\overline{)\boxed{3}\ 30}$

□が わる数よりも **小さい**数字のときだね！

答え　　1

すらすらぷりんと

わり算の筆算 13

◎ 商がたつ位

5

日にち：　　月　　日

名まえ

1　次のわり算の商は、何の位から たちますか。

（うすい字はなぞりましょう。）

①

8) 7　2　8

［　十　の位　］

②

4) 5　6　9

［　百　の位　］

③

6) 3　3　4

［　十　の位　］

2　□には数字が 1 こ入ります。

商が**十の位**からたつのは、□がどんな数字のときですか。

（うすい字はなぞりましょう。）

4) □　2　3

□が わる数よりも

小さい数字のときだね！

答え　1　と　2　と　3

すらすらぷりんと

わり算の筆算 13 6

◎ 商がたつ位

日にち：　　月　　日

名まえ

1　次のわり算の商は、何の位から たちますか。

①

$$9\overline{)9\ 3\ 7}$$

（百　の位）

②

$$5\overline{)3\ 2\ 5}$$

（十　の位）

③

$$7\overline{)8\ 4\ 8}$$

（百　の位）

2　□には数字が１こ入ります。
商が**十の位**からたつのは、□がどんな数字のときですか。
（うすい字はなぞりましょう。）

$$3\overline{)\square\ 3\ 4}$$

□が わる数よりも
小さい数字のときだね！

答え　1　と　2

すらすらぷりんと

わり算の筆算 13

◎ 商がたつ位

7

日にち：　　月　　日

名まえ

1　次のわり算の商は、何の位から たちますか。

①

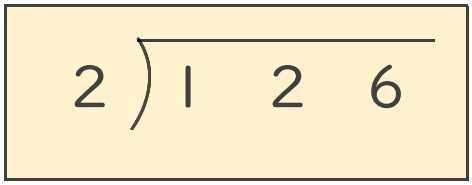

（　十　の位　）

②

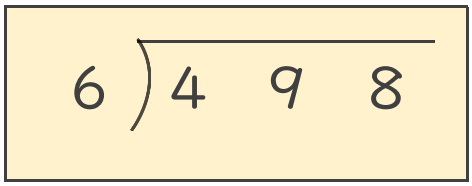

（　十　の位　）

③

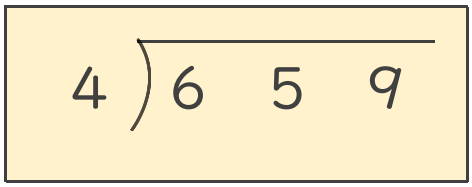

（　百　の位　）

2　□には数字が1こ入ります。
商が**十の位**からたつのは、□がどんな数字のときですか。

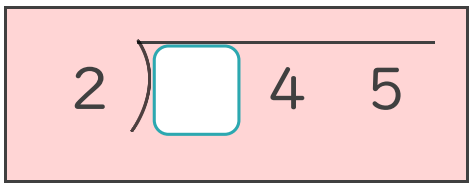

答え　1

すらすらぷりんと

わり算の筆算 13

◎ 商がたつ位

8

日にち：　　月　　日

名まえ

1　次のわり算の商は、何の位から たちますか。

①

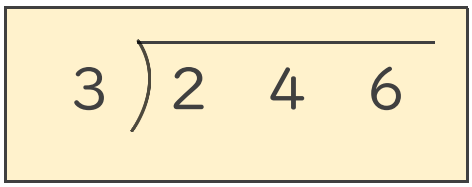

（　＋　の位　）

②

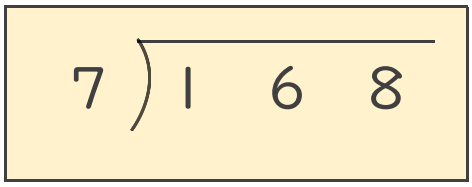

（　＋　の位　）

③

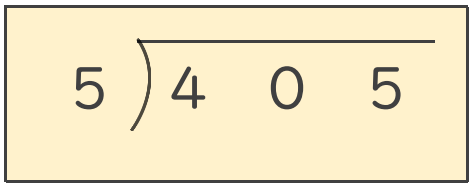

（　＋　の位　）

2　□には数字が1こ入ります。
商が**十の位**からたつのは、□がどんな数字のときですか。

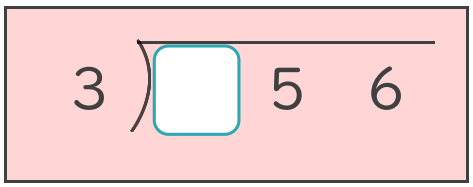

答え　1　と　2

すらすらぷりんと

わり算の筆算 13

◎ 商がたつ位

9

日にち：　　月　　日

名まえ

1　次のわり算の商は、何の位から たちますか。

①

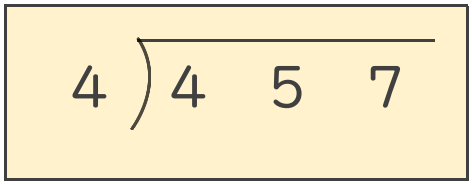

（　百　の位　）

②

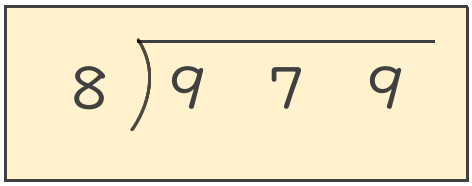

（　百　の位　）

③

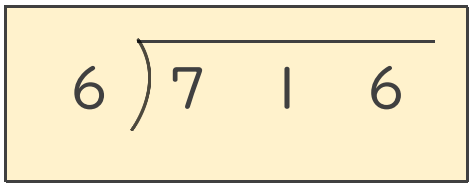

（　百　の位　）

2　□には数字が1こ入ります。

商が**十の位**からたつのは、□がどんな数字のときですか。

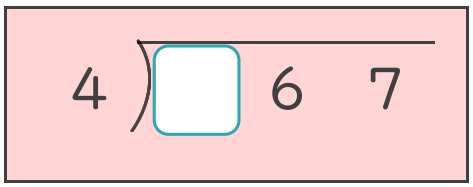

答え　1　と　2　と　3

すらすらぷりんと

わり算の筆算 13

◎ 商がたつ位

10

日にち：　　月　　日

名まえ

1 次のわり算の商は、何の位から たちますか。

①

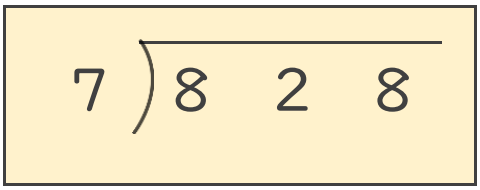

（ 百 の位 ）

②

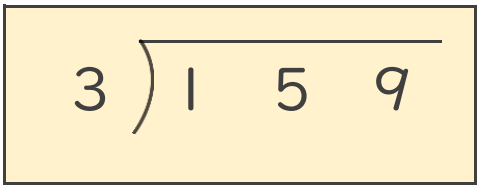

（ 十 の位 ）

③

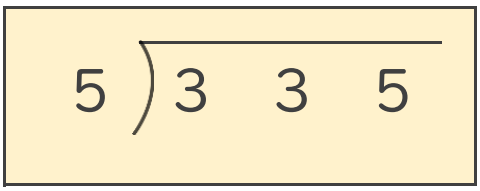

（ 十 の位 ）

2 □には数字が1こ入ります。
商が**十の位**からたつのは、□がどんな数字のときですか。

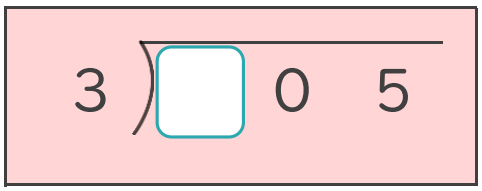

答え　1 と 2

すらすらぷりんと

わり算の筆算 13

◎ 商がたつ位

日にち：　　月　　日

名まえ

1 次のわり算の商は、何の位から たちますか。

①

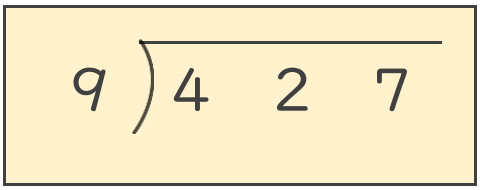

（　十　の位　）

②

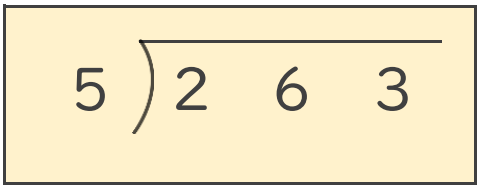

（　十　の位　）

③

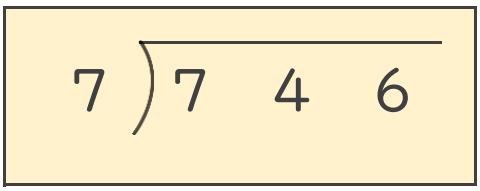

（　百　の位　）

2 □には数字が1こ入ります。
商が**十の位**からたつのは、□がどんな数字のときですか。

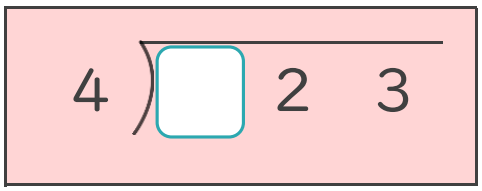

答え　1　と　2　と　3

すらすらぷりんと

わり算の筆算 13

◎ 商がたつ位

12

日にち：　　月　　日

名まえ

1 次のわり算の商は、何の位から たちますか。

①

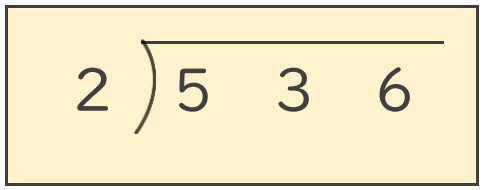

（ 百 の位 ）

②

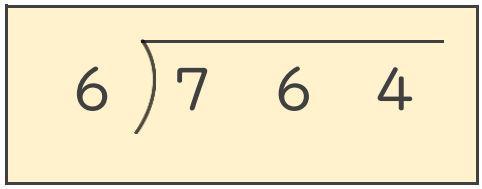

（ 百 の位 ）

③

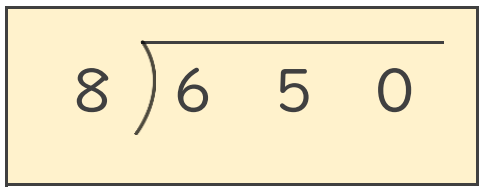

（ 十 の位 ）

2 □には数字が1こ入ります。
商が**十の位**からたつのは、□がどんな数字のときですか。

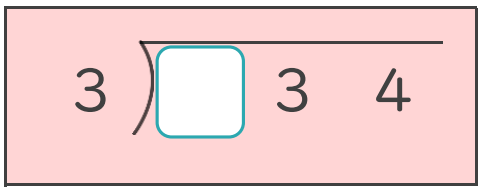

答え　1　と　2

すらすらぷりんと

わり算の筆算 13

◎ 商がたつ位

13

日にち：　　月　　日

名まえ

1 次のわり算の商は、何の位から たちますか。

①

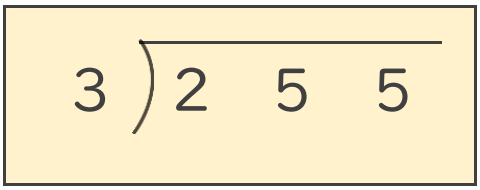

（十　の位）

②

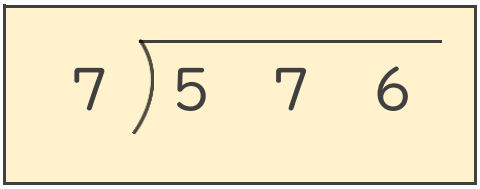

（十　の位）

③

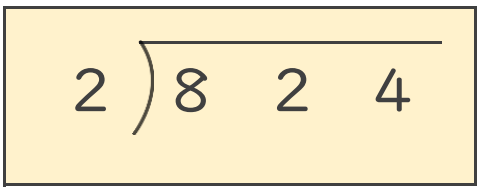

（百　の位）

2 □には数字が1こ入ります。
商が**十の位**からたつのは、□がどんな数字のときですか。

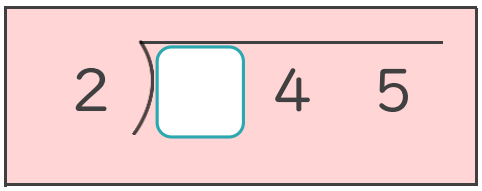

答え　1

すらすらぷりんと

わり算の筆算 13

◎ 商がたつ位

13

日にち：　　月　　日

名まえ

1 次のわり算の商は、何の位から たちますか。

①

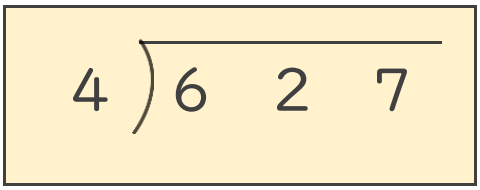

（ 百 の位 ）

②

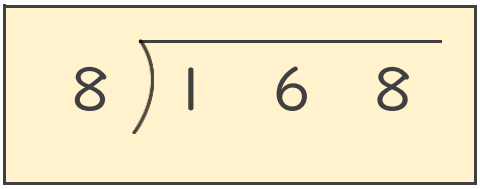

（ 十 の位 ）

③

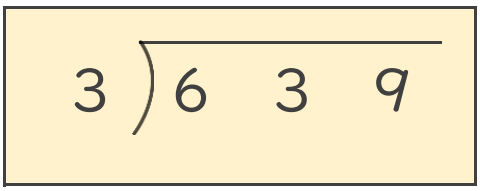

（ 百 の位 ）

2 □には数字が1こ入ります。
商が**十の位**からたつのは、□がどんな数字のときですか。

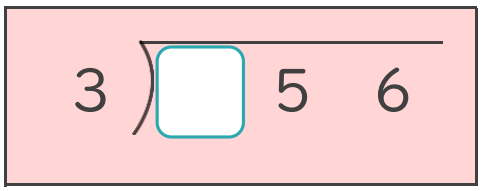

答え　1 と 2

すらすらぷりんと

わり算の筆算 13

15

◎ 商がたつ位

目指せ100点！　てん

名まえ

1　次のわり算の商は、何の位から たちますか。(各25点)

①

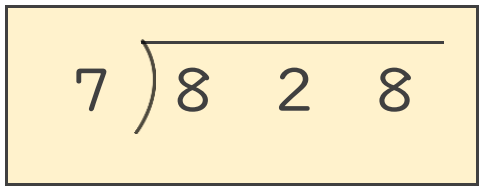

（百　の位）

②

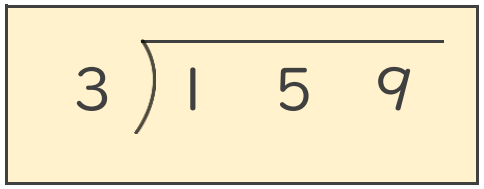

（十　の位）

③

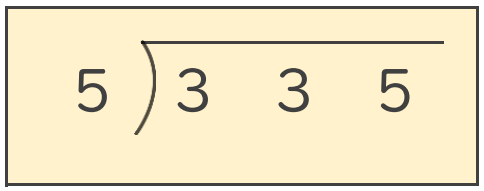

（十　の位）

2　□には数字が1こ入ります。
商が**十の位**からたつのは、□がどんな数字のときですか。(25点)

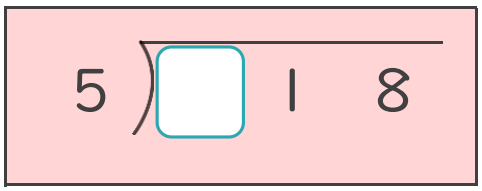

答え　1　と　2　と　3　と　4

すらすらぷりんと

わり算の筆算 13

16

◎ 商がたつ位

目指せ100点！　てん

名まえ

1　次のわり算の商は、何の位から たちますか。(各25点)

①

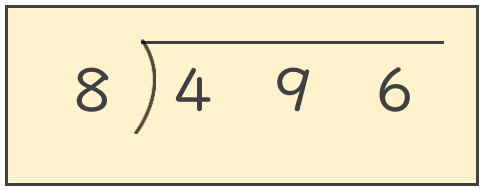

（十　の位）

②

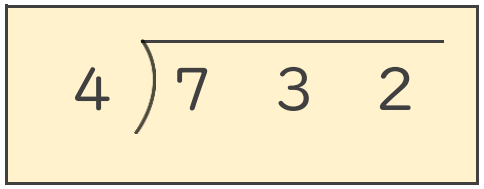

（百　の位）

③

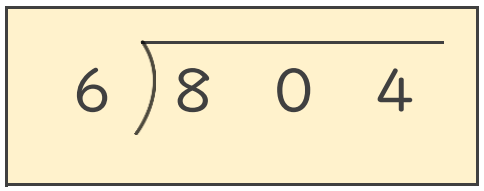

（百　の位）

2　□には数字が1こ入ります。
商が**十の位**からたつのは、□がどんな数字のときですか。(25点)

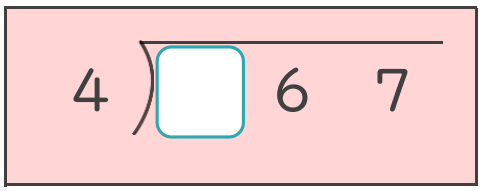

答え　1　と　2　と　3

すらすらぷりんと