直方体や立方体 13

◎ あつ紙から
立方体や直方体を作る

1

日にち：　　月　　日

名まえ

・ 下の図のような形のあつ紙を組み合わせて、
立方体や直方体を作ります。(うすい字はなぞりましょう。)

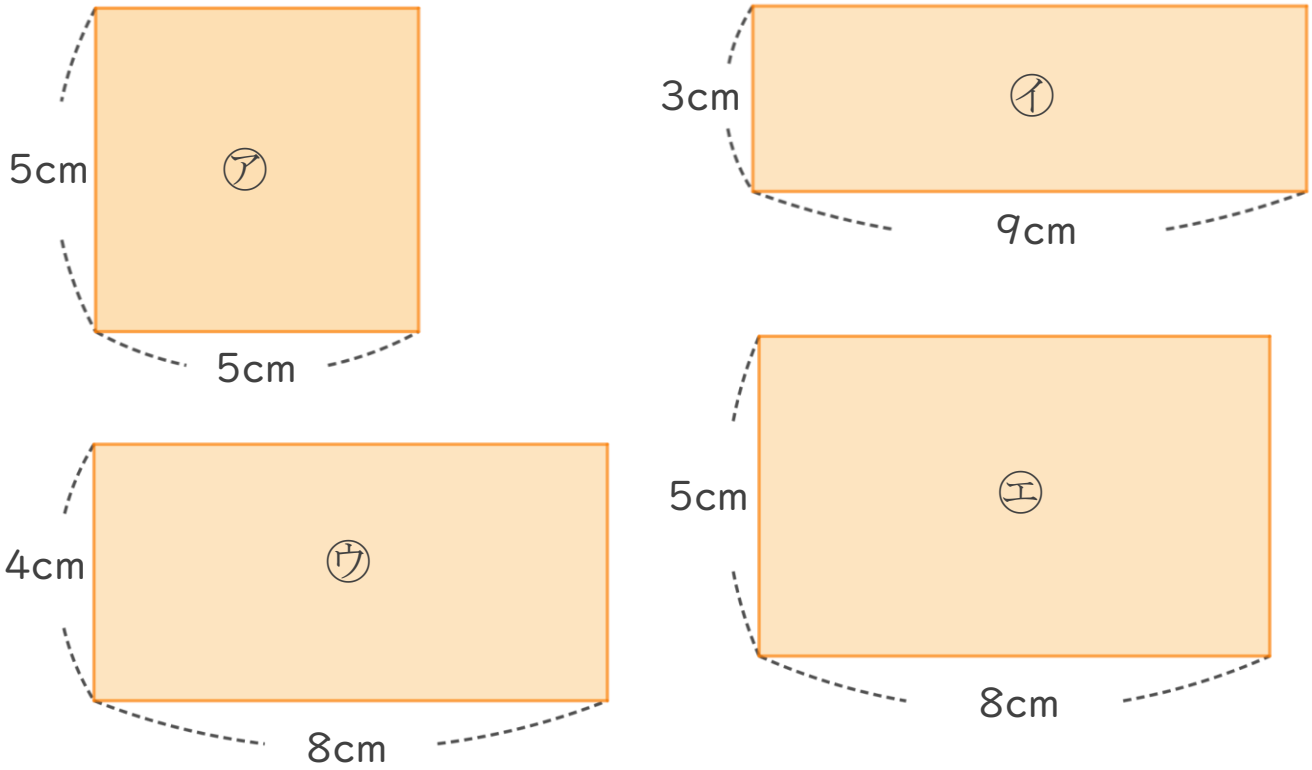

① 立方体を作るとすると、どのあつ紙を何まい使えばよいですか。

立方体は
正方形だけでかこまれた形
のことだよね!

答え　㋐　を　6　まい

② ㋐を2まい使って直方体を作るとすると、
あとは どのあつ紙を何まい使えばよいですか。

㋐の１辺の長さが５cmだから
ぴったりくっつくには…

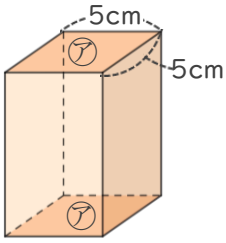

答え　㋓　を　　まい

すらすらぷりんと

① 例題

直方体や立方体 13

◎ あつ紙から
立方体や直方体を作る

1

日にち：　　月　　日

名まえ

・ 下の図のような形のあつ紙を組み合わせて、
立方体や直方体を作ります。(うすい字はなぞりましょう。)

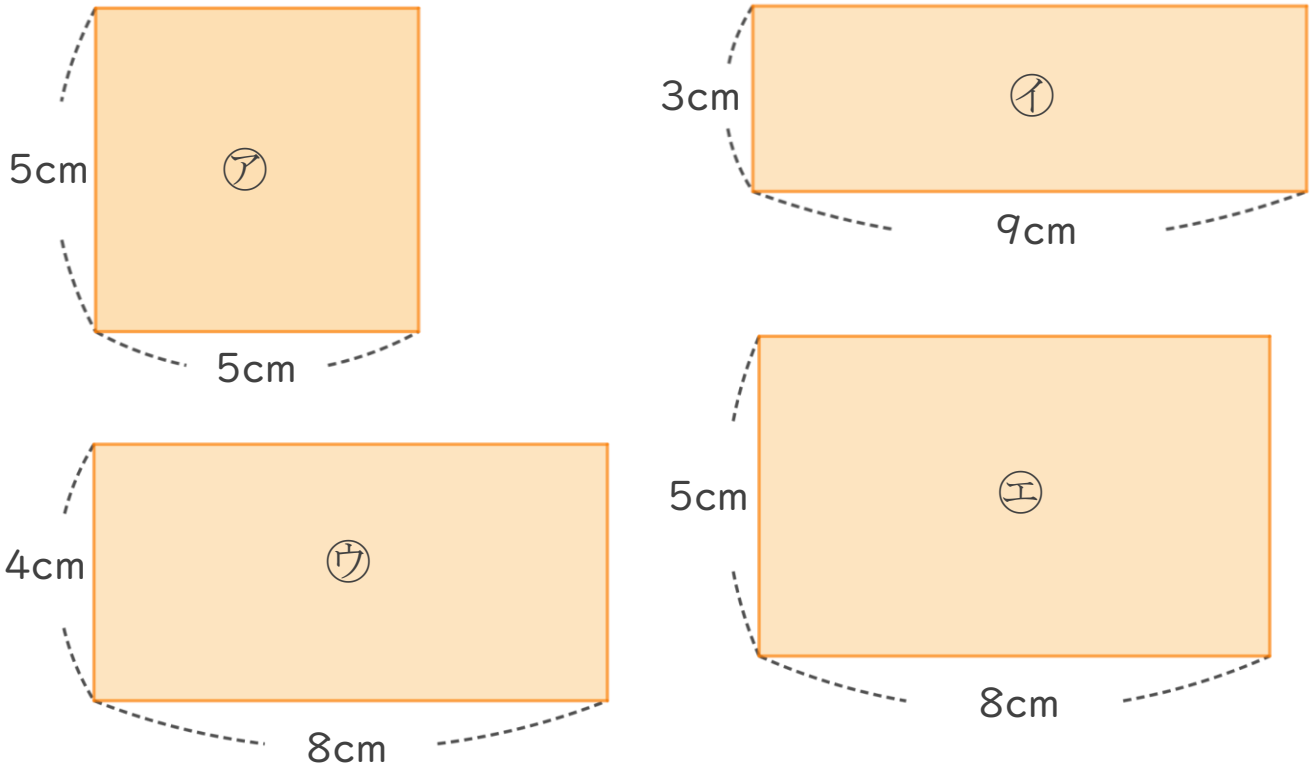

① 立方体を作るとすると、どのあつ紙を何まい使えばよいですか。

立方体は
正方形だけでかこまれた形
のことだよね!

答え　㋐　を　6　まい

② ㋐を2まい使って直方体を作るとすると、
あとは どのあつ紙を何まい使えばよいですか。

㋐の１辺の長さが５cmだから
ぴったりくっつくには…

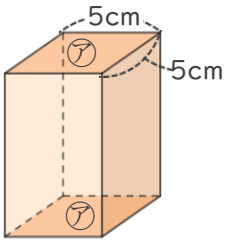

答え　㋓　を　4　まい

① 例題　答え

すらすらぷりんと