角の大きさ 4

◎ 分度器で角度をはかる
（分度器より短い角）

1

日にち：　　月　　日

名まえ

・次の角度をくふうしてはかりましょう。（うすい字はなぞりましょう。）

①

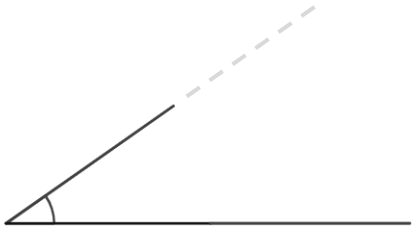

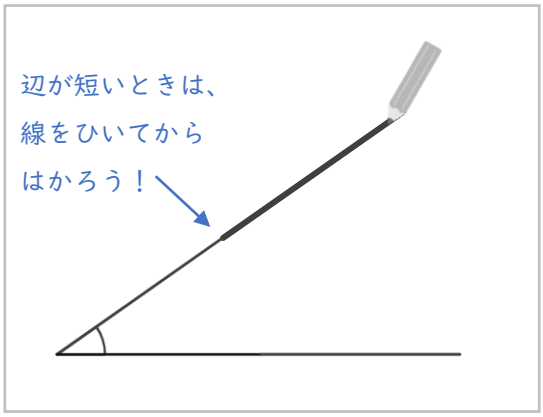

答え（　35°　）

②

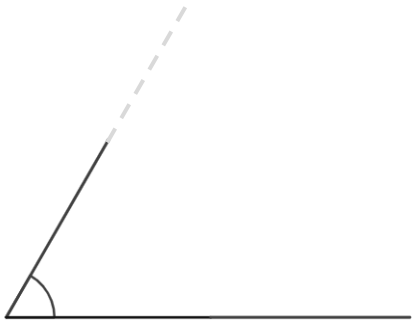

答え（　　）

③

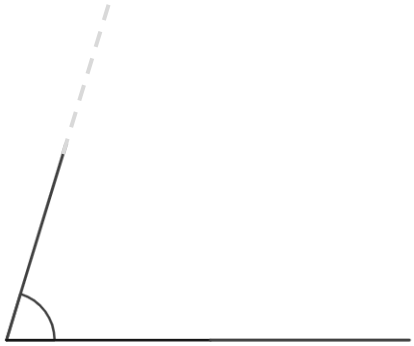

答え（　　）

① 例題

すらすらぷりんと

角の大きさ 4

◎ 分度器で角度をはかる
（分度器より短い角）

1

日にち：　　月　　日

名まえ

・次の角度をくふうしてはかりましょう。（うすい字はなぞりましょう。）

①

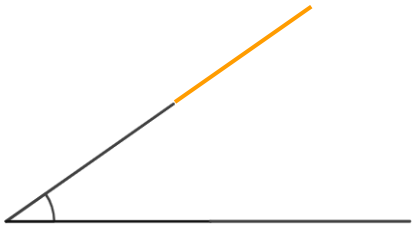

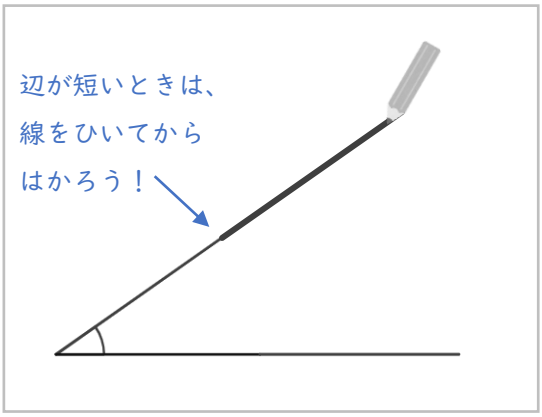

答え（　35°　）

②

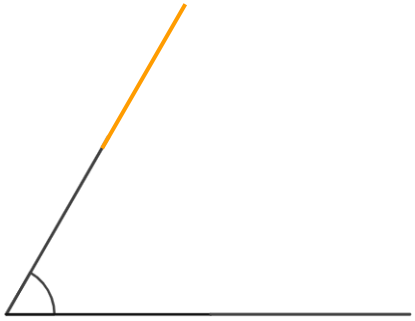

答え（　60°　）

③

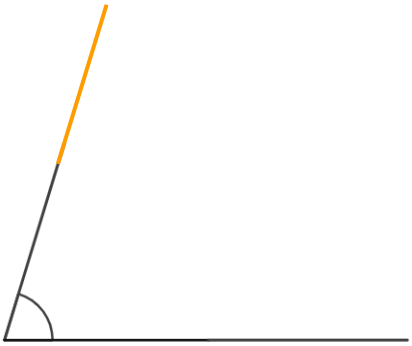

答え（　73°　）

① 例題 答え

すらすらぷりんと