直方体や立方体 6

◎ 展開図の書き方
（辺の長さから書く）

1

日にち：　　月　　日

名まえ

・ 次の立体の展開図を完成させましょう。　（うすい字はなぞりましょう。）

① たて　4cm
横　　1cm
高さ　3cm　の直方体

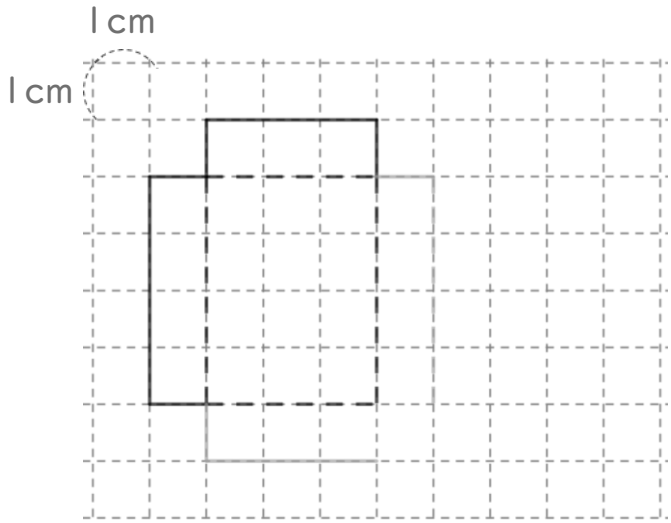

② 1辺 3cm の立方体

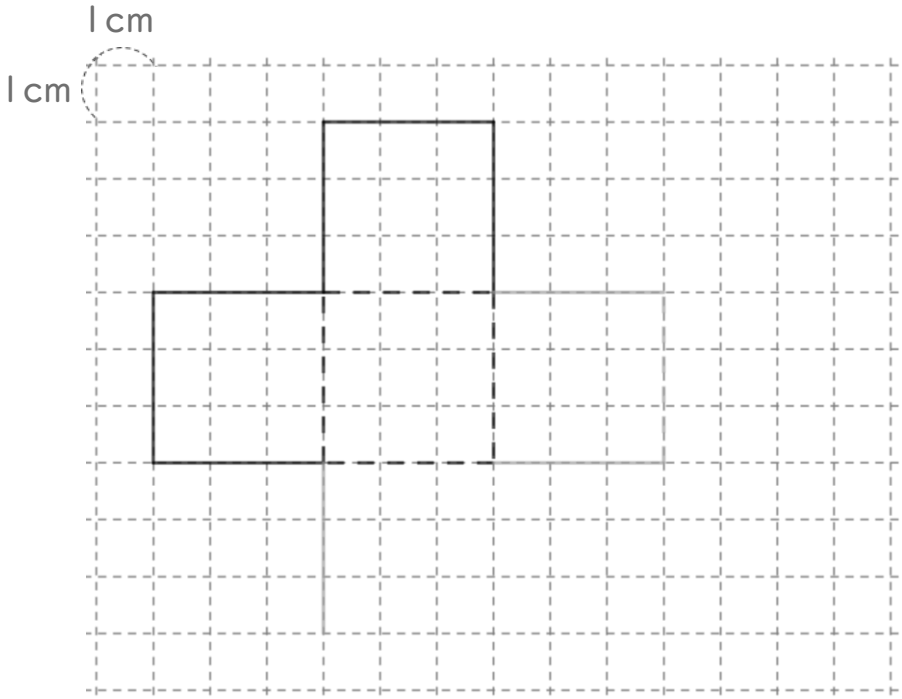

③ たて　2cm
横　　3cm
高さ　1cm　の直方体

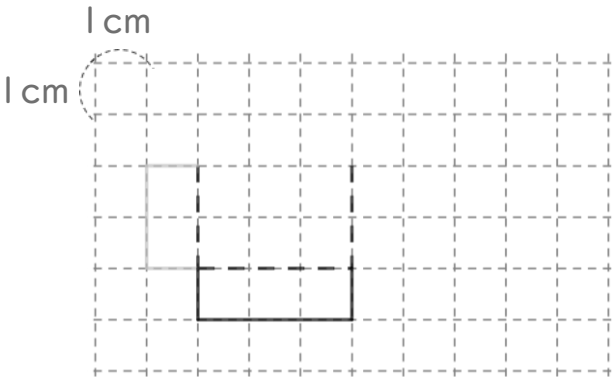

① 例題

すらすらぷりんと

直方体や立方体 6

◎ 展開図の書き方
（辺の長さから書く）

1

日にち：　　月　　日

名まえ

・ 次の立体の展開図を完成させましょう。　（うすい字はなぞりましょう。）

① たて　4cm
横　　1cm
高さ　3cm　の直方体

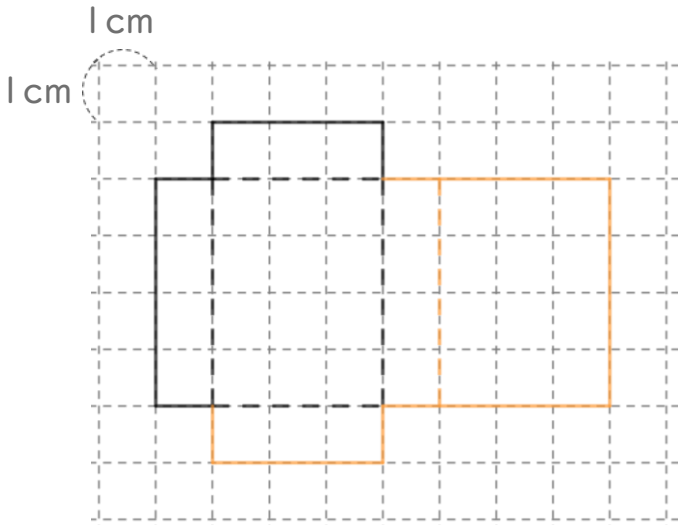

② 1辺 3cm の立方体

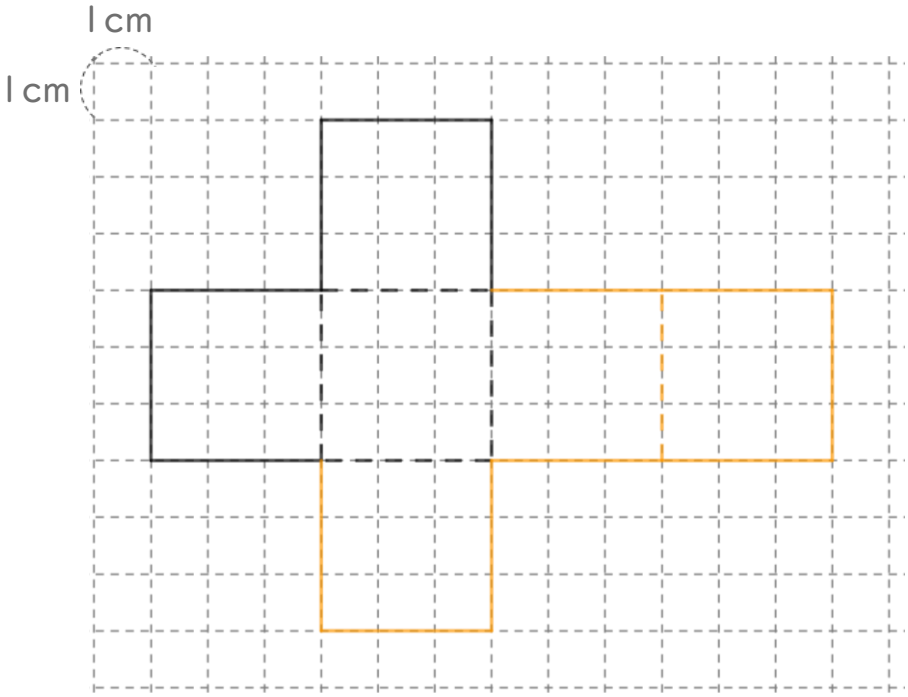

③ たて　2cm
横　　3cm
高さ　1cm　の直方体

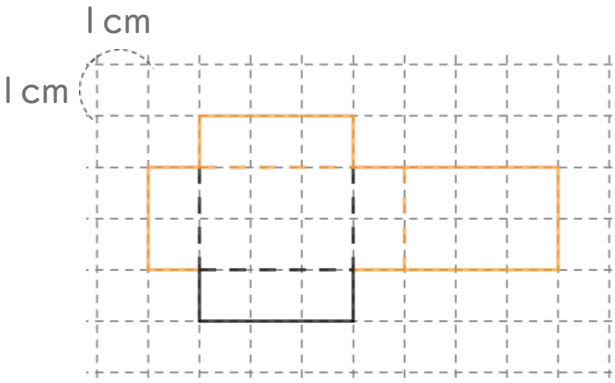

① 例題 答え

すらすらぷりんと