角の大きさ 1

◎ 角の大きさをくらべよう

1

日にち：　　月　　日

名まえ

・次の角の大きさをくらべて、大きい方の記号をかきましょう。
（うすい字はなぞりましょう。）

①

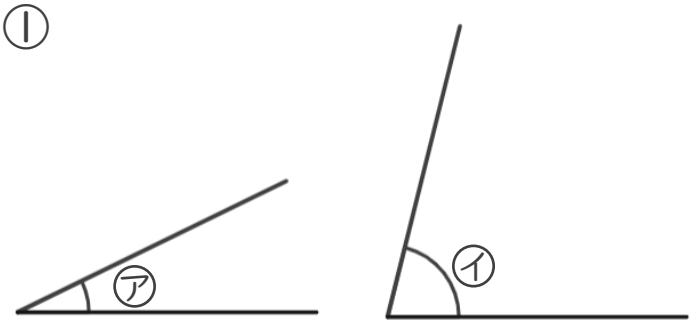

答え（　イ　）

②

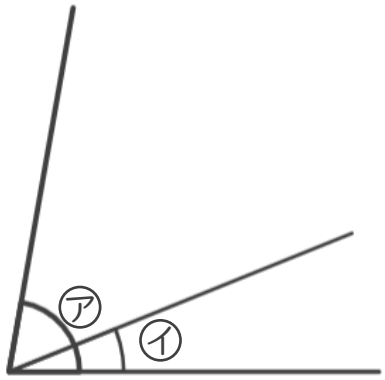

答え（　ア　）

③

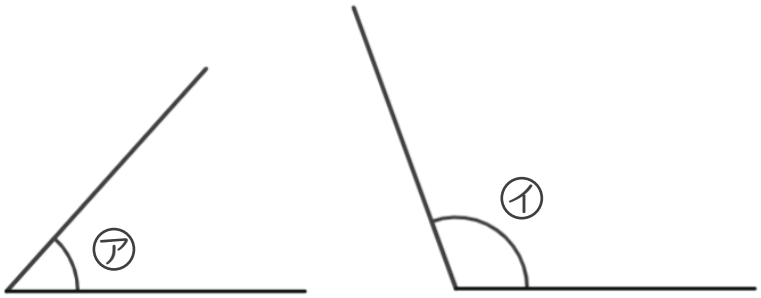

答え（　　）

① 例題

すらすらぷりんと

角の大きさ 1

◎ 角の大きさをくらべよう

1

日にち：　　月　　日

名まえ

・次の角の大きさをくらべて、大きい方の記号をかきましょう。
（うすい字はなぞりましょう。）

①

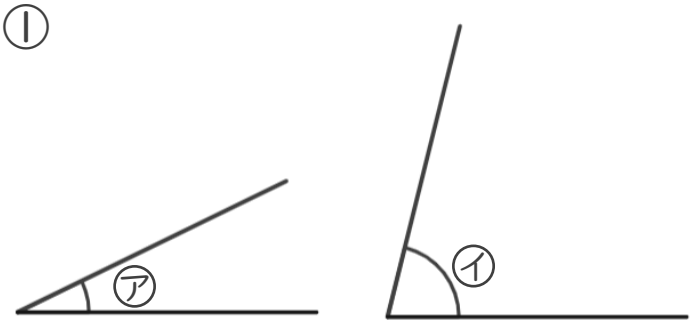

答え（　イ　）

②

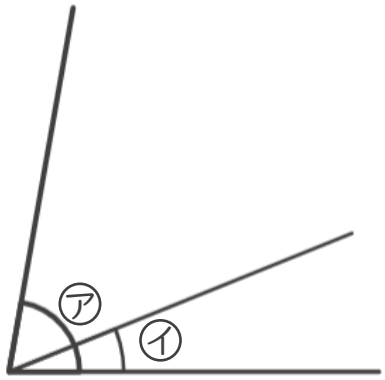

答え（　ア　）

③

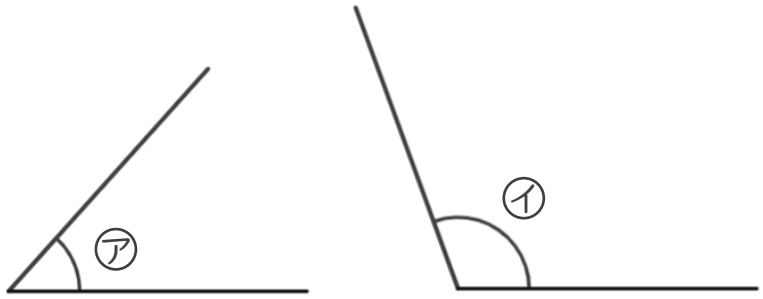

答え（　イ　）

① 例題 答え

すらすらぷりんと