# 直方体や立方体３

◎ 面の数・辺の数・頂点の数

1

日にち：　　月　　日

名まえ

1　直方体、立方体の面の数、辺の数、頂点の数を調べ、
下の表にまとめましょう。(うすい字はなぞりましょう。)

<直方体>

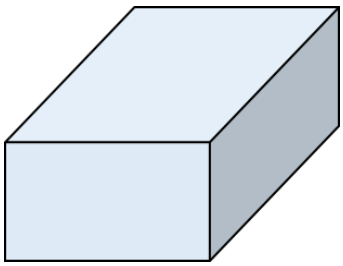

<立方体>

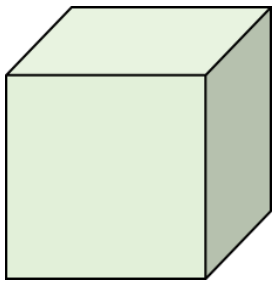

| | 面の数 | 辺の数 | 頂点の数 |
|---|---|---|---|
| 直方体 | 6 | 12 | 8 |
| 立方体 | | | |

2　立方体について答えましょう。(うすい字はなぞりましょう。)

①　面はどんな形をしていますか。

答え　正方形

②　頂点、辺、面の数は、それぞれいくつありますか。

答え　頂点…　8つ，辺…　　，面…　　つ

① 例題

すらすらぷりんと

# 直方体や立方体３

◎ 面の数・辺の数・頂点の数

１

日にち：　　月　　日

名まえ

１　直方体、立方体の面の数、辺の数、頂点の数を調べ、
下の表にまとめましょう。(うすい字はなぞりましょう。)

<直方体>

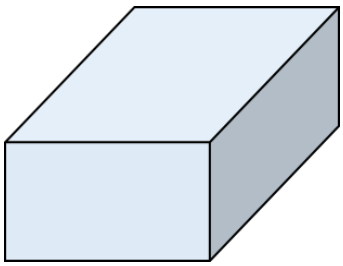

<立方体>

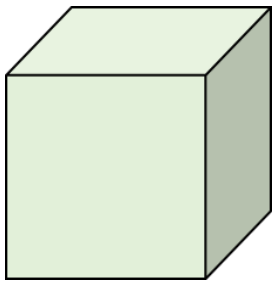

| | 面の数 | 辺の数 | 頂点の数 |
|---|---|---|---|
| 直方体 | 6 | 12 | 8 |
| 立方体 | 6 | 12 | 8 |

２　立方体について答えましょう。(うすい字はなぞりましょう。)

①　面はどんな形をしていますか。

答え　正方形

②　頂点、辺、面の数は、それぞれいくつありますか。

答え　頂点…　8つ，　辺…　12，　面…　6つ

① 例題　答え

すらすらぷりんと