わり算の筆算 22

◎ 2けたでわるわり算とは

1

日にち：　　月　　日

名まえ

・ 色紙が60まいあります。
この色紙を1人に20まいずつ分けると、何人に分けられますか。

（うすい字はなぞりましょう。）

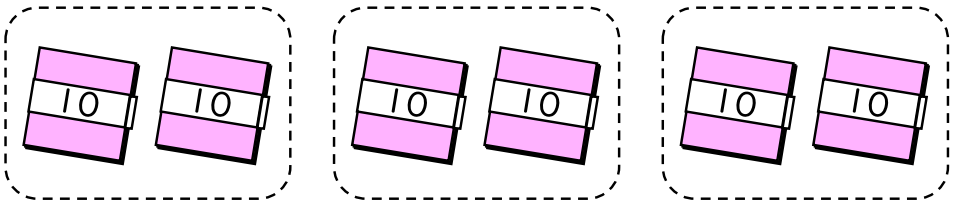

式: 60 ÷ 20 = 3

6 ÷ 2 = 3
60 ÷ 20 = 3
等しい

答え：　　人

・ 色紙が80まいあります。
この色紙を1人に40まいずつ分けると、何人に分けられますか。

（うすい字はなぞりましょう。）

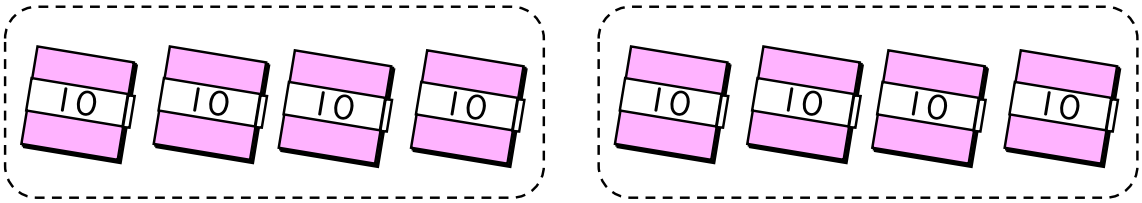

式: 80 ÷ 40 = □

8 ÷ 4 = 2
80 ÷ 40 = ?
等しい

答え：　　人

すらすらぷりんと

わり算の筆算 22

◎ 2けたでわるわり算とは

1

日にち：　　月　　日

名まえ

・ 色紙が60まいあります。
この色紙を1人に20まいずつ分けると、何人に分けられますか。

（うすい字はなぞりましょう。）

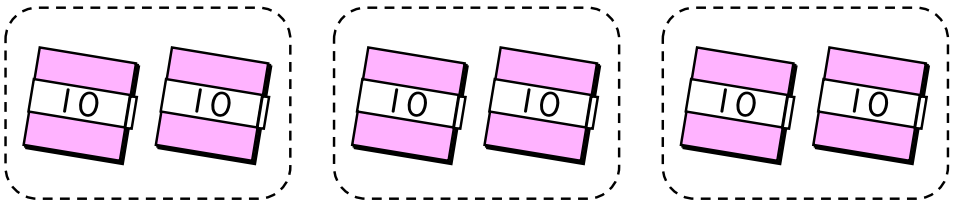

式: 60 ÷ 20 ＝ 3

6 ÷ 2 ＝ 3
60 ÷ 20 ＝ 3
等しい

答え：　3人

・ 色紙が80まいあります。
この色紙を1人に40まいずつ分けると、何人に分けられますか。

（うすい字はなぞりましょう。）

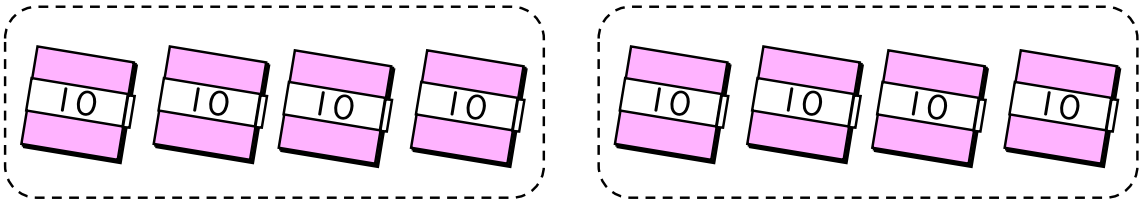

式: 80 ÷ 40 ＝ 2

8 ÷ 4 ＝ 2
80 ÷ 40 ＝ ?
等しい

答え：　2人

すらすらぷりんと