わり算の筆算 1

◎ 80まいの色紙を
4人で分けよう

1

日にち：　　月　　日

名まえ

・ 80まいの色紙を、4人で同じ数ずつ分けます。
1人分は何まいになりますか。(うすい字はなぞりましょう。)

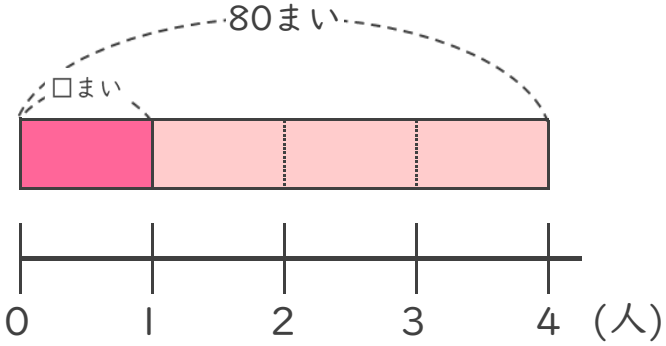

8 ÷ 4 = 2

80 ÷ 4 = ?

式: 80 ÷ 4 = 20

全部のまい数　分ける人数　1人分のまい数

答え：　20まい

・ 60まいのシールを、2人で同じ数ずつ分けます。
1人分は何まいになりますか。(うすい字はなぞりましょう。)

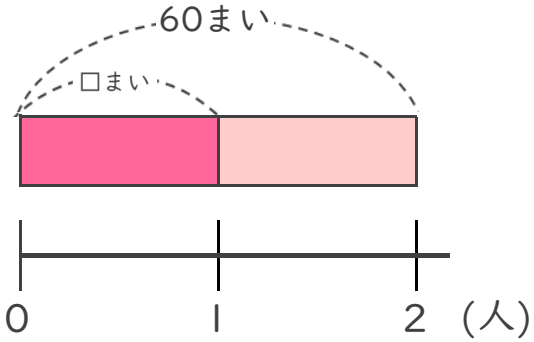

6 ÷ 2 = 3

60 ÷ 2 = ?

式: 60 ÷ 2 = □

全部のまい数　分ける人数　1人分のまい数

答え：　まい

すらすらぷりんと

わり算の筆算 1

◎ ８０まいの色紙を
４人で分けよう

1

日にち：　　月　　日

名まえ

・ 80まいの色紙を、4人で同じ数ずつ分けます。
1人分は何まいになりますか。(うすい字はなぞりましょう。)

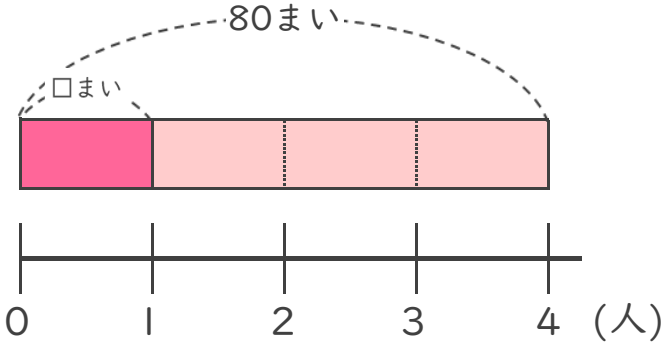

8 ÷ 4 = 2

80 ÷ 4 = ?

式: 80 ÷ 4 = 20

全部のまい数　分ける人数　1人分のまい数

答え：　20まい

・ 60まいのシールを、2人で同じ数ずつ分けます。
1人分は何まいになりますか。(うすい字はなぞりましょう。)

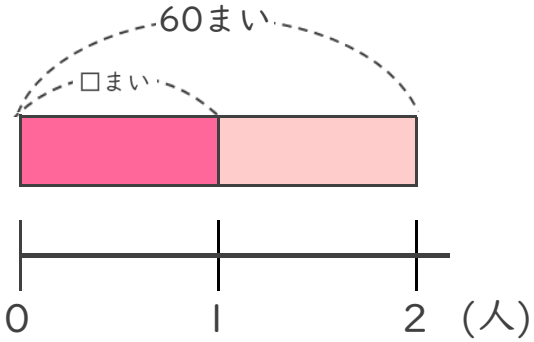

6 ÷ 2 = 3

60 ÷ 2 = ?

式: 60 ÷ 2 = 30

全部のまい数　分ける人数　1人分のまい数

答え：　30まい

すらすらぷりんと