角の大きさ 7

◎ 180° から
引いて求める角度

1

日にち：　　月　　日

名まえ

・ ㋐ の角度を、計算で求めましょう。（うすい字はなぞりましょう。）

①

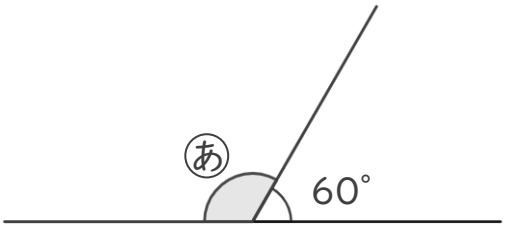

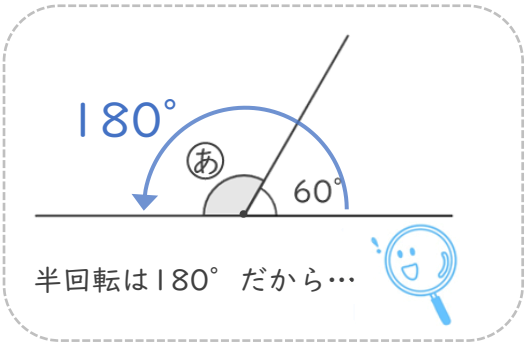

式： 180° − 60° ＝ 120°

答え（　120°　）

②

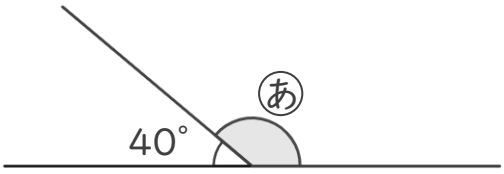

式： 180° − 40° ＝

答え（　　）

③

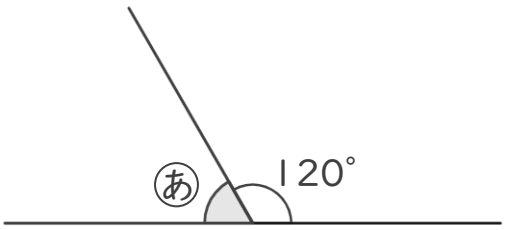

式：

答え（　　）

① 例題

すらすらぷりんと

角の大きさ 7

◎ 180° から
引いて求める角度

1

日にち：　　月　　日

名まえ

・ ㋐ の角度を、計算で求めましょう。（うすい字はなぞりましょう。）

①

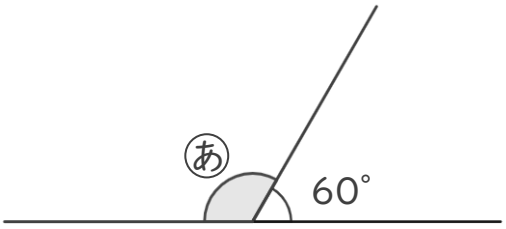

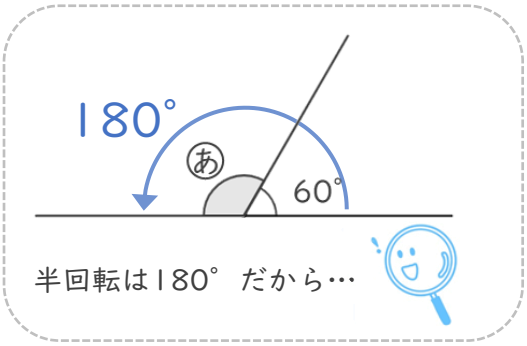

式： 180° − 60° ＝ 120°

答え（　120°　）

②

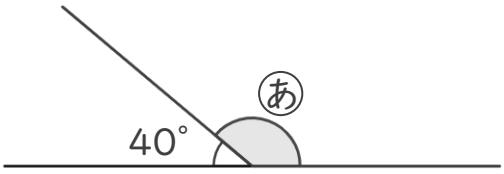

式： 180° − 40° ＝ 140°

答え（　140°　）

③

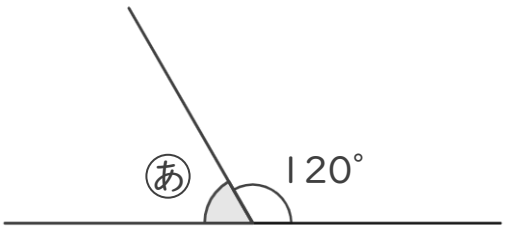

式： 180° − 120° ＝ 60°

答え（　60°　）

すらすらぷりんと