角の大きさ 15

◎ 三角じょうぎを重ねて作る角度

10

日にち：　　月　　日

名まえ

・三角じょうぎでできる ㋐の角度をもとめましょう。

①

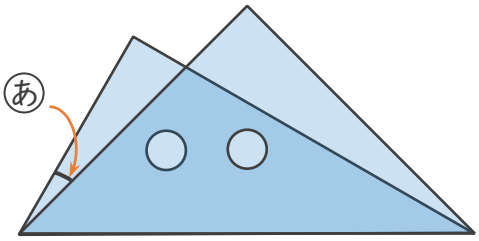

式：

答え（　　）

②

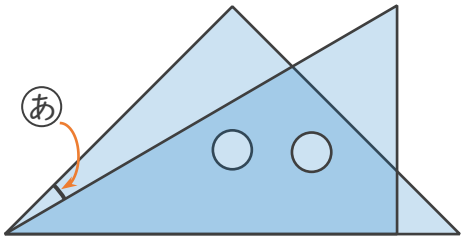

式：

答え（　　）

③

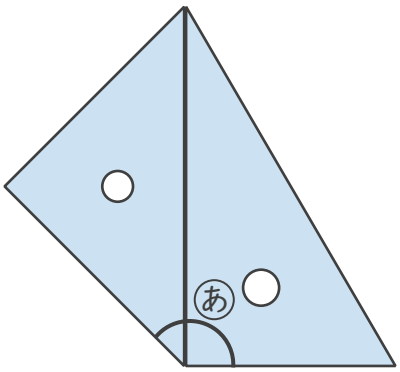

式：

答え（　　）

④

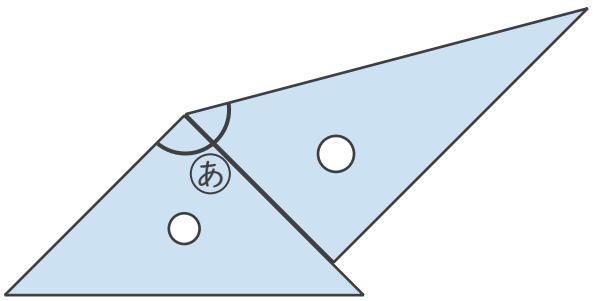

式：

答え（　　）

すらすらぷりんと

角の大きさ 15

◎ 三角じょうぎを重ねて作る角度

10

日にち：　　月　　日

名まえ

・三角じょうぎでできる ㋐の角度をもとめましょう。

①

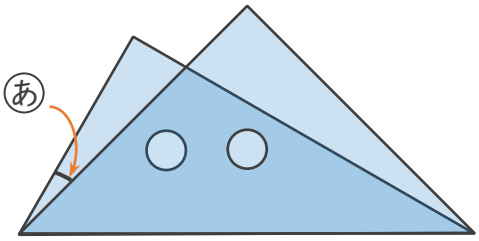

式：60° − 45° ＝ 15°

答え（　15°　）

②

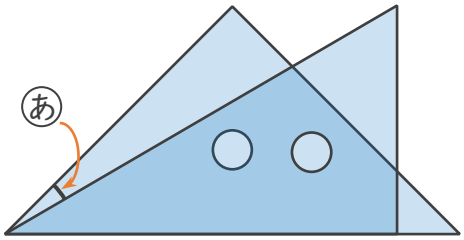

式：45° − 30° ＝ 15°

答え（　15°　）

③

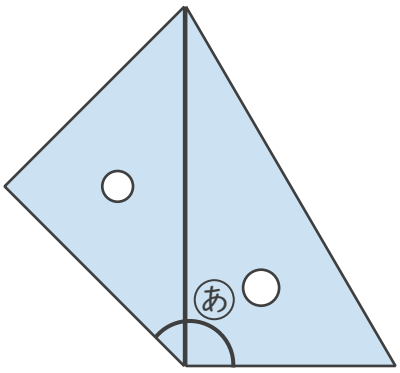

式：45° ＋ 90° ＝ 135°

答え（　135°　）

④

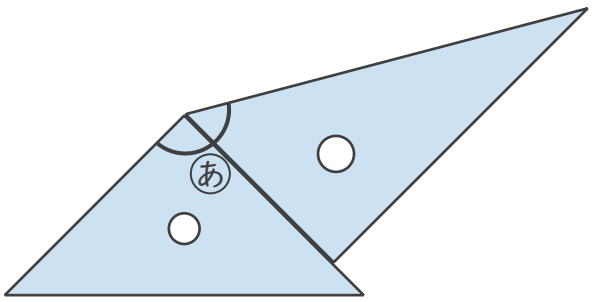

式：90° ＋ 60° ＝ 150°

答え（　150°　）

すらすらぷりんと