角の大きさ 10

◉ 反時計回りの角の作図

10

日にち：　　月　　日

名まえ

1　次の角をかきましょう。

① 50°

② 135°





2　あの角度を、計算で求めましょう。

①

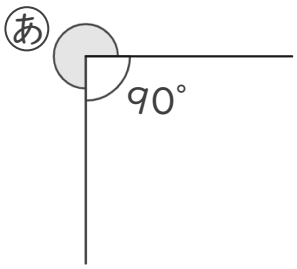

式：　　答え（　　）

②

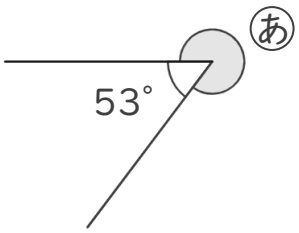

式：　　答え（　　）

すらすらぷりんと

角の大きさ 10

◉ 反時計回りの角の作図

10

日にち：　　月　　日

名まえ

1　次の角をかきましょう。

① 50°

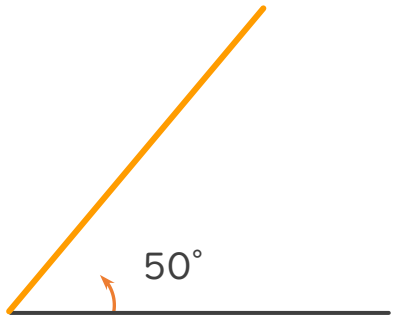

② 135°

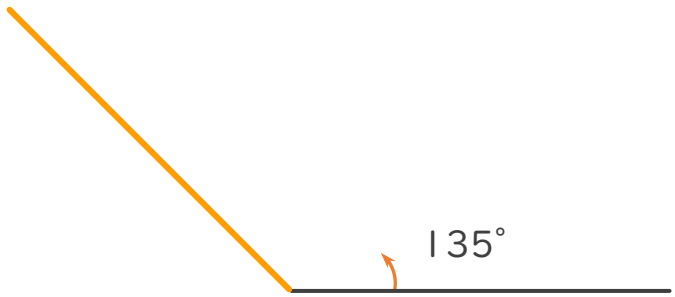

2　あの角度を、計算で求めましょう。

①

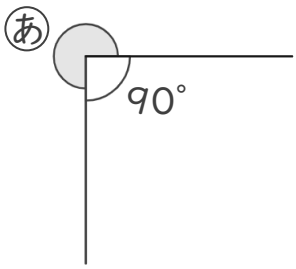

式：360° − 90° ＝ 270°　　答え（　270°　）

②

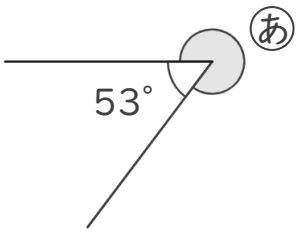

式：360° − 53° ＝ 307°　　答え（　307°　）

すらすらぷりんと