小数の表し方８

◎ 数直線の読みとり
（小数第三位）

10

日にち：　　月　　日

名まえ

1．次の小数を表すめもりに ↑ を書きましょう。

① 0.001　　② 0.005　　③ 0.042　　④ 0.058

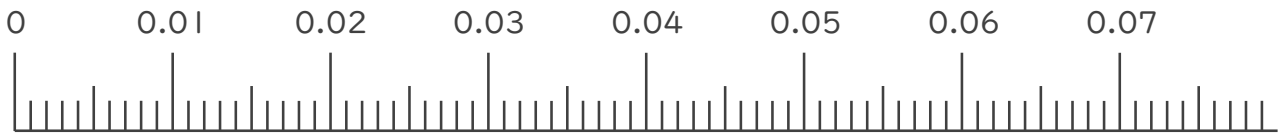

2．次の数直線でア～ウが表す数を答えましょう。

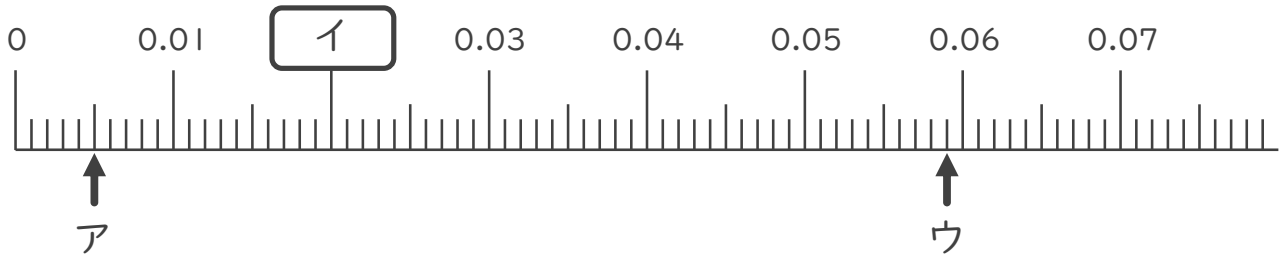

ア＿＿＿＿＿＿　イ＿＿＿＿＿＿　ウ＿＿＿＿＿＿

3．次の問いに答えましょう。

① 0.01m は 0.001m を何こ集めたかさですか？

答え＿＿＿＿＿＿

② 0.014m は 0.001m を何こ集めたかさですか？

答え＿＿＿＿＿＿

すらすらぷりんと

小数の表し方８

◎ 数直線の読みとり（小数第三位）

10

日にち：　　月　　日

名まえ

1．次の小数を表すめもりに ↑ を書きましょう。

① 0.001　　② 0.005　　③ 0.042　　④ 0.058

2．次の数直線でア～ウが表す数を答えましょう。

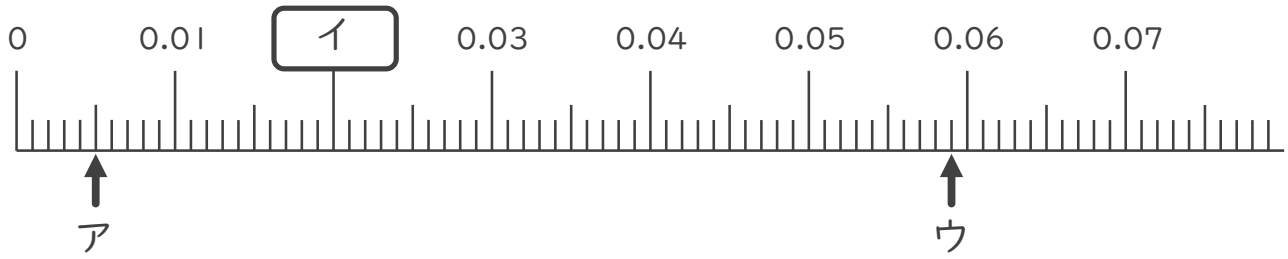

ア　0.005　　イ　0.02　　ウ　0.059

3．次の問いに答えましょう。

① 0.01m は 0.001m を何こ集めたかさですか？

答え　10こ

② 0.014m は 0.001m を何こ集めたかさですか？

答え　14こ

すらすらぷりんと