角の大きさ 11

◉ 時計回りの角の作図

10

日にち：　　月　　日

名まえ

・次の角をかきましょう。

① 50°



② 90°

③ 70°

④ 110°

すらすらぷりんと

角の大きさ 11

◉ 時計回りの角の作図

10

日にち：　　月　　日

名まえ

・点アを頂点として、次の大きさの角をかきましょう。

① 50°

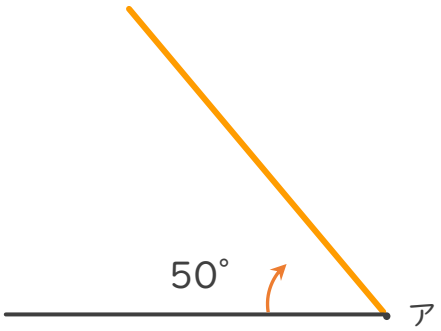

② 90°

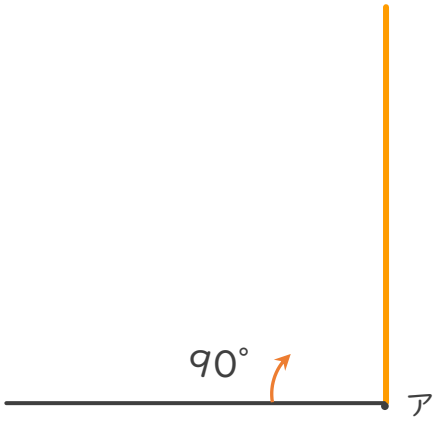

③ 70°

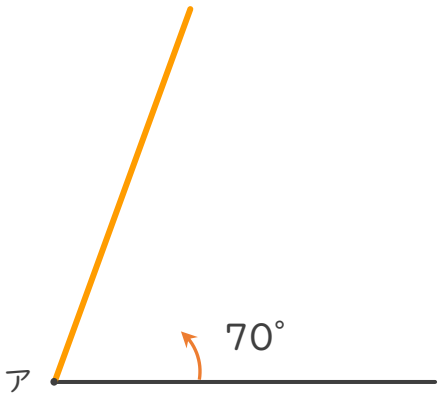

④ 110°

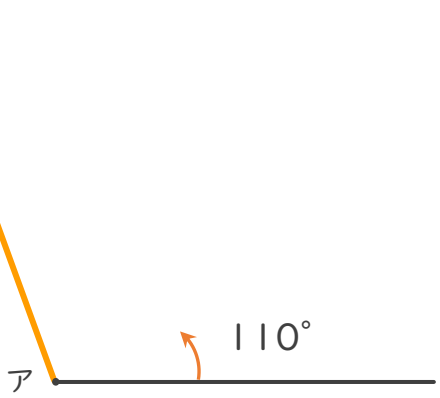

すらすらぷりんと