角の大きさ 7

◎ 180° から
引いて求める角度

10

日にち：　　月　　日

名まえ

・ ㋐ の角度を、計算で求めましょう。

①



式：　　答え（　　）

②

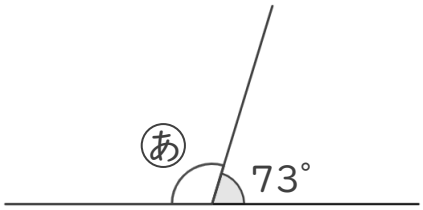

式：　　答え（　　）

③

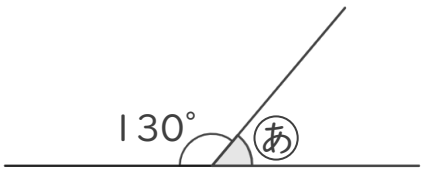

式：　　答え（　　）

④

式：　　答え（　　）

すらすらぷりんと

角の大きさ 7

◎ 180° から
引いて求める角度

10

日にち：　　月　　日

名まえ

・ ㋐ の角度を、計算で求めましょう。

①

式： 180° − 35° ＝ 145°　　答え（ 145° ）

②

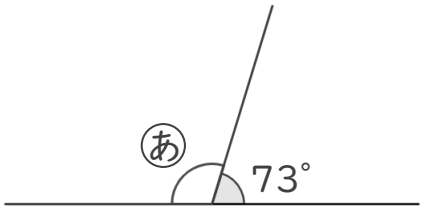

式： 180° − 73° ＝ 107°　　答え（ 107° ）

③

式： 180° − 130° ＝ 50°　　答え（ 50° ）

④

式： 180° − 148° ＝ 32°　　答え（ 32° ）

すらすらぷりんと