角の大きさ 8

◎ 180° に
足して求める角度

10

日にち：　　月　　日

名まえ

・ ㋐ の角度を、計算で求めましょう。

①

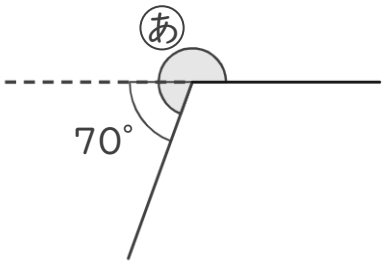

式：　　答え（　　）

②

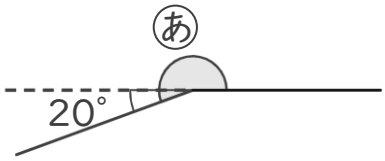

式：　　答え（　　）

③

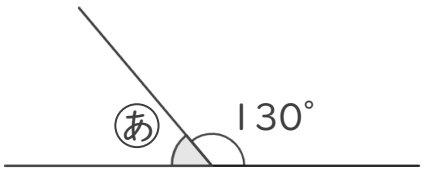

式：　　答え（　　）

④

式：　　答え（　　）

すらすらぷりんと

角の大きさ 8

◎ 180° に足して求める角度

10

日にち：　　月　　日

名まえ

・ ㋐ の角度を、計算で求めましょう。

①

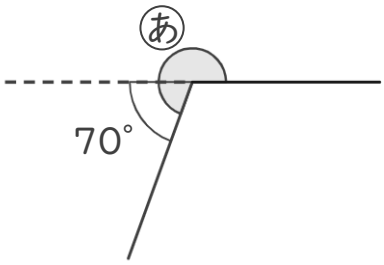

式： 180°＋ 70°＝ 250°　　答え（ 250° ）

②

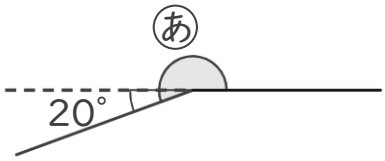

式： 180°＋ 20° ＝ 200°　　答え（ 200° ）

③

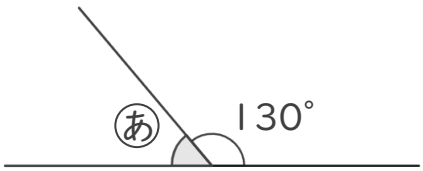

式： 180°－ 130° ＝ 50°　　答え（ 50° ）

④

式： 180°－ 148° ＝ 32°　　答え（ 32° ）

すらすらぷりんと