面積のはかり方と表し方 2 11

◎ マス目の数で広さくらべ

日にち：　　月　　日

名まえ

・次の図形は 1 マスが 1 cm² です。次の問いに答えましょう。

㋐



㋑

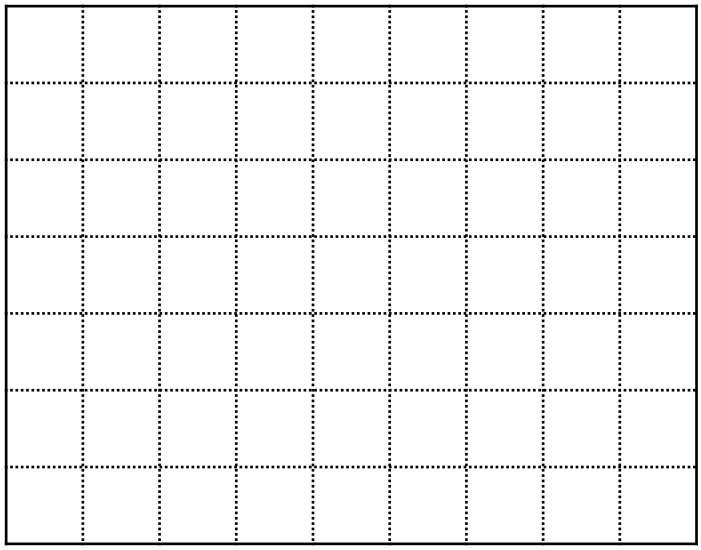

① 図形はそれぞれ何マスですか。

㋐：　　㋑：

② 図形はそれぞれ何cm² ですか。

㋐：　　㋑：

③ どちらが広いでしょう。　　答え：

すらすらぷりんと

面積の はかり方と表し方 2 11

◎ マス目の数で広さくらべ

日にち：　　月　　日

名まえ

・次の図形は 1 マスが 1 cm² です。次の問いに答えましょう。

㋐



㋑

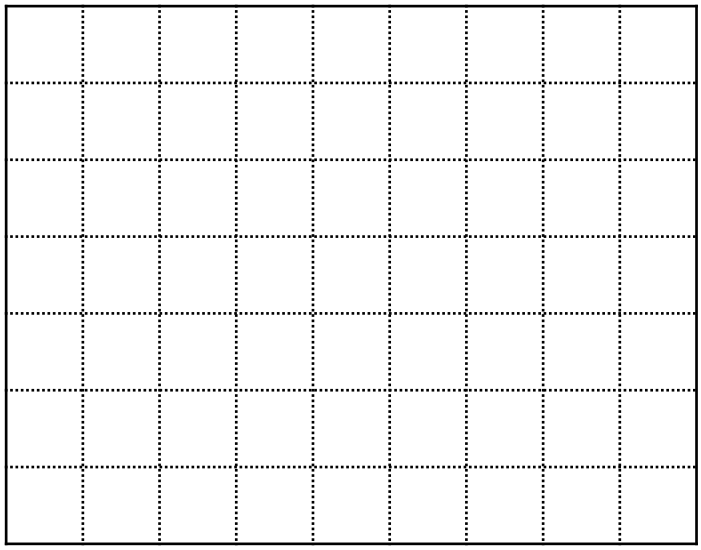

① 図形はそれぞれ何マスですか。

㋐： 56 マス　㋑： 63 マス

② 図形はそれぞれ何cm² ですか。

㋐： 56 cm²　㋑： 63 cm²

③ どちらが広いでしょう。

答え： ㋑

すらすらぷりんと