角の大きさ 15

◎ 三角じょうぎを重ねて作る角度

11

日にち：　　月　　日

名まえ

・三角じょうぎでできる ㋐の角度をもとめましょう。

①

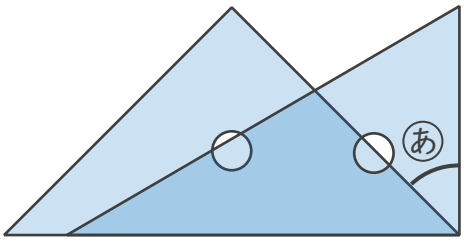

式：

答え（　　）

②

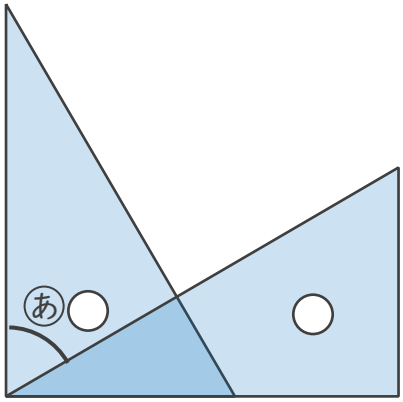

式：

答え（　　）

③

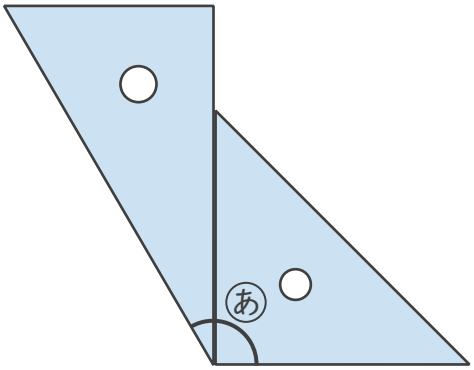

式：

答え（　　）

④

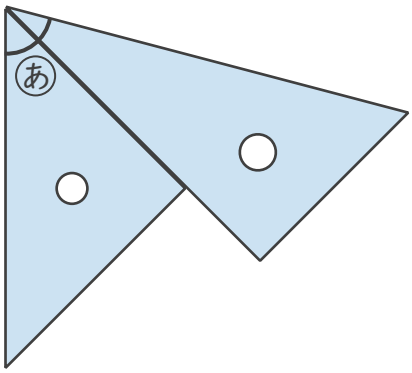

式：

答え（　　）

すらすらぷりんと

角の大きさ 15

◎ 三角じょうぎを重ねて作る角度

11

日にち：　　月　　日

名まえ

・三角じょうぎでできる ㋐の角度をもとめましょう。

①

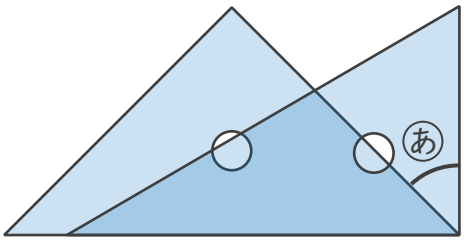

式：$60^\circ - 45^\circ = 45^\circ$

答え（　45°　）

②

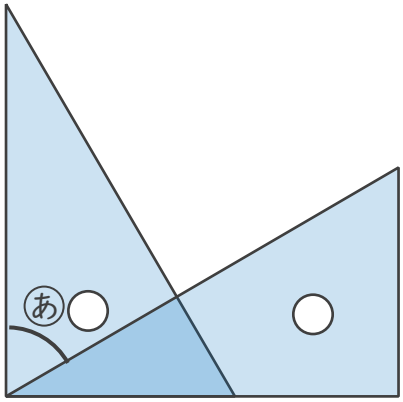

式：$90^\circ - 30^\circ = 60^\circ$

答え（　60°　）

③

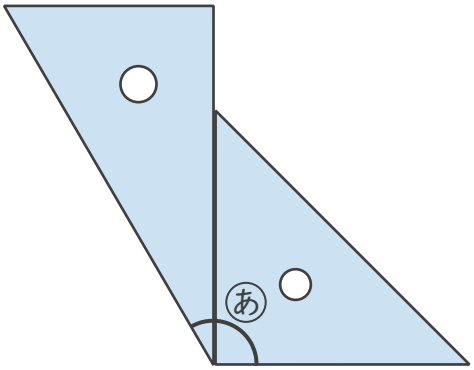

式：$30^\circ + 90^\circ = 120^\circ$

答え（　120°　）

④

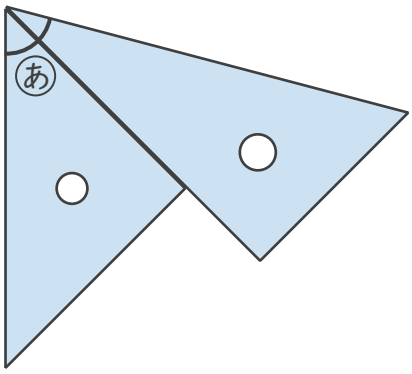

式：$45^\circ + 30^\circ = 75^\circ$

答え（　75°　）

すらすらぷりんと