角の大きさ 10

◉ 反時計回りの角の作図

日にち：　　月　　日

名まえ

1　次の角をかきましょう。

① 45°

② 150°





2　あの角度を、計算で求めましょう。

①

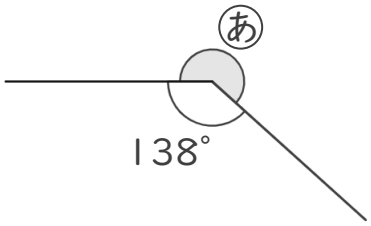

式：　　答え（　　）

②

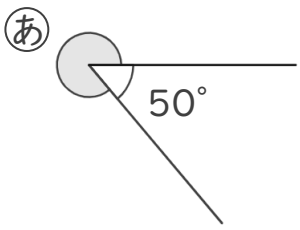

式：　　答え（　　）

すらすらぷりんと

角の大きさ 10

◉ 反時計回りの角の作図

11

日にち：　　月　　日

名まえ

1　次の角をかきましょう。

① 45°

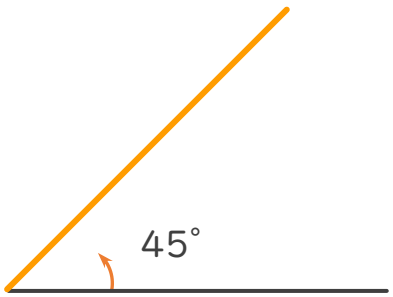

② 150°

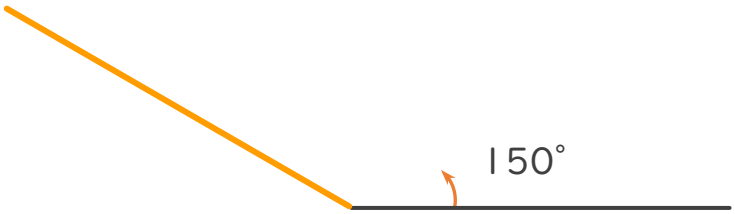

2　あの角度を、計算で求めましょう。

①

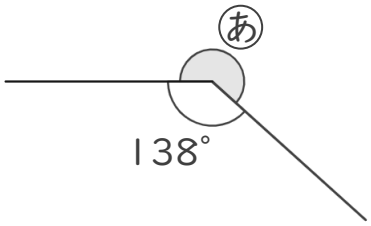

式：360° − 138° ＝ 222°　答え（　222°　）

②

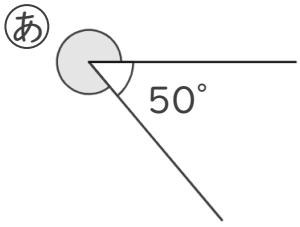

式：360° − 50° ＝ 310°　答え（　310°　）

すらすらぷりんと